ESTADO DE MATO GROSSO DO SUL
MUNICIPIO DE LADÁRIO
SECRETARIA MUNICIPAL DE EDUCAÇÃO
ESCOLA MUNICIPAL FAROL DO NORTE
DELIBERAÇÃO CME/LADÁRIO Nº38/2017 DE 13/11/2017
e-mail: emfaroldonorte@hotmail.com

ATIVIDADES PEDAGÓGICAS COMPLEMENTARES – MÊS MAIO

Apostila VI - 2° Bimestre

Matheus Adoni

Turma: 3° Ano B

Ensino Fundamental I

Retorno das atividades para a Unidade Escolar: 07/06/2021.

Querido(a) aluno(a) estas são nossas atividades. Neste momento difícil, que estamos vivendo, temos que manter o pensamento positivo. Saiba que estamos aqui com saudades e torcendo para que tudo volte ao normal logo.

Realiza as atividades com atenção e capricho.

Professoras: *Zenina de Fátima* – Língua Portuguesa, Matemática, História e Geografia

Gregório Cosme – Arte, Ciências da Natureza e Educação, Cidadania e Direitos Humanos

Thyrso Alvarenga - Educação Física

Com carinho, Os Professores!

ESTADO DE MATO GROSSO DO SUL
MUNICIPIO DE LADÁRIO
SECRETARIA MUNICIPAL DE EDUCAÇÃO
ESCOLA MUNICIPAL FAROL DO NORTE
DELIBERAÇÃO CME/LADÁRIO Nº38/2017 DE 13/11/2017
e-mail: emfaroldonorte@hotmail.com

Professor(a): Zenina de Fátima Turma:3° Ano B Turno: ( ) Mat. (**X**) Vesp. Ensino Fund. I

Atividade referente ao mês de *Maio* – aulas terça-feira (2), quarta-feira e quinta-feira (2).

Quantidade de aulas: 22

Objeto de Conhecimento: Segmentação de palavras/Classificação de palavras por número de sílabas/Morfologia/Conhecimento das diversas grafias do alfabeto.

Habilidades: MS.EF03LP04, MS.EF03LP25 e MS.EF03LP26.

Nome: Matheus Adoni

Componente Curricular: **Língua Portuguesa**

2° Bimestre

*Atividades complementares, parceria Escola e Família no combate ao Novo Coronavírus (COVID-19)

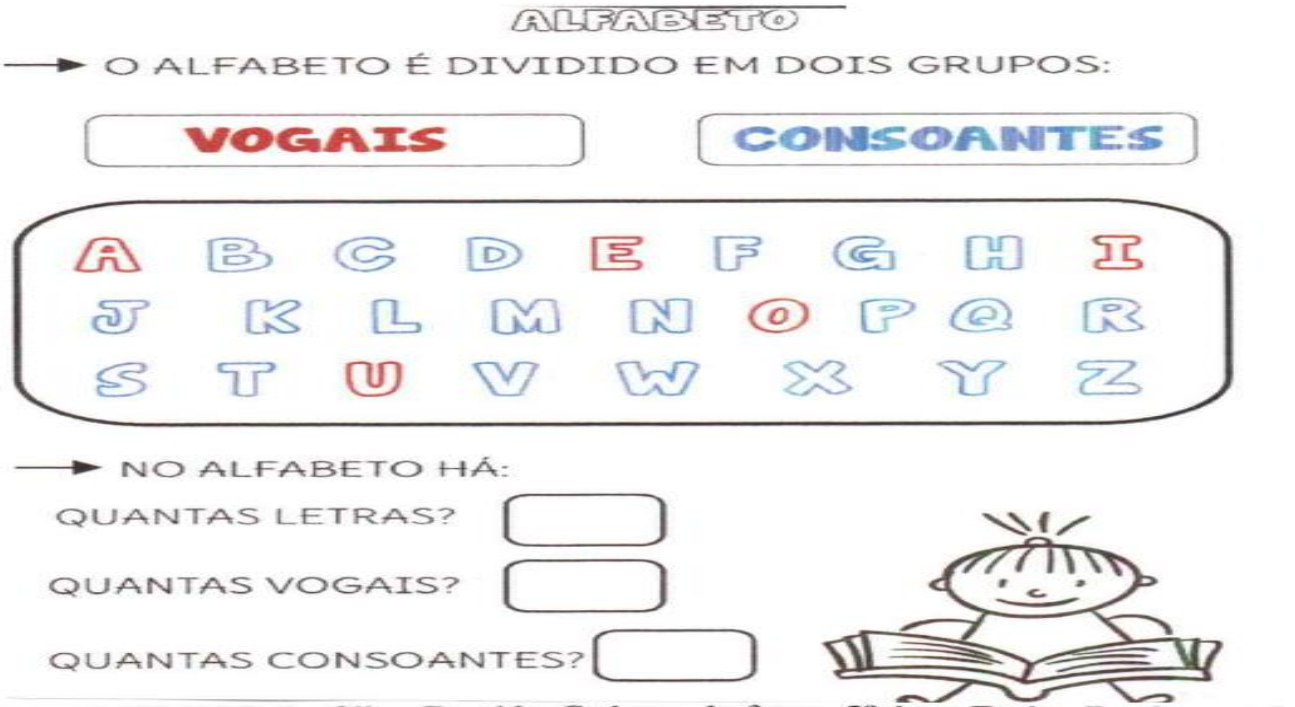

Referência: PASSOS Celia. Silva Zenaide. Caderno do futuro 3º Ano: Ensino Fundamental. 2ª EDIÇÃO. São Paulo: IBEP.2006.

❖Escreva o nome de oito amigos(as), em ordem alfabética:



Disponível em: https://www.educacaoetransformacao.com.br/atividades-de-portugues-3-ano/. Acesso em 06/02/2021.

ESTADO DE MATO GROSSO DO SUL
MUNICIPIO DE LADÁRIO
SECRETARIA MUNICIPAL DE EDUCAÇÃO
ESCOLA MUNICIPAL FAROL DO NORTE
DELIBERAÇÃO CME/LADÁRIO Nº38/2017 DE 13/11/2017
e-mail: emfaroldonorte@hotmail.com

1 – Escreva o nome das figuras.

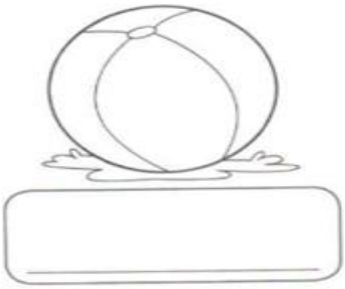






2 - Decifre os códigos.

1	2	3	4	5	6	7	8	9	10	11	12
LAM	LI	VE	PA	GA	LA	LU	XO	A	LO	DA	VA

(2) + (8) = _____

(7) + (12) = _____

(1) + (4) + (11) = _____

(3) + (6) = _____

(5) + (10) = _____

(7) + (9) = _____

3 – Separe as sílabas das palavras.

lobo ☐☐ bola ☐☐ colado ☐☐☐

bala ☐☐ balão ☐☐ cabelo ☐☐☐

cola ☐☐ bule ☐☐ lagosta ☐☐☐

ESTADO DE MATO GROSSO DO SUL
MUNICIPIO DE LADÁRIO
SECRETARIA MUNICIPAL DE EDUCAÇÃO
ESCOLA MUNICIPAL FAROL DO NORTE
DELIBERAÇÃO CME/LADÁRIO Nº38/2017 DE 13/11/2017
e-mail: emfaroldonorte@hotmail.com

Professor(a): Zenina de Fátima Turma:3° Ano B Turno: ( ) Mat. (**X**) Vesp. Ensino Fund. I

Atividade referente ao mês de *Maio* – aulas terça-feira, quarta-feira (2) e quinta-feira. **Quantidade de aulas:** 17

Objeto de Conhecimento: Significado de medidas e de unidade de medidas /Figuras geométricas/Procedimento de cálculo mental e escrita de números naturais/Adição e subtração.

Habilidades: MS.EF03MA05, MS.EF05MA13 e MS.EF05MA16.

Nome: Matheus Adoni

Componente Curricular: **Matemática**

2° Bimestre

*Atividades complementares, parceria Escola e Família no combate ao Novo Coronavírus (COVID-19)

MEDIDAS DE CAPACIDADES EM LITROS

1 Observe e pinte os recipientes de acordo com a legenda.

Azul recipientes em que cabe menos de 1 litro

Vermelho recipientes em que cabe mais de 1 litro



Indicamos 1 litro por: 1 ℓ

Referência: Aprender Juntos: a Alfabetização matemática. 3º Ano: Ensino Fundamental – Anos Iniciais, Organizadora Edições SM: Editora responsável NANI, ANA Paula Souza.4ª EDIÇÃO São Paulo 2014.

- Escreva o nome de produtos líquidos que tem em sua casa.

ESTADO DE MATO GROSSO DO SUL
MUNICIPIO DE LADÁRIO
SECRETARIA MUNICIPAL DE EDUCAÇÃO
ESCOLA MUNICIPAL FAROL DO NORTE
DELIBERAÇÃO CME/LADÁRIO Nº38/2017 DE 13/11/2017
e-mail: emfaroldonorte@hotmail.com

Marque com um X os produtos que costumam ser vendidos em litros.

Leite



Água mineral



Sabão em pedra



Açúcar



Suco



FOTOS: PAULO MANZI/CID

Feijão



Carne



Arroz



Referência: Aprender Juntos: a Alfabetização matemática. 3º Ano: Ensino Fundamental – Anos Iniciais, Organizadora Edições SM: Editora responsável NANI, ANA Paula Souza.4ª EDIÇÃO São Paulo 2014

ESTADO DE MATO GROSSO DO SUL
MUNICIPIO DE LADÁRIO
SECRETARIA MUNICIPAL DE EDUCAÇÃO
ESCOLA MUNICIPAL FAROL DO NORTE
DELIBERAÇÃO CME/LADÁRIO Nº38/2017 DE 13/11/2017
e-mail: emfaroldonorte@hotmail.com

Professor(a): Zenina de Fátima Turma:3° Ano B Turno: ( ) Mat. (**X**) Vesp. Ensino Fund. I

Atividade referente ao mês de *Maio* – aulas terça-feira, quarta-feira (2) e quinta-feira. **Quantidade de aulas:** 17

Nome: Matheus Adoni

Componente Curricular: **Matemática**

2° Bimestre

6. Observe as peças do material dourado e escreva nos quadradinhos quantas unidades eles representam:

DEZENAS	UNIDADES

__ + __ = __

DEZENAS	UNIDADES

__ + __ = __

DEZENAS	UNIDADES

__ + __ = __

DEZENAS	UNIDADES

__ + __ = __

DEZENAS	UNIDADES

__ + __ = __

DEZENAS	UNIDADES

__ + __ = __

DEZENAS	UNIDADES

__ + __ = __

DEZENAS	UNIDADES

__ + __ = __

ESTADO DE MATO GROSSO DO SUL
MUNICIPIO DE LADÁRIO
SECRETARIA MUNICIPAL DE EDUCAÇÃO
ESCOLA MUNICIPAL FAROL DO NORTE
DELIBERAÇÃO CME/LADÁRIO Nº38/2017 DE 13/11/2017
e-mail: emfaroldonorte@hotmail.com

SÓLIDOS GEOMÉTRICOS

1. Pinte os sólidos geométricos.



CUBO



ESFERA

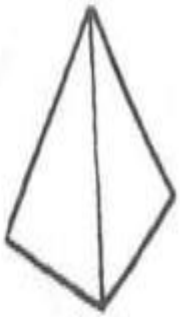

PIRÂMIDE



CONE



CILINDRO

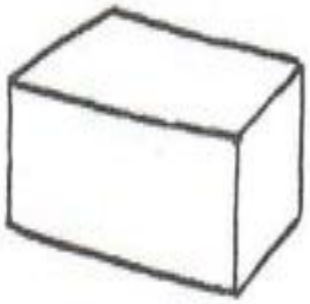

PARALELEPÍPEDO

2. Escreva quais dos sólidos geométricos acima:

a) Rolam com mais facilidade: _____

b) Não rolam com mais facilidade: _____

ESTADO DE MATO GROSSO DO SUL
MUNICIPIO DE LADÁRIO
SECRETARIA MUNICIPAL DE EDUCAÇÃO
ESCOLA MUNICIPAL FAROL DO NORTE
DELIBERAÇÃO CME/LADÁRIO Nº38/2017 DE 13/11/2017
e-mail: emfaroldonorte@hotmail.com

Professor(a): Zenina de Fátima Turma:3° Ano B Turno: ( ) Mat. (**X**) Vesp. Ensino Fund. I

Atividade referente ao mês de *Maio* – 2 aulas segunda-feira **Quantidade de aulas:** 10

Objeto de Conhecimento: A vida em família e os diferentes vínculos e configurações/Libertação da escravatura/Dia das Mães/ Dia do Trabalhador/Meios de comunicação.

Habilidades: MS.EF03HI03 e MS.EF03HI12.

Nome: Matheus Adoni

Componente Curricular: **História**

2° Bimestre

*Atividades complementares, parceria Escola e Família no combate ao Novo Coronavírus (COVID-19)

MINHA FAMÍLIA

1. Pinte a quantidade de quadradinhos correspondente ao número de pessoas que compõem sua família.

2. Desenhe você e seus familiares.

Referência: conectado História, 3º ano: Componente curricular história: ensino fundamental, anos iniciais / Edilson Adão Cândido da Silva, Laercio Furquim Junior – 1. ed. – São Paulo; FTD, 2018

MEUS FAMILIARES

1. Quantas pessoas compõem a sua família?



2. Você tem irmãos? Quantos? Se não tem, gostaria de ter?

3. Qual a sua posição na família? Marque.

- ☐ filho(a) único(a)
- ☐ filho(a) mais velho(a)
- ☐ filho(a) do meio
- ☐ filho(a) caçula
- ☐ filho(a) mais novo(a)
- ☐ tenho irmãos mais novos e irmãos mais velhos

4. Em que momentos sua família se reúne?

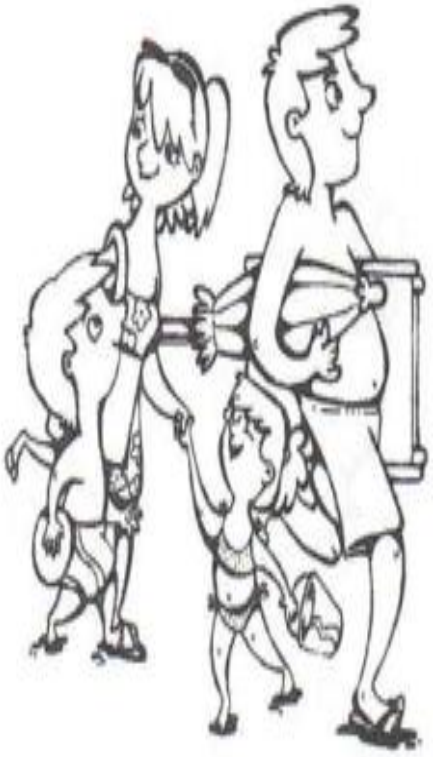

- ☐ durante as refeições
- ☐ realizando passeios
- ☐ na igreja
- ☐ para assistir a programas de TV
- ☐ outro momento. Qual? _____

ESTADO DE MATO GROSSO DO SUL
MUNICIPIO DE LADÁRIO
SECRETARIA MUNICIPAL DE EDUCAÇÃO
ESCOLA MUNICIPAL FAROL DO NORTE
DELIBERAÇÃO CME/LADÁRIO Nº38/2017 DE 13/11/2017
e-mail: emfaroldonorte@hotmail.com

Professor(a): Zenina de Fátima Turma:3° Ano B Turno: ( ) Mat. (**X**) Vesp. Ensino Fund. I

Atividade referente ao mês de *Maio* – 2 aulas segunda-feira **Quantidade de aulas:** 10

Nome: Matheus Adoni

Componente Curricular: **História**

2° Bimestre

QUAL É O TRABALHADOR?

1. Pinte o trabalhador rural, isto é, aquele que trabalha no campo.



2. Anote a primeira letra de cada palavra e forme o nome do trabalhador que cria abelhas para obtenção de mel, cera, própolis etc.



3. Estes profissionais trabalham em um hotel. Observe as imagens e escreva o nome da profissão de cada um.



_____

Escreva o nome do profissional que usa estes materiais ou instrumentos para trabalhar.

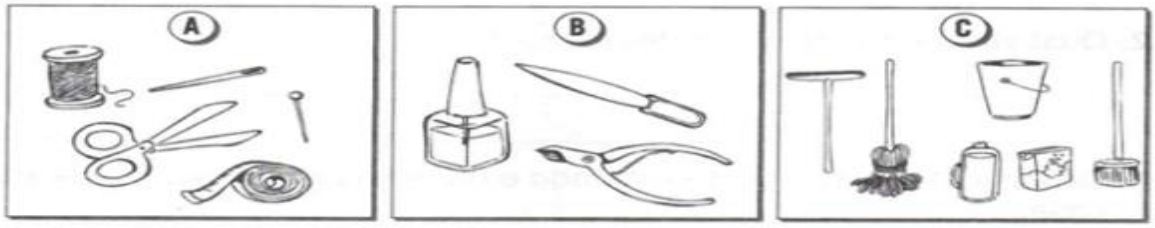

_____ _____ _____

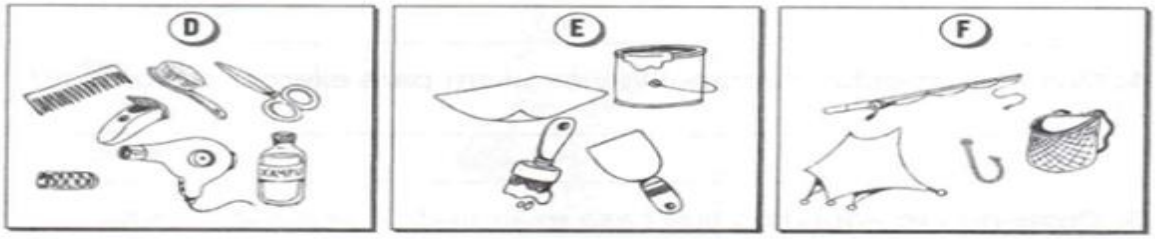

_____ _____ _____

Referência: conectado História, 3º ano: Componente curricular história: ensino fundamental, anos iniciais / Edilson Adão Cândido da Silva, Laercio Furquim Junior – 1. ed. – São Paulo; FTD, 2018.

ESTADO DE MATO GROSSO DO SUL
MUNICIPIO DE LADÁRIO
SECRETARIA MUNICIPAL DE EDUCAÇÃO
ESCOLA MUNICIPAL FAROL DO NORTE
DELIBERAÇÃO CME/LADÁRIO Nº38/2017 DE 13/11/2017
e-mail: emfaroldonorte@hotmail.com

Professor(a): Zenina de Fátima Turma:3° Ano B Turno: ( ) Mat. (**X**) Vesp. Ensino Fund. I

Atividade referente ao mês de *Maio* – 2 aulas sexta-feira **Quantidade de aulas:** 08

Objeto de Conhecimento: A cidade e o campo (continuação)/Meios de transporte/Trânsito/ Dia do Trabalhador/Maio amarelo. **Habilidades:** MS.EF03GE01 e MS.EF03GE11.

Nome: Matheus Adoni

Componente Curricular: **Geografia**

2° Bimestre

*Atividades complementares, parceria Escola e Família no combate ao Novo Coronavírus (COVID-19)

CIDADE E CAMPO



- Vamos conhecer um pouco do município que você mora. Cole abaixo uma foto ou gravura dele.

ESTADO DE MATO GROSSO DO SUL
MUNICIPIO DE LADÁRIO
SECRETARIA MUNICIPAL DE EDUCAÇÃO
ESCOLA MUNICIPAL FAROL DO NORTE
DELIBERAÇÃO CME/LADÁRIO Nº38/2017 DE 13/11/2017
e-mail: emfaroldonorte@hotmail.com

DO CAMPO PARA A CIDADE

Os moradores do campo procuram a cidade para estudar, fazer uma consulta médica, comprar roupas e calçados, ir ao clube se divertir etc. No exemplo a seguir, parte das pessoas que você vê na imagem deste parque de diversões no município de Caldas Novas, em Goiás, é do campo.



Parque de diversões no centro da cidade de Caldas Novas. GO, 2015.



Morador do campo voltando para casa em Pedralva. MG, 2015.

Leia a poesia com atenção.

A roda o homem inventou,
Então o carro de boi criou.
O tempo passou...
E o carro a andar começou.
No bonde muita gente passeou,
Nos céus o avião voou.
Do trem ao metrô eu vou...
O foguete um dia decolou,
E à Lua ele chegou.

Ângela de Lima Brunel Rodrigues.



Circule todos os meios de transporte que aparecem na poesia.

Faça um desenho do último transporte circulado e escreva a seguir o nome da profissão de quem o pilota.





ESTADO DE MATO GROSSO DO SUL
MUNICIPIO DE LADÁRIO
SECRETARIA MUNICIPAL DE EDUCAÇÃO
ESCOLA MUNICIPAL FAROL DO NORTE
DELIBERAÇÃO CME/LADÁRIO Nº38/2017 DE 13/11/2017
e-mail: emfaroldonorte@hotmail.com

Professor(a): Gregório Cosme de Arruda Gomes **Turma:** 3º Ano B **Turno: ( )** Mat. **(X)** Vesp. Ensino Fund. I

Atividade referente ao mês de *Maio* – 2 aulas sexta-feira **Quantidade de aulas:** 08

Objeto de Conhecimento: Artes visuais (Processo de criação) **Habilidade:** (MS.EF15AR03.s.03)

Nome: Matheus Adoni

Componente Curricular: **Arte**

2° Bimestre

*Atividades complementares, parceria Escola e Família no combate ao Novo Coronavírus (COVID-19)

- Dia 01 de maio, comemoramos o dia do Trabalhador.

VAMOS LIGAR CADA PROFISSIONAL AO SEU INSTRUMENTO DE TRABALHO.



QUAIS PROFISSÕES VOCÊ CONHECE? VAMOS FAZER UMA LISTA!

1. _____
2. _____
3. _____
4. _____
5. _____

O que você quer ser quando crescer? Desenhe ou cole uma figura no espaço acima.

- No Brasil, comemora-se o Dia das Mães no segundo domingo de Maio.

Faça um belo colorido, utilizando as cores primárias (amarelo, vermelho e azul) e secundárias (laranja, verde e roxo).



Referência : https://www.grzero.com.br/atividades-para-o-dia-das-maes-educacao-infantil/ e https://educacaoetransformacaooficial.blogspot.com/search/label/Adi%C3%A7%C3%A3o. Acesso em 10/05/2021.

ESTADO DE MATO GROSSO DO SUL
MUNICIPIO DE LADÁRIO
SECRETARIA MUNICIPAL DE EDUCAÇÃO
ESCOLA MUNICIPAL FAROL DO NORTE
DELIBERAÇÃO CME/LADÁRIO Nº38/2017 DE 13/11/2017
e-mail: emfaroldonorte@hotmail.com

Professor(a): Gregório Cosme **Turma:** 3º Ano B **Turno: ( )** Mat. **(X)** Vesp. Ensino Fund. I

Atividade referente ao mês de *Maio* – aulas quarta-feira e quinta-feira **Quantidade de aulas:** 08

Objeto de Conhecimento: Vida e Evolução (Características dos animais)

Habilidades: (MS.EF03CI04.s.04) e (MS.EF03CI05.s.05)

Nome: Matheus Adoni

Componente Curricular: **Ciências**

2° Bimestre

*Atividades complementares, parceria Escola e Família no combate ao Novo Coronavírus (COVID-19)

Conhecendo os animais

Os animais são seres vivos. Eles vivem em ambientes distintos, possuem hábitos alimentares diferentes, assim como sei modo de reprodução e características.

Leia com atenção o quadro abaixo com as características dos animais.

Classes	Características	Reprodução	Alimentação
MAMÍFEROS	Geralmente, têm o corpo coberto de pêlo. A maior parte anda, outros nadam e outros voam.	Nascem no útero da mãe.	Quando são pequenos mamam. Existem mamíferos herbívoros, carnívoros e omnívoros.
RÉPTEIS	Têm o corpo coberto de escamas e alguns têm uma carapaça com placas.	Nascem de ovos.	Todos são carnívoros e caçadores, às vezes também comem vegetais.
PEIXES	Os peixes vivem e respiram dentro da água.	Nascem de ovos.	Alimentam-se de outros peixes mais pequenos ou de substâncias que flutuam na água.
AVES	Têm o corpo coberto de plumas. A maioria voa.	Nascem de ovos.	São omnívoros. Comem folhas, grãos, insectos, caracóis, etc..
INSETOS	Os insetos têm duas antenas e seis patas. Alguns têm asas.	Nascem de ovos.	Alimentam-se de vegetais, ou matéria em decomposição.
ANFÍBIOS ou BATRÁQUIOS	Têm a pele úmida. Os anfíbios vivem na terra e na água.	Nascem de ovos.	Alimentam-se de insectos que capturam com a sua larga língua.

ESTADO DE MATO GROSSO DO SUL
MUNICIPIO DE LADÁRIO
SECRETARIA MUNICIPAL DE EDUCAÇÃO
ESCOLA MUNICIPAL FAROL DO NORTE
DELIBERAÇÃO CME/LADÁRIO Nº38/2017 DE 13/11/2017
e-mail: emfaroldonorte@hotmail.com

MARQUE COM UM X A RESPOSTA CERTA:

ANIMAL QUE POSSUI ESCAMAS:





( ) GALINHA ( ) BOI ( ) PEIXE

ANIMAL QUE POSSUI PELOS:





( ) SARDINHA ( ) CÃO ( ) TARTARUGA

UM ANIMAL COM QUATRO PATAS:





( ) GALO ( ) PATO ( ) GATO

DESENHE UM ANIMAL QUE VIVE NA TERRA.

FAÇA UM LINDO COLORIDO NO ANIMAL QUE MAMA QUANDO PEQUENO.



CIRCULE O ANIMAL QUE PÕE OVOS:



Disponível em: https://pt.slideshare.net/escolabeatriz/caracteristicas-dos-animais-3-ano, https://br.pinterest.com/pin/710513278686700069/ . Acesso em 10/05/2021.

ESTADO DE MATO GROSSO DO SUL
MUNICIPIO DE LADÁRIO
SECRETARIA MUNICIPAL DE EDUCAÇÃO
ESCOLA MUNICIPAL FAROL DO NORTE
DELIBERAÇÃO CME/LADÁRIO Nº38/2017 DE 13/11/2017
e-mail: emfaroldonorte@hotmail.com

Professor(a): Gregório Cosme **Turma:** 3º Ano B **Turno: ( )** Mat. **(X)** Vesp. Ensino Fund. I

Atividade referente ao mês de *Maio* – aulas segunda-feira **Quantidade de aulas:** 05

Objeto de Conhecimento: Educação cidadania (Trabalhando valores) **Habilidade:** (EF02HI02)

Nome: Matheus Adoni

Componente Curricular: **Educação, Cidadania e Direitos Humanos.**

2° Bimestre

*Atividades complementares, parceria Escola e Família no combate ao Novo Coronavírus (COVID-19)

Relacione as figuras com suas respectivas espressões.

1. 

2. 

3 

4. 

a. APRENDA A DIVIDIR

b. DIGA A VERDADE

c. RESPEITE OS OUTROS

d. DIGA OBRIGADO

Referência: https://www.smartkids.com.br. Acesso em 10/05/2021.

ESTADO DE MATO GROSSO DO SUL
MUNICIPIO DE LADÁRIO
SECRETARIA MUNICIPAL DE EDUCAÇÃO
ESCOLA MUNICIPAL FAROL DO NORTE
DELIBERAÇÃO CME/LADÁRIO Nº38/2017 DE 13/11/2017
e-mail: emfaroldonorte@hotmail.com

Professor (a): Thyrso Alvarenga Turma: 3° Ano B Turno: ( ) Mat. (**X**) Vesp. Ensino Fund. I

Atividade referente ao mês de: Maio - aulas na segunda-feira e terça-feira **Quantidade de aulas:** 10

Nome: Matheus Adoni

Objeto de Conhecimento: Corpo, saúde e espaço temporal.

Habilidade: (MS. EF12EF00.n.19) Identificar e reconhecer as partes do corpo e adotar hábitos de higiene e alimentação saudável.

Componente Curricular: **Educação Física**

2° Bimestre

Nosso corpo tem várias partes que usamos para as atividades e brincadeiras que fazemos todo dia. Cada uma delas tem uma função muito importante. As partes do nosso corpo permitem que a gente corra para brincar de pique - esconde pular e contar os números da amarelinha, ouvir as palavras do telefone sem-fio, brincar com a massinha e o slime, chutar a bola no futebol. Viu só quanta coisa nosso corpo faz pela gente? Nosso corpo é dividido em **três partes**: a cabeça, o tronco e os membros.

Vamos aprender o que cada um deles faz e como ele ajuda nas brincadeiras.



A cabeça tem as partes do corpo que nos ajuda a sentir os sabores, a falar, a ouvir e a cheirar as coisas, A cabeça é o lugar onde temos os órgãos que nos ajudam a sentir diversas coisas. Os olhos ajudam a ver tudo, pois ele registra as imagens que enxergamos, e melhor ainda, tudo colorido!

Cada um de nós tem o olho de uma cor diferente, você já percebeu que algum dos nossos amiguinhos tem o olho azul, outro tem olho verde ou castanho? Mas isso não muda as cores que eles vêem. O nariz ajuda a gente a respirar e a sentir os cheiros. Quando sentimos um cheiro bom, como um bolo assando no forno, respiramos fundo, não é verdade? Agora se o cheiro for ruim, tampamos o nariz para não sentir nada. Nossa **boca** serve para mastigar os alimentos e sentir o sabor das comidinhas que comemos tudo pra ajudar a gente a crescer forte. Quando escutamos algum barulho significa que nosso **ouvido** está bem, pois é ele que faz a gente ouvir as músicas, nossos colegas, os desenhos que assistimos a professora, e tantos outros sons.

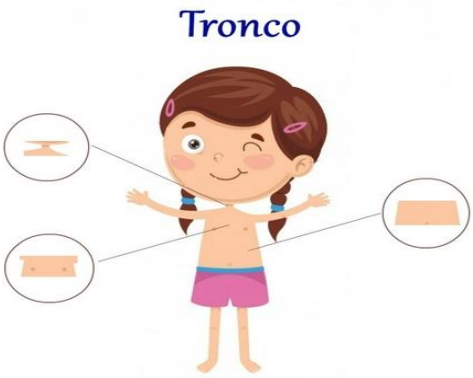

No tronco estão os órgãos que nos ajudam a respirar
O tronco é o lugar onde fica os órgãos que fazem nosso corpo funcionar tão bem. O pescoço é a parte que segura a cabeça ao corpo. É no pescoço que fica nossa garganta e por onde passa a comida que comemos; No peito fica o pulmão, que ajuda na nossa respiração. Também é no peito que temos órgãos que começam a receber tudo que engolimos. Além disso, é o lugar onde fica nosso coração, na barriga estão outros órgãos que recebem tudo que comemos. É um longo caminho que a comida faz, viu só?

ESTADO DE MATO GROSSO DO SUL
MUNICIPIO DE LADÁRIO
SECRETARIA MUNICIPAL DE EDUCAÇÃO
ESCOLA MUNICIPAL FAROL DO NORTE
DELIBERAÇÃO CME/LADÁRIO Nº38/2017 DE 13/11/2017
e-mail: emfaroldonorte@hotmail.com

Os membros são as partes do nosso corpo que ajudam a gente a se mover, a correr, a pular, a brincar.



Nós temos os **membros superiores**, que são os braços e as mãos. Eles ficam mais perto da parte de cima do nosso corpo, perto do peito e da barriga.
E temos também temos os **membros inferiores**, que são as pernas e os pés. Eles nos ajudam nas brincadeiras de correr, de pular e também quando precisamos subir em algum lugar.
Viu só como nosso corpo tem várias partes? Cada um tem uma função diferente que nos ajuda em várias coisas que fazemos.

ATIVIDADE 01

Escreva nos retângulos, o nome das partes do corpo humano.



Disponível em: https://fefd.ufg.br/n/125622-fefd-ufg-lanca-material-com-sugestoes-para-brincar-e-aprender-em-periodo-de-quarentena. Acesso 24/04/2021.
https://www.todamateria.com.br/partes-corpo-humano-kids/. Acesso 26/04/2021.