ESCOLA MUNICIPAL PROFESSOR JOÃO BAPTISTA
PROFESSORA: JUCENIR LOPES BRAGA
TURMA: 3º ANO A
ENSINO: FUNDAMENTAL 1 TURNO:MATUTINO
ALUNO:_____.
COMPONENTE CURRICULAR: LÍNGUA PORTUGUESA
PERÍODO:01/04 a 15/04/2021
QUANTIDADE DE AULA: 10 AULAS

OBJETO DO CONHECIMENT0: Construção do sistema alfabético; Convenção da escrita

HABILIDADES-EF02LP01; EF02LP02

Música



Fui no tororó beber água não achei, achei linda morena que no Tororó deixei. Oh, Aninha. Oh, Aninhazinha, entra nesta roda ou ficará sozinha.

1. Faça o que se pede na cantiga acima:
   - Pinte de vermelho todas as letras **A**.
   - Faça um risco abaixo das letras **A** maiúsculas.
2. Na cantiga há o nome de uma bebida, encontre-a no caça-palavras abaixo.



Q	W	R	T	Y	U	K	W	L	Y
C	Á	G	U	A	H	J	K	Z	X
Y	X	K	N	R	T	N	X	C	V
N	O	F	U	Q	Z	X	C	B	N
N	B	R	M	Ç	L	K	J	M	W
W	J	S	T	U	P	K	B	X	Q



3. Escreva o nome que você encontrou.

Agora copie a música fui no tororó bem bonitinho com letra cursiva

https://www.google.com/search?q=musica+com+letra+cursiva+exercicios+3+ano+fui+no+tororo

Rua Saldanha da Gama, 2.245 – Bairro: Alm. Tamandaré - CEP 79.370-000 – Cx. Postal 04 – Ladário (MS) – Tel. (067) 3226-1436
Endereço Eletrônico: escolajoaobaptista2013@gmail.com ou empjoaobaptista@yahoo.com

ESCOLA MUNICIPAL PROFESSOR JOÃO BAPTISTA
PROFESSORA: JUCENIR LOPES BRAGA
TURMA: 3º ANO A
ENSINO: FUNDAMENTAL 1 TURNO:MATUTINO
ALUNO:_____.
COMPONENTE CURRICULAR: LÍNGUA PORTUGUESA
PERÍODO: 01/04 a 15/04/2021
QUANTIDADE DE AULA:10 AULAS

OBJETO DO CONHECIMENT0: Construção do sistema alfabético; Convenção da escrita

HABILIDADES- EF02LP01; EF02LP0;



Agora copie o texto Laura e a arara bem bonitinho com letra cursiva

Rua Saldanha da Gama, 2.245 – Bairro: Alm. Tamandaré - CEP 79.370-000 – Cx. Postal 04 – Ladário (MS) – Tel. (067) 3226-1436
Endereço Eletrônico: escolajoaobaptista2013@gmail.com ou empjoaobaptista@yahoo.com

ESCOLA MUNICIPAL PROFESSOR JOÃO BAPTISTA
PROFESSORA: JUCENIR LOPES BRAGA
TURMA: 3º ANO A
ENSINO: FUNDAMENTAL 1 TURMATUTINO
ALUNO:_____.
COMPONENTE CURRICULAR: LÍNGUA PORTUGUESA
PERÍODO: 01/04 a 15/04/2021
QUANTIDADE DE AULA:10 AULAS

OBJETO DO CONHECIMENT0:
HABILIDADES-EF03LP26

ESCREVA O NOME DAS FIGURAS ABAIXO:

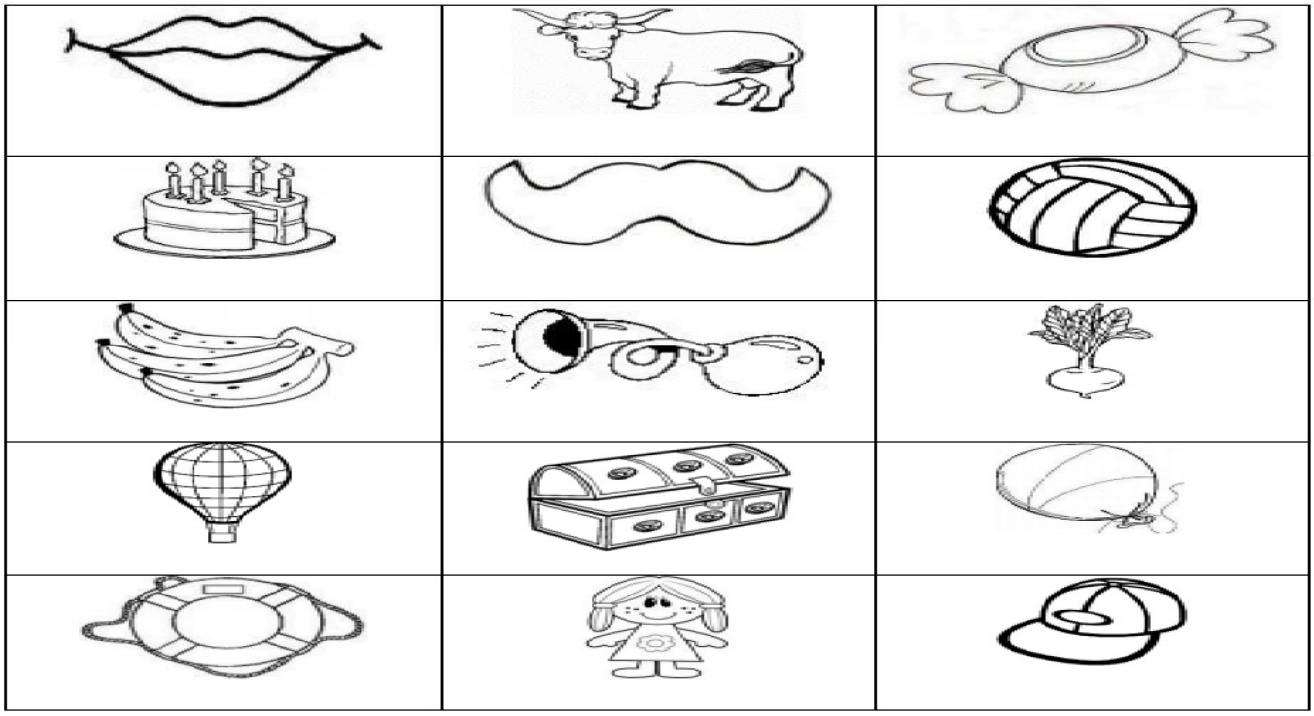



https://www.google.com/search?q=auto+ditado+de+desenhos+3+ano

Rua Saldanha da Gama, 2.245 – Bairro: Alm. Tamandaré - CEP 79.370-000 – Cx. Postal 04 – Ladário (MS) – Tel. (067) 3226-1436
Endereço Eletrônico: escolajoaobaptista2013@gmail.com ou empjoaobaptista@yahoo.com

ESCOLA MUNICIPAL PROFESSOR JOÃO BAPTISTA
PROFESSORA: JUCENIR LOPES BRAGA
TURMA: 3º ANO A
ENSINO: FUNDAMENTAL 1 TURNO:MATUTINO
ALUNO:_____.
COMPONENTE CURRICULAR: LÍNGUA PORTUGUESA
PERÍODO01/04 A 15/04/2021
QUANTIDADE DE AULA :10 AULAS

Objeto de conhecimento;desenvolvimento da habilidade de ler de forma autonoma
Habilidade; ms EF15LPO1
LEIA COM ATENÇÃO



lua	ela	cola
bala	leão	bula
lobo	mala	Ele
aula	baleia	Lia
Leila	cabelo	Bola
balão	lei	Bule



maluco	mola	comeu
ameba	melão	mula
moeda	mala	mão
limão	Mila	mia
macaco	Mayla	melado
médico	maca	cama

COPIE AS PALAVRAS COM LETRA CURSIVA

F J

https://www.slidhare.net?michellesousa 10/ficha-leitura-silabas-simpes

ESCOLA MUNICIPAL PROFESSOR JOÃO BAPTISTA
PROFESSORA: JUCENIR LOPES BRAGA.
TURMA: 3º ANO A
ENSINO: FUNDAMENTAL 1 TURNO:MATUTINO
ALUNO:_____.
COMPONENTE CURRICULAR: MATEMÁTICA
PERÍODO: 01/04 a 15/04/2021
QUANTIDADE DE AULAS: 8 AULAS

Objeto de Conhecimento CONSTRUIR E UTILIZAR FATOS BÁSICOS DA ADIÇÃO
Habilidades: MSEF3MA03

3-RESOLVA AS ADIÇÕES E SUBTRAÇÕES.

D	U	D	U	D	U	D	U	D	U
+ 1	0	+ 3	5	+ 1	9	+ 5	1	+ 8	0
2	5	2	3	8	0	3	5	1	7
D	U	D	U	D	U	D	U	D	U
− 8	7	− 7	5	− 6	9	− 5	1	− 4	8
2	5	2	3	3	8	3	0	1	7

4-LIGUE O NOME À FIGURA GEOMÉTRICA:

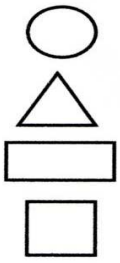

QUADRADO
TRIÂNGULO
CÍRCULO
RETÂNGULO

5-ESCREVA POR EXTENSO:

72-_____ 41-_____

3 2-_____ 8 3-_____

6-LIGUE OS NOMES AOS NÚMEROS CORRESPONDENTES:

CINQUENTA E TRÊS
NOVENTA E DOIS
OITENTA E NOVE
VINTE E DOIS
NOVENTA E SETE

89
22
97
92
53



7-COMPLETE COM O SUCESSOR E COM O ANTECESSOR:

_____34 _____ _____56_____ _____79 _____

_____86_____ _____44_____ _____50_____

ESCOLA MUNICIPAL PROFESSOR JOÃO BAPTISTA
PROFESSORA: JUCENIR LOPES BRAGA.
TURMA: 3º ANO A
ENSINO: FUNDAMENTAL 1 TURNO:MATUTINO
ALUNO:_____.
COMPONENTE CURRICULAR: MATEMÁTICA
PERÍODO: 01/04 a 15/04/2021
QUANTIDADE DE AULAS: 8 AULAS

Objeto de Conhecimento CONSTRUIR E UTILIZAR FATOS BÁSICOS DA ADIÇÃO
Habilidades: MSEF3MA03

3 – Qual é o número?

a) 3 dezenas e 4 unidades = _____
b) 8 dezenas = _____
c) 6 unidades = _____
d) 2 dezenas e 7 unidades = _____
e) 5 dezenas = _____
f) 7 dezenas e 9 unidades = _____

4 – Dê o antecessor e o sucessor dos números do quadro:

	36	
	108	
	49	
	10	
	234	
	163	

	19	
	12	
	8	
	41	
	69	
	11	

5 – Escreva os números abaixo por extenso:

a) 16 - _____
b) 19 - _____
c) 26 - _____
d) 73 - _____
e) 38 - _____
f) 63 - _____
g) 45 - _____

ESCOLA MUNICIPAL PROFESSOR JOÃO BAPTISTA
PROFESSORA: JUCENIR LOPES BRAGA.
TURMA: 3º ANO A
ENSINO: FUNDAMENTAL 1 TURNO:MATUTINO
ALUNO:_____.
COMPONENTE CURRICULAR: MATEMÁTICA
PERÍODO: 01/04 a 15/04/2021
QUANTIDADE DE AULAS: 8 AULAS

Objeto de Conhecimento CONSTRUIR E UTILIZAR FATOS BÁSICOS DA ADIÇÃO
Habilidades: MSEF3MA03

Para indicar ordem, posição ou lugar, usamos os numerais ordinais. Conheça os numerais ordinais até 10º.

1º → primeiro	6º → sexto
2º → segundo	7º → sétimo
3º → terceiro	8º → oitavo
4º → quarto	9º → nono
5º → quinto	10º → décimo



1) Veja a posição das formiguinhas e continue a numerá-las segundo a ordem que ocupam.



2) Eu já liguei a 1ª formiga à 3ª. Continue ligando de acordo com o que se pede.
- **a)** A 5ª formiga à 7ª formiga.
- **b)** A 7ª formiga à 9ª formiga.

3) Desenhe o que se pede nas formiguinhas:
- **a)** Uma folha na 6ª formiguinha;
- **b)** Um chapéu na cabeça da 4ª formiguinha;
- **c)** Um laço na cabeça da 9ª formiguinha.

Educação é Transformação

ESCOLA MUNICIPAL PROFESSOR JOÃO BAPTISTA
PROFESSORA: JUCENIR LOPES BRAGA.
TURMA: 3º ANO A TURNO MATUTINO
ENSINO: FUNDAMENTAL 1
ALUNO:_____.
COMPONENTE CURRICULAR: GEOGRAFIA
PERÍODO: 01/04 a 15/04/2021
QUANTIDADE DE AULA:2 AULAS

Objetivo de conhecimento:A CIDADE E O CAMPO
Habilidades:MSEF03GE01

MINHA CIDADE



ESCOLA MUNICIPAL PROFESSOR JOÃO BAPTISTA
PROFESSORA: JUCENIR LOPES BRAGA.
TURMA: 3º ANO A TURNO MATUTINO
ENSINO: FUNDAMENTAL 1
ALUNO:_____.
COMPONENTE CURRICULAR: GEOGRAFIA
PERÍODO: 01/04 a 15/04/2021
QUANTIDADE DE AULA:2 AULAS

Objetivo de conhecimento:A CIDADE E O CAMPO
Habilidades:MSEF03GE01



DESENHE UM LUGAR QUE VOCÊ GOSTA DA SUA CIDADE

br.pinterest.com Atividade adaptada professoras Jucenir e Fabiane

ESCOLA MUNICIPAL PROFESSOR JOÃO BAPTISTA
PROFESSORA: JUCENIR LOPES BRAGA.
TURMA: 3º ANO A TURNO MATUTINO
ENSINO: FUNDAMENTAL 1
ALUNO:_____.
COMPONENTE CURRICULAR: HISTORIA
PERÍODO: 01/04 a 15/04/2021
QUANTIDADE DE AULA:4 AULAS

Objetivo de conhecimento: grupos que compoem a cidade e o municipio- Meios de transportes
Habilidades: MS.EF03HI01

Questão

Os meios de transporte permitem às pessoas se locomoverem de um lugar para o outro.
Eles podem ser terrestres, aéreos e marítimos.

- Classifique os meios de transporte, numerando de acordo com a legenda:

1 Terrestre 2 Marítimos 3 Aéreos

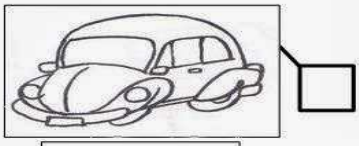

Carro

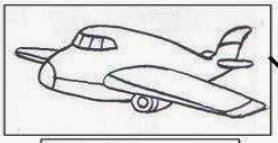

Avião

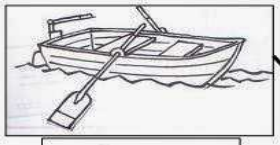

Barco



Ônibus



Navio

Questão

Os meios de transportes coletivos levam muitos passageiros.
Geralmente, as pessoas têm de pagar a passagem.

- Com base na questão anterior, responda as questões abaixo:

a) Quais são os meios de transportes coletivos?

_____

b) Você já utilizou algum transporte coletivo? Qual?

_____

https://www.google.com/search?q=atividade++exercicios3+ano+1+bimestre++historia+meios+de+transportes

ESCOLA MUNICIPAL PROFESSOR JOÃO BAPTISTA
PROFESSORA: JUCENIR LOPES BRAGA
TURMA: 3º ANO A
ENSINO: FUNDAMENTAL 1 TURNO:MATUTINO
ALUNO:_____.
COMPONENTE CURRICULAR: HISTORIA
PERÍODO: 01/04 a 15/04/2021
QUANTIDADE DE AULA: 4 AULAS

Objetivo de conhecimento: GRUPOS QUE COMPÕEM A CIDADE E O MUNICÍPIO meios de transportes
HabilidADES:MS.EF03HI01

1- Circule e pinte os meios de transporte que levam muitas pessoas de uma vez:



2- Associe corretamente cada letra abaixo ao tipo de meio de transporte.

T Terrestre A Aéreo M Marítimo

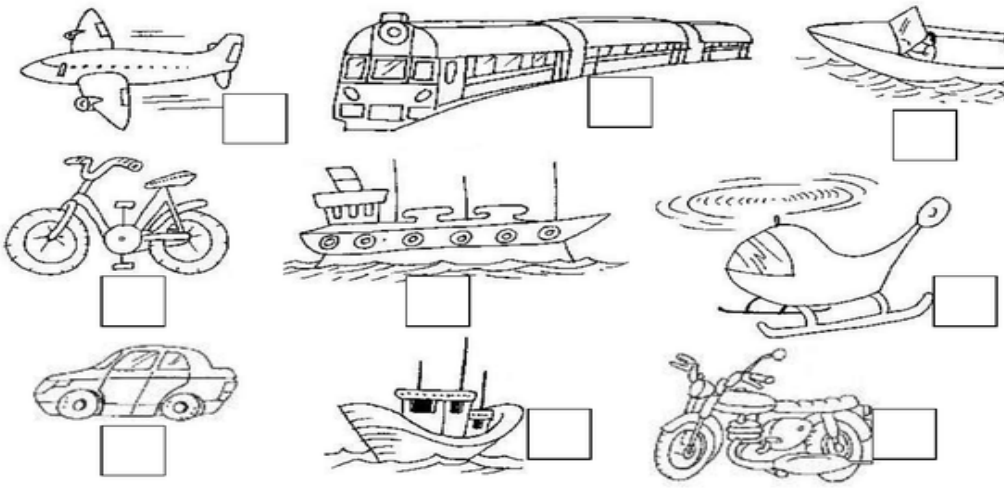

3- Pinte corretamente o semáforo abaixo e escreva o que significa cada cor.

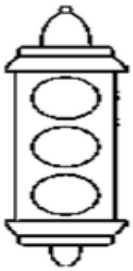

_____

_____

_____

https://www.google.com/search?q=atividade++exercicios3+ano+1+bimestre++historia+meios+de+transportes