ESCOLA MUNICIPAL PROFESSOR JOÃO BAPTISTA
PROFESSORA: FABIANE PINTO DE ALMEIDA.
TURMA: 3º ANO B
ENSINO: FUNDAMENTAL 1 TURNO VESPERTINO
ALUNO:_____.
COMPONENTE CURRICULAR: MATEMÁTICA
PERÍODO:10/02 A 26/02/2021
QUANTIDADE DE AULAS: 07 AULAS

Objetivo de conhecimento: Contagem de rotina.Contagem ascendente e descendente;Reconhecimento de números no contexto diário: quantidades,indicação de ordem ou código para organização de informações; Leitura, escrita e comparação de números naturais;Construção de fatos básicos da adição e subtração;Problemas envolvendo diferentes; significados da adição e subtração
Habilidades: EF02MA01. EF02MA02. EF02MA03. EF02MA05. EF02MA06. EF02MA07;EF02MA10 ;EF02MA11;EF02MA16;0

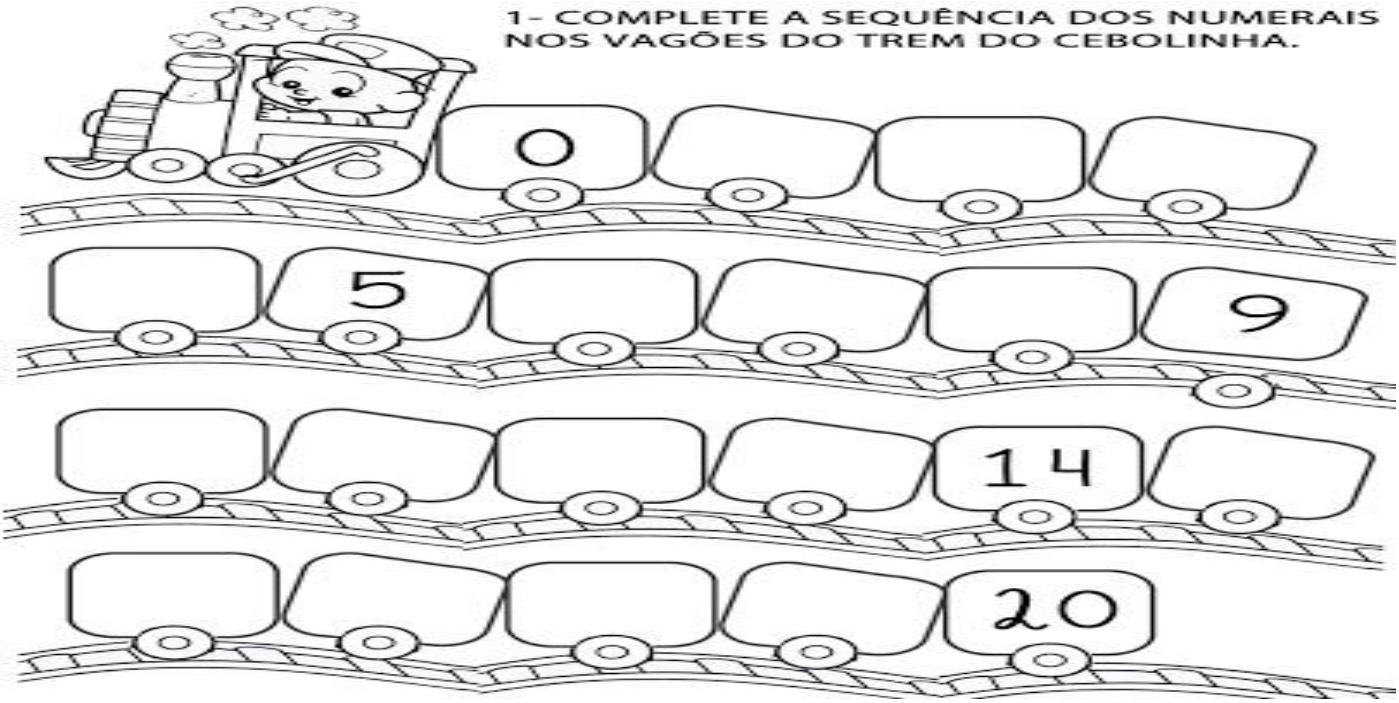

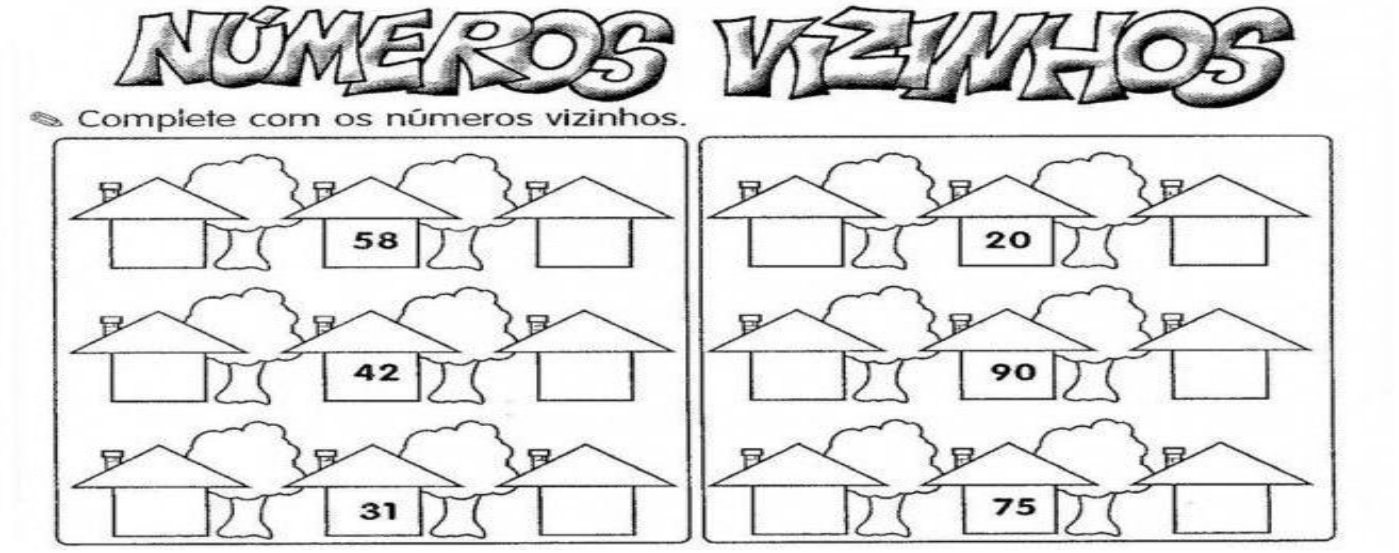

ESCOLA MUNICIPAL PROFESSOR JOÃO BAPTISTA
PROFESSORA: FABIANE PINTO DE ALMEIDA
TURMA: 3º ANO B
ENSINO: FUNDAMENTAL 1 TURNO:VESPERTINO
ALUNO:_____.
COMPONENTE CURRICULAR: MATEMÁTICA
PERÍODO: 10/02 A 26/02/2021
QUANTIDADE DE AULAS: 07 AULAS

Objetivo de conhecimento: Contagem de rotina.Contagem ascendente e descendente;Reconhecimento de números no contexto diário: quantidades,indicação de ordem ou código para organização de informações; Leitura, escrita e comparação de números naturais;Construção de fatos básicos da adição e subtração;Problemas envolvendo diferentes; significados da adição e subtração
Habilidades: EF02MA01. EF02MA02. EF02MA03. EF02MA05. EF02MA06. EF02MA07;EF02MA10 ;EF02MA11;EF02MA16;

VAMOS RESOLVER OS PROBLEMINHAS

1) MARA SERVIU  NO ALMOÇO DO SEU COELHINHO. ELE COMEU 2 CENOURAS.
SOBROU ALGUMA CENOURA? ☐ SIM ☐ NÃO
QUANTAS? _____

DESENHO	OPERAÇÃO	RESPOSTA
	_____ – _____ = _____	SOBROU ____ CENOURA.

2) NO ZOOLÓGICO HAVIA  . MAS 2 DELES FORAM PARA O CIRCO. QUANTOS ELEFANTES RESTARAM NO ZOOLÓGICO?

DESENHO	OPERAÇÃO	RESPOSTA
	_____ – _____ = _____	AINDA RESTARAM ____ ELEFANTES.

3) EM UM AQUÁRIO HAVIA  . PEDRO DEU 2 PEIXINHOS À SUA PRIMA. COM QUANTOS PEIXINHOS PEDRO FICOU?

DESENHO	OPERAÇÃO	RESPOSTA
	_____ – _____ = _____	PEDRO FICOU COM____ PEIXES.



ESCOLA MUNICIPAL PROFESSOR JOÃO BAPTISTA
PROFESSORA: FABIANE PINTO DE ALMEIDA
TURMA: 3º ANO B
ENSINO: FUNDAMENTAL 1 TURNO:VESPERTINO
ALUNO:_____.
COMPONENTE CURRICULAR: MATEMÁTICA
PERÍODO: 10/02 A 26/06/2021
QUANTIDADE DE AULAS: 07 AULAS

Objetivo de conhecimento: Contagem de rotina.Contagem ascendente e descendente;Reconhecimento de números no contexto diário: quantidades,indicação de ordem ou código para organização de informações; Leitura, escrita e comparação de números naturais;Construção de fatos básicos da adição e subtração;Problemas envolvendo diferentes; significados da adição e subtração
Habilidades: EF02MA01. EF02MA02. EF02MA03. EF02MA05. EF02MA06. EF02MA07;EF02MA10 ;EF02MA11;EF02MA16;

QUEM VEM ANTES E QUEM VEM DEPOIS?



○ 25 ○			○ 22 ○	
○ 62 ○			○ 35 ○	
○ 89 ○			○ 55 ○	
○ 29 ○			○ 91 ○	

I. VAMOS EFETUAR CÁLCULO MENTAL?

2 +	2	1	5	6	8
3 +	1	2	4	3	6
4 +	3	1	5	2	0
5 +	0	4	3	1	5
1 +	1	6	8	4	2

ESCOLA MUNICIPAL PROFESSOR JOÃO BAPTISTA
PROFESSORA: FABIANE PINTO DE ALMEIDA
TURMA: 3º ANO B
ENSINO: FUNDAMENTAL 1 TURNO:VESPERTINO
ALUNO:_____.
COMPONENTE CURRICULAR: MATEMÁTICA
PERÍODO: 10/02 A 26/06/2021
QUANTIDADE DE AULAS: 07AULAS

Objetivo de conhecimento: Contagem de rotina. Contagem ascendente e descendente ; Reconhecimento de números no contexto diário: quantidades ,indicação de ordem ou código para organização de informações; Leitura, escrita e comparação de números naturais ;Construção de fatos básicos da adição e subtração ;Problemas envolvendo diferentes; significados da adição e subtração Habilidades: EF02MA01. EF02MA02. EF02MA03. EF02MA05. EF02MA06. EF02MA07 ; EF02MA10 ;EF02MA11;EF02MA16;

Preencha a sequencia numérica dos números





https://www.google.com/search?q=sequencia+numerica+3+ano