ESCOLA MUNICIPAL PROFESSOR JOÃO BAPTISTA
COMPONENTE CURRICULAR: **CIÊNCIAS DA NATUREZA**
PROF.: LETICIA TAVARES PIERRI **CADERNO 06**
ENSNO FUNDAMENTAL I - SÉRIES INICIAIS **SÉRIE: 4° ANO TURMA: A**
ATIVIDADE PEDAGÓGICA COMPLEMENTAR - **PERÍODO ; 03/05/2021 á 14/05/2021. 2° BIM**
COMPETÊNCIAS E HABILIDADES: (MS.EF04CI10.s.10) Comparar as indicações dos pontos cardeais resultantes da observação das sombras de uma vara (gnômon) com aquelas obtidas por meio de uma bússola.

ALUNO(A): _____

ATIVIDADE 01:

Anote os pontos cardeais nesta imagem.



Retome a ilustração acima e responda. Estendendo o braço direito na direção em que nasce o Sol, temos:

a) à direita, o _____

b) à esquerda, o _____

c) à frente, o _____

d) atrás, o_____

Durante a noite, é possível localizar os pontos cardeais por meio:

☐ da Lua ☐ das nuvens

☐ do Cruzeiro do Sul ☐ do Sol

O Cruzeiro do Sul é uma constelação em forma de cruz. A ponta inferior desse conjunto de estrelas sempre indica o:

☐ norte ☐ sul

☐ leste ☐ oeste



ESCOLA MUNICIPAL PROF. JOÃO BAPTISTA
COMPONENTE CURRICULAR: **CIÊNCIAS DA NATUREZA**
PROF.: LETICIA TAVARES PIERRI
ENSNO FUNDAMENTAL I - SÉRIES INICIAIS **SÉRIE: 4° ANO TURMA: A**
4ATIVIDADE PEDAGÓGICA COMPLEMENTAR - **PERÍODO : 03/05/2021 á 14/05/2021. 2° BIM.**
COMPETÊNCIAS E HABILIDADES: (MS.EF04CI11.s.11) Associar os movimentos cíclicos da Lua e da Terra a períodos de tempo regulares e ao uso desse conhecimento para a construção de calendários em diferentes culturas.

ATIVIDADE 02:

1) Complete com as palavras do quadro.

Translação - Terra - rotação



Este é o nosso planeta

A Terra gira em torno de si mesma, é o movimento de
.....

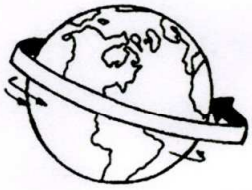

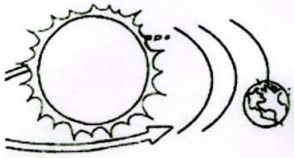

A Terra gira ao redor do Sol, é o movimento de
.....

2) Marque um x somente nas frases que estão corretas.

( ) A Lua gira ao redor da Terra.

( ) O Sol é um planeta e não tem luz própria.

( ) A Terra recebe luz e calor do sol.

( ) Toda estrela tem luz própria.

3) No centro do sistema solar esta

( ) A Lua

( ) O Sol

( ) A Terra