ESCOLA MUNICIPAL PROFESSOR JOÃO BAPTISTA.
NOME:_____.
ANO / FASE: 4º TURMA: A BIMESTRE: 1º.
PROFESSOR (A): LEIDE LAURA .

AVALIAÇÃO DIAGNÓSTICA DE PORTUGUÊS – 4º ano

NOME DA GENTE

POR QUE É QUE EU ME CHAMO ISSO E NÃO ME CHAMO AQUILO? POR QUE É QUE O JACARÉ NÃO SE CHAMA CROCODILO?

EU NÃO GOSTO DO MEU NOME, NÃO FUI EU QUEM ESCOLHEU. EU NÃO SEI PORQUE SE METEM COM UM NOME QUE É SÓ MEU!

O NENÊ QUE VAI NASCER VAI CHAMAR COMO O PADRINHO, VAI CHAMAR COMO O VOVÔ, MAS NINGUÉM VAI PERGUNTAR O QUE PENSA O COITADINHO.

FOI MEU PAI QUEM DECIDIU QUE O MEU NOME FOSSE AQUELE. ISSO SÓ SERIA JUSTO SE EU ESCOLHESSE O NOME DELE!

QUANDO EU TIVER UM FILHO, NÃO VOU PÔR NOME NENHUM. QUANDO ELE FOR BEM GRANDE, ELE QUE PROCURE UM!

BANDEIRA, PEDRO. CAVALGANDO O ARCO-ÍRIS, 3 ED. SÃO PAULO: MODERNA, 2003 . P. 12-13

QUESTÕES

1) QUAL É O TÍTULO DO TEXTO?

_____

2) QUEM É O AUTOR?

_____

3) QUAL É O ASSUNTO PRINCIPAL DO TEXTO?

_____

4) ESCREVA SEU PRIMEIRO NOME E RESPONDA.



A) QUAL É A PRIMEIRA LETRA?_____

B) QUAL É A ÚLTIMA LETRA? _____

C) QUAL É O TOTAL DE LETRAS? _____

D) CIRCULE SOMENTE AS VOGAIS QUE APARECEM NO SEU NOME.

A) VOCÊ SABE COMO SE ESCREVE O SEU NOME COMPLETO?

_____

_____

_____

5) COMPLETE O ALFABETO.

	B		**D**		
G		**I**		**K**	
M		**O**			**R**
	T				**X**
Y					

6) ESCREVA A SILANA INICIAL DAS IMAGENS ABAIXO.



7) MARQUE A PRIMEIRA SÍLABA, DO NOME DESTE MEIO DE TRANSPORTE.

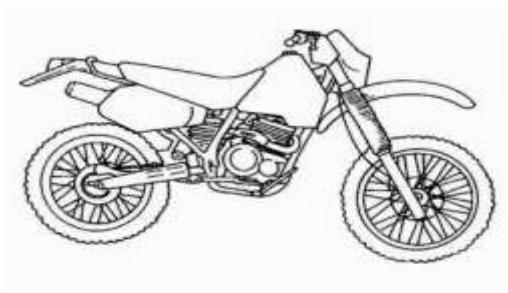

CO

MO

JA

8) MARQUE A PALAVRA QUE INICIA COM A SÍLABA FINAL DA FIGURA ABAIXO.



GOIABA

MOTO

OLHO

9) ESCREVA OS NOMES DOS ANIMAIS.







10) JUNTE AS SÍLABAS E FORME NOMES DE PESSOAS, DEPOIS DIGA QUANTAS SÍLABAS TEM CADA NOME:



_____
_____
_____
_____

11) OBSERVE O QUADRO ABAIXO E RESPONDA.

ALINE	FELIPE	JÚLIA	PEDRO
ALICE	GABRIELA	KAIQUE	YAN
CLARICE	JOANA	MARIA	YURI

QUAIS NOMES TEM A SÍLABA LI?

_____
_____

QUANTOS NOMES TERMINAM COM A LETRA E?

_____
_____

QUAIS NOMES COMEÇAM COM A LETRA A?

_____
_____

Disponível em: https://novaescola.org.br/plano-de-aula/2523/nomes-e-segmentacao-em-silabas. Acesso em: 20/06/2020.

Obrigado por ter feito sua avaliação com tanto carinho!

ESCOLA MUNICIPAL PROFESSOR JOÃO BAPTISTA.
NOME:_____.
ANO / FASE: 4º TURMA: A BIMESTRE: 1º.
PROFESSOR (A): LEIDE LAURA .

DISCIPLINA MATEMÁTICA
AVALIAÇÃO DIAGNÓSTICA

QUESTÃO 1 - Em um canil havia 83 cachorros. Esse canil recebeu outros 18 cachorros. Quantos cachorros, no total, tem nesse canil?

A) 91
B) 100
C) 101
D) 911

QUESTÃO 2 - Observe a tabela e responda às questões propostas.

Animal	Tempo médio de vida (anos)
Coelho	6
Cachorro	12
Vaca	14
Gato	15
Lobo guará	15 (em cativeiro)
Onça	22 (em cativeiro)
Cavalo	25

A) Qual o animal que tem mais tempo de vida em média? _____.
B) Qual o animal que tem menos tempo de vida em média? _____.
C) A onça vive em cativeiro quanto tempo? _____.
D) Quem tem vida mais longa, o cachorro ou o gato? Quantos anos em média ele vive a mais?_____.

QUESTÃO 3 - Observe os objetos abaixo;



Qual desses objetos lembra a forma geométrica de um cubo?

A) O cone de sinalização.
B) O balão.
C) A caixa de presente
D) A bola.

QUESTÃO 4 - Quanto dona Joana gastou para comprar 4 caixas de leite?



A) 24 reais.
B) 30 reais.
C) 60 reais.
D) 20 reais.

QUESTÃO 5 - Pedro usou estes baldes para encher a piscina do bebê. Sabendo que ele usou cada balde duas vezes, calcule a capacidade em litros da piscina.

A) 10 L
B) 20 L
C) 200 L
D) 2 L



QUESTÃO 6- Arme e efetue:

A- 23+11=
B- 32+10=
C- 54+5=
D- 8+9=
E- 74+13=
F- 123+110=
G- 321+142=
H- 780+10=
I- 34-10=
J- 26-12=
K- 89-9=
L- 134-112=
M- 456-231=
N- 978-312=
O- 276-234=

Fonte: <https://novaescola.org.br/plano-de-aula/1234/medida-de-capacid

ESCOLA MUNICIPAL PROFESSOR JOÃO BAPTISTA.

NOME:_____.

ANO / FASE: 4º TURMA: A BIMESTRE: 1º.

PROFESSOR (A): LEIDE LAURA .

DISCIPLINA HISTÓRIA
AVALIAÇÃO DIAGNÓSTICA

QUESTÃO 1 - De acordo com seus conhecimentos, marque com X as opções que representam o campo:

I. ( ) estrada de terra.

II. ( ) muitas escolas.

III. ( ) pouco barulho.

IV. ( ) ruas pavimentadas.

V. ( ) pouca área verde.

VI. ( ) gado e plantações.

QUESTÃO 2 - Leia a tirinha:



Disponível em: <https://i.ytimg.com/vi/MZzlh_rHGxU/hqdefault.jpg>. Acesso em: 10 nov. 2020.

Cite dois privilégios que a cidade oferece e que no campo não há.

_____

_____

_____

QUESTÃO 3 - O que você entende por espaços públicos?

_____

_____

_____

QUESTÃO 4 - Marque a opção incorreta sobre espaços públicos:

A) ( ) Os espaços públicos são aqueles de uso comum e de posse coletiva.

B) ( ) Os espaços públicos são lugares administrados pelo governo e pertencem à população.

C) ( ) Nos espaços públicos os membros de uma comunidade não podem se encontrar para discutir assuntos de interesse comum.

D) ( ) São exemplos de espaços públicos: praças, ruas, parques, avenidas, etc.

QUESTÃO 5 - Quais são os serviços oferecidos pela escola?

_____

_____

_____

QUESTÃO 6 - Escreva (**V**) para as alternativas verdadeiras e (**F**) para as alternativas falsas:

I. ( ) Os espaços privados pertencem a alguém como pessoas ou empresas.

II. ( ) Casas, lojas comerciais, escolas particulares e shopping centers não são exemplos de espaços privados.

III. ( ) Os espaços privados são mantidos pelo proprietário que faz sua manutenção e pode permitir o acesso de pessoas em suas dependências.

IV. ( ) Qualquer pessoa pode ter acesso aos espaços privados domésticos.

ESCOLA MUNICIPAL PROFESSOR JOÃO BAPTISTA.
NOME:_____.
ANO / FASE: 4º TURMA: A BIMESTRE: 1º.
PROFESSOR (A): LEIDE LAURA .

DISCIPLINA GEOGRAFIA
AVALIAÇÃO DIAGNÓSTICA

QUESTÃO 1 - Você aprendeu que os alimentos podem ser feitos de matérias-primas de origem vegetal, animal e mineral. Baseando-se nessa informação, marque a alternativa onde todos os alimentos são de origem vegetal:

A) ( ) alface, cenoura, carne, ovos.

B) ( ) cenoura, couve, tomate, chuchu.

C) ( ) água, queijo, banana, couro.

D) ( ) iogurte, alface, banana, batata.

QUESTÃO 2- Observando os desenhos abaixo, escreva o caminho que o pão faz para chegar até a sua casa:



Imagens disponíveisl em: <https://image.freepik.com/vetores-gratis/>. Acesso em: 08 nov. 2020.

_____

_____

_____

_____

_____

_____

_____

QUESTÃO 3 - Você aprendeu que existem vários tipos de profissões, e que todas elas são importantes pois, são as maneiras que o ser humano encontra para garantir o sustento de sua família, ajudar um grupo social ou até mesmo para desenvolver uma habilidade pessoal. Cite três exemplos diferentes de profissões que existem na escola.

_____
_____

QUESTÃO 4 - Observe a imagem abaixo:



Disponível em: https://www.google.com/searchimagem+de+mineracao. Acesso em: 7 nov. 2020.

Marque a opção que indica a atividade econômica que a imagem representa:

A) ( ) agricultura

B) ( ) pecuária

C) ( ) mineração

D) ( ) comércio

QUESTÃO 5 - Observe a imagem:



Fonte: https://cantinholiterariososriosdobrasil.files.wordpress.com/2012/08/fabiano-08-2012.jpg.

Em relação à economia de água, o que podemos perceber com a imagem acima.

_____
_____
_____