ESTADO DE MATO GROSSO DO SUL
MUNICÍPIO DE LADÁRIO
SECRETARIA MUNICIPAL DE EDUCAÇÃO

COMPONENTE CURRICULAR: LÍNGUA PORTUGUESA

PERÍODO: 02/08/2021 a 13/08/2021

HABILIDADE: (MS.EF15LP01.s.01)(MS. EF.15LP03.s.03))(MS. EF.15LP18.s.18),)(MS. EF.35LP03.s.03))(MS. EF.35LP12.s.12)) (MS. EF.35LP14.s.14),)(MS. EF.35LP23.s.23), (MS.EF05LP03.s03); (MS.EF05LP04s.04); (MS.EF05LP05.s.05); (MS.EF05LP06.s.06)

TEXTO 1

Sobradinho

Autores: Sá e Guarabyra

O homem chega e já desfaz a natureza
Tira gente, põe represa, diz que tudo vai mudar
O São Francisco, lá pra cima da Bahia
Diz que dia, menos dia, vai subir bem devagar
E passo a passo, vai cumprindo a profecia
Do beato que dizia que o sertão ia alagar

O sertão vai virar mar, dá no coração
O medo que algum dia o mar também vire sertão
Vai virar mar, dá no coração
O medo que algum dia o mar também vire sertão

Adeus Remanso, Casa Nova, Santo Sé
Adeus Pilão Arcado, vem o rio te engolir
Debaixo d'água, lá se vai a vida inteira
Por cima da cachoeira, o Gaiola vai sumir
Vai ter barragem no salto do Sobradinho
E o povo vai se embora com medo de se afogar

O sertão vai virar mar, dá no coração
O medo que algum dia o mar também vire sertão
Vai virar mar, dá no coração…

Fonte de pesquisa: https://www.letras.mus.br/

TEXTO 2

Sobradinho

A construção de uma represa ou barragem para produção de energia envolve muitos riscos, principalmente ambientais e sociais. A música "Sobradinho" é uma referência de protesto contra essas construções, com um adeus às várias cidades que foram inundadas para a construção da Usina Hidrelétrica de Sobradinho, no norte da Bahia. Remanso, Casa-Nova, Santo-Sé e Pilão Arcado tiveram que mudar de endereço para o surgimento da usina.

Protestar contra a construção de represas, como fizeram Sá e Guarabira, em "Sobradinho", é um direito necessário à proteção do país, seus povos, animais e plantas. Os processos de decisão envolvem interesses conflitantes e cabe a nós, cidadãos, conhecer os fatos para poder protestar ou aceitar o que está sendo feito, antes que nossas florestas virem deserto, o mar vire sertão ou o contrário.

https://www.ufmg.br/

Texto originalmente escrito por Adlane Vilas-Boas para o programa **Ritmos da Ciência**, da Rádio **UFMG Educativa 104,5 FM**, e adaptado por Laura Barroso.

ATIVIDADES

1 - Responda observando os dois textos acima.

a -Qual é o nome dos dois textos? _____

b – Quem são os autores do texto 1? _____

c – Quem é a autora original do texto 2?_____

d – Quem adaptou o texto 2? _____

e – Nas linhas 1 e 2 do ***texto 1*** onde se lê " **O homem chega e já desfaz a natureza Tira gente, põe represa, diz que tudo vai mudar**"... deixa-nos entender que:

( ) o homem chega em qualquer lugar e destrói a natureza,
( ) em todo lugar que o homem chega há progresso e não há destruição da natureza,
( ) o homem tem o poder de mudar tudo para melhor.

f – Na primeira estrofe, linha 4 do **texto 1** onde se lê "Diz que dia, menos dia, **vai subir bem devagar**"... as expressões em destaque deixa entender que:

( ) o progresso chegará devagarinho,
( ) o rio São Francisco terá momentos de cheia,
( ) o rio São Francisco aos poucos inundará várias cidades.

g – Sabendo que o sertão é a região em que menos chove no Brasil e há longos períodos de estiagem (sem chuvas) que, por vezes, podem ser de meses e anos; por qual motivo os autores na segunda estrofe na linha 7 do **texto 1** diz que "**O sertão vai virar mar**"?

_____

_____

_____

h – Os autores do **texto 1** na segunda estrofe demonstram ter medo de algo. Transcreva nas linhas abaixo a frase que indica esse medo.

_____

_____

2 – De acordo com os textos, Sobradinho é:

( ) uma região que vive inundada no sul do Brasil,
( ) uma Usina Hidrelétrica construída no norte da Bahia,
( ) uma cidadezinha no nordeste brasileiro.

3 – Nos dois textos cita o nome das cidades que deixaram de existir por causa da construção de Sobradinho. Quem são elas?

_____

_____

4 – Por que Sá e Guarabyra escreveram a música Sobradinho?

_____

_____

5 - Porque a construção da hidrelétrica de sobradinho afetou vida de milhares de pessoas?

_____

_____

6 – O til é um sinal utilizado em determinadas palavras fazendo na maioria das vezes com que a sílaba onde ele se encontra seja a mais forte. Coloque o til (~) corretamente nas palavras abaixo:

coraçoes	talismã	la	amanha
sabao	emoçoes	leoes	requeijao
órfaos	violoes	roma	grao
ra	capitão	mao	irmão
mamao	poluiçao	maes	chao
aviao	cançao	reuniao	íma

7 – Coloque o acendo (´) agudo nas palavras adequadamente:

fabrica	domino	jacare	pagina	xicara
cafe	magico	tragico	passaro	paje
replica	diarreia	regua	matematica	relogio
petalas	lapis	chapeu	reu	ultimo
ceu	jilo	ferias	lagrima	musica

8 – Acentue corretamente as palavras com o acento circunflexo (^).

Metro	lampada	silencio	panico	pessego
trico	tenis	premio	transito	triangulo
onibus	chines	substancia	ambulancia	croche
gemeo	mes	frances	portugues	pera
vovo	por	maio	ciencia	paciencia

9 – Separe as sílabas das palavras corretamente, pronuncie oralmente antes de fazê-lo:

Advogado = _____ subtrair= _____

Trânsito= _____ plantação= _____

Massagem= _____ prenda= _____

Substância= _____ carregar= _____

Ambulância= _____ tempero= _____

10 – Sabendo que a letra **m** quando escrita no meio da palavra só ocorre antes das consoantes **p** e **b**, e antes das demais consoantes utilizamos a letra **n**, complete as palavras abaixo com **m** ou **n**.

a___bulância	excelê____cia	substâ____cia	mora___go	ta____bém
ca___po	ca____pina	pla____tação	qui___ze	po____bo
fra___cês	te___po	co____figurar	sa____ba	ma____bo
le___te	trâ____sito	ca____balear	lâ____pada	fa____toche

11 – Vamos produzir um texto? Dê continuidade ao texto iniciado.

Uma tarde agradável

Era uma tarde chuvosa quando Andressa ligou para Alice convidando-a para um lanche da tarde em sua residência. Era mais ou menos _____

_____

_____

Sua mãe, Dona Soraia acabara de fazer um bolo de chocolate. Como Andressa adora

_____

_____

_____

Já era noite quando a chuva parou. Alice, amiga de Andressa liga para seus pais para irem buscá-la. Ao chegarem, Alice e Andressa se despendem e Dona Soraia prepara um prato com _____. Alice vai embora prometendo se encontrar mais uma vez com Andressa e _____

_____

ESTADO DE MATO GROSSO DO SUL
MUNICÍPIO DE LADÁRIO
SECRETARIA MUNICIPAL DE EDUCAÇÃO
ESCOLA MUNICIPAL DE EDUCAÇÃO INFANTIL E
ENSINO FUNDAMENTAL PROFESSOR JOÃO BAPTISTA

COMPONENTE CURRICULAR: MATEMÁTICA

PERÍODO: 02/08/2021 a 13/08/2021

HABILIDADE: (MS.EF05MA03.s.03); (MS.EF05MA04.s.04) ; (MS.EF05.MA.07.S.07)

https://br.pinterest.com/

1 – Resolva as operações e complete as cruzadinha com os resultados.

1) 58 + 12 = _____
2) 29 + 71 = _____
3) 679 + 221 = _____
4) 15 + 15 = _____
5) 588 + 412 = _____
6) 44 + 16 = _____
7) 517 + 183 = _____
8) 7 + 8 = _____
9) 7 + 7 = _____
10) 67 + 23 = _____
11) 0 + 1 = _____
12) 152 + 248 = _____
13) 13 + 6 = _____
14) 9 + 3 = _____
15) 12 + 8 = _____
16) 5 + 3 = _____
17) 121 + 79 = _____
18) 33 + 7 = _____
19) 56 + 24 = _____
20) 3 + 7 = _____
21) 3 + 4 = _____

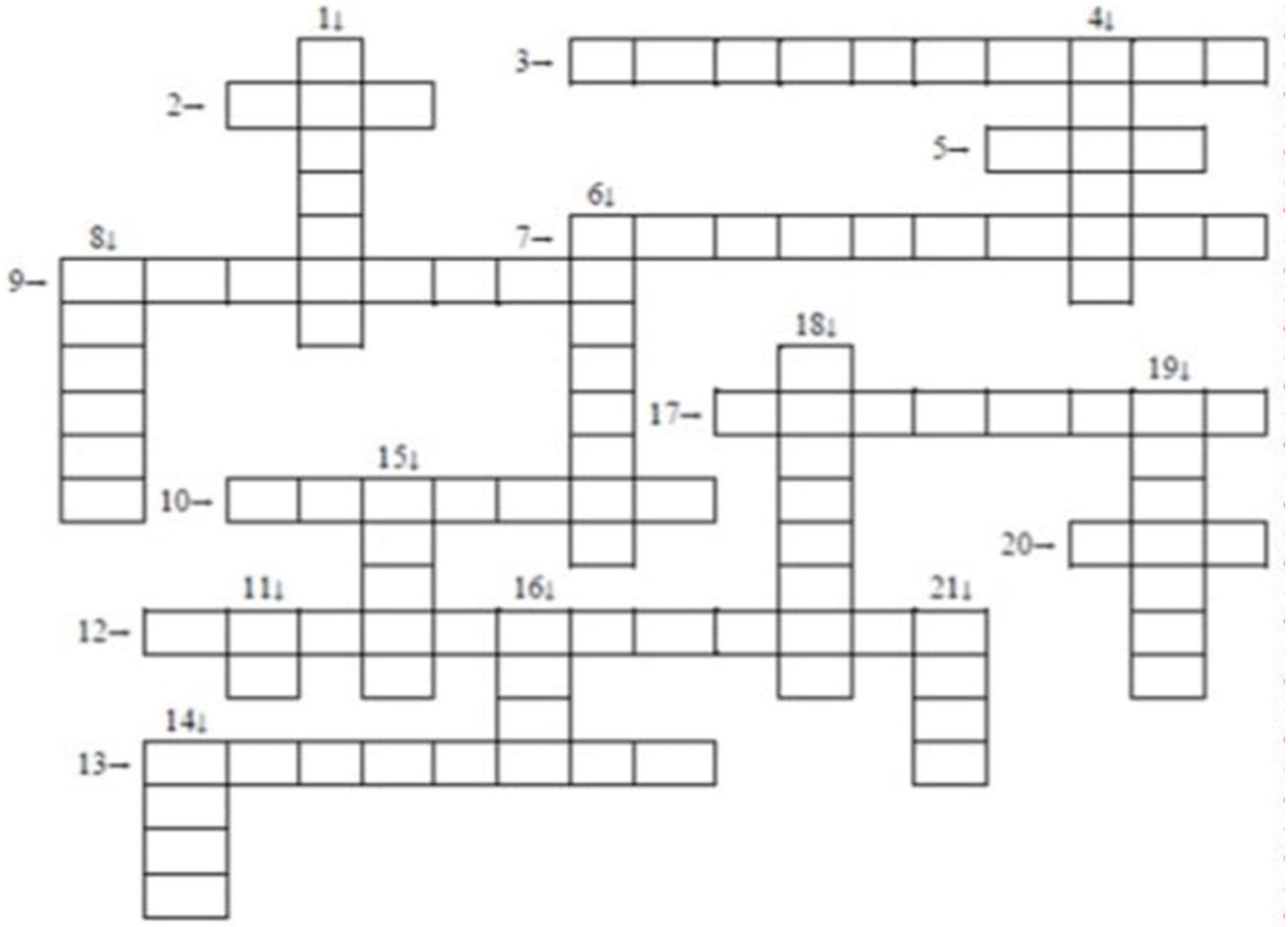

2 – Complete as operações com os números que faltam.

	2	3
x	1	2
		6
	3	+
2	7	6

	4	2
x	1	1
	4	
4		+
4	6	2

	2	5
x	1	3
		5
2		+
3	2	5

	1	9
x	1	4
	7	
	9	+
2	6	6

		8	6
	x	1	5
			0
		6	+
1	2	9	0

	9	7
x	1	0
	0	
9		+
9	7	0

3 – Complete com os sinais de **+** ou – para chegar ao resultado final.

a) 2 3 ☐ 4 5 ☐ 1 2 = 5 6

b) 1 4 ☐ 7 8 ☐ 2 5 = 6 7

c) 7 9 ☐ 2 6 ☐ 1 1 = 6 4

d) 8 6 ☐ 4 5 ☐ 1 2 = 5 3

e) 2 4 ☐ 5 3 ☐ 6 1 = 1 6

f) 1 7 ☐ 6 7 ☐ 3 8 = 4 6

4 – Calcule as subtrações:

	8	4	6
-	5	7	3

	3	0	9
-	1	7	8

	4	0	7
-	3	8	9

	5	8	2
-	4	1	5

	1	4	7
-	1	2	8

5 – Resolva os problemas. Não se esqueça de armar a conta e escrever a resposta no seu devido lugar.

a) Adriano foi a papelaria com R$ 150,00 (cento e cinquenta reais). Sua compra deu R$ 132,00. Quanto de dinheiro sobrou?

Cálculo da conta	Resposta

b) Em uma semana Cláudio vende 130 cachorros-quentes. Quantos cachorros-quentes ele vende em duas semanas?

Cálculo da conta	Resposta

c) Izabel tem uma coleção de figurinhas. Ela tinha 138, ganhou 96 de seu primo. Quantas figurinhas.Izabel tem em sua coleção agora?

Cálculo da conta	Resposta

d) Dona Eloá faz salgados e doces para festas. Um cliente encomendou 50 risoles, 50 Kibes, 50 bolinhos de queijo, 50 empadinhas, 50 coxinhas, 100 brigadeiros, 100 cajuzinhos, 100 olhos de sogra. Quantos salgados ele encomendou?

Cálculo da conta	Resposta

Leitura de frações

Em uma fração, lê-se, primeiro, o numerador e, depois, o denominador.

a) Frações com numeradores iguais a 1 e denominadores de 2 a 9 :

$\frac{1}{2}$	**Um meio.**	$\frac{1}{6}$	**Um sexto.**
$\frac{1}{3}$	**Um terço.**	$\frac{1}{7}$	**Um sétimo.**
$\frac{1}{4}$	**Um quarto.**	$\frac{1}{8}$	**Um oitavo.**
$\frac{1}{5}$	**Um quinto.**	$\frac{1}{9}$	**Um nono.**

Frações com numeradores diferentes de 1 e denominadores de 2 a 9 :

$\frac{2}{3}$ dois terços. $\frac{3}{4}$ três quartos. $\frac{4}{5}$ quatro quintos. $\frac{5}{6}$ cinco sextos $\frac{6}{7}$ seis sétimos.

$\frac{7}{8}$ sete oitavos. $\frac{8}{9}$ oito nonos.

https://slideplayer.com.br/

7 – Escreva as frações como se lê:

$\frac{1}{2}$	$\frac{1}{3}$
$\frac{1}{4}$	$\frac{1}{5}$
$\frac{2}{9}$	$\frac{4}{8}$

8 – Circule a única fração que não representa 1/2.

a. 

b. 

c. 

d. 

9 – Complete o quadro pintando a figura de acordo com a fração e escreva-a por extenso.

FIGURA	FRAÇÃO	LEITURA
	$\frac{2}{4}$	
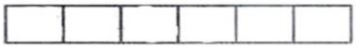	$\frac{4}{6}$	
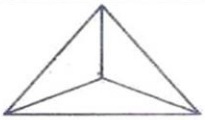	$\frac{1}{3}$	
	$\frac{5}{6}$	
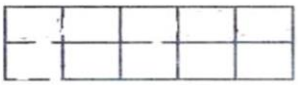	$\frac{7}{10}$	

https://educacaoetransformacaooficial.blogspot.com/

10 – Faça desenhos que represente as frações abaixo:

$\frac{3}{8}$ $\frac{5}{9}$ $\frac{4}{6}$

$\frac{1}{5}$ $\frac{3}{4}$ $\frac{6}{10}$

ESTADO DE MATO GROSSO DO SUL
MUNICÍPIO DE LADÁRIO
SECRETARIA MUNICIPAL DE EDUCAÇÃO

COMPONENTE CURRICULAR: GEOGRAFIA
PERÍODO: 02/08/2021 a 13/08/2021

HABILIDADE: (MS.EF05GE03.s.04); (MS.EF05GE04.s.05)

POLUIÇÃO DO AR

Poluição do ar é a introdução de qualquer substância que, devido à sua concentração, possa se tornar nociva à saúde e ao meio ambiente. Conhecida também como poluição atmosférica refere-se à contaminação do ar por gases, líquidos e partículas sólidas em suspensão, material biológico e até mesmo energia. Esse tipo de **poluição** se dá com as substâncias que são chamadas de **poluentes atmosféricos** e existem em forma de gases ou partículas provenientes de fontes naturais (vulcões e neblinas) ou fontes artificiais produzidas pelas atividades humanas.

Existem várias atividades e fatores que são causas da **poluição do ar**. Essas fontes podem ser divididas em duas categorias:

Fontes naturais

- Poeira de fontes naturais, como as de áreas desérticas;
- Metano emitido no processo de digestão dos animais. Essa emissão é aumentada pela ação humana devido ao grande número de animais criados para a alimentação, como o gado, por exemplo, que corresponde a uma grande parte das emissões de metano no meio ambiente;
- Fumaça e monóxido de carbono emitido nas queimas naturais;
- Atividade vulcânica, que emite diversos poluentes como dióxido de carbono, dióxido de enxofre e cinzas em grandes quantidades, podendo assim causar danos terríveis;
- Atividade microbiológica nos oceanos, liberando gases sulfurosos;

Fontes antropogênicas (causadas pela humanidade)

- Fábricas, usinas de energia, incineradores, fornalhas e outras fontes estacionárias. Locais que utilizam a queima de combustíveis fósseis ou de biomassa, como madeira;
- Veículos automotores, como carros, motos, caminhões e aviões. O transporte contribui com cerca de metade das emissões de monóxido de carbono e óxido de nitrogênio;
- Queimadas controladas na agricultura e no gerenciamento de florestas. No Brasil, essa prática é responsável por cerca de 75% das emissões de gás carbônico;
- Aerossóis, tinta, *sprays* de cabelo e outros solventes;
- Emissão de amônia pelo uso de fertilizantes;

https://brasilescola.uol.com.br/

Atividades

1 – De acordo com o texto, o que é poluição do ar?

_____

_____

_____

2- Complete as frases de acordo com o texto.

a)Conhecida também como _____refere-se à contaminação do ar por _____, _____ e _____.

b) Esse tipo de _____ se dá com as substâncias que são chamadas de _____ _____.

3 – Quais são as fontes que causam a poluição do ar?

_____

4 – Como ocorre a emissão de metano no meio ambiente?

_____

_____

_____

5 – Os responsáveis pela emissão de fumaça e monóxido de carbono são:

( ) poeiras de fontes naturais ( ) atividades vulcânicas ( ) queimadas naturais

6 – Os poluentes emitidos pelas atividades vulcânicas são:

( ) dióxido de carbono, dióxido de enxofre e cinzas;

( ) gás carbônico, enxofre, metano;

( ) cinzas, dióxido de carbono, metano.

7 – O que são fontes antropogênicas?

_____

8 – Quais são os locais que utilizam a queima de combustíveis fósseis ou de biomassa, como madeira?

_____

_____

9 – Assinale 1 para fontes naturais e 2 para fontes antropogênicas.

( ) fábricas ( ) incineradores ( ) atividade vulcânica ( ) atividade microbiológica

10 – Qual prática feita no Brasil que é responsável por cerca de 75% das emissões de gás carbônico?

_____

ESTADO DE MATO GROSSO DO SUL
MUNICÍPIO DE LADÁRIO
SECRETARIA MUNICIPAL DE EDUCAÇÃO

COMPONENTE CURRICULAR: HISTÓRIA
PERÍODO: 02/08/2021 a 13/08/2021

HABILIDADE: (MS.EF05HI04.s.04)

Estatuto do Idoso

Estatuto é Lei orgânica de um Estado, sociedade ou organização. Nesse sentido, o Estatuto do Idoso é uma Lei Federal, de nº 10.741, de 1º de outubro de 2003, isto é, uma Lei Orgânica do Estado Brasileiro destinada a regulamentar os direitos assegurados às pessoas com idade igual ou superior a 60 (sessenta) anos que vivem no país.

O documento, vigente desde janeiro de 2004, veio ampliar direitos que já estavam previstos em outra Lei Federal e também na Constituição Federal de 1988 e se consolida como instrumento poderoso na defesa da cidadania dos cidadãos e cidadãs daquela faixa etária, dando-lhes ampla proteção jurídica para usufruir direitos sem depender de favores, amargurar humilhações ou simplesmente para viverem com dignidade.

Ao longo de seus 118 artigos são tratadas questões fundamentais, desde garantias prioritárias aos idosos, até aspectos relativos à transporte, passando pelos direitos à liberdade, à respeitabilidade e à vida. Discorre também sobre as questões de educação, cultura, esporte e lazer, dos direitos à saúde através do SUS, da garantia ao alimento, da profissionalização e do trabalho, da previdência social. Os aspectos mais significativos são os seguintes:

a) Nas aposentadorias, reajuste dos benefícios na mesma data do reajuste do salário mínimo, porém com percentual definido em regulamento;

b) Assegura desconto de pelo menos 50% nas atividades culturais, de lazer e esportivas, além da gratuidade nos transportes coletivos públicos;

c) No caso do transporte coletivo intermunicipal e interestadual, ficam reservadas duas vagas gratuitas por veículo para idosos com renda igual ou inferior a dois salários mínimos e desconto de 50% para os idosos da mesma renda que excedam essa reserva;

d) Quanto aos planos de saúde, a lei veda a discriminação do idoso com a cobrança de valores diferenciados em razão da idade, determinando ainda ao poder público o fornecimento gratuito de medicamentos, assim como prótese e outros recursos relativamente ao tratamento, habilitação ou reabilitação.

http://www.planalto.gov.br; https://sbgg.org.br

ATIVIDADES

1 – O que é um estatuto?

_____

_____

2 – Em que dia, mês e ano foi regulamentado o Estatuto do Idoso?

_____

3 – Em qual outra Lei estava previsto o direito do idoso?

_____

4 – No terceiro parágrafo cita alguns direitos que o idoso possui. Relacione dois deles.

_____

_____

5 – Qual foi o maior benefício sobre a aposentadoria dos idosos?

_____

_____

6 – Quanto ao transporte coletivo e intermunicipal e interestadual é correto afirmar que:

( ) eles pagarão 50% a mais que os outros o preço da passagem.

( ) ficam reservadas duas vagas gratuitas por veículo para idosos com renda igual ou inferior a dois salários mínimos;

7 - Quanto aos planos de saúde e correto afirmar que:

( ) a lei veda a discriminação do idoso com a cobrança de valores diferenciados em razão da idade.

( ) quanto maior for a idade, maior será o reajuste no valor do plano.