ESCOLA MUNICIPAL NELSON MANGABEIRA

ATIVIDADES PEDAGÓGICAS COMPLEMENTARES

CADERNO 04

PROFESSOR (A): SILVIA MOTA/ LARA CRISTINA SILVA/SUZIANE DA COSTA/ JORCILENE DA SILVA.

ALUNO (A): _____.

TURMA: 2º ANO U.

COMPONENTE CURRICULAR: LÍNGUA PORTUGUESA, MATEMÁTICA, HISTÓRIA, GEOGRAFIA,EDUCAÇÃO FÍSICA, EDUCAÇÃO CIDADANIA E DIREITOS HUMANOS, CIÊNCIAS DA NATUREZA, ARTE.

PERÍODO: 05/04/2021 a 16 /04 / 2021.

RETORNO DAS ATIVIDADES PARA UNIDADE ESCOLAR: 03__/__05_/__2021_.

LADÁRIO, ___ DE ABRIL DE 2021.

QUERIDOS PAIS E/OU RESPONSÁVEIS

Com a nova realidade que acomete o mundo (o novo Coronavírus), a Rede Municipal de Educação precisou suspender momentaneamente as suas aulas. No entanto, preocupados com a aprendizagem dos alunos durante este período de distanciamento do ambiente escolar, lança o Caderno de Atividades Pedagógicas Complementares para que nossos alunos não se afastem dos estudos neste momento em que o distanciamento social se faz de extrema necessidade. Este caderno, não apenas traz atividades aos alunos, como traz também um foco muito importante, o de conscientizar alunos e toda comunidade, a respeito do COVID-19 (Coronavírus). Segundo dados atualizados, metade dos alunos do mundo, encontram-se fora das escolas, totalizando mais de 1 bilhão de estudantes em 115 países, desde a Educação Infantil até o Ensino Superior, por causa da proliferação da COVID-19, doença causada por esse agente patogênico.

EESTADO DE MATO GROSSO DO SUL MUNICÍPIO DE LADÁRIO
SECRETARIA MINICIPAL DE EDUCAÇÃO

ESCOLA: Municipal Nelson Mangabeira.
PROFESSOR (A): Suziane Luzia Barros da Costa **TURMA(S): 2º** ENSINO FUNDAMENTAL I TURNO: Matutino **ALUNO (A):**
COMPONENTE CURRICULAR: **Arte** PERÍODO: 05\04\2021, 16\04\2021 Quantidade de aulas: 02 **Objeto de conhecimento: Dia do Índio** **Habilidade: : MS.EF15AR04.s.04**

19 DE ABRIL DIA DO ÍNDIO!

O ÍNDIO ESPERTO
A MANDIOCA PLANTOU
E COM MUITO TRABALHO
A TAPIOCA CRIOU!
NO DIA DO ÍNDIO
VAMOS TODOS LEMBRAR
DOS GRANDES GUERREIROS
QUE MUITO NOS DEIXOU
PARA ENSINAR.

ADRIANA SILVA



- PINTE COM LÁPIS COLORIDO AS PALAVRAS DITADAS.
- COPIE DO TEXTO AS PALAVRAS COM ENCONTRO VOCÁLICOS:

- ESCREVA UMA FRASE COM A PALAVRA ÍNDIO:

_____
_____

ESTADO DE MATO GROSSO DO SUL
MUNICÍPIO DE LADÁRIO
SECRETARIA MUNICIPAL DE EDUCAÇÃO
Avenida 14 de Março, 656 – Centro – Ladário – MS – CEP: 79370-000
Endereço Eletrônico: educação@ladario.ms.gov

ESCOLA MUNICIPAL NELSON MANGABEIRA
PROFESSOR (A):JORCILENE PINHEIRO
PERÍODO: 01/04/2021 a 15/04/2021
ALUNO (A):_____

QUARTA-FEIRA - 07/ 04/ 2021 - 14/ 04/ 2021

QUINTA –FEIRA- 08/04/2021-15/04/2021

COMPONENETE CURRICULAR:CIÊNCIAS
2º U

CÓDIGO DA HABILIDADE TRABALHADA:(MS.EF02CI04.s.04)

CONTEÚDO: Seres vivos no ambiente Plantas

ATIVIDADE

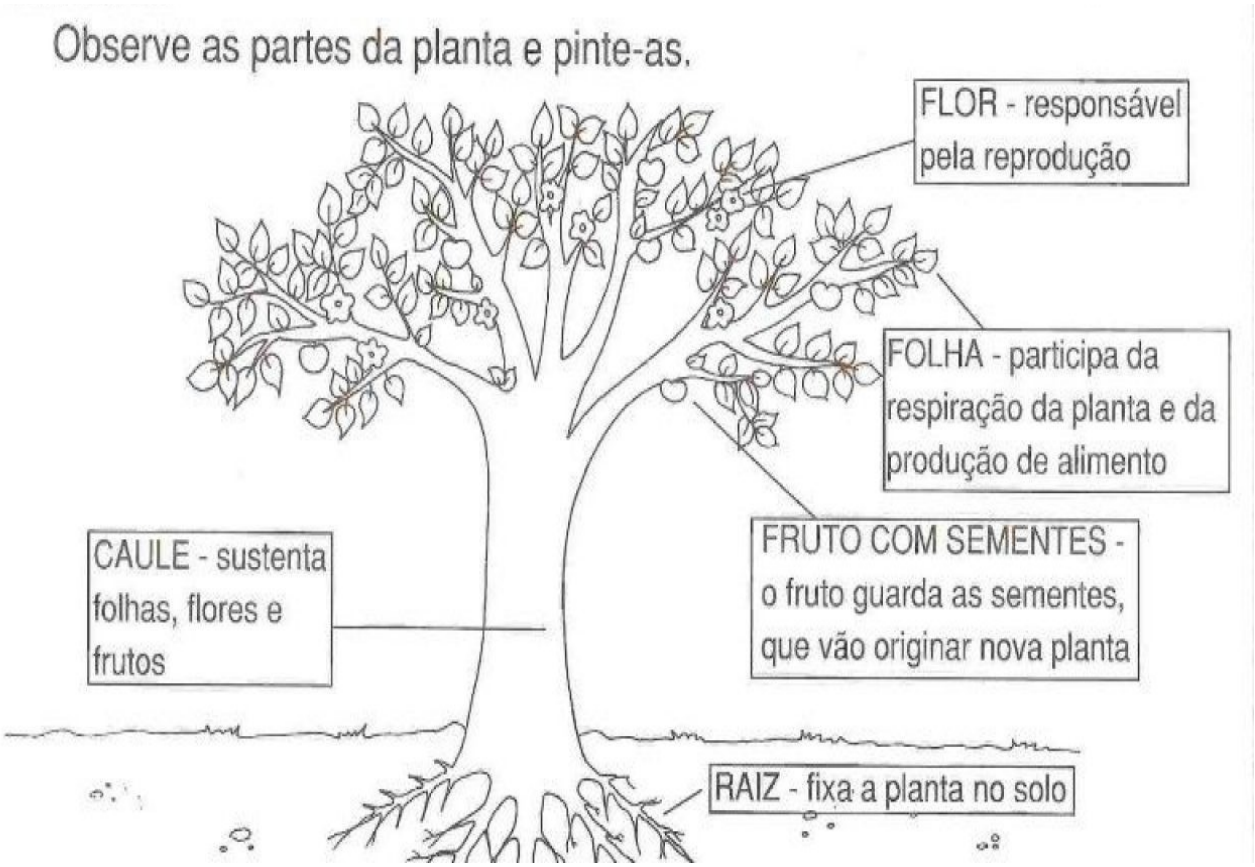

Partes da planta e suas funções

Numere a segunda coluna das funções das plantas de acordo com a primeira:

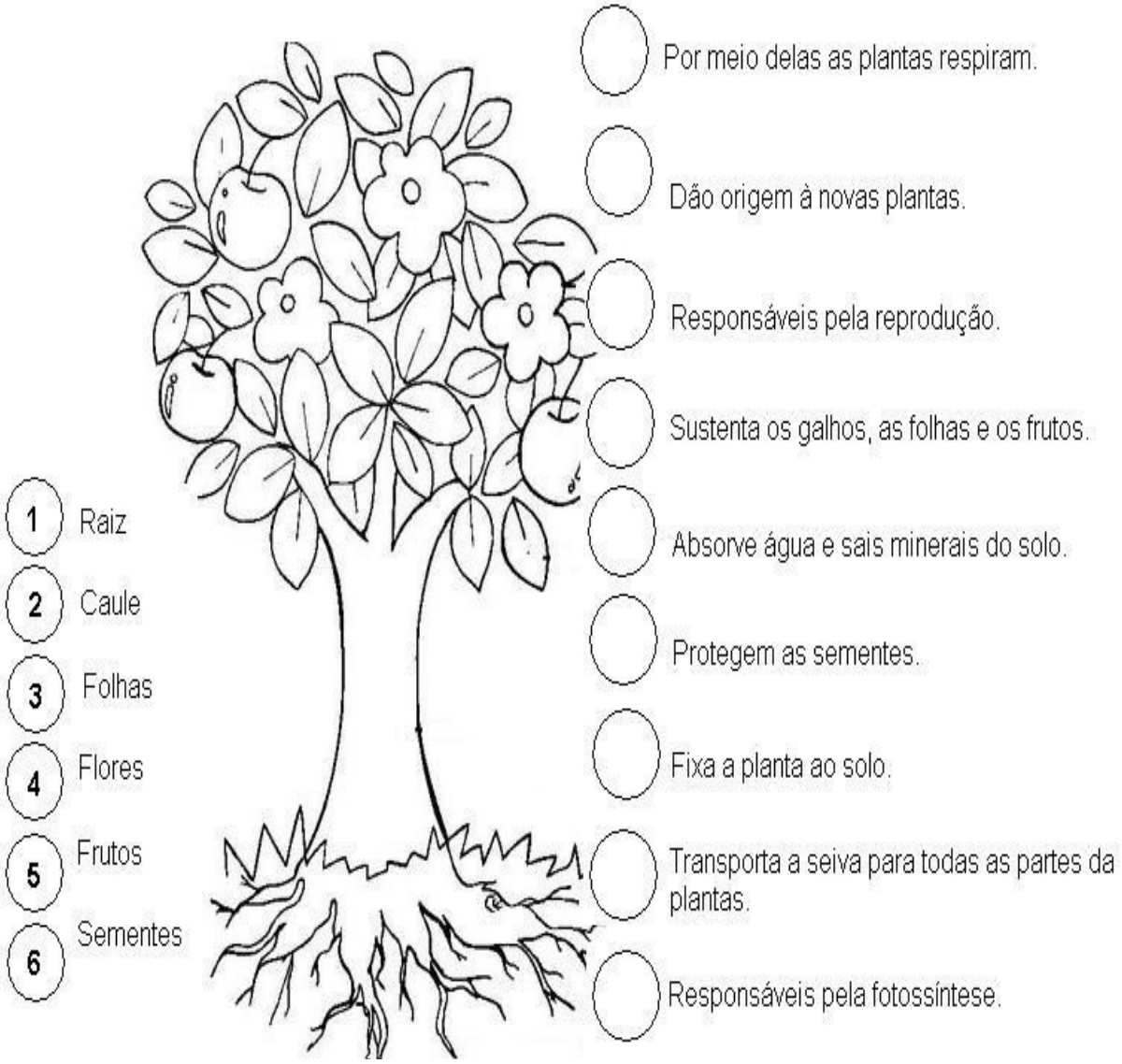

REFERÊNCIAS:

https://atividadespedagogicas.net/2017/06/atividades-sobre-as-partes-das-plantas.html
https://atividadespedagogicas.net/2017/06/atividades-sobre-as-partes-das-plantas.html

Sexta-feira 09/04/2021

2º Ano U

Educação e Cidadania e Direitos Humanos

CÓDIGO DA HABILIDADE:MS.EF03HI02.s.02: Selecionar, por meio da consulta de fontes de diferentes naturezas, e registrar acontecimentos ao longo do tempo na cidade ou região em que vive.

CONTEÚDO: Páscoa

PÁSCOA

O VERDADEIRO SENTIDO DA PÁSCOA É VIDA NOVA.

NA PÁSCOA SOMOS CONVIDADOS A BUSCAR SER MELHORES E SOLIDÁRIOS, A EXEMPLO DE JESUS.

ATIVIDADES:

COMPLETE AS FRASES DOS ACONTECIMENTOS COM AS PALAVRAS ABAIXO:

JESUS ANJO MULHERES



AS _____ FORAM AO TÚMULO DE MADRUGADA, ONDE ESTAVA O CORPO DE JESUS.



UM _____ APARECEU A ELAS E DISSE:
– POR QUE PROCURAM O CORPO DE JESUS? JESUS ESTÁ VIVO.



_____ APARECEU ÀS MULHERES E DEPOIS A SEUS AMIGOS.



REFERÊNCIA:
www.soescola.com.br

ESTADO DE MATO GROSSO DO SUL
MUNICÍPIO DE LADÁRIO
SECRETARIA MUNICIPAL DE EDUCAÇÃO

Escola Municipal Nelson Mangabeira.
Professora: Lara Cristina de Mello Silva.
Ensino fundamental I
Aluno: _____
Turma: 2º U

Turno: matutino Período:05 /04 /2021 à Período: 16 /04 /2021.
Componente curricular: Educação Física
Quantidade de aula: 01
Objetivo de conhecimento: Jogos e Brincadeiras – Atividade de Pintura (coordenação motora fina e motricidade fina)
Habilidade: (EF05EF06) **ATIVIDADE AVALIATIVA**

05/04 À 16/04/2021 – Primeira Quinzena de Abril.

RELACIONE

www.smartkids.com.br

-Instruções:
Para brincar com o jogo do relacione, basta imprimir essa página, depois ligar as modalidades com suas respectivas bolas. Boa diversão!


1.


2.


3.


4.

a.



b.



c.



d.

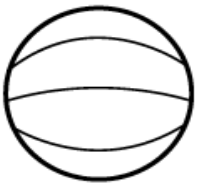

resp: 1.c., 2.a., 3.d., 4.b.

ESTADO DE MATO GROSSO DO SUL
MUNICIPIO DE LADÁRIO
SECRETARIA MUNICIPAL DE EDUCAÇÃO
ESCOLA MUNICIPAL NELSON MANGABEIRA
DELIBERAÇÃO CME/LADÁRIO Nº38/2017 DE 13/11/2017
e-mail: nelsonmangabeira@yahoo.com.br

Professor(a): **SILVIA CÉSPEDES MOTA** Turma: **2** Turno: (X) Mat. ( ) Vesp. Ensino Fund. I

Atividade referente ao período de 05/04 a 16/04/2021. Quantidade de aulas: 11

Objeto de Conhecimento: Construção do sistema alfabético e da ortografia; Compreensão em leitura

Habilidade: EF02LP02; EF02LP03

Nome: _____

Componente Curricular: **Língua Portuguesa**

*Atividades complementares, parceria Escola e Família no combate ao Novo Coronavírus



A META É SER MELHOR QUE ONTEM, ENTÃO VAMOS EM FRENTE

PALAVRA SECRETA - Descubra o que está escrito na ficha

CAN 	
LEN 	
VIN 	
TIN 	
JAR 	
VEN 	

Referência: https://atividadespedagogicasuzano.com.br

ORTOGRAFIA D T F V



Orquestra

No dia em que a flauta cisma
de brigar com o violino
cada um toca mais alto
cada um toca mais fino.
[...]

Elza Beatriz. A menina dos olhos. Belo Horizonte: Miguilim, 2002.

Escreva os nomes dos dois instrumentos musicais que cismam em brigar.

Circule a primeira letra das palavras que você escreveu.

Essas palavras iniciam com as letras:

b/p ☐ **d/t** ☐ **f/v** ☐ **c/g** ☐

Escreva os nomes destes outros instrumentos musicais.







Referência: https://atividadespedagogicasuzano.com.br/exercicios-de-ortografia-imp

ESTADO DE MATO GROSSO DO SUL
MUNICIPIO DE LADÁRIO
SECRETARIA MUNICIPAL DE EDUCAÇÃO
ESCOLA MUNICIPAL NELSON MANGABEIRA
DELIBERAÇÃO CME/LADÁRIO Nº38/2017 DE 13/11/2017
e-mail: nelsonmangabeira@yahoo.com.br

Escreva os numerais abaixo nas colunas adequadas:

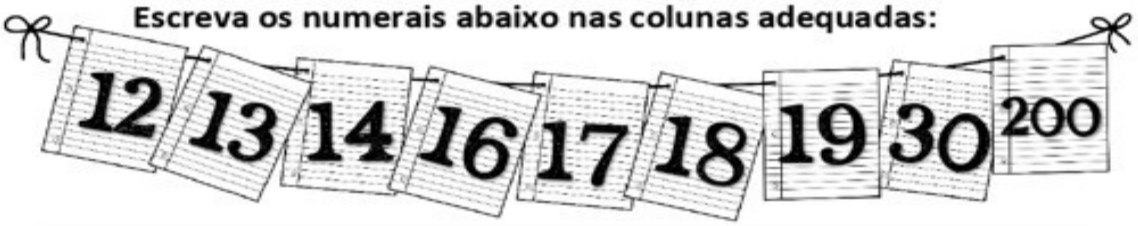

d	t	d – t
		dezessete

Complete as palavras com d ou t e escreva-as.





Referência: https://atividadespedagogicasuzano.com.br/exercicios-de-ortografia-imp

ESTADO DE MATO GROSSO DO SUL
MUNICIPIO DE LADÁRIO
SECRETARIA MUNICIPAL DE EDUCAÇÃO
ESCOLA MUNICIPAL NELSON MANGABEIRA
DELIBERAÇÃO CME/LADÁRIO Nº38/2017 DE 13/11/2017
e-mail: nelsonmangabeira@yahoo.com.br

Professor(a): **SILVIA CÉSPEDES MOTA** Turma: **2** Turno: (X) Mat. ( ) Vesp. Ensino Fund. I

Atividade referente ao período de 05/04 a 16/04/2021. Quantidade de aulas: 09

Objeto de Conhecimento: Construção de fatos fundamentais da adição e da subtração

Habilidade: EF02MA01; EF02MA05; EF02MA09

Nome: _____

Componente Curricular: **Matemática**

*Atividades complementares, parceria Escola e Família no combate ao Novo Coronavírus



VAMOS FAZER UMA CONTINHAS?

14 − 8	11 − 3	18 − 9	10 − 2	10 − 3
12 − 4	17 − 8	12 − 5	14 − 6	11 − 4
11 − 6	12 − 5	12 − 3	13 − 6	14 − 7

0 + 12	14 + 17	20 + 16	16 + 0
20 + 17	15 + 13	13 + 13	16 + 15
20 + 14	14 + 18	20 + 13	0 + 19

Referência: https://mensagenseatividades.com/16-atividades-matematica-1-ano-ensino-fundamental
https://www.sol.eti.br/a/matematica/contas_matematica_adicao_imprimir.php

ESTADO DE MATO GROSSO DO SUL
MUNICIPIO DE LADÁRIO
SECRETARIA MUNICIPAL DE EDUCAÇÃO
ESCOLA MUNICIPAL NELSON MANGABEIRA
DELIBERAÇÃO CME/LADÁRIO Nº38/2017 DE 13/11/2017
e-mail: nelsonmangabeira@yahoo.com.br

✦MOSTRE PARA HORÁCIO COMO É FÁCIL RESOLVER AS OPERAÇÕES DE ADIÇÃO E SUBTRAÇÃO.



+ 3	
2	5
4	
5	
3	

- 2	
6	4
5	
3	
4	

+ 4	
1	5
0	
5	
1	

✦RESOLVA AS OPERAÇÕES E AJUDE O DINOSSAURO A ENCONTRAR SUA AMIGUINHA.

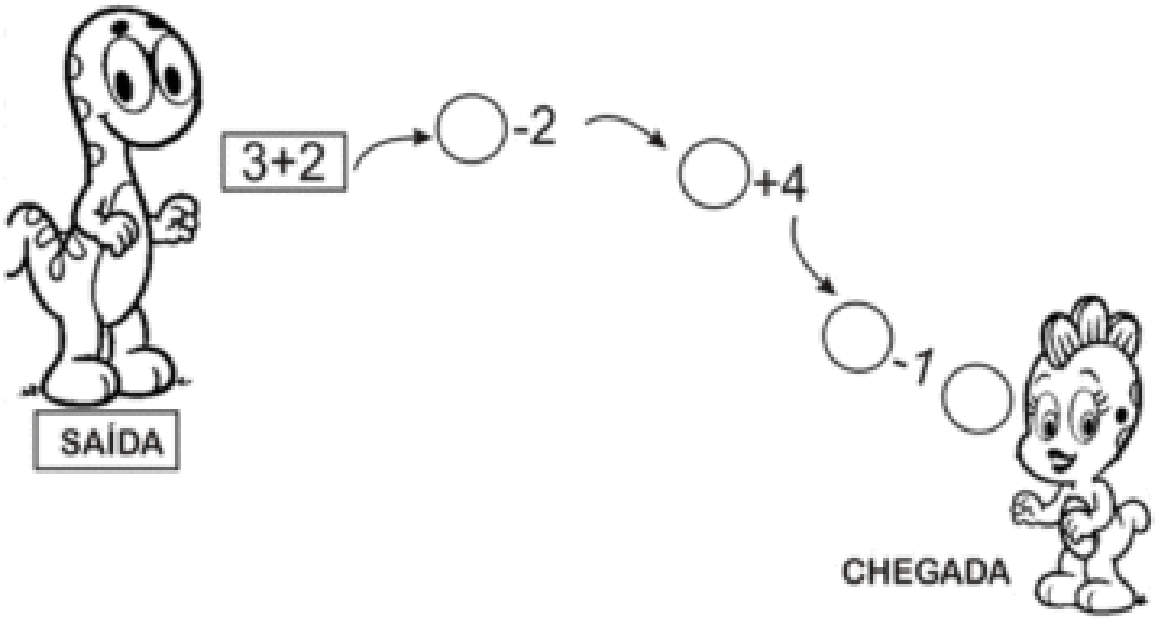

Referência: educaalunos.com

ESTADO DE MATO GROSSO DO SUL
MUNICIPIO DE LADÁRIO
SECRETARIA MUNICIPAL DE EDUCAÇÃO
ESCOLA MUNICIPAL NELSON MANGABEIRA
DELIBERAÇÃO CME/LADÁRIO Nº38/2017 DE 13/11/2017
e-mail: nelsonmangabeira@yahoo.com.br

Professor(a): **SILVIA CÉSPEDES MOTA** Turma: **2** Turno: (X) Mat. ( ) Vesp. Ensino Fund. I

Atividade referente ao período de 05/04 a 16/04/2021. Quantidade de aulas: 04

Objeto de Conhecimento: MINHA RUA

Habilidade: EF02HI03; EF02HI11

Nome: _____

Componente Curricular: **História**

*Atividades complementares, parceria Escola e Família no combate ao Novo Coronavírus

A Rua

Se essa rua fosse minha
Não mandava, não mandava ladrilhar
E faria um buraquinho em cada esquina
Pra poder uma árvore plantar.



Se essa rua, se essa rua fosse minha
Eu mandava, eu mandava colocar
Tantos passarinhos alegres cantando
Pra poder de manhã me acordar

Sara Regina, João Plinta/Eliana. A rua. *CD Eliana*. BMG Brasil

ATIVIDADE

1) **Escreva contando como seria a rua dos seus sonhos.**

_____
_____
_____
_____
_____

Referencia: https://pt.slideshare.net/elietesoaresesoares/atividades-avaliativas-para-o-2-ano

2) Leia o depoimento abaixo e responda:

Quando eu era pequena, morava perto de uma rua que se chamava Estrada da Boiada.
Ela recebeu esse nome porque era de terra e todos os dias passavam por lá muitos bois, pois existiam muitas fazendas na região.
Hoje em dia, essa rua mudou muito. Foi asfaltada e tem muito movimento; as fazendas deram lugar aos prédios e os boizinhos aos carros.
Ela até mudou de nome – recebeu o nome de um deputado estadual – agora se chama Diógenes Ribeiro de Lima.

a) Antigamente como era a estrada da boiada?

R.: _____

b) Quais transformações ocorreram nela?

R.:_____

c) Desenhe como você imagina a rua do texto:

ANTIGAMENTE	ATUALMENTE

3) Leia o texto abaixo e responda:

Na minha rua tem uma porção de casas e prédios.
Tem casas que servem para morar, tem outras que servem para trabalhar.
Na minha rua passa o lixeiro, que leva o lixo, o gari, que varre, o carteiro, que traz as cartas e o fruteiro que vende frutas .
A rua do Marcelo – Ruth Rocha – Ed. Salamandra

a) Quais profissionais trabalham nessa rua?

R.:_____

b) Escreva o nome da sua rua e o número da sua casa.

R.:_____

Referência: https://acessaber.com.br/avaliacoes/avaliacao-historia-geografia-2o-ano

ESTADO DE MATO GROSSO DO SUL
MUNICIPIO DE LADÁRIO
SECRETARIA MUNICIPAL DE EDUCAÇÃO
ESCOLA MUNICIPAL NELSON MANGABEIRA
DELIBERAÇÃO CME/LADÁRIO Nº38/2017 DE 13/11/2017
e-mail: nelsonmangabeira@yahoo.com.br

Professor(a): **SILVIA CÉSPEDES MOTA** Turma: **2** Turno: (X) Mat. ( ) Vesp. Ensino Fund. I

Atividade referente ao período de 05/04 a 16/04/2021. Quantidade de aulas: 03

Objeto de Conhecimento: Localização

Habilidade: EF02GE08

Nome: _____

Componente Curricular: **Geografia**

*Atividades complementares, parceria Escola e Família no combate ao Novo Coronavírus

Cidade-Estado - País

Todas as pessoas que moram ou trabalham em diferentes bairros pertencem a uma grande comunidade chamada **cidade**.



Muitos bairros reunidos formam uma cidade.

As cidades são formadas pelo centro, por bairros e subúrbios.

No centro da cidade estão localizados as lojas, cinemas, restaurantes, escritórios, praças e ruas movimentadas.

Já os subúrbios são bairros que ficam mais longe do centro da cidade, também chamados de periferia, mas muitos deles possuem vários lugares para compras e diversões. Cada cidade tem sua história.

As pessoas vão chegando a um determinado lugar em busca de trabalho, de terras de melhores condições de vida.

Geralmente as cidades começam sua formação próximas de rios, estradas ou de um lugar que possibilite um maior desenvolvimento.

Referência: https://atividadespedagogicasuzano.com.br/atividade-de-geografia-cep

ESTADO DE MATO GROSSO DO SUL
MUNICIPIO DE LADÁRIO
SECRETARIA MUNICIPAL DE EDUCAÇÃO
ESCOLA MUNICIPAL NELSON MANGABEIRA
DELIBERAÇÃO CME/LADÁRIO Nº38/2017 DE 13/11/2017
e-mail: nelsonmangabeira@yahoo.com.br

Pinte as respostas corretas:

Os bairros formam:

A CIDADE	O BAIRRO	O PAÍS

O conjunto de estados forma:

UMA CIDADE	UM PAÍS	UM BAIRRO

Muitas cidades reunidas formam:

UM ESTADO	UM PAÍS

Pesquise e complete de acordo com a cidade onde você mora:

O nome da cidade onde moro é _____.

Use as palavras do quadro para completar o exercício a seguir:

Suzana mora numa bonita _____. Esta casa fica em um _____.

que muitos bairros reunidos formam uma _____. Sabe também
idades reunidas formam um _____ e que vários estados
formam um _____.



Referência: https://atividadespedagogicasuzano.com.br/atividade-de-geografia-cep