ESCOLA MUNICIPAL NELSON MANGABEIRA

ATIVIDADES PEDAGÓGICAS COMPLEMENTARES

CADERNO 14

PROFESSOR (A): SILVIA MOTA/ LARA CRISTINA SILVA/SUZIANE DA COSTA/ JORCILENE DA SILVA/CRISTIANE LEMOS GONÇALVES

ALUNO (A): _____.

TURMA: 2º ANO U.

COMPONENTE CURRICULAR: LÍNGUA PORTUGUESA, MATEMÁTICA, HISTÓRIA, GEOGRAFIA,EDUCAÇÃO FÍSICA, EDUCAÇÃO CIDADANIA E DIREITOS HUMANOS, CIÊNCIAS DA NATUREZA, ARTE.

PERÍODO: 01-11-2021 a 13-11-2021

RETORNO DAS ATIVIDADES PARA UNIDADE ESCOLAR: _____/_____/_____.

LADÁRIO, ___ DE NOVEMBRO DE 2021.

SECRETARIA MUNICIPAL DE EDUCAÇÃO
Avenida 14 de Março, 656 – Centro – Ladário – MS – CEP: 79370-000
Endereço Eletrônico: educação@ladario.ms.gov
Telefone para contato: 67 3226 2034

QUERIDOS PAIS E/OU RESPONSÁVEIS

Com a nova realidade que acomete o mundo (o novo Coronavírus), a Rede Municipal de Educação precisou suspender momentaneamente as suas aulas. No entanto, preocupados com a aprendizagem dos alunos durante este período de distanciamento do ambiente escolar, lança o Caderno de Atividades Pedagógicas Complementares para que nossos alunos não se afastem dos estudos neste momento em que o distanciamento social se faz de extrema necessidade. Este caderno, não apenas traz atividades aos alunos, como traz também um foco muito importante, o de conscientizar alunos e toda comunidade, a respeito do COVID-19 (Coronavírus). Segundo dados atualizados, metade dos alunos do mundo, encontram-se fora das escolas, totalizando mais de 1 bilhão de estudantes em 115 países, desde a Educação Infantil até o Ensino Superior, por causa da proliferação da COVID-19, doença causada por esse agente patogênico.

SECRETARIA MUNICIPAL DE EDUCAÇÃO
Avenida 14 de Março, 656 – Centro – Ladário – MS – CEP: 79370-000
Endereço Eletrônico: educação@ladario.ms.gov
Telefone para contato: 67 3226 2034

PROFESSOR (A):JORCILENE PINHEIRO

ALUNO (A):_____

CÓDIGO DA HABILIDADE TRABALHADA:(MS.EF02CI04.s.04

CONTEÚDO:Seres vivos no ambiente

COMPONENTE CURRICULAR:CIÊNCIAS- 2º U

REFERÊNCIAS:https://atividadespedagogicas.net/2017/06/atividades-sobre-as-partes-das-plantas.html

Partes da planta e suas funções

Numere a segunda coluna das funções das plantas de acordo com a primeira:



1 Raiz
2 Caule
3 Folhas
4 Flores
5 Frutos
6 Sementes

( ) Por meio delas as plantas respiram.
( ) Dão origem à novas plantas.
( ) Responsáveis pela reprodução.
( ) Sustenta os galhos, as folhas e os frutos.
( ) Absorve água e sais minerais do solo.
( ) Protegem as sementes.
( ) Fixa a planta ao solo.
( ) Transporta a seiva para todas as partes da plantas.
( ) Responsáveis pela fotossíntese.

SECRETARIA MUNICIPAL DE EDUCAÇÃO
Avenida 14 de Março, 656 – Centro – Ladário – MS – CEP: 79370-000
Endereço Eletrônico: educação@ladario.ms.gov
Telefone para contato: 67 3226 2034

ESCOLA MUNICIPAL NELSON MANGABEIRA
Professor(a): SILVIA CÉSPEDES MOTA **Turma: 2 U** **Turno: Matutino**
Ensino Fundamental I **Período de 01/11 a 13/11/2021.**
Quantidade de aulas: 10
Nome:_____

CÓDIGO DA HABILIDADE TRABALHADA: MS:EF02LP02 - Segmentar palavras em sílabas e remover e substituir sílabas iniciais, mediais ou finais para criar novas palavras; EF12LP04 - Ler e compreender;EF12LP03 - Copiar textos breves, mantendo suas características e voltando para o texto sempre que tiver dúvidas sobre sua distribuição gráfica, espaçamento entre as palavras, escrita das palavras e pontuação.

CONTEÚDO: COMPREENSÃO DO TEXTO E ORTOGRAFIA

COMPONENTE CURRICULAR: LÍNGUA PORTUGUESA

QUESTÃO 1 - LEIA O TEXTO COM ATENÇÃO

A FORMIGA VIRIATA



VIRIATA É UMA FORMIGA FELIZ.
ELA MORA NUM BURACO, ATRÁS DO CANTEIRO DE ALFACE.
ELA ANDA SEMPRE AFOBADA PORQUE FAZ ENTREGAS NA FEIRA.
HOJE ELA LEVOU: COUVE, FEIJÃO, FARINHA E FUBÁ.
VIRIATA É UMA ÓTIMA VENDEDORA!

QUESTÃO 2 - INTERPRETAÇÃO DA HISTÓRIA:

A) QUAL É O NOME DA FORMIGA? _____

B) ONDE ELA MORA? _____

C) POR QUE VIRIATA ANDA SEMPRE AFOBADA?
_____

D) O QUE VIRIATA ENTREGOU NA FEIRA?
_____

QUESTÃO 3 - COMPLETE AS FRASES:

A) VIRIATA É UMA _____ FELIZ.
B) ELA ANDA SEMPRE _____.
C) VIRIATA É UMA_____!

QUESTÃO 4 - SEPARE AS SÍLABAS DAS PALAVRAS ABAIXO:

ALFACE= _____ _____ _____
BURACO= _____ _____ _____
COUVE= _____ _____
FARINHA= _____ _____ _____
FEIJÃO= _____ _____

QUESTÃO 5 – CIRCULE NO TEXTO TODAS AS PALAVRAS COM F e V

QUESTÃO 6 – DESCUBRA PALAVRAS COM F e V OBSERVANDO A NUMERAÇÃO:

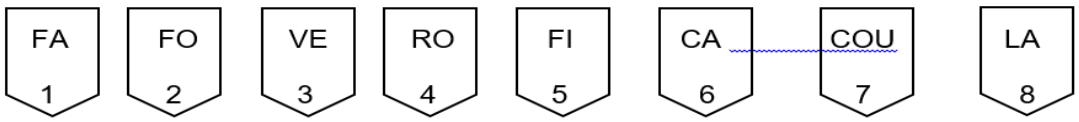

1 4 1

1 3 8

5 3 8

7 3

2 2 6

2 6

Fonte: https://www.educacaoetransformacao.com.br/atividades-de-interpretacao-de-texto-2-ano/atividades-de-interpretacao-de-texto-2-ano-a-formiga-viriata/

ESCOLA MUNICIPAL NELSON MANGABEIRA
Professor(a): SILVIA CÉSPEDES MOTA Turma: 2 U Turno: Matutino
Ensino Fundamental I Período de 01/11 a 13/11/2021.
Quantidade de aulas: 08
Nome:_____

CÓDIGO DA HABILIDADE TRABALHADA: MS: EF02MA01 - Comparar e ordenar números naturais (até a ordem de centenas) pela compreensão de características do sistema de numeração decimal (valor posicional e função do zero). EF02MA02 - Fazer estimativas por meio de estratégias diversas a respeito da quantidade de objetos de coleções e registrar o resultado da contagem desses objetos. EF02MA05 - Construir fatos básicos da adição e subtração e utilizá-los no cálculo mental ou escrito. EF02MA06 - Resolver e elaborar problemas de adição e de subtração, envolvendo números de até três ordens, com os significados de juntar, acrescentar, separar, retirar, utilizando estratégias pessoais. EF02MA09 - Construir sequências de números naturais em ordem crescente ou decrescente a partir de um número qualquer, utilizando uma regularidade estabelecida.

CONTEÚDO: SEQUÊNCIA NUMÉRICA E ADIÇÃO

COMPONENTE CURRICULAR: MATEMÁTICA

1- ATIVIDADE SEQUÊNCIA NUMÉRICA

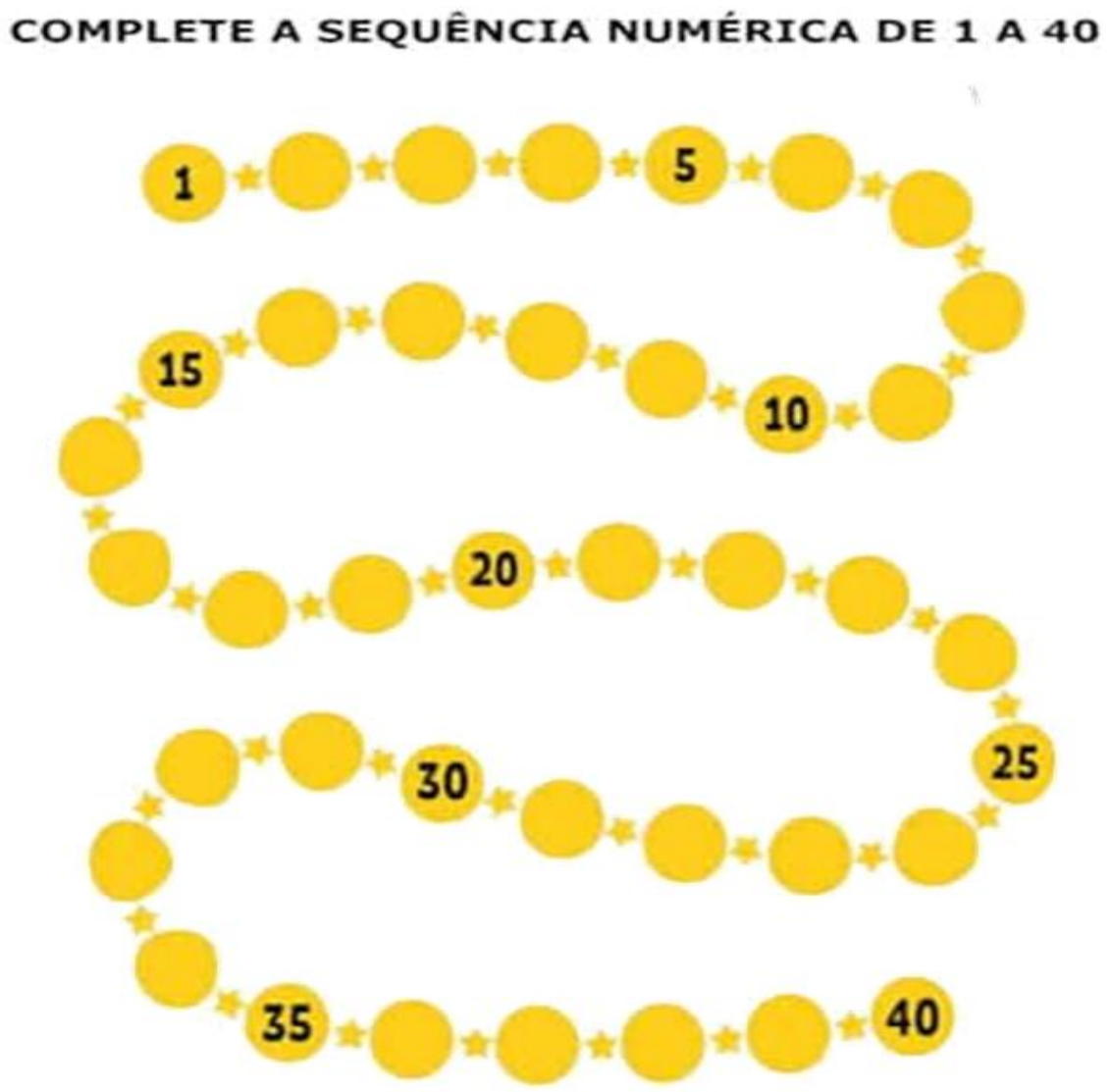

Fonte: https://acessaber.com.br/atividades/atividade-de-matematica-sequencia-numerica-ate-40-1o-ou-2o-ano/

2- ATIVIDADE - CÁLCULO MENTAL

2) COMPLETE OS QUADRINHOS COM OS NÚMEROS FALTOSOS

8 + ☐ =15	9 + ☐ =12	6 + ☐ = 16	8 + ☐ = 16
☐ + 5 = 12	8 + ☐ = 10	☐ + 9 = 18	6 + ☐ = 13
7 + ☐ = 16	☐ + 6 = 11	☐ + 5 = 13	☐ + 7 = 11
☐ + 2 = 11	9 + ☐ = 12	☐ + 2 = 11	8 + ☐ = 12
3 + ☐ = 10	☐ + 5 = 14	3 + ☐ = 12	☐ + 7 = 14

3) DEPOIS DE SOMAR QUE TAL PINTAR AS FIGURAS COM SUAS CORES PREDILETAS?

HAVIAM	CHEGARAM	TOTAL
		4 + 3 = 7
		..... + ... = ...
		..... + ... = ...
		..... + ... = ...
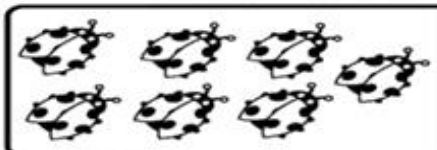	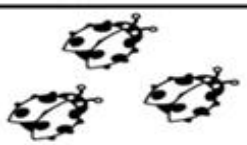	..... + ... = ...

FONTE:https://www.espacoprofessor.com/atividades-de-matematica-2o-ano-adicao-e-subtracao/
http://cantinhomaissaber.blogspot.com/2015/04/adicao-atividades-2-ano.html

ESCOLA MUNICIPAL NELSON MANGABEIRA
Professor(a): SILVIA CÉSPEDES MOTA **Turma: 2 U** **Turno: Matutino**
Ensino Fundamental I **Período de 01/11 a 13/11/2021.**
Quantidade de aulas: 04
Nome:_____

CÓDIGO DA HABILIDADE TRABALHADA: MS: EF02HI05.s.05- Selecionar objetos e documentos pessoais e de grupos próximos ao seu convívio e compreender sua função, seu uso e seu significado

CONTEÚDO: Datas Comemorativas – 19 de novembro Dia da Bandeira

COMPONENTE CURRICULAR: História



Relacione a segunda coluna de acordo com a primeira.

❖ As cores da nossa Bandeira representam:

1 verde	nosso ouro
2 amarelo	nosso céu
3 azul	a paz
4 branco	nossas matas



FONTE: https://atividadespedagogicas.net/2015/01/atividades-dia-da-bandeira-3-ano.html

Marque a frase correta:

- O que está escrito na nossa Bandeira?

◯ Ordem e Construção

◯ Ordem e Progresso

◯ Ordem e Paz

- As estrelas representam:

◯ as cidades

◯ os Estados brasileiros

◯ as Forças Armadas



FONTE: https://www.soescola.com/2017/11/14-atividades-dia-da-bandeira.html/14-atividades-dia-da-bandeira-11?amp

ESCOLA MUNICIPAL NELSON MANGABEIRA
Professor(a): SILVIA CÉSPEDES MOTA **Turma: 2 U** **Turno: Matutino**
Ensino Fundamental I **Período de 01/11 a 13/11/2021.**
Quantidade de aulas: 02
Nome:_____

CÓDIGO DA HABILIDADE TRABALHADA: MS: EF02GE03 - Comparar diferentes meios de transporte e de comunicação, indicando o seu papel na conexão entre lugares, e discutir os riscos para a vida e para o ambiente e seu uso responsável.

CONTEÚDO: Riscos e cuidados nos meios de transporte e de comunicação

COMPONENTE CURRICULAR: Geografia

Marque as alternativas corretas. Quais são os meios de transporte que vemos na imagem abaixo:



( ) Trem, carro, avião, moto
( ) Bicicleta, taxi, ambulância
( ) Avião, ônibus, caminhão, barco
( ) Avião, Balão de Ar, Polícia

Relacione a primeira coluna com a segunda:

(1) Todo motorista de veículo precisa
(2) A cor verde no semáforo indica que
(3) Quando saímos de bicicleta é importante

( ) podemos passar com segurança
( ) andar na faixa de ciclista ou ciclovia
( ) estar atento aos pedestres

Ligue. Quais os riscos e cuidados são apresentados nas imagens abaixo?





Risco ( ) jogar bola na rua

Cuidado ( ) usar a faixa de pedestre ao atravessar a via

FONTE:https://br.pinterest.com/pin - elaborado pela professora Silvia Céspedes Mota do 2 ano U Escola Nelson Mangabeira

DATA 01/11/2021 À 13/11/2021

DISCIPLINA: EDUCAÇÃO FÍSICA

PROFESSORA: LARA CRISTINA

ALUNO(A) _____ 2º U MATUTINO

CÓDIGO DA HABILIDADE :MS.EF.01EFI07.s.07 ,MS.EF.01EF08.s.08

Conteúdo: Pintura referente à data comemorativa ao dia do profissional de Educação Física.

REFERÊNCIA:https://pt.wikipedia.org/wiki/Jogos_Ol%C3%ADmpicos



PINTURA



SECRETARIA MUNICIPAL DE EDUCAÇÃO
Avenida 14 de Março, 656 – Centro – Ladário – MS – CEP: 79370-000
Endereço Eletrônico: educação@ladario.ms.gov
Telefone para contato: 67 3226 2034

2º Ano U CADERNO 14

Educação e Cidadania e Direitos Humanos

Professora: Cristiane

Aluno(a):_____

EF02GE02 Comparar costumes e tradições de diferentes populações inseridas no bairro ou comunidade em que vive, reconhecendo a importância do respeito à diferença.

CONTEÚDO: PROCLAMAÇÃO DA REPÚBLICA

1)Escreva nos quadros abaixo a primeira letra de cada figura e descubra quem proclamou a república no dia 15 de novembro de 1889.



REFERÊNCIA: blog cantinho do saber

SECRETARIA MUNICIPAL DE EDUCAÇÃO
Avenida 14 de Março, 656 – Centro – Ladário – MS – CEP: 79370-000
Endereço Eletrônico: educação@ladario.ms.gov
Telefone para contato: 67 3226 2034

PERÍODO DA ATIVIDADE: 05\11; 13/11/2021

DISCIPLINA ARTE

CÓDIGO DA HABILIDADE TRABALHADA: MS.EF15AR04.s.04

CONTEÚDO: DIA DA BANDEIRA

ATIVIDADE

DIA DA BANDEIRA

1- RESPONDA COM ATENÇÃO!
QUAIS SÃO AS CORES DA BANDEIRA O BRASIL?

2- QUE FRASE ESTÁ ESCRITA NA BANDEIRA DO BRASIL?

3- PINTE CADA QUADRO NA COR QUE INDICA SEU SIGNIFICADO:

☐ NOSSAS MATAS E FLORESTAS ☐ NOSSAS RIQUEZAS ☐ NOSSO CÉU ☐ PAZ

4- VAMOS COLORIR?



https://br.pinterest.com/pin/335166397264819261/?amp_client_id=CLIENT_ID(_)&mweb_unauth_id={{default.session}}&simplified=true

SECRETARIA MUNICIPAL DE EDUCAÇÃO
Avenida 14 de Março, 656 – Centro – Ladário – MS – CEP: 79370-000
Endereço Eletrônico: educação@ladario.ms.gov
Telefone para contato: 67 3226 2034