ESTADO DE MATO GROSSO DO SUL
MUNICÍPIO DE LADÁRIO
SECRETARIA MUNICIPAL DE EDUCAÇÃO
Avenida 14 de março,656 – Centro - Ladário – MS CEP :79370-000
Endereço Eletrônico: educação@ladario.ms.gov
Telefone para contato: 6732262035

ESCOLA MUNICIPAL NELSON MANGABEIRA

ATVIDADES PEDAGOGICAS COMPLEMETARES

CADERNO 01

PROFESSORA: ROSÂNGELA TEIXEIRA PÉCORA/JORCILENE/SUZIANE/LARA/CRISTIANE

ALUNO(A): _____

TURMA: 3° ANO B.

COMPONENTE CURRICULARES: LÍNGUA PORTUGUESA, MATEMÁTCA, HISTÓRIA E GEOGRAFIA

PERIODO: 15/ 03/ 2021 A 31/ 03/ 2021

RETORNO DAS ATIVIDADES PARA UNIDADE ESCOLAR: 15/04/2021

LADARIO, 15 DE MARÇO DE 2021

ESCOLA EDUARDO MALHADO
Endereço: Rua Almirante Barroso 744
Endereço Eletrônico: escolamunicipaleduardomalhado@hotmail.com
Telefone para contato: 6732261435

ESTADO DE MATO GROSSO DO SUL
MUNICÍPIO DE LADÁRIO
SECRETARIA MUNICIPAL DE EDUCAÇÃO
Avenida 14 de março,656 – Centro - Ladário – MS CEP :79370-000
Endereço Eletrônico: educação@ladario.ms.gov
Telefone para contato: 6732262035

QUERIDOS PAIS E/OU RESPONSÁVEIS

Com a nova realidade que acontece o mundo (o novo coronavírus), a Rede Municipal de Educação precisou suspender momentaneamente as suas aulas. No entanto, preocupados com a aprendizagem dos alunos durante este período de distanciamento do ambiente escolar, lança o Caderno de Atividade Pedagógicas Complementar para que nossos alunos não se afastem dos estudos neste momento em que o distanciamento social se fez de extrema necessidade. Este caderno, não apenas traz aos alunos, como traz também um foco muito importante, o do conscientizar alunos e toda comunidade, a respeito do COVID-19(coronavírus). Segundo dados atualizados, metade dos alunos do mundo, encontram-se fora das escolas, totalizando mais de 1bilhao de estudantes em 115 países, desde a Educação Infantil até o Ensino Superior, por causa da proliferação da COVID-19, doença caudada por esses agentes patogênicos.

ESCOLA EDUARDO MALHADO
Endereço: Rua Almirante Barroso 744
Endereço Eletrônico: escolamunicipaleduardomalhado@hotmail.com
Telefone para contato: 6732261435

Quarta-feira 17/03/2021 24/03/2021 31/03/2021

Educação e Cidadania e Direitos Humanos

CÓDIGO DA HABILIDADE:MS.EF03HI02.s.02:Selecionar, por meio de consulta de fontes de diferentes naturezas, e registrar acontecimentos ao longo do tempo, na cidade ou região em que vive.

CONTEÚDO: Valores



PESQUISA:

2) Pergunte aos seus familiares o que são valores:

_____
_____
_____

3) Quais valores sua família considera importante? Escreve no coração.



REFERÊNCIA: www.planetaazul.com.br

EESTADO DE MATO GROSSO DO SUL MUNICÍPIO DE LADÁRIO
SECRETARIA MINICIPAL DE EDUCAÇÃO

ESCOLA: Municipal Nelson Mangabeira.
PROFESSOR (A): Suziane Luzia Barros da Costa **TURMA(S): 3ºB** ENSINO FUNDAMENTAL I TURNO: Matutino **ALUNO (A):**
COMPONENTE CURRICULAR: **Arte** PERÍODO: 15\03\2021 a 26\03\2021 Quantidade de aulas: 02 **Objeto de conhecimento: Dia Mundial da Água** **Habilidade: : MS.EF15AR04.s.04**



Pinterest.com.br

ESTADO DE MATO GROSSO DO SUL
MUNICÍPIO DE LADÁRIO
SECRETARIA MUNICIPAL DE EDUCAÇÃO
Avenida 14 de Março, 656 – Centro – Ladário – MS – CEP: 79370-000
Endereço Eletrônico: educação@ladario.ms.gov
Telefone para contato: 67 3226 2034

PROFESSOR (A):JORCILENE PINHEIRO
PERÍODO: 16/03/2021 a 31/03/2021

TERÇA-FEIRA - 16/ 03/ 2021 -23/ 03/ 2021 -30/03/2021
SEGUNDA–FEIRA- 22/03/2021 -29/03/2021

COMPONENTE CURRICULAR-CIÊNCIAS
3º B

CÓDIGO DA HABILIDADE TRABALHADA:(MS.EF03CI04.s.04
CONTEÚDO: Características e desenvolvimento dos animais

ATIVIDADE

ANIMAIS VERTEBRADOS E INVERTEBRADOS

- Animais que apresentam **ESQUELETO** com crânio e coluna vertebral são chamados de **animais vertebrados**; os que não têm essas características são **animais invertebrados**.

ATIVIDADE 1



ATIVIDADE 2

IDENTIFIQUE OS ANIMAIS VERTEBRADOS E INVERTEBRADOS E ESCRAVA ABAIXO:













LIPITIPI.ORG

VERTEBRADO

INVERTEBRADO

INVERTEBRADO

VERTEBRADO

VERTEBRADO

INVERTEBRADO

ATIVIDADE 3

Responda corretamente às questões

O que são animais vertebrados?

_____

_____

Dê dois exemplos de animais vertebrados:

_____

Os animais vertebrados se dividem em 5 grupos. Quais são eles?

_____

_____

_____

Cicule o animal vertebrado.





REFERÊNCIA:

https://www.soescola.com/2016/11/atividades-de-ciencia-animais.html
https://www.lipitipi.org/2017/09/atividade-animais-vertebrados-e.html
https://atividadespedagogicas.net/2015/02/atividades-ciencias-3-ano-fundamental.html

SEGUNDA-FEIRA 22/ 03 / 2021

EDUCAÇÃO FÍSICA

CÓDIGO DA HABILIDADE TRABALHADA: MS.EF35EF00.s.10

CONTEÚDO: CONHECIMENTO SOBRE O CORPO: CORPO, SAÚDE E ESPAÇO TEMPORAL

ATIVIDADE



REFERÊNCIAS: site Pinterest.com.br / Jornada pedagógica 2021.

ESTADO DE MATO GROSSO DO SUL
MUNICÍPIO DE LADÁRIO
SECRETARIA MUNICIPAL DE EDUCAÇÃO
ESCOLA MUNICIPAL NELSON MANGABEIRA

ALUNO;_____

PROFESSORA: ROSÂNGELA PÉCORA **Quantidades de aulas -11(aulas)**

SÉRIE: 3º ANO B **PERÍODO:17-18-19-22-23-24-25-26-29-30-31-/03/2021**

COMPONENTE CURRICULAR; LINGUA PORTUGUESA

HABILIDADES: (MS.EF03LP01.s.01)- (MS.EF35LP03.s.03)- (MS.EF35LP04).s -03)

1) LIGUE AS LETRAS DE IMPRENSA ÀS LETRAS CURSIVAS.

A	
E	
I	
O	
U	





a	
e	
i	
o	
u	

2) ESCREVA A PRIMEIRA LETRA DO NOME DAS FIGURAS ABAIXO.











3) COMPLETE O QUADRO COM AS VOGAIS QUE SE PEDEM.

IMPRENSA MAIÚSCULA	CURSIVA MAIÚSCULA	CURSIVA MINÚSCULA
A		
E		
I		
O		
U		

ORGANIZE AS PALAVRAS E ESCREVA A MÚSICA O CRAVO E A ROSA.

brigou rosa O com cravo

uma Debaixo sacada de

ficou O ferido cravo

despedaçada. a rosa E

cravo doente O ficou

foi A visitar rosa

um deu desmaio cravo O

rosa chorar. E a pôs-se



O alfabeto segue uma certa ordem. É a **ordem alfabética**. Coloque os nomes dos animais abaixo em ordem alfabética.

formiga	hipopótamo	macaco	onça
zebra	paca	gambá	novilho
cavalo	tatu	dragão	quati
javali	sapo	arara	urubu
borboleta	rato	içá	vaca
leão	ema	yorkshire	koala
wombat	xexéu		

a		n	
b		o	
c		p	
d		q	
e		r	
f		s	
g		t	
h		u	
i		v	
j		w	
k		x	
l		y	
m		z	

Educação e Transformação

Fonemas e letras



♦ Agora, complete os quadros:

Colega . . . letras . . . fonemas	**Terraço** . . . letras . . . fonemas	**Passador** . . . letras . . . fonemas
Sonho . . . letras . . . fonemas	**Chaveiro** . . . letras . . . fonemas	Tem sete letras e seis fonemas. PALHÇO
Pássaro . . . letras . . . fonemas	**Abelha** . . . letras . . . fonemas	

ESTADO DE MATO GROSSO DO SUL
MUNICÍPIO DE LADÁRIO
SECRETARIA MUNICIPAL DE EDUCAÇÃO
ESCOLA MUNICIPAL NELSON MANGABEIRA

ALUNO:_____

SÉRIE: 3º ANO B **PERÍODO: 16-18-19-22-23-25-26-29-30/03/202**

PROFESSORA: ROSÂNGELA PÉCORA - **Quantidades de aulas -09(aulas)**

COMPONENTE CURRICULAR: MATEMÁTICA.

HABILIDADES: **(MS.EF03MA01.s.01)-** **(MS.EF03MA02.s.02)-** **(MS.EF03MA04.s.04)-**

CAÇA-NÚMEROS

- Encontre, no caça-números, os números abaixo:

Vinte e seis = _____	Vinte e dois = _____	Dezessete = _____
Dez = _____	Vinte e cinco = _____	Trinta e nove = _____
Dezesseis = _____	Vinte e um = _____	Dezoito = _____
Vinte e sete = _____	Dezenove = _____	Trinta e um = _____



1	3	0	9	5	4	2	1	3	4
3	2	7	6	2	5	0	3	0	9
4	3	1	8	5	1	1	6	7	0
5	2	5	1	2	6	3	2	9	6
1	7	2	6	1	9	2	9	2	1
2	2	7	0	3	3	1	4	6	5
5	1	0	3	2	0	3	2	6	0
2	4	4	2	5	4	5	1	2	4
0	3	1	6	1	2	1	7	4	1
3	1	6	0	3	9	3	3	1	5

- Agora, escreva o antecessor e o sucessor de cada um deles:

26	16	32	17
25	10	27	21
19	39	18	31

FIQUE LIGADO

Decomponha os numerais em dezenas e unidades.

15	27	30	11
D U	D U	D U	D U
44	72	59	7
D U	D U	D U	D U
26	62	83	94
D U	D U	D U	D U



MAIOR QUE >

O CONJUNTO DE FLORES TEM MAIS ELEMENTOS QUE O CONJUNTO DE FOLHAS. PORTANTO, O CONJUNTO DE FLORES É **MAIOR QUE** O CONJUNTO DE FOLHAS.

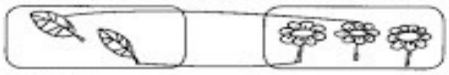

- ESTE É O SINAL **MAIOR QUE (>).**
- NÓS O REPRESENTAMOS ASSIM: **3 > 2**
- LEMOS: TRÊS É MAIOR QUE DOIS.

1) OBSERVE O EXEMPLO E FAÇA O MESMO.

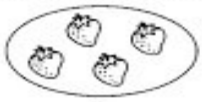

4 **>** **3**







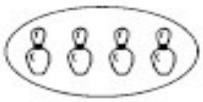



MENOR QUE <

O CONJUNTO DE FLORES TEM MENOS ELEMENTOS QUE O CONJUNTO DE ESTRELAS. PORTANTO, O CONJUNTO DE FLORES É **MENOR QUE** O CONJUNTO DE ESTRELAS.

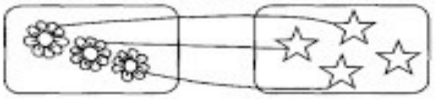

- ESTE É O SINAL **MENOR QUE (<).**
- NÓS O REPRESENTAMOS ASSIM: **3 < 4**
- LEMOS: TRÊS É MENOR QUE QUATRO.

1) FAÇA AS CORRESPONDÊNCIAS ENTRE OS ELEMENTOS. DEPOIS, COMPLETE COM O NUMERAL E O SINAL CORRESPONDENTE.





_____ ..... _____





_____ ..... _____





ESTADO DE MATO GROSSO DO SUL
MUNICÍPIO DE LADÁRIO
SECRETARIA MUNICIPAL DE EDUCAÇÃO
ESCOLA MUNICIPAL NELSON MANGABEIRA

ALUNO:_____

SÉRIE: 3º ANO B **PERÍODO: 19-23-26-30/03/2021**

PROFESSORA: ROSÂNGELA PÉCORA - **Quantidades de aulas -05(aulas)**

COMPONENTE CURRICULAR: GEOGRAFIA.

HABILIDADES: (MS.EF03GE01.s.01)

4 – Observe a imagem abaixo e responda:



a) Há transformações nesta paisagem?_____

b) O que o homem fez nesta paisagem?_____

_____

5 – Marque com um x o que tem na zona rural e na zona urbana.

	ZONA URBANA	ZONA RURAL
ESTRADAS DE TERRA		
MUITAS CASAS E PRÉDIOS		
CARROS, ÔNIBUS, CAMINHÕES...		
CASAS SIMPLES		
CARROS DE BOI E CARROÇAS		
GRANDES AVENIDAS		
MUITAS LOJAS		
POUCOS MORADORES		
MUITAS PLANTAÇÕES		
RUAS ASFALTADAS E MOVIMENTADAS		
FUMAÇA DE FABRICAS		
CRIAÇÃO DE GADO		

ESTADO DE MATO GROSSO DO SUL
MUNICÍPIO DE LADÁRIO
SECRETARIA MUNICIPAL DE EDUCAÇÃO
ESCOLA MUNICIPAL NELSON MANGABEIRA

ALUNO:_____

NOME:_____

SÉRIE: 3º ANO B **PERÍODO: : 17-22-24-29-31/03/2021**

PROFESSORA: ROSÂNGELA PÉCORA - **Quantidades de aulas -05(aulas**

COMPONENTE CURRICULAR: HISTÓRIA.

HABILIDADES: (EF02HI03)- (EF02HI08) .

A comunidade familiar

O pai, a mãe, os filhos formam uma família,

Os avós, os tios, os primos, também fazem parte da família. Eles são os nossos parentes. A família é o primeiro grupo de pessoas com quem convivemos. esse grupo forma a comunidade familiar.

Em algumas famílias, o pai e a mãe, se separam e vão morar em casas diferentes. Então os filhos passam a morar na casa do pai ou na casa da mãe.

Existem crianças que são criadas por outras pessoas. Quando essas pessoas não são parentes, as crianças passam a fazer parte de uma outra comunidade familiar.

1.Escreva os nomes do seu pai e de sua mãe:

.....

2.Escreva o nome de seus avós paternos e maternos:

.....

.....

3.Escreva o nome de algum tio ou tia:

.....

4.Escreva o nome de algum primo ou prima:

.....

◎ **As comunidades não são iguais.**
Veja alguns grupos diferentes que formam uma comunidade

► **Relacione.**

✷ A família.

✷ Os moradores de uma rua, bairro ou cidade.

✷ Pessoas que freqüentam uma igreja.



► **Responda:**

❖ O que é comunidade?

.....

.....

.....

► **Faça um desenho representando sua família:**