ESTADO DE MATO GROSSO DO SUL
MUNICÍPIO DE LADÁRIO
SECRETARIA MUNICIPAL DE EDUCAÇÃO
Avenida 14 de Março, 656 – Centro – Ladário – MS – CEP: 79370-000
Endereço Eletrônico: educação@ladario.ms.gov
Telefone para contato: 67 3226 2034

ESCOLA MUNICIPAL MARQUÊS DE TAMANDARÉ

ATIVIDADES PEDAGÓGICAS COMPLEMENTARES

CADERNO II

PROFESSOR (A): Danielly Gonçalves dos Santos.

ALUNO (A): _____.

TURMA: 6º ANO A.

COMPONENTE CURRICULAR: LÍNGUA PORTUGUESA

PERÍODO: 16/03/2021 a 31/03/2021.

RETORNO DAS ATIVIDADES PARA UNIDADE ESCOLAR: _____/_____/_____.

LADÁRIO, ___ DE _____ DE 2021.

ESTADO DE MATO GROSSO DO SUL
MUNICÍPIO DE LADÁRIO
SECRETARIA MUNICIPAL DE EDUCAÇÃO
Avenida 14 de Março, 656 – Centro – Ladário – MS – CEP: 79370-000
Endereço Eletrônico: educação@ladario.ms.gov
Telefone para contato: 67 3226 2034

QUERIDOS PAIS E/OU RESPONSÁVEIS

Com a nova realidade que acomete o mundo (o novo Coronavírus), a Rede Municipal de Educação precisou suspender momentaneamente as suas aulas. No entanto, preocupados com a aprendizagem dos alunos durante este período de distanciamento do ambiente escolar, lança o Caderno de Atividades Pedagógicas Complementares para que nossos alunos não se afastem dos estudos neste momento em que o distanciamento social se faz de extrema necessidade. Este caderno, não apenas traz atividades aos alunos, como traz também um foco muito importante, o de conscientizar alunos e toda comunidade, a respeito do COVID-19 (Coronavírus). Segundo dados atualizados, metade dos alunos do mundo, encontram-se fora das escolas, totalizando mais de 1 bilhão de estudantes em 115 países, desde a Educação Infantil até o Ensino Superior, por causa da proliferação da COVID-19, doença causada por esse agente patogênico.

ESTADO DE MATO GROSSO DO SUL
MUNICÍPIO DE LADÁRIO
SECRETARIA MUNICIPAL DE EDUCAÇÃO
Avenida 14 de Março, 656 – Centro – Ladário – MS – CEP: 79370-000
Endereço Eletrônico: educação@ladario.ms.gov
Telefone para contato: 67 3226 2034

TERÇA-FEIRA: 16/3,23/3,30/3

SEXTA-FEIRA: 19/3, 26/3

LÍNGUA PORTUGUESA

CÓDIGO DA HABILIDADE TRABALHADA: MSEF67LP28526 MSEF69LP08

CONTEÚDO: Pesquisa, leitura e interpretação textual

1- **Pesquise em dicionários ou internet: o que é fábula?**
2- **Leia atentamente:**

O cavalo e o burro

O cavalo e o burro seguiam juntos para a cidade. O cavalo, contente da vida, folgando com a carga de quatro arrobas, e o burro – coitado! Gemendo sob o peso de oito. Em certo ponto o burro parou e disse:
- Não posso mais! Esta carga excede às minhas forças e o remédio é repartirmos o peso irmanamente, seis arrobas para cada um.
O cavalo deu um pinote e relinchou uma gargalhada.
- Ingênuo! Quer então que eu arque com seis arrobas quando posso bem continuar com as quatro? Tenho cara de tolo?
O burro gemeu:
- Egoísta! Lembre-se que se eu morrer você terá que seguir com a carga das quatro arrobas mais a minha.
O cavalo pilheriou de novo e a coisa ficou por isso. Logo adiante, porém, o burro tropica, vem ao chão e rebenta.
Chegam os tropeiros, maldizem da sorte e sem demora arrumam as oito arrobas do burro sobre as quatro do cavalo egoísta. E como o cavalo refuga, dão-lhe de chicote em cima, sem dó nem piedade.
-Bem feito! – exclamou um papagaio. Quem o mandou ser mais burro que o pobre burro e não compreender que o verdadeiro motivo era aliviá-lo da carga em excesso? Tome! Gema dobrado agora.

(Monteiro Lobato, Fábulas)

1- **Que características podem ser identificadas para que o texto seja classificado como fábula?**
2- **Na fábula acima, por que o cavalo e o burro se desentenderam?**
3- **Que ensinamento essa fábula transmite?**
4- **Escreva uma moral para o texto lido.**
5- **Quais são os personagens dessa fábula?**
6- **Circule no texto as palavras que você não conhece o significado.**

Bons estudos.

ESTADO DE MATO GROSSO DO SUL
MUNICÍPIO DE LADÁRIO
SECRETARIA MUNICIPAL DE EDUCAÇÃO
Avenida 14 de Março, 656 – Centro – Ladário – MS – CEP: 79370-000
Endereço Eletrônico: educação@ladario.ms.gov
Telefone para contato: 67 3226 2034

QUINTA-FEIRA 18/03/2021 – 25/03/2021

SEXTA – FEIRA 19/03/2021 - 26/03/2021

MATEMATICA

CÓDIGO DA HABILIDADE TRABALHADA: (MS.EF06MA03.s.03)

CONTEÚDO: Números Naturais

ATIVIDADE

1. Complete a cruzadinha com os resultados das operações propostas:

a) 1 345 654 897
+ 2 678 098 987
_____

b) 1 000 678
– 234 065
_____

c) 445 690
+ 768 201
908 213
_____

d) 2 456 703
– 1 087 023
_____

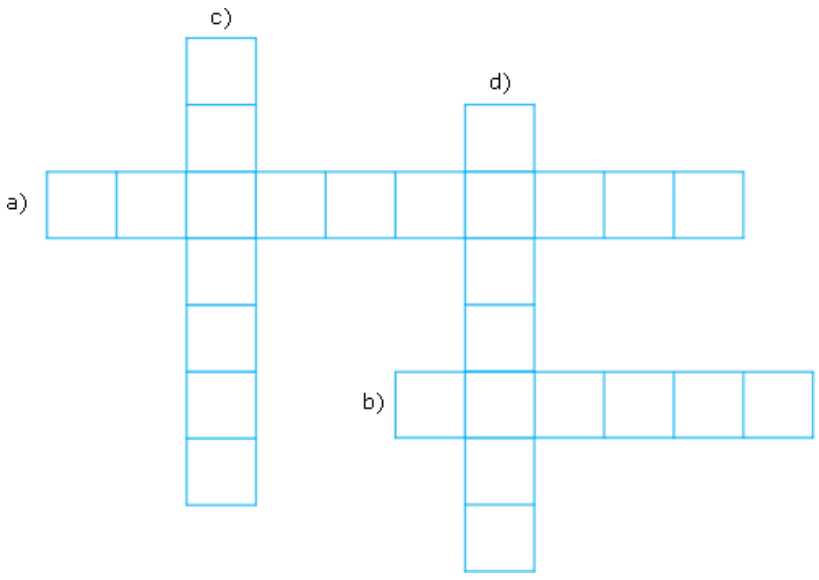

2. Dom Pedro I foi o primeiro imperador do Brasil. Ele nasceu em 12/10/1798 e faleceu em 24/09/1834.

a) Quantos anos Dom Pedro I estava para completar no ano em que morreu?

Resp.: _____

b) Há quantos anos ele faleceu?

Resp.: _____

3. Se em uma sala de aula estão dispostos 41 cartazes com trabalhos, e 24 são das meninas, quantos cartazes são dos meninos, supondo que não há cartazes de autoria mista?

Resp.: _____

4. Mônica e Luíza são irmãs. Mônica possui 256 papéis de carta em sua coleção, e Luíza, 89 papéis a mais que Mônica. Quantos papéis de carta possuem as duas juntas?

Resp.: _____

5. Uma calculadora possui uma tecla **x,** que, quando acionada, aumenta 234 unidades. Qual será o resultado se uma pessoa digitar o número 176, a tecla + a seguir, o número 67 e, finalmente, a tecla **x**?

Resp.: _____

6. Uma biblioteca recebeu 129 livros de literatura infanto-juvenil. Como já possuía 1 456 livros desse gênero, quantos livros de literatura infanto-juvenil essa biblioteca possui agora?

Resp.:

_____

REFERÊNCIAS:http://conteudoonline.objetivo.br/MP

ESTADO DE MATO GROSSO DO SUL
MUNICÍPIO DE LADÁRIO
SECRETARIA MUNICIPAL DE EDUCAÇÃO
Avenida 14 de Março, 656 – Centro – Ladário – MS – CEP: 79370-000
Endereço Eletrônico: educação@ladario.ms.gov
Telefone para contato: 67 3226 2034

SEGUNDA FEIRA 22/ 03 / 2021 – 29/03/2021

QUARTA FEIRA 17/ 03 / 2021 – 24/03/2021– 31/03/2021

QUINTA FEIRA 18/ 03 / 2021 – 25/03/2021

HISTÓRIA

CÓDIGO DA HABILIDADE TRABALHADA: MS.EF06.HI04 / MS.EF06.HI06

Chegando à América

A hipótese tradicional propõe que o ser humano chegou ao continente americano atravessando uma ponte de gelo ou terras emersas na região do **Estreito de Bering**, entre os atuais Estados Unidos e Rússia.

Segundo essa hipótese, alguns cientistas afirmam que a chegada dos primeiros grupos teria acontecido há cerca de 20 mil anos, durante a última glaciação, época em que a temperatura do planeta esteve extremamente baixa e as geleiras avançaram dos pólos em direção ao equador.

Esses primeiros ocupantes da América, que teriam vindo das atuais Mongólia e Sibéria, na Ásia, seriam caçadores e estariam perseguindo suas presas quando fizeram a travessia para a América do Norte. Tudo indica que, naquele momento, o nível do mar estava aproximadamente 150 metros mais baixo do que atualmente, formando assim uma sólida faixa de gelo. Essa camada de gelo teria se desfeito quando a temperatura do planeta subiu, dando origem ao atual Estreito de Bering.

A migração de seres humanos através do Estreito de Bering não pode ser descartada, mas é provável que tenham existido outros caminhos. É possível também que homens e mulheres tenham chegado ao continente americano muito antes dessa data.

RESPONDA DE ACORDO COM O TEXTO ACIMA:

1. Segundo a hipótese tradicional como o homem chegou no Continente Americano?

_____
_____.

2. Segundo a hipótese tradicional o homem chegou no Continente Americano há quanto tempo?

_____
_____.

3. De onde os Americanos vieram?

_____
_____.

REFERÊNCIAS: "Origem do homem americano e brasileiro" em *Só História*. Virtuous Tecnologia da Informação, 2009-2021.

ESTADO DE MATO GROSSO DO SUL
MUNICÍPIO DE LADÁRIO
SECRETARIA MUNICIPAL DE EDUCAÇÃO
Avenida 14 de Março, 656 – Centro – Ladário – MS – CEP: 79370-000
Endereço Eletrônico: educação@ladario.ms.gov
Telefone para contato: 67 3226 2034

16/03/2021 a 31/03/2021

GEOGRAFIA

CÓDIGO DA HABILIDADE TRABALHADA:(MS.EF06GE01.s.02)

CONTEÚDO: Comparar modificações das paisagens nos lugares de vivência e os usos desses lugares em diferentes tempos.

ATIVIDADE

1-Enumere a segunda coluna a partir da primeira com base nos conceitos de paisagem natural e paisagem cultural:

Coluna 01

(1) Paisagem Natural
(2) Paisagem Cultural

Coluna 02

( ) Parque ambiental criado no espaço urbano de uma cidade
( ) Reserva ambiental em área rural
( ) Hotel fazenda reservado para o turismo
( ) Floresta equatorial não ocupada pelo homem
( ) A rua de uma cidade industrializada
( ) Área do espaço urbano dedicada à promoção de práticas culturais

2-*A paisagem reproduz a expressão de vários tempos, ou seja, o contexto histórico em que ela foi construída. Caracteriza-se pelos elementos que foram inseridos ao longo do tempo e que coexistem com os atuais. Construções, casas, prédios, armazéns, ruas praças e a distribuição deles no espaço compõem os elementos de uma paisagem e podem sofrer transformações ou permanecer inalterados.*
MARTINS, D. et al. *Geografia sociedade e cotidiano*: fundamentos. Volume 01, 3ª ed. São Paulo: escala educacional, 2013. p.27

Diante dessa perspectiva, pode-se afirmar que:
I. Toda paisagem resulta da transformação ocasionada pela ação humana.
II. A paisagem expressa a história das práticas sociais e naturais.
III. Os elementos de uma paisagem podem transformar-se ao longo do tempo.
IV. A construção do espaço geográfico corresponde a uma transformação das paisagens.

Estão corretas as afirmativas:
a) I e II b) II e III c) II, III e IV d) I, III e IV e) Todas estão corretas.

REFERÊNCIAS: TORREZANI, Neiva Camargo Vontade de saber geografia, Neiva Camargo Torrezani. – 2. ed. – São Paulo : FTD, 2015

ESTADO DE MATO GROSSO DO SUL
MUNICÍPIO DE LADÁRIO
SECRETARIA MUNICIPAL DE EDUCAÇÃO
Avenida 14 de Março, 656 – Centro – Ladário – MS – CEP: 79370-000
Endereço Eletrônico: educação@ladario.ms.gov
Telefone para contato: 67 3226 2034

PERÍODO: 16/03/2021 a 31/03/2021

6º ANO A (16 TERÇA -FEIRA / 17 QUARTA –FEIRA/ 23 TERÇA- FEIRA/ 24 QUARTA – FEIRA / 30 TERÇA- FEIRA/ 31 QUARTA –FEIRA)

6º ANO B (18 QUINTA –FEIRA / 19 SEXTA –FEIRA/ 25 QUINTA-FEIRA/ 26 SEXTA –FEIRA)

LÍNGUA INGLESA

CÓDIGO DA HABILIDADE TRABALHADA: MS.EF06LI02.s.02

CONTEÚDO: Construção de laços afetivos e convívio social

ATIVIDADE

EXPLICACÃO PARA PODER DESENVOVLVER A ATIVIDADE SEGUINTE : SERÃO PERGUNTAS COM AS TRADUÇOES, LEIA-AS.

What´s your name? Qual o seu nome ?

My name is Paulo. Meu nome é Paulo.

Where do you live? Aonde você vive?

I live Corumbá. Eu moro em Corumbá.

What langague do you speak? Qual a idioma você fala?

I speak Portuguese. Eu falo Portugues.

How old are you? Qual a sua idade?

Iam 15 years old. Eu tenho quinze anos.

What´s your favorite food? Qual a sua comida favorite?

My favorite food is strognoff. Minha comida favorita é strogonoff.

Text: Talking to the class – Leia o Texto abaixo e faça a interpretação.
SERÁ NECESSÁRIO TRADUZIR O TEXTO, DÚVIDAS ESTAREI NO WHATSAPP PARA AJUDA-LO

Teacher: Good morning, class!

Class: Good morning!

Teacher: My name's Renata Costa. I'm your English Teacher.

Class: Hello, Miss Costa!

Teacher: Let's call the roll… Number one?

Girl: Present!

Teacher: What's your name, number one?

Girl: My name is Amanda.

Teacher: Number two?

Boy: Present!

Teacher: What's your name, number two?

Boy: My name is Daniel. I'm Dan!

Teacher: Thank you, Dan!

1-Que expressão a professora usa para cumprimentar os alunos?

R: _____

2- Em que período do dia a aula está acontecendo?

R: _____

3- Com que frase, em inglês, a professora diz o seu nome?

R: _____

4- Como a professora pergunta o nome do primeiro aluno, em inglês?

R: _____

5- Com que expressão a professora agradece a Daniel?

R: _____

REFERÊNCIAS: http://meriti.rj.gov.br/home/wp-content/uploads/2020/04/6-ANO-INGLES-1.pdf

ESTADO DE MATO GROSSO DO SUL
MUNICÍPIO DE LADÁRIO
SECRETARIA MUNICIPAL DE EDUCAÇÃO
Avenida 14 de Março, 656 – Centro – Ladário – MS – CEP: 79370-000
Endereço Eletrônico: educação@ladario.ms.gov
Telefone para contato: 67 3226 2034

8°A Segunda-feira (01, 8,15) Sexta-feira (05, 12)

CIÊNCIAS

CÓDIGO DA HABILIDADE TRABALHADA: MSEF06CI01 Classificar como mistura homogênea ou heterogênea a mistura de dois ou mais materiais

CONTEÚDO: Misturas homogêneas e heterogêneas

ATIVIDADES

1)O que são misturas?

2) A água mineral filtrada(sem gás) é:

A) substância pura

B) mistura heterogênea

C) mistura homogênea

3) Analise as afirmativas a seguir e julgue como verdadeiro (V) ou falso (F).

( ) Na filtração o sólido e o líquido são separados pela diferença do tamanho das partículas.

( ) A centrifugação é um processo de decantação acelerado pela força da gravidade.

( ) A separação na cromatografia é realizada pela interação dos componentes da mistura com a fase móvel e a fase estacionária.

4) Descreva o processo de filtração. (utilize o verso para responder)

REFERÊNCIAS

GODOY, LEANDRO, Ciências -Vida e Universo, 1° edição, São Paulo, FDT,2018.

QUARTA-FEIRA (17,24 e 31)

PROJETO DE VIDA

CÓDIGO DA HABILIDADE TRABALHADA: **Código não existente**

CONTEÚDO: Eu transformador

ATIVIDADE

Você irá analisar seu rosto e o seu corpo no espelho . Observe sua altura, a cor dos seus olhos, o formato do nariz, do seu rosto, a posição das sobrancelhas , a cor do cabelo e outros.

Você deverá se concentrar naquilo que mais gosta em Você, ou seja perceber é destacar os seus pontos mais fortes.
Em seguida, numa folha de papel, irá desenhar ou escrever aquilo que observou em Você. Capriche!

REFERÊNCIAS:

almirantecustodio@blogpost.com.Acesso em 03/03/2021

ESTADO DE MATO GROSSO DO SUL
MUNICÍPIO DE LADÁRIO
SECRETARIA MUNICIPAL DE EDUCAÇÃO
Avenida 14 de Março, 656 – Centro – Ladário – MS – CEP: 79370-000
Endereço Eletrônico: educação@ladario.ms.gov
Telefone para contato: 67 3226 2034

6º ANO A QUARTA FEIRA – 16/03/2021 – 31/03/2021.

6º ANO B SEXTA FEIRA – 16/03/2021 – 31/03/2021.

ARTE

CÓDIGO DA HABILIDADE TRABALHADA: MS.EF69AR01.s.01 - MS.EF69AR06.s.06.

CONTEÚDO: ARTE RUPESTRE.

ATIVIDADE

OBSERVE AS IMAGENS E OS ELEMENTOS RETRATADOS ABAIXO SOBRE A ARTE RUPESTRE. ESCOLA DEZ FIGURAS E FAÇA A SUA ARTE COLORINDO DE ACORDO COM O SEU GOSTO E LEITURA RUPESTRE. UTILIZE O VERSO DESTA MESMA FOLHA PARA REALIZAÇÃO DO TRABAHO.







REFERÊNCIAS: https://encrypted-tbn0.gstatic.com/images?q=tbn:ANd9GcRxfOM6hizGVjcBbyru3Q7G2qg3c9GbWd-yGg&usqp=CAU

ESTADO DE MATO GROSSO DO SUL
MUNICÍPIO DE LADÁRIO
SECRETARIA MUNICIPAL DE EDUCAÇÃO
Avenida 14 de Março, 656 – Centro – Ladário – MS – CEP: 79370-000
Endereço Eletrônico: educação@ladario.ms.gov
Telefone para contato: 67 3226 2034

PERÍODO:16/03/2021 À 31/03/2021 (22 segunda; 29 segunda)

EDUCAÇÃO FÍSICA

CÓDIGO DA HABILIDADE TRABALHADA:(MS.EF67EF04.s.04) Praticar um ou mais esportes de marca, precisão, invasão e técnico-combinatórios oferecidos pela escola, usando habilidades técnico-táticas básicas e respeitando regras.

CONTEÚDO: Esporte Atletismo

ATIVIDADE

1. O ATLETISMO SURGIU NA GRÉCIA ANTIGA. É UM CONJUNTO DE ATIVIDADES FÍSICAS, RELACIONADA À RESISTÊNCIA FÍSICA DO HOMEM.

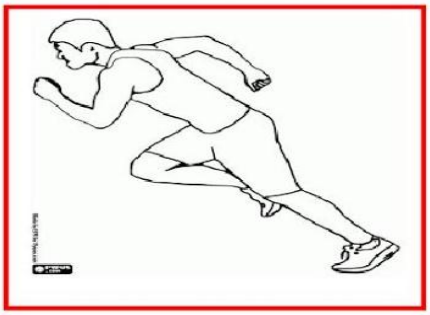

A) ESSA IMAGEM SE REFERE A QUE TIPO DE ESPORTE?

☐ BOXE

☐ ATLETISMO

2. COMPLETE CONFORME O TEXTO:

O ATLETISMO SE DEFINE COMO UM CONJUNTO DE ATIVIDADES _____, RELACIONADA À _____ FÍSICA DO _____.

3. ATUALMENTE O ATLETISMO É DESENVOLVIDO COM PROVAS DE CORRIDA, SALTOS, ARREMESSO E LANÇAMENTOS EM DIFERENTES AMBIENTES, TAIS COMO CAMPO E PISTA.

A) PINTE A RESPOSTA QUE CORRESPONDE À FIGURA.



SALTO COM VARA



ARREMESSO DE DISCO



CORRIDA COM OBSTÁCULO

CORRIDA

CORRIDA DE REVEZAMENTO

ARREMESSO DE DARDO



ARREMESSO DE MARTELO



CORRIDA COM OBSTÁCULO



CORRIDA

MARCHA ATLÉTICA

SALTO COM VARA

ARREMESSO DE DISCO

REFERÊNCIAS: https://madalenaclaudia.blogspot.com