ESCOLA MUNICIPAL EDUARDO MALHADO.

LADÁRIO, _____ DE _____ DE _____.

PROFESSORA: _____

NOME: _____ SÉRIE: 1 ° ANO _____

HABILIDADE- MS(E.F01CI02) PERÍODO: 10/02 a 26/02/2021.

CIÊNCIAS: O CORPO HUMANO – OS ÓRGÃOS DOS SENTIDOS

Cuidados com os órgãos dos sentidos

- **Olhos:** Usar óculos quando o médico receitar; evitar esfregar os olhos com as mãos; não usar óculos de outras pessoas; não ler em local mal iluminado.
- **Língua:** Escová-la sempre que for escovar os dentes. Cuide bem dos dentes usando escova, pasta e fio dental. Os dentes são importantes para a alimentação, para a fala e aparência das pessoas.
- **Pele:** Mantenha o corpo, os pés e as mãos sempre limpos.
- **Ouvidos:** Limpá-los somente com cotonete. Não usar grampos nem palito.
- **Nariz:** Usar lenço de papel para limpá-lo. Evite colocar o dedo no nariz.



▸ **Escreva o nome de cada órgão dos sentidos:**



CRUZADINHA DOS SENTIDOS

OBSERVE OS DESENHOS E COMPLETE A CRUZADINHA:

1) ANINHA SENTE O GOSTO DO SORVETE COM A _____.

2) ANINHA VIU O QUADRO COM OS _____.

3) ZEZINHO ESCUTA A MÚSICA COM OS _____.

4) ANINHA SENTE O CHEIRO DO PERFUME COM O _____.

5) ANINHA PEGA O ESPELHO COM AS _____.



ESCOLA MUNICIPAL EDUARDO MALHADO.

LADÁRIO, _____ DE _____ DE _____.

PROFESSORA: _____

NOME: _____ SÉRIE: 1 ° ANO _____

HABILIDADE- MS(E.F01CI02) PERÍODO: 10/02 a 26/02/2021.

CIÊNCIAS: O CORPO HUMANO – OS ÓRGÃOS DOS SENTIDOS

LOTERIA DOS SENTIDOS

- Marcar com um **X** os órgãos dos sentidos que usamos, de acordo com o desenho.

OBJETOS				
				
				
				
				
				
				
				

VAMOS LIGAR OS DESENHOS DA DIREITA COM OS DA ESQUERDA, QUE CORRESPONDEM A UM DOS SENTIDOS.

 * *  POSSO OUVIR

 * *  POSSO SENTIR O SABOR

 * *  POSSO TOCAR

 * *  POSSO CHEIRAR

 * *  POSSO VER

ESCOLA MUNICIPAL EDUARDO MALHADO.

LADÁRIO, _____ DE _____ DE _____

NOME: _____ SÉRIE: 1° ANO____

CIÊNCIAS- CORPO HUMANO (FASES DA VIDA)

HABILIDADE- MS(E.F01CI06) PERÍODO: 10/02 a 26/02/2021.

Os seres vivos apresentam etapas em sua vida

Todos os seres vivos passam por diferentes etapas em sua vida, podemos dizer no geral que os seres vivos **nascem**, **crescem,** podem se **reproduzir**, **envelhecem** e depois de algum tempo **morrem**. Chamamos o conjunto dessas etapas de **Etapas da Vida**.



Nascer Crescer Reproduzir Envelhecer



Para não esquecer!

Os seres humanos são seres vivos que apresentam etapas na vida: nascem, crescem, podem se reproduzir, envelhecem e depois morrem.

A **gestação** de um ser humano leva aproximadamente 9 meses para se completar e depois de nascer, os seres humanos passam pelas etapas da **INFÂNCIA**, **ADOLESCÊNCIA**, **ADULTA** E **VELHICE**.

QUESTÃO 1

OS SERES HUMANOS PASSAM POR DIFERENTES FASES AO LONGO DA VIDA.

NUMERE CADA FIGURA, DE ACORDO COM A PLAQUINHA DA FASE DA VIDA DO SER HUMANO.

1 - adolescência | 2 - criança | 3 - bebê | 4 - velhice | 5 - adulta



QUESTÃO 2:

DE ACORDO COM A LEGENDA, NUMERE AS PRINCIPAIS PARTES DO CORPO HUMANO.

1- Cabeça
2- Tronco
3-Membros Inferiores
4- Membros Superiores



(Google imagens)

QUESTÃO 3:

CASCÃO ADORA PRATICAR ATIVIDADES FÍSICAS, POIS SABE QUE PRATICÁ-LAS É FUNDAMENTAL PARA SE TER UMA BOA SAÚDE.

A ATIVIDADE FÍSICA PREFERIDA DE CASCÃO É JOGAR FUTEBOL. OBSERVE A FIGURA E MARQUE UM (X) NA ALTERNATIVA CORRETA.



A) QUAL A PARTE PRINCIPAL DO CORPO QUE ELE USA EM SEU EXERCÍCIO PREFERIDO?

( ) MÃOS. ( ) PÉS. ( ) CABEÇA.

B) QUAL O BRINQUEDO UTILIZADO NO EXERCÍCIO DO CASCÃO?

( ) BOLA. ( ) BONECO. ( ) PETECA.

C) O BRINQUEDO UTILIZADO POR ELE É ANTIGO OU MODERNO?

( )ANTIGO. ( ) MODERNO.

ESCOLA MUNICIPAL EDUARDO MALHADO.

LADÁRIO, _____ DE _____ DE _____

NOME: _____ SÉRIE: 1° ANO____

CIÊNCIAS- CORPO HUMANO (FASES DA VIDA)

HABILIDADE- MS(E.F01CI06) PERÍODO: 10/02 a 26/02/2021.

VOCÊ VIU QUANTAS COISAS JÁ ACONTECERAM NA SUA VIDA?
E NO FUTURO, O QUE VOCÊ ACHA QUE VAI ACONTECER?
AS MUDANÇAS QUE ACONTECEM COM O PASSAR DO TEMPO
MARCARAM AS ETAPAS DA VIDA DE UMA PESSOA.

QUESTÃO 01:

OBSERVE AS FIGURAS DAS PESSOAS ABAIXO E CLASSIFIQUE-AS DE ACORDO COM A FASE DA VIDA EM QUE SE ENCONTRAM, LIGANDO CORRETAMENTE:

INFÂNCIA	ADOLESCÊNCIA	BEBÊ	ADULTO



AS DIFERENTES ETAPAS DA VIDA DO SER HUMANO, DA PLANTA E DE UM ANIMAL FORMAM O SEU CICLO DE VIDA.

QUESTÃO 02: OBSERVE O CICLO DE VIDA DO ANIMAL ABAIXO: AGORA PINTE A GRAVURA QUE MOSTRA QUANDO O ANIMAL MORRE.



ESCREVA EM QUAL FASE DA VIDA CADA UM SE ENCONTRA. PODE CONSULTAR O BANCO DE PALAVRAS.









IDOSO – CRIANÇA – BEBÊ - ADULTO