ESTADO DE MATO GROSSO DO SUL
MUNICÍPIO DE LADÁRIO
SECRETARIA MUNICIPAL DE EDUCAÇÃO
Avenida 14 de Março, 656 – Centro – Ladário – MS – CEP: 79370-000
Endereço Eletrônico: educação@ladario.ms.gov
Telefone para contato: 67 3226 2034[1]

ESCOLA MUNICIPAL EDUARDO MALHADO.
PROFESSORA: ROSÂNGELA T. PÉCORA TURMA:2ºANO B TURNO: VESPERTINO. ENSINO FUNDAMENTAL I
ALUNO (A): _____.
COMPONENTE CURRICULAR**: LÍNGUA PORTUGUESA**
PERÍODO: 21 DE MAIO A 31 DE MAIO **CADERNO: 06**
QUANTIDADE DE AULAS: 07
HABILIDADES: **(EF03LP03) (EF03LP01) (EF03LP05)**
CONTEÚDO: LEITURA, ESCRITA, COMPREENSÃO E ORTOGRAFIA.

ATIVIDADES DE LÍINGUA PORTUGUESA

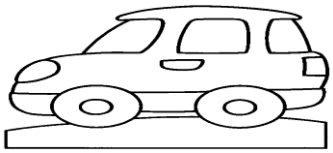

1-Observe a imagem e assinale o seu nome.

☐ CAMISOLA ☐ CAMISETA ☐ CARRINHO ☐ CAMIONETE

2-Com que letra começa esta gravura:



☐ C ☐ K ☐ G ☐

3-Assinale um **X** onde aparecem só letras

☐ 

☐ 

☐ 

☐ 

4-O que as meninas estão fazendo:



☐ As meninas estão pulando amarelinha.
☐ As meninas estão pulando corda.
☐ As meninas jogam peteca.
☐ As meninas brincam de roda.

5-O que está escrito ao lado:

cigarra

☐ Cimento
☐ Cigarra
☐ ciranda
☐ cinema

FONTE: EDIÇÃO PRÓPRIA.
PROFESSORA; ROSÂNGELA TEIXEIRA PÉCORA

ESTADO DE MATO GROSSO DO SUL
MUNICÍPIO DE LADÁRIO
SECRETARIA MUNICIPAL DE EDUCAÇÃO
Avenida 14 de Março, 656 – Centro – Ladário – MS – CEP: 79370-000
Endereço Eletrônico: educação@ladario.ms.govTelefone para contato: 67 3226 2034

6- Observe o desenho e diga com quantas sílabas se escreve o nome da figura.?

☐ 2 ☐ 3 ☐ 4 ☐ 5



7-Reescreva a frase para a letra cursiva.

O garoto gosta de tangerina.

8-Que gênero textual e este texto?



☐ Convite ☐ Anúncio

☐ Bilhete ☐ Propaganda.

9- Quem escreveu o texto acima?

☐ Vizinha ☐ Felipe ☐ Fabrício ☐ Mamãe

10-O texto fala de quê?



☐ De uma brincadeira ☐ De uma doença

☐ Regras de jogo ☐ Reciclagem

FONTE: EDIÇÃO PRÓPRIA.
PROFESSORA; ROSÂNGELA TEIXEIRA PÉCORA

ESTADO DE MATO GROSSO DO SUL
MUNICÍPIO DE LADÁRIO
SECRETARIA MUNICIPAL DE EDUCAÇÃO
Avenida 14 de Março, 656 – Centro – Ladário – MS – CEP: 79370-000
Endereço Eletrônico: educação@ladario.ms.gov
Telefone para contato: 67 3226 2034[1]

ESTADO DE MATO GROSSO DO SUL
MUNICÍPIO DE LADÁRIO
SECRETARIA MUNICIPAL DE EDUCAÇÃO
Avenida 14 de Março, 656 – Centro – Ladário – MS – CEP: 79370-000
Endereço Eletrônico: educação@ladario.ms.gov
Telefone para contato: 67 3226 2034[1]

ESCOLA MUNICIPAL EDUARDO MALHADO.
PROFESSORA: ROSÂNGELA T. PÉCORA TURMA:2ºANO B TURNO: VESPERTINO. ENSINO FUNDAMENTAL I
ALUNO (A): _____.
COMPONENTE CURRICULAR**: MATEMÁTICA**
PERÍODO: 21 DE MAIO A 31 DE MAIO DE 2021. **CADERNO: 06**
QUANTIDADE DE AULAS: 06
HABILIDADES: **(EF03M03) (EF03LM01).**
CONTEÚDO: SEQUÊNCIA NUMÉRICA, PROBLEMATIZAÇÃO, CALENDÁRIO, TABELA E FIGURAS GEOMÉTRICAS.

ATIVIDADES DE MATEMÁTICA

1- Conte quantos gatinhos aparecem na imagem:



5 ☐ 6 ☐ 7 ☐ 8 ☐

2- Maria ganhou oito pirulitos. Comeu 3. Marque um X no quadradinho que indica quantos pirulitos ela ainda tem.

☐ 8 ☒ 7 ☐ 6 ☐ 5

3- Que horas está marcando o relógio?

☐ 11 horas e 10 minutos.
☐ 15 horas.
☐ 15 horas e 2 minutos.
☐ 11 horas.

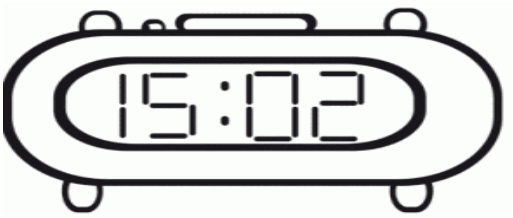

4- O que as crianças estão brincando?

☐ De futebol.
☐ De boneca.
☐ De pular corda.
☐ De esconde, esconde.



FONTE: EDIÇÃO PRÓPRIA.
PROFESSORA; ROSÂNGELA TEIXEIRA PÉCORA

ESTADO DE MATO GROSSO DO SUL
MUNICÍPIO DE LADÁRIO
SECRETARIA MUNICIPAL DE EDUCAÇÃO
Avenida 14 de Março, 656 – Centro – Ladário – MS – CEP: 79370-000
Endereço Eletrônico: educação@ladario.ms.gov
Telefone para contato: 67 3226 2034[1]

5-Veja estás balas. Carolina ganhou uma caixa igual a essa, com 3 balas também. Com quantas balas ficou?



☐ **3** ☐ **6** ☐ **8** ☐ **9**

6-Qual a forma geométrica do dado?



☐ Círculo ☐ Triângulo ☐ Retângulo ☐ Quadrado

3 Qual o valor desta moeda?



☐ 4 centavos ☐ 50 centavos ☐ 5 reais ☐ 1 real

7-Qual é o dia que fica entre 24 e 26?



23 ☐ **24** ☐ **25** ☐ **26** ☐

8-Este é o número 36 por extenso, se escreve assim.

☐ Vinte e seis ☐ Trinta e seis ☐ Quarenta e seis ☐ cinquenta e seis

9-Complete pintando o gráfico com os dados da imagem, contando os elementos.



FONTE: EDIÇÃO PRÓPRIA.
PROFESSORA; ROSÂNGELA TEIXEIRA PÉCORA

ESTADO DE MATO GROSSO DO SUL
MUNICÍPIO DE LADÁRIO
SECRETARIA MUNICIPAL DE EDUCAÇÃO
Avenida 14 de Março, 656 – Centro – Ladário – MS – CEP: 79370-000
Endereço Eletrônico: educação@ladario.ms.gov
Telefone para contato: 67 3226 2034[1]

ESCOLA MUNICIPAL EDUARDO MALHADO.
PROFESSORA: ROSÂNGELA T. PÉCORA TURMA:2ºANO B TURNO: VESPERTINO. ENSINO FUNDAMENTAL I
ALUNO (A): _____.
COMPONENTE CURRICULAR**: HISTÓRA**
PERÍODO: 21 DE MAIO A 31 DE MAIO. **CADERNO: 06**
QUANTIDADE DE AULAS: O2
HABILIDADES: **(EF02ER01/ES).**
CONTEÚDO: CONVIVÊNCIA FAMILIAR, PERÍODOS DO DIA.

ATIVIDADES DE HISTÓRIA

A CONVIVÊNCIA FAMILIAR

TODA CRIANÇA TEM O DIREITO DE CONVIVER COM UMA FAMÍLIA, ESTÁ PREVISTO DO ESTATUTO DA CRIANÇA E DO ADOLESCENTE E NA CONVENÇÃO INTERNACIONAL DOS DIREITOS DA CRIANÇA.

A CONVIVÊNCIA FAMILIAR É O PRIMEIRO ESPAÇO ONDE APRENDEMOS O QUE É A VIDA E O MUNDO EM NOSSA VOLTA. DESCOBRIMOS NOSSAS EMOÇÕES E SENTIMENTOS. APRENDEMOS A VIVER E DESCOBRIMOS OS VALORES IMPORTANTES PARA VIVER BEM UNS COM OS OUTROS. É NA FAMÍLIA QUE CRIAMOS VÍNCULOS QUE PODEM DURAR UMA VIDA INTEIRA.



Fonte: Armandinho, (2015).

A FAMÍLIA DO JOÃO TEM QUANTOS MEMBROS?	PINTE OS AVÓS DA FAMÍLIA DO MARCOS E DA JOANA
	
QUEM SÃO OS MEMBROS DA SUA FAMÍLIA?	
NOME DO SEU PAI:	
NOME DA SUA MÃE:	
VOCÊ TEM IRMÃOS?	**QUANTOS SÃO?**
COMO ELES SE CHAMAM?	

FONTE: ARMANDINH0 (2015)

ESTADO DE MATO GROSSO DO SUL
MUNICÍPIO DE LADÁRIO
SECRETARIA MUNICIPAL DE EDUCAÇÃO
Avenida 14 de Março, 656 – Centro – Ladário – MS – CEP: 79370-000
Endereço Eletrônico: educação@ladario.ms.gov
Telefone para contato: 67 3226 2034[1]

1- PINTE OS BRINQUEDOS COM AS CORES INDICADAS NA LEGENDA. FAÇA UM X NOS BRINQUEDOS QUE VOCÊ JÁ BRINCOU!



FONTE: http://www.pequenosgrandespensantes.com.br/2018/10/atividades-ineditas-para-o-dia-das.html

ESCOLA MUNICIPAL EDUARDO MALHADO.
PROFESSORA: ROSÂNGELA T. PÉCORA TURMA:2ºANO B TURNO: VESPERTINO. ENSINO FUNDAMENTAL I
ALUNO (A): _____.
COMPONENTE CURRICULAR**: GEOGRAFIA**
PERÍODO: 21 DE MAIO A 31 DE MAIO **CADERNO: 06**
QUANTIDADE DE AULAS: O2
HABILIDADES:
CONTEÚDO: BRINCADEIRAS DE CRIANÇAS E PERÍODOS DO DIA.

ATIVIDADES DE GEOGRAFIA

1. OBSERVE A ILUSTRAÇÃO E CONTORNE AS BRINCADEIRAS DE QUE VOCÊ GOSTA:



2. ALGUNS LUGARES SERVEM PARA AS PESSOAS SE ENCONTRAREM E REALIZAREM ATIVIDADES JUNTAS.

OBSERVE OS DESENHOS E ESCREVA AS LETRAS QUE COMPLETAM O NOME DESSES LUGARES.



P		R	Q		



P	R		Ç	

FONTE: https://educacaoetransformacaooficial.blogspot.com/2020/06/apostila-atividades-remotas-1-ano.ht

3. O DIA PODE SER DIVIDIDO EM DIFERENTES PERÍODOS: **MANHÃ, TARDE E NOITE.**



MANHÃ



TARDE



NOITE

OBSERVE AS ILUSTRAÇÕES ACIMA. DEPOIS, MARQUE COM UM XA ALTERNATIVA CORRETA.

A) NO PERÍODO DA MANHÃ O MENINO:

☐ ACORDOU. ☐ BRINCOU. ☐ TOMOU BANHO.

B) NO PERÍODO DA TARDE, O MENINO:

☐ ESTUDOU. ☐ ACORDOU. ☐ ALMOÇOU.

C) NO PERÍODO DA NOITE, O MENINO:

☐ ALMOÇOU. ☐ FOI DORMIR. ☐ TOMOU BANHO.

4. EM QUE PERÍODO DO DIA VOCÊ REALIZA ESSAS ATIVIDADES.



BRINCAR



DORMIR



ESTUDAR

☐	MANHÃ.	☐	MANHÃ.	☐	MANHÃ.
☐	TARDE.	☐	TARDE.	☐	TARDE.
☐	NOITE.	☐	NOITE.	☐	NOITE.

FONTE: https://educacaoetransformacaooficial.blogspot.com/2020/06/apostila-atividades-remotas-1-ano.ht