ESCOLA MUNICIPAL EDUARDO MALHADO

Ladário _____ de _____de _____

Aluno (a) : _____ 4º B VESP

Professor: ANDERSON DIAS NUNES

COMPETÊNCIA CURRICULAR: Língua Portuguesa 10 Aulas 10/02 A 26/02 CONTEÚDOS/OBJETOS DE CONHECIMENTO Interpretação textual/ encontro vocálico (EF35LP03) Identificar a ideia central do texto, demonstrando compreensão global. (EF35LP04) Inferir informações implícitas nos textos lidos. (EF04LP02) Ler e escrever, corretamente, palavras com sílabas VV e CVV em casos nos quais a combinação VV (ditongo) é reduzida na língua oral (ai, ei, ou)

– leitura e interpretação

Serafina e Virgulina

As formigas iam velozes, em fila, para o novo formigueiro.

Serafina, a formiga mais velha dizia:

_ Não sei por que foi acontecer isso conosco! Aquele formigueiro embaixo da figueira era muito

bom! Mas, infelizmente, ele ficou alagado.

_ Calma, Serafina! O novo formigueiro perto da plantação de couve é bem melhor. Ele não tem as

paredes mofadas, fica até mais perto do seu trabalho e você não precisa sair afobada – disse Virgulina.

_ Isso é verdade! Posso até, de vez em quando, passar na casa da minhoca Filoca e comer um

pouco de feijão com farofa.

Graça Batituci

1) Agora, de acordo com a leitura do texto, responda:

A) Qual o nome da formiga mais velha?

_____

B) Como iam as Formiga ao novo formigueiro?

_____

C) Qual o nome da minhoca?

_____

D) Onde fica o novo formigueiro?

_____

E) Qual o nome da outra da outra formiga?

_____

F) Quais são as características das paredes do formigueiro antigo?

_____

02 - Enumere os parágrafos do texto:

a) O texto tem ____ parágrafos.

b) Retire do o que se pede:

Um substantivo próprio: ____

um substantivo derivado: ____

Uma palavra diminuitivo ____ e um aumentativo: ____

Um adjetivo: ____

03 - Na frase do texto “Aquele formigueiro embaixo da figueira era muito bom!”: há muitas palavras com os “encontros vocálicos”, vamos relembrar?!

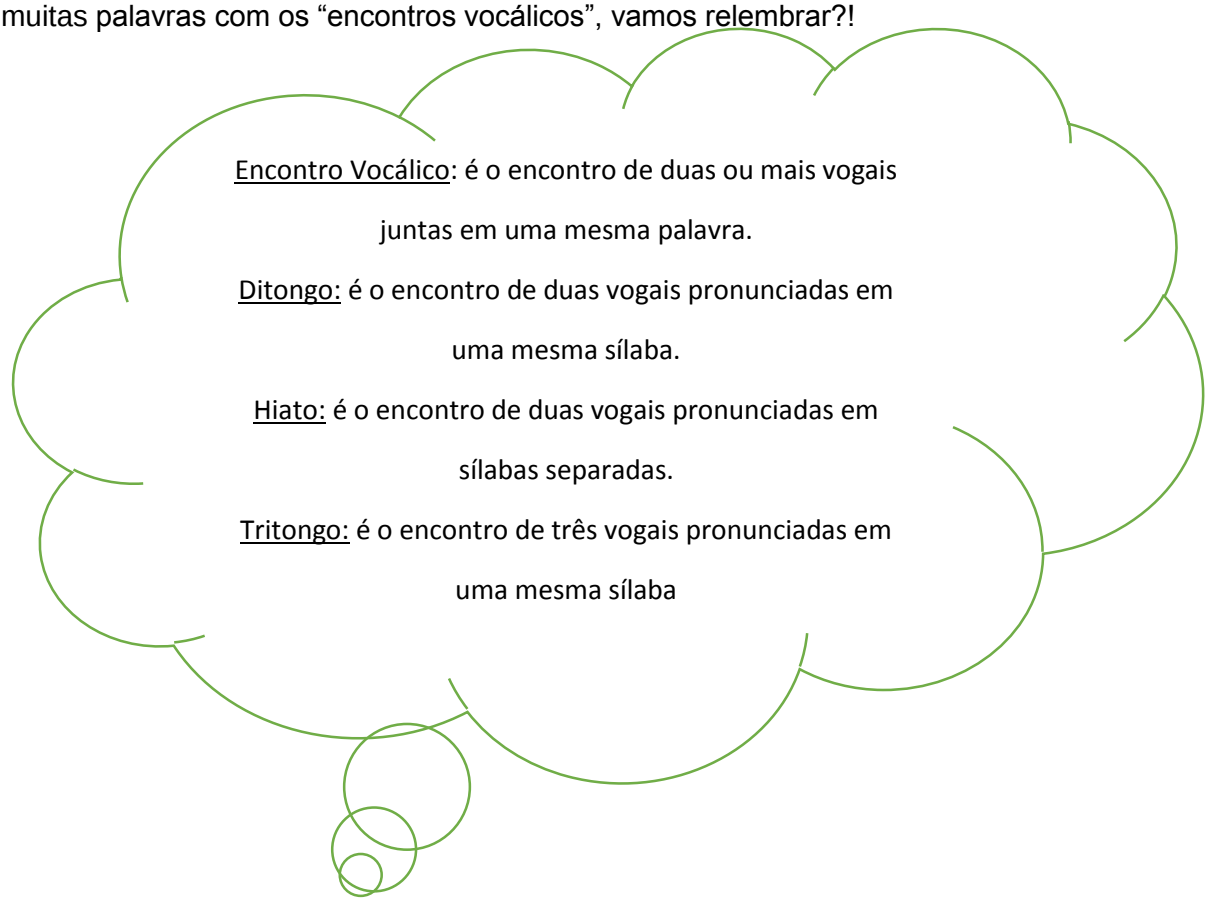

a) Enumere os encontros vocálicos aos lugares corretos:

(1) Ditongo ( ) Aquele.

(2) Tritongo ( ) Dizia.

(3) Hiato ( ) Formigueiro

04 - Leia a poesia e depois escreva as palavras que possuem encontro vocálico

Existiu ou não existiu

Meu dente foi ficando mole... caiu.

O passarinho da gaiola... fugiu.

A mãe se arrumou toda... saiu.

Parecia que ia chorar, mas riu.

Dinossauro para impossível, mas... existiu.

Laura Góes
Livro de leitura (Aprender brincando)
Quinteto Editorial, São Paulo

b) Destaque os encontros vocálicos e classifique:

(1) para ditongo (2) para hiato (3) para tritongo

( ) MEU	( ) CAIU	( )GAIOLA	( )FUGIU
( ) MÃE	( ) ARRUMOU	( )SAIU	( )PARECIA
( ) QUE	( ) IA	( )RIO	( )DINOSAURO
( ) NÃO	( )EXISTIU	( )FOI	( )QUINTETO

5 – As palavras são formadas por sílabas e são classificadas conforme a sua composição. Agora vamos completar o quadro:

1 silaba ⇨ monossílaba	3 silabas ⇨ trissílaba
2 silabas ⇨ dissílaba	4 silabas ou mais ⇨ polissílaba

PALAVRA	DIVISÃO SILABICA	NÚMEROS DE SILABAS	CLASSIFICAÇÃO
FORMIGUEIRO			
BOM			
COUVE			
FAROFA			
FIGUEIRA			
FILA			
FILOCA			
SERAFINA			
VELHA			
VIRGULINA			

ESCOLA MUNICIPAL EDUARDO MALHADO
Ladário _____ de _____de _____
Aluno (a) : _____ 4º B VESP

Professor(a): ANDERSON DIAS NUNES

COMPETÊNCIA CURRICULAR: MATEMÁTICA 08 Aulas 10/02 A 26/02 CONTEÚDOS/OBJETOS DE CONHECIMENTO: Adição e subtração (MS. EF01MA06. s.07) Construir fatos básicos da adição e utilizá-los em procedimentos de cálculo para resolver problemas.



A idade da tartaruguinha pode ser decomposta da seguinte forma:

(A) 7 dezenas
(B) 7 dezenas e 6 unidades
(C) 6 dezenas e 7 unidades
(D) 76 dezenas

O valor posicional do algarismo 3 é:

(A) 3
(B) 30
(C) 300
(D) 3000

Pedro tinha 25 bolinhas de gude e perdeu 12. A quantidade de bolinhas que Pedro ficou é?

(A) 37
(B) 25
(C) 13
(D) 12

Cláudia tem 141 reais na poupança e depositou mais 138 reais. O total de dinheiro que Cláudia tem na poupança é de:

(A) 179 reais.

(B) 219 reais.

(C) 277 reais.

(D) 279 reais.

Márcio tem 18 camisetas e Carlos possui a metade dessa quantia. A quantidade de camisetas que Carlos tem é:

(A) 18

(B) 12

(C) 10

(D) 9

Gilmar tinha 187 figurinhas. Ele perdeu 53 figurinhas.
Quantas figurinhas sobraram?

RESPOSTA



Para a pescaria, as professoras tiveram que confeccionarem 50 peixes em dois dias.

Ao final do primeiro dia, fizeram 32 peixes. Quantos peixes foram feitos no segundo dia?

(A) 10 peixes.

(B) 18 peixes.

(C) 27 peixes.

(D) 37 peixes

ESCOLA MUNICIPAL EDUARDO MALHADO

Ladário _____ de _____de _____

Aluno (a) : _____ 4º B VESP

Professor(a): ANDERSON DIAS NUNES

COMPETÊNCIA CURRICULAR: História 04 Aulas 10/02 A 26/02
CONTEÚDOS/OBJETOS DE CONHECIMENTO: História do carnaval
COMPETÊNCIA CURRICULAR: Geografia 08 Aulas 10/02 a 26/02
CONTEÚDOS/OBJETOS DE CONHECIMENTO: Manifestação cultural que represente o carnaval /(EF04GE04) SELECIONAR SEU LUGAR DE VIVENCIA E EM SUA HISTÓRIA

Leia o texto e responda as perguntas abaixo.

História do Carnaval no Brasil

O Carnaval foi trazido ao Brasil pelos colonizadores portugueses entre os séculos XVI e XVII, manifestando-se inicialmente por meio do entrudo, uma brincadeira popular. Com o passar do tempo, o Carnaval foi adquirindo outras formas de se manifestar, como o baile de máscaras. O surgimento das sociedades carnavalescas contribuiu para a popularização da festa entre as camadas pobres a festa do carnaval tinha várias brincadeiras a mais conhecida era o jogo das molhadelas, realizado alguns dias antes da Quaresma e que consistia em uma brincadeira de molhar ou sujar as pessoas que passavam pela rua.

No início do século XIX foi criado os cordões no século XIX também surgiu as marchinhas de carnaval destacando-se a figura de Chiquinha Gonzaga, bem como sua música “Ô abre alas”. O samba somente surgiu por volta da década de 1910, com a música “Pelo Telefone”, de Donga e Mauro de Almeida, tornando-se, ao longo do tempo, o legítimo representante musical do Carnaval.

A partir do século XX, a popularização da festa contribuiu para o surgimento do samba, estilo musical muito influenciado pela cultura africana, e do desfile das escolas de samba, evento que acabou sendo oficializado com apoio governamental. Nesse período, o Carnaval assumiu a sua posição de maior festa popular do Brasil.

Responda as perguntas :

1) Quem trouxe o carnaval para o Brasil?

   R: _____

2) Quais eram as manifestações culturais dessa época ?

   R _____

3) A brincadeira mais popular da época era

   a) ( ) jogo de bola

   b) ( ) jogo das molhadelas

   c) ( ) confecção de mascaras

   d) ( ) pula pula

4) Complete as lacunas:

   No início do _____ XIX foi criado os cordões no século _____ também surgiu as _____ e _____ destacando-se a figura de Chiquinha Gonzaga, bem como sua música "_____ ".

5) A popularização da festa contribuiu para o surgimento de um estilo musical.

   Que estilo é esse?

   R _____

CAÇA-PALAVRA

CARNAVAL

No nosso país, o carnaval é bem diversificado.
Ache no caça-palavra abaixo o nome de alguns desses personagens.



ARLEQUIM
COLOMBINA
MELINDROSA
PALHAÇO
PIERRÔ
~~PIRATA~~
RAINHA do carnaval
REI MOMO

A	R	Q	V	A	R	V	S	Z	G	T	R	N	A	R	V	
J	P	S	K	J	P	S	B	O	K	J	P	S	K	J	P	S	P	S
P	H	O	L	P	H	O	C	N	L	P	H	O	L	P	H	O	H	O
C	M	D	P	C	H	A	R	L	E	Q	U	I	M	C	M	D	M	D
V	O	T	D	B	R	T	D	E	D	J	O	T	D	B	R	R	O	T
N	D	Q	R	M	D	Q	T	R	V	N	D	C	E	N	D	A	D	Q
H	G	P	I	E	R	R	O	N	X	H	N	O	X	H	Q	I	G	V
L	P	Z	T	L	P	Z	B	X	S	L	P	L	K	L	P	N	P	Z
R	G	X	T	I	C	P	A	L	H	A	Ç	O	H	C	Y	H	G	X
P	B	N	T	N	V	Z	T	J	T	P	J	M	T	P	V	A	B	N
J	P	S	K	D	P	S	B	O	K	J	P	B	K	J	P	H	P	S
P	H	R	L	R	H	O	K	N	L	R	E	I	M	O	M	O	H	R
J	P	S	K	O	P	S	B	O	K	J	P	N	K	J	P	S	P	S
P	H	O	L	S	H	O	C	N	P	I	R	A	T	A	H	O	H	O
C	M	D	W	A	M	D	L	Y	P	C	M	D	P	C	M	D	M	D
V	O	T	D	B	R	T	D	E	D	J	O	T	D	B	R	T	O	T
N	D	Q	R	N	D	Q	T	R	V	N	D	Q	E	N	D	Q	D	Q
H	G	V	Y	H	Z	V	X	N	X	H	N	V	X	H	Q	V	G	V
L	P	Z	T	L	P	Z	B	X	S	L	P	Z	K	L	P	Z	P	Z

PREFEITURA MUNICIPAL DE LADÁRIO
SECRETARIA MUNICIPAL DE EDUCAÇÃO
ESCOLA MUNICIPAL EDUARDO MALHADO

ESCOLA MUNICIPAL EDUARDO MALHADO
PROFESSOR (A) **ANDERSON DIAS NUNES**

TURMA: **4º ANO "B "**

ENSINO FUNDAMENTAL I

TURNO: **VESPERTINO**

ALUNO (A): _____

COMPONETE CURRICULAR:

LÍINGUA PORTUGUESA - MATEMÁTICA - HISTÓRIA

- GEOGRAFIA – ARTE – ED. FISICA CIÊNCIAS

ED. EM DIREITOS HUMANOS

PERIODO: **10/02/2021 a 26/02/2021**