ESTADO DE MATO GROSSO DO SUL
MUNICÍPIO DE LADÁRIO
SECRETARIA MUNICIPAL DE EDUCAÇÃO

ESCOLA MUNICIPAL NELSON MANGABEIRA

PROFESSORA: RENATA DE OLIVEIRA ESQUER TURMA: **1º ano U**
ENSINO FUNDAMENTAL I TURNO: MATUTINO
ALUNO (A):

COMPONENTE CURRICULAR: **GEOGRAFIA**
PERÍODO: 17/08/2020 A 07/09/2020
Quantidade de aulas: 08 aulas.

- **Objeto de conhecimento:** Pontos de referência.

Habilidade: MS.EF01GE05.09: Elaborar e utilizar mapas simples para localizar elementos do local de vivência, considerando referenciais espaciais (frente e atrás, esquerda e direita, em cima e embaixo, dentro e fora) e tendo o corpo como referência.

1-) MARCELA TEM DUAS TARTARUGAS. A QUE ESTÁ EM SUA DIREITA É A BILILA. À SUA ESQUERDA ESTÁ A CANDINHA. AGORA CIRCULE A TARTARUGA BILILA E PINTE A TARTARUGA CANDINHA.



2-) **Pinte o carro que está fora da garagem:**



3-) **Circule o peixinho que vai à frente:**



4-) **Marque um X no animal que está atrás:**



5-) **Pinte o animal que está entre o urso e o cão:**



6-) CONTORNE A SUA MÃO DIREITA:

7-) CONTORNE A SUA MÃO ESQUERDA:

8-) DURANTE O DIA O SOL NASCE PARA NOS AQUECER. DURANTE A NOITE O CÉU SE ENCHE DE ESTRELA E A LUA CLAREIA COM SUA LUZ BRILHANTE. IDENTIFIQUE E ESCREVA EM QUAL FIGURA É DIA E QUAL FIGURA É NOITE:



_____



_____