ESTADO DE MATO GROSSO DO SUL
MUNICÍPIO DE LADÁRIO
SECRETARIA MUNICIPAL DE EDUCAÇÃO

ESCOLA MUNICIPAL NELSON MANGABEIRA

PROFESSORA: RENATA DE OLIVEIRA ESQUER TURMA: **1º ano U**
ENSINO FUNDAMENTAL I TURNO: MATUTINO
ALUNO (A):

COMPONENTE CURRICULAR: **MATEMÁTICA**
PERÍODO: 17/08/2020 A 07/09/2020
Quantidade de aulas: 14 aulas.

Objeto de conhecimento:

- Contagem de rotina;
- Contagem ascendente e descendente;
- Reconhecimento de números no contexto diário;
- Quantificação de elementos de uma coleção;
- Construção de fatos básicos da adição.

Habilidade: MS.EF01MA01.02.03.04.06.08.13.15: Comparar comprimentos, capacidades ou massas, utilizando termos como mais alto, mais baixo, mais comprido, mais curto, mais grosso, mais fino, mais largo, mais pesado, mais leve, cabe mais, cabe menos, entre outros, para ordenar objetos de uso cotidiano.

ATIVIDADE PEDAGÓGICA COMPLEMENTAR PARA O PERÍODO DE 17/08/2020 A 07/09/2020.

1-) DESENHE PARA COMPLETAR AS QUANTIDADES



2-) VAMOS JUNTAR OS ELEMENTOS?

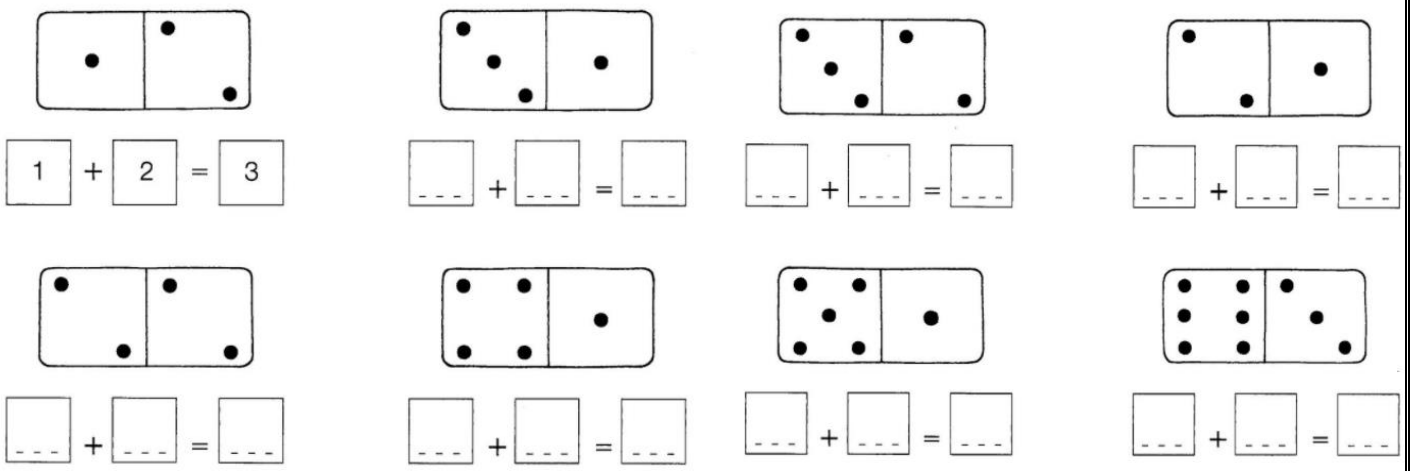

3-) Para medir líquidos usamos o **litro**.

Pinte o que se pode comprar por **litro**.



4-) SIGA A SEQUÊNCIA DE 10 EM 10:



5-) FAÇA A CORRESPONDÊNCIA. SIGA O EXEMPLO:

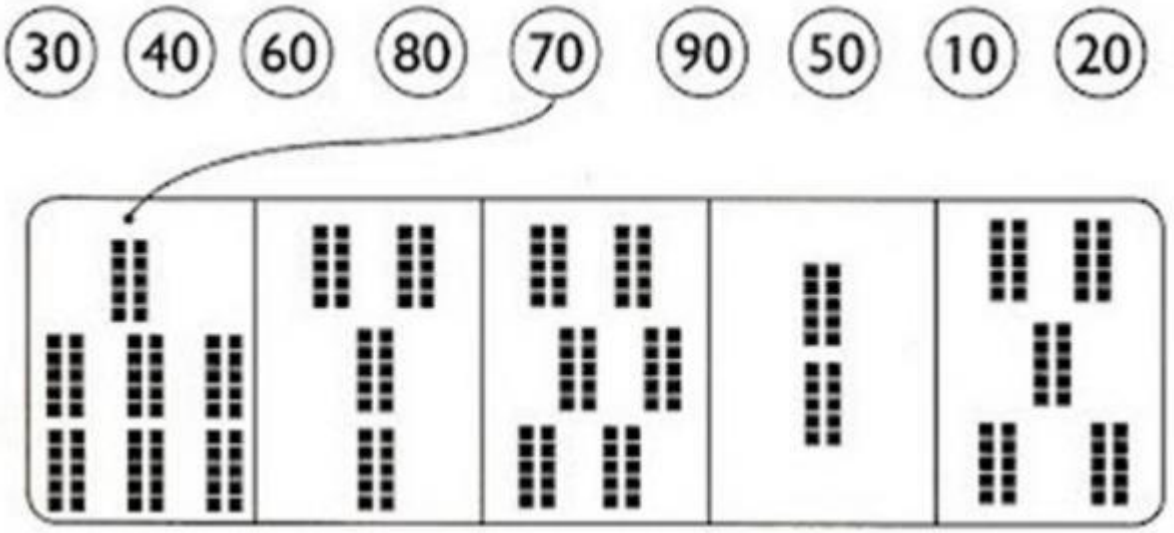

6-)



7-)



8-)



9-) OBSERVE E RESPONDA:



QUANTAS FRUTAS TEM?

a) NA PRIMEIRA CESTA: ☐

b) NA SEGUNDA CESTA: ☐

c) NA TERCEIRA CESTA: ☐

NA PRIMEIRA CESTA TEM: ☐ ☐ ☐

NA SEGUNDA CESTA TEM: ☐ ☐ ☐

NA TERCEIRA CESTA TEM: ☐ ☐ ☐

AO TODO, AS CESTAS TÊM: ☐ FRUTAS.

10-) Complete:

Um △ tem ____ lados

Um □ tem ____ lados

Um ▭ tem ____ lados

Um ◇ tem ____ lados

O ○ é o único que não tem lados, pois é uma circunferência (Formato arredondado)



11-) PINTE SOMENTE AS FORMAS CUJAS FIGURAS SÃO SEMELHANTES A DE UM TRIÂNGULO.



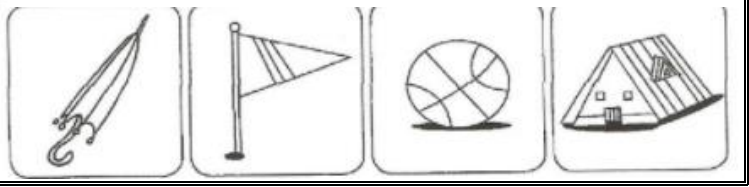

12-) SEMANA DA PÁTRIA – 7 DE SETEMBRO



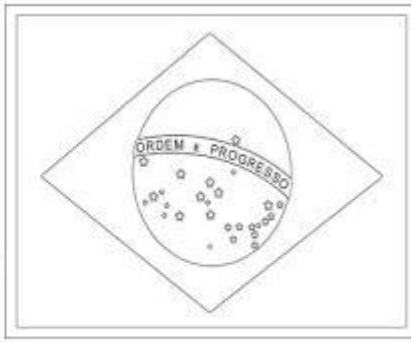

ESSA É A BANDEIRA DO

13-) AS CORES DA BANDEIRA DO NOSSO PAÍS SÃO:

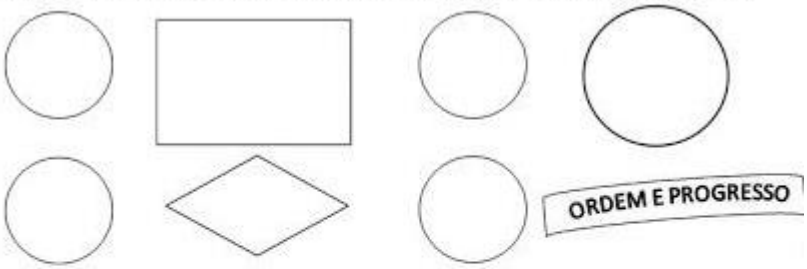

AS FORMAS GEOMÉTRICAS QUE APARECEM NA NOSSA BANDEIRA SÃO ESCREVA:

14-) FAÇA UM COLORIDO BEM BONITO USANDO AS CORES DA NOSSA BANDEIRA, DEPOIS RECORTE E MONTE EM SEU CADERNO DE MATEMÁTICA.

