ESTADO DE MATO GROSSO DO SUL
MUNICÍPIO DE LADÁRIO
SECRETARIA MUNICIPAL DE EDUCAÇÃO

Escola: Municipal Rural Maria Ana Ruso
Professora: Maria do Carmo Rodrigues Coelho **Ensino Fundamental - I**
Aluno: **Turma:** 2ºano U **Turno:** Vespertino
Componente Curricular: Língua Portuguesa **Quantidades de aulas:** 12
Objetivo de conhecimento: Leitura de imagens em narrativas visuais/Formação do leitor literário/Apreciação estética/Estilo/Forma de composição do texto/Escrita autônoma e compartilhada **Habilidade:** MS.EF15LP14.s.14/ EF15LP15.s.15/ EF15LP17.s.17
Período:16/09/2020 a 30/09/2020

ATIVIDADE AVALIATIVA DE LÍNGUA PORTUGUESA

QUESTÃO 01:

TRABALHANDO COM TIRINHAS



Copyright © 2002 Mauricio de Sousa Produções Ltda. Todos os direitos reservados. 6586

1- Este gênero textual é:

☐ carta ☐ tirinha

☐ receita ☐ fábula

2- Onde acontece a cena em que o Chico Bento está?

☐ Na esquina da rua ☐ Numa pracinha

☐ Dentro de casa ☐ Num sítio

3- O animal que está em questão neste diálogo é o

☐ macaco ☐ boi ☐ cavalo

4- O assunto principal do texto é:

☐ um passeio no sítio.

☐ falta de conhecimento sobre o assunto de gado.

☐ boi sem cabeça.

☐ o exibimento do menino.

QUESTÃO 02:

CIRANDA, CIRANDINHA

Complete a letra da música.

_____, Cirandinha
Vamos todos cirandar
Vamos dar a meia- _____
Volta e meia vamos dar.

O anel que tu me deste
Era vidro e se quebrou
O _____que tu me tinhas
Era pouco e se _____.

Ciranda, Cirandinha,
Vamos todos _____
Vamos ver a Luciana
Que vai logo se casar.

Venha cá, Luciana,
Entra logo nessa _____
Fale um verso bem_____
Diga adeus e vai-se embora

(Folclore)



QUESTÃO 03:

TRABALHANDO COM CANTIGAS POPULARES

A CANOA VIROU

A CANOA VIROU
POR DEIXÁ-LA VIRAR
FOI POR CAUSA DA MARIA
QUE NÃO SOUBE REMAR
SE EU FOSSE UM PEIXINHO
E SOUBESSE NADAR
TIRAVA A MARIA
DO FUNDO DO MAR.

CANTIGA POPULAR



ENCONTRE PALAVRAS DA MÚSICA:

E H M R A H D S F H J K M A R I A F D H J H F
D S H F J K D P E I X I N H O S F H J D H J K D
H J G H J D H F E H H F U N D O E G J W E J O
E I W R G K M A R G N H D N N B B V G D T H U L
B D F R A W E R C A N O A J K I O R A Q E R G T

DESEMBARALHE:

RI MA A _____

CA A NO _____

PEI XI NHO _____

ESTADO DE MATO GROSSO DO SUL
MUNICÍPIO DE LADÁRIO
SECRETARIA MUNICIPAL DE EDUCAÇÃO

QUESTÃO 04:

EXPLORAÇÃO DE BILHETE

VOVÓ,

PASSEI NA SUA CASA PARA ENTREGAR UMA CESTA DE DOCES, MAS VOCÊ NÃO ESTAVA

VOLTO AMANHÃ À TARDE.

UM BEIJO DA SUA NETINHA,

CHAPEUZINHO VERMELHO.

21/08/2012

MARQUE A RESPOSTA CERTA:

1- ESSE GÊNERO TEXTUAL É UM:

( ) CONVITE ( ) BILHETE ( ) ANÚNCIO

2- O ASSUNTO PRINCIPAL DO BILHETE É:

( ) AVISAR ( ) CONVIDAR ( ) VENDER DOCES.

3- PARA QUEM É O BILHETE?

( ) CHAPEUZINHO ( ) LOBO MAU ( ) VOVÓ

4- QUEM ESCREVEU O BILHETE FOI A:

( ) MAMÃE ( ) VOVÓ ( ) CHAPEUZINHO

5-A DATA DO BILHETE É:

( ) 21 DE SETEMBRO DE 2012.

( ) 21 DE AGOSTO DE 2012.

( ) 21 DE FEVEREIRO DE 2012.



QUESTÃO 05:

O PATO DE EDU

DONA NINA DEU UM PATO AO SEU NETO EDU.
EDU VIU A AVE E DISSE:
— VOVÓ, O PATO É TÃO BONITO! ELE SABE NADAR?
— SIM, EDU, ELE NADA MUITO BEM!

Graça Boquet



FAÇA UM X NA ALTERNATIVA CORRETA

1 .QUAL O NOME DO ANIMAL DA HISTÓRIA?

A) ☐ TATU
B) ☐ SAPO
C) ☐ VACA
D) ☐ PATO

2. O QUE DONA NINA É DE EDU?

A) ☐ MÃE
B) ☐ VOVÓ
C) ☐ PAI
D) ☐ TIA

3. EDU PERGUNTOU SE COM O PATO SABIA:

A) ☐ NADAR
B) ☐ AFUNDAR
C) ☐ COMER
D) ☐ CORRER

ESTADO DE MATO GROSSO DO SUL
MUNICÍPIO DE LADÁRIO
SECRETARIA MUNICIPAL DE EDUCAÇÃO

Escola: Municipal Rural Maria Ana Ruso
Professora: Maria do Carmo Rodrigues Coelho **Ensino Fundamental - I**
Aluno: **Turma:**ºano U **Turno:** Vespertino
Componente Curricular: Matemática **Quantidades de aulas:** 08
Objetivo de conhecimento: Composição e decomposição de números naturais (até 1000)/Problemas envolvendo significados de dobro, metade, triplo e terça parte/Construção de sequências repetitivas e de sequências recursivas.

Habilidades: Período:08/09/2020 a 15/09/2020

ATIVIDADE AVALIATIVA DE MATEMÁTICA

O INSTRUMENTO USADO PARA MEDIR O TEMPO É O RELÓGIO.

O RELÓGIO POSSUI DOIS PONTEIROS.
O PONTEIRO GRANDE MARCA OS MINUTOS.
O PONTEIRO PEQUENO MARCA AS HORAS.
QUANDO O PONTEIRO GRANDE ESTÁ NO 12 TEMOS A HORA EXATA.
O DIA TEM 24 HORAS.



ATIVIDADES

1- DIGA QUE HORAS SÃO:



_____HORAS



_____HORAS

QUESTÃO 02:

DOBRO

Para achar o **DOBRO** de um número, basta você multiplicar esse número por **2**.



Agora é com você:

O dobro de 6 é 6 x 2 = 12

a) O dobro de 7 é _____ x _____ = _____

b) O dobro de 9 é _____ x _____ = _____

c) O dobro de 4 é _____ x _____ = _____

d) O dobro de 1 é _____ x _____ = _____

e) O dobro de 2 é _____ x _____ = _____

f) O dobro de 5 é _____ x _____ = _____

g) O dobro de 6 é _____ x _____ = _____

h) O dobro de 3 é _____ x _____ = _____

i) O dobro de 8 é _____ x _____ = _____

QUESTÃO 03:

TRIPLO

Para achar o TRIPLO de um número, basta você multiplicar esse número por **3**.



Agora é com você:

O triplo de 2 é 2 x 3 = 6

a) O triplo de 4 é _____ x _____ = _____

b) O triplo de 7 é _____ x _____ = _____

c) O triplo de 9 é _____ x _____ = _____

d) O triplo de 1 é _____ x _____ = _____

e) O triplo de 6 é _____ x _____ = _____

Ligue os números ao seu triplo:

5	27
8	24
1	3
9	15



QUESTÂO 04:

BLOG ENCONTRO COM A EDUCAÇÃO

Escola:

Nome: Data:

Composição e Decomposição



1)Decomponha os seguintes números de duas maneiras

a) 154 =	
b) 123 =	
c) 120 =	
d) 321 =	
e) 219 =	
f)315 =	
g)355 =	
h)300 =	
i) 179 =	
j) 111=	
l) 200 =	

ESTADO DE MATO GROSSO DO SUL
MUNICÍPIO DE LADÁRIO
SECRETARIA MUNICIPAL DE EDUCAÇÃO

QUESTÃO 05:

1)Componha os seguintes números e escreva se o numero é par ou ímpar:



Número	É par ou ímpar
a) 100 + 20 + 4 =	
b) - + 50 + 9 =	
c) 100 + 0 + 2 =	
d) 200 + 80 + 1 =	
e) 100 + 30 + 0 =	
f) 200 + 90 + 2 =	
g) 0 + 10 + 9 =	
h) 300 + 70 + 3 =	
i) 300 + 0 + 8 =	

3) Complete com os números vizinhos.

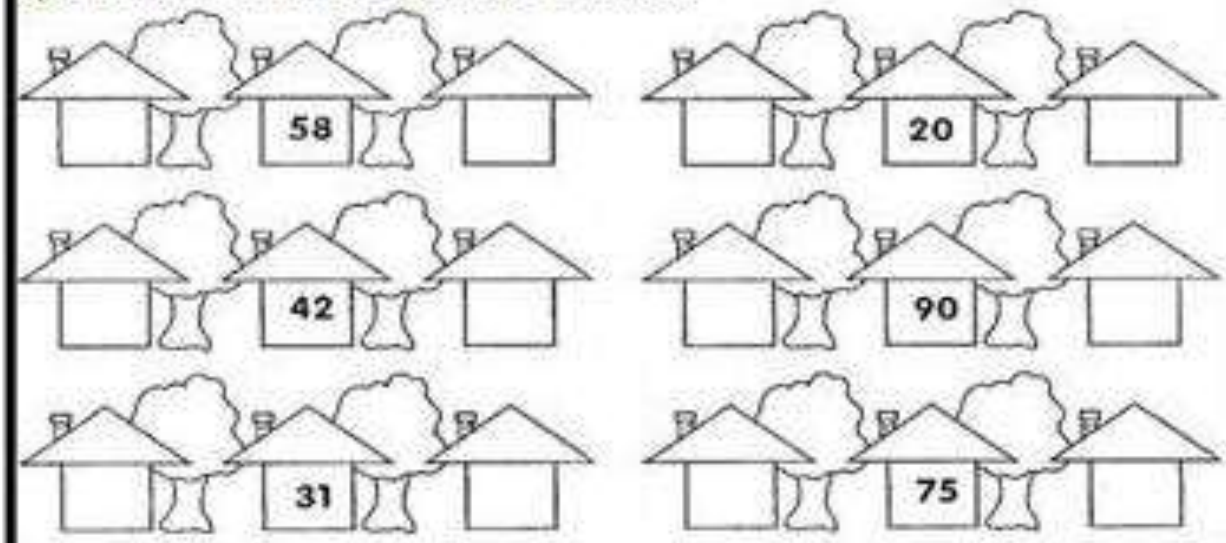

4) Adivinhe que número sou eu?

a) Fico entre 13 e 15 = _____

b) Fico entre 35 e 37 = _____

c) Fico atras de 52 = _____

d) Fico a frente de 67 = _____



Desenvolvido pelo blogencontrocomaeducacao.blogspot.com (Patrícia Machado)

ESTADO DE MATO GROSSO DO SUL
MUNICÍPIO DE LADÁRIO
SECRETARIA MUNICIPAL DE EDUCAÇÃO

Escola: Municipal Rural Maria Ana Ruso	
Professora: Maria do Carmo Rodrigues Coelho	**Ensino Fundamental - I**
Aluno:	**Turma:** 1ºano U **Turno:** Vespertino
Componente Curricular: História	**Quantidades de aulas:** 06
Objetivo de conhecimento: Data comemorativa:Dia da árvore	**Habilidades:**EF01HI08, MS.EF01HI05.s.05
Período:16/09/2020 a 30/09/2020	

ATIVIDADE AVALIATIVADE HISTÓRIA

21 de setembro - DIA DA ÁRVORE

COMPLETE O DESENHO DA ÁRVORE E COLOQUE ALGUMAS FRUTAS



ESTADO DE MATO GROSSO DO SUL
MUNICÍPIO DE LADÁRIO
SECRETARIA MUNICIPAL DE EDUCAÇÃO

QUESTÃO 02

Dia da Árvore - 21 de setembro

Encontre no diagrama abaixo bichinhos que vivem nas árvores.



C	G	M	A	C	A	C	O	R
I	G	S	F	Q	H	U	N	J
G	X	F	L	G	E	Q	T	P
A	J	E	C	F	M	S	U	R
R	J	G	Q	L	H	H	C	E
R	S	A	B	I	Á	D	A	W
A	D	X	V	N	T	E	N	T
F	G	G	V	N	Z	X	O	E
Q	D	I	S	T	Q	G	G	R
B	O	R	B	O	L	E	T	A

QUESTÃO 03:

VAMOS MONTAR A ÁRVORE COLOCANDO CADA PARTE EM SEU LUGAR?



FLORES						
FRUTOS						

ESTADO DE MATO GROSSO DO SUL
MUNICÍPIO DE LADÁRIO
SECRETARIA MUNICIPAL DE EDUCAÇÃO
ATIVIDADE AVALIATIVA DE GEOGRAFIA

Escola: Municipal Rural Maria Ana Ruso	
Professora: Maria do Carmo Rodrigues Coelho	**Ensino Fundamental - I**
Aluno:	**Turma:** 2ºano U **Turno:** Vespertino
Componente Curricular: Geografia	**Quantidades de aulas:** 04
Objetivo de conhecimento: Riscos e cuidados nos meios de transporte e de comunicação **Habilidades:** EF02GE03.s.04	
Período:16/09/20 A 30/09//2020	

QUESTÃO 01:

88

CRUZADÃO DOS TRANSPORTES



- Descobrir quais são os meios de transporte e completar o cruzadão:

2) No mar vivo a navegar, posso ser de carga ou só pessoas a passear levar. Quem sou? *(navio)*

3) Só ando em trilhos e muitos vagões possuo. Eu sou o _____ *(trem)*

4) No ar vivo a passear, transporto pessoas, cargas. Posso ser TECO-TECO ou JATO. Eu sou o _____ *(avião)*.

5) Tenho vários modelos, esportivos ou de passeio. Sou movido a álcool ou gasolina. Meu nome começa com C e dois R tem. Eu sou o *(carro)*

6) Levo muitas pessoas ao trabalho, escola ou viagem. Tenho 2 portas, muitas janelas. Eu sou o _____ *(ônibus)*.

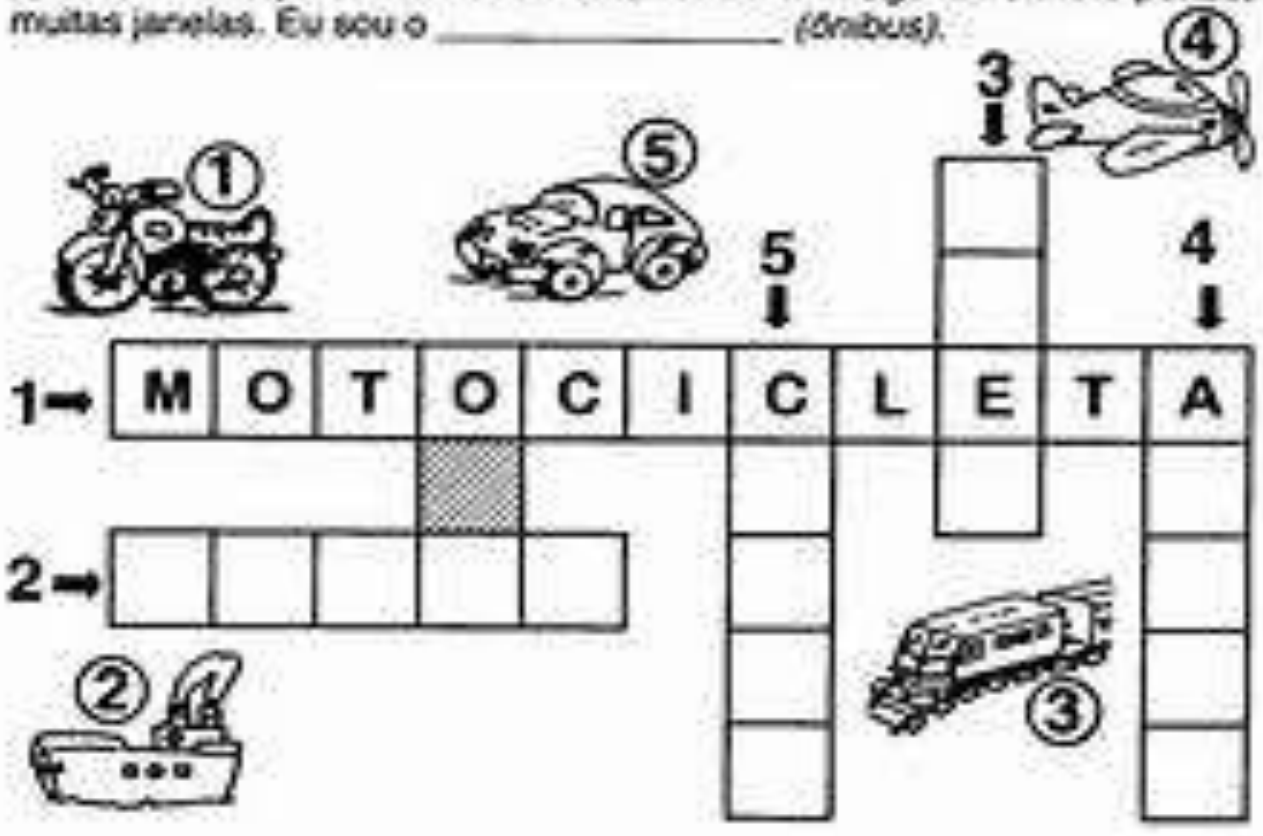

QUESTÃO 02:

Cruza-colagem

- Recorte abaixo as descrições dos meios de comunicação e cole-as nos espaços correspondentes da cruzadinha:



Transmite mensagens sonoras.

Transmite mensagens faladas.

Transmite mensagens visuais e sonoras.

Transmite notícias escritas.

Mensagem escrita, enviada pelo correio.

É usado no envio de mensagens escritas, transmitidas por telefone.