ESTADO DE MATO GROSSO DO SUL
MUNICÍPIO DE LADÁRIO
SECRETARIA MUNICIPAL DE EDUCAÇÃO

Escola: Municipal Rural Maria Ana Ruso
Professora: Maria do Carmo Rodrigues Coelho — **Ensino Fundamental - I**
Aluno: — **Turma:** 2ºano U **Turno:** Vespertino
Componente Curricular: Língua Portuguesa — **Quantidades de aulas:** 10
Objetivo de conhecimento: Leitura de imagens em narrativas visuais/Formação do leitor literário/Apreciação estética/Estilo. Forma de composição do texto/Escrita autônoma e compartilhada
Habilidade: MS.EF15LP14.s.14/ EF15LP15.s.15/ EF15LP17.s.17 — **Período:** 19/10/2020 a 31/10/2020

ATIVIDADE AVALIATIVA DE LÍNGUA PORTUGUESA

ATIVIDADE 01:

A BELA E A FERA

Gabrielle Suzanne Barbot

Era uma vez um comerciante que morava com sua filha, uma moça muito bonita e o seu nome era Bela.

Voltando de uma viagem, o mercador viu um castelo com um jardim de lindas flores e resolveu levar uma rosa para Bela.



Quando ele colheu a rosa daquele jardim, uma fera aparece uivando e dizendo, não deveria ter mexido no meu jardim e que por isso seria seu prisioneiro.

O comerciante pediu perdão dizendo que, era um presente para sua filha. Mas a Fera não queria saber, estava furiosa.

O mercador então pediu para a Fera deixá-lo despedir de sua filha.

Chegando em casa contou tudo a Bela e chorou, porque sua filha ficaria sozinha no mundo. Vendo o desespero de seu pai, pediu para ir com ele, falar com a Fera.

O comerciante desesperado disse que não adiantava, mas Bela tanto insistiu que o pai levou-a com ele.

Chegando ao castelo, Bela disse para a Fera que deixasse seu pai ir embora, que ele estava velho e doente e que ficava no lugar dele. A Fera concordou e o pai de Bela, muito triste, foi embora.

Os dias passavam no castelo e a Fera, mesmo sendo feia, era boa e gentil com Bela. Liam livros juntos conversava e brincava no jardim. Ficaram tão amigos que a Fera deixou Bela ir visitar seu pai.

Quando ela voltou, encontrou a Fera muito doente. Bela, assustada dizia:

- Fera, não morra, estou aqui! Eu te amo! E beijou o rosto da Fera.

No mesmo instante começou uma transformação na Fera e em seu lugar surgiu um lindo príncipe. O príncipe contou para Bela que uma bruxa o enfeitiçara e ele só voltaria ao normal com um beijo de amor.



1- O texto que você leu é:

( ) uma fábula. ( ) um conto de fadas.
( ) uma história. ( ) uma notícia.

2- Esta história fala sobre:

( ) brincadeiras antigas. ( ) de amor.
( ) a vida dos animais. ( ) aventuras na floresta.

ESTADO DE MATO GROSSO DO SUL
MUNICÍPIO DE LADÁRIO
SECRETARIA MUNICIPAL DE EDUCAÇÃO

ATIVIDADE 02:

PROCURAR AS PALAVRAS:

A	S	D	H	O	R	L	O	G	E	G	J
F	D	B	E	L	A	F	B	U	D	H	L
Y	I	S	A	M	O	V	A	R	D	O	G
M	A	U	R	I	C	E	Q	W	E	R	T
P	O	L	U	M	I	E	R	E	B	U	V
X	V	N	M	P	G	A	S	T	O	N	C
Z	X	C	V	F	G	H	F	Z	I	P	Z
T	J	A	R	O	S	A	O	B	F	V	L
Q	B	F	I	F	I	E	R	T	Y	U	I
A	S	R	F	E	R	A	X	D	F	G	H



ESTADO DE MATO GROSSO DO SUL
MUNICÍPIO DE LADÁRIO
SECRETARIA MUNICIPAL DE EDUCAÇÃO

ATIVIDADE 03:

COLOCAR EM ORDEM AS FIGURAS, DE ACORDO COM A HISTÓRIA:

1	2
3	4



ESTADO DE MATO GROSSO DO SUL
MUNICÍPIO DE LADÁRIO
SECRETARIA MUNICIPAL DE EDUCAÇÃO

ATIVIDADE 04:

CONTAR AS LETRAS E COLOCAR OS NOMES NO LUGAR CERTO:

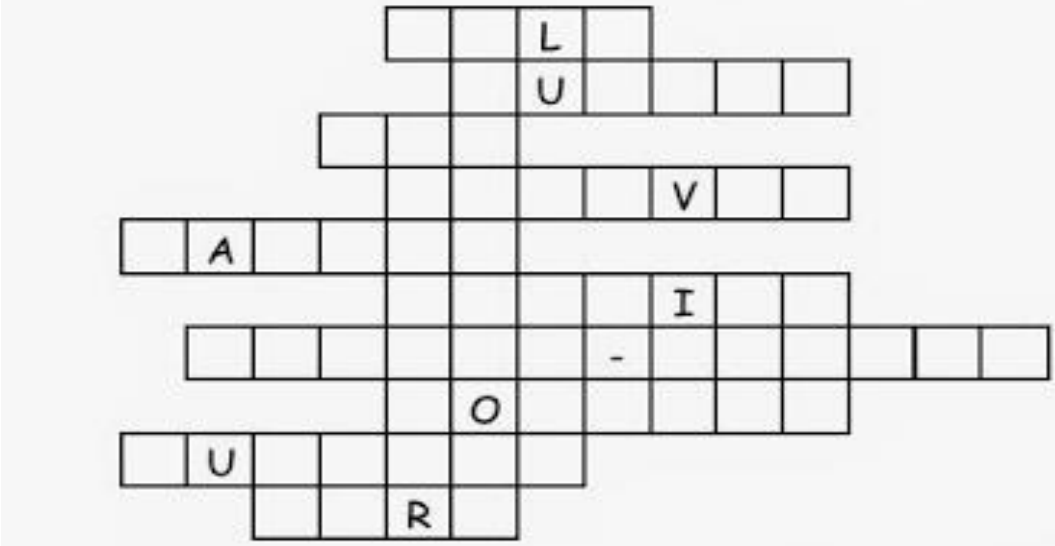



COMPLETAR A FRASE:

FIFI ERA UMA _____.

ATIVIDADE 05: FAÇA UM LINDO DESEMHO EM SEU CADERNO DA HISTÓRIA ACIMA:

ESTADO DE MATO GROSSO DO SUL
MUNICÍPIO DE LADÁRIO
SECRETARIA MUNICIPAL DE EDUCAÇÃO

Escola: Municipal Rural Maria Ana Ruso	
Professora: Maria do Carmo Rodrigues Coelho	**Ensino Fundamental - I**
Aluno:	**Turma:** 2ºano U **Turno:** Vespertino
Componente Curricular: Matemática	**Quantidades de aulas:** 09
Objetivo de conhecimento: Medidas de comprimento e Medidas de tempo;	
Habilidades: MS.EF01MA15.s.17 / MS.EF01MA16.s.18	**Período:** 19/10/2020 a 31/10/2020

ATIVIDADE AVALIATIVA DE MATEMÁTICA

ATIVIDADE 01:

Matemática

Medidas de Comprimento

- O metro é dividido em 100 pedaços do mesmo tamanho, chamados centímetros.

1 metro = 100 centímetros.

- Cada centímetro é dividido em 10 pedacinhos chamados milímetros.

1 metro = 100 centímetros = 1.000 milímetros

- Quando dividimos o metro em 10 pedaços do mesmo tamanho, encontramos decímetros.

1 metro = 10 decímetros
1 decímetro = 10 centímetros

1 metro = 10 decímetros = 100 centímetros = 1.000 milímetros



ESTADO DE MATO GROSSO DO SUL
MUNICÍPIO DE LADÁRIO
SECRETARIA MUNICIPAL DE EDUCAÇÃO

ATIVIDADE 02:

TUDO SOBRE MEDIDAS

O metro é a unidade de medida de comprimento.

Com ele podemos medir o comprimento, a largura ou a espessura de objetos, a altura das pessoas, etc.

Veja alguns objetos usado para medir:



Metro articulado



Trena



Régua



Metro



Fita métrica

1 Complete as frases usando os nomes dos instrumentos acima.

A) A costureira usa a _____ para tirar as medidas da freguesa.

B) O aluno usa a _____ na escola.

C) O vendedor usa o _____ para medir o tecido.

D) O pedreiro usa a _____ e o metro



_____ para medir o metro.

ESTADO DE MATO GROSSO DO SUL
MUNICÍPIO DE LADÁRIO
SECRETARIA MUNICIPAL DE EDUCAÇÃO

ATIVIDADE 03:

MEDIDA DE COMPRIMENTO

MEDIMOS O COMPRIMENTO DE TERRENOS, DE CORDÕES, DE FITAS, DE TECIDOS E A ALTURA DAS PESSOAS EM METROS. PARA ISSO, UTILIZAMOS ALGUNS INSTRUMENTOS PARA MEDIR.

- OBSERVE OS DESENHOS DOS PROFISSIONAIS E LIGUE-OS AOS INSTRUMENTOS USADOS POR ELES.

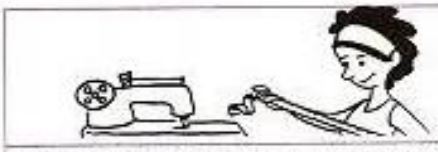

A COSTUREIRA USA A FITA MÉTRICA.



O ENGENHEIRO USA A TRENA.



O PEDREIRO USA O METRO ARTICULADO.



O ESTUDANTE USA A RÉGUA.

METRO ARTICULADO



RÉGUA

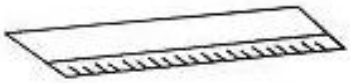

TRENA



FITA MÉTRICA

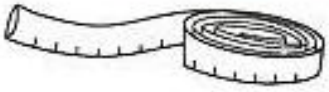

ESTADO DE MATO GROSSO DO SUL
MUNICÍPIO DE LADÁRIO
SECRETARIA MUNICIPAL DE EDUCAÇÃO

ATIVIDADE 04:

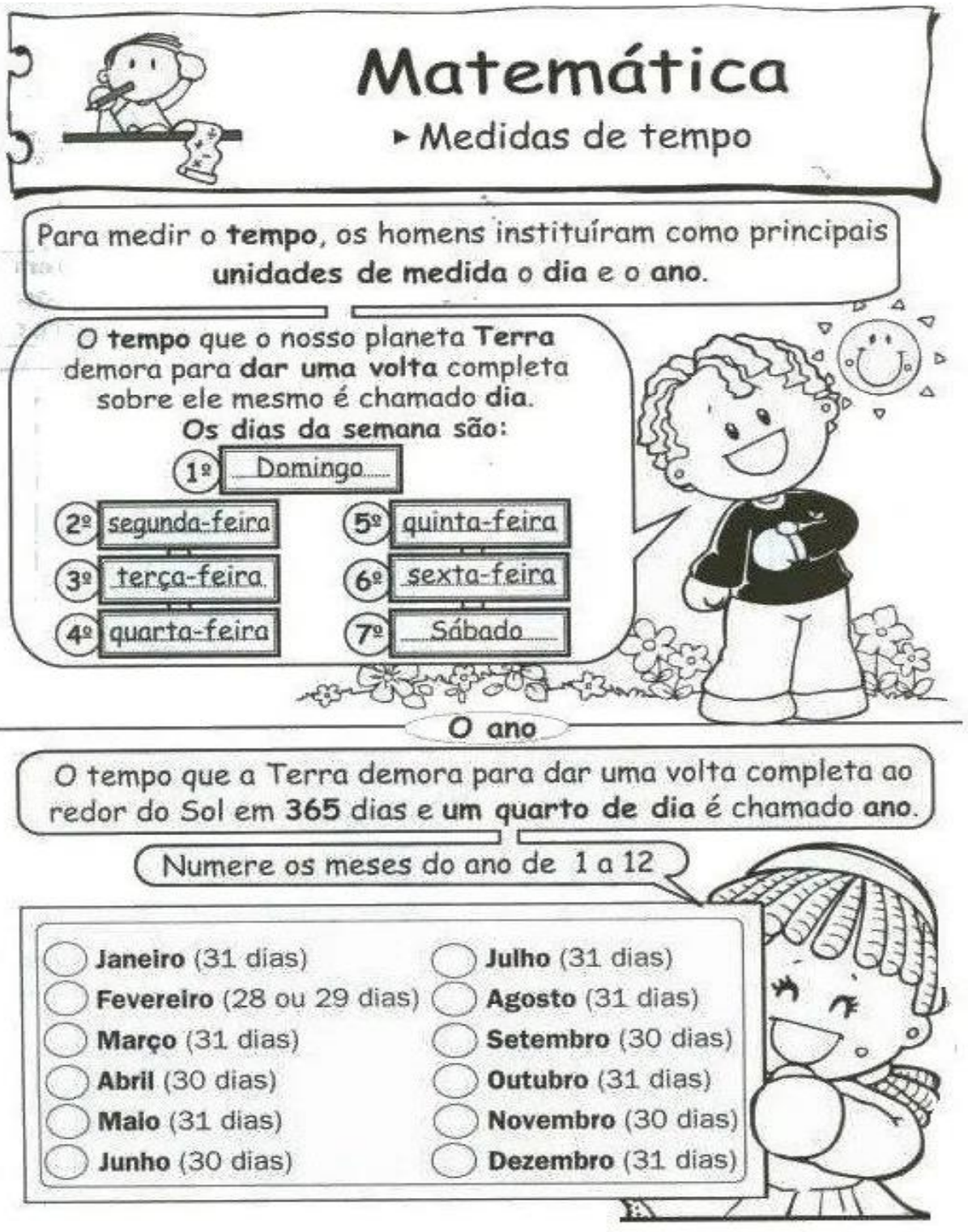

ESTADO DE MATO GROSSO DO SUL
MUNICÍPIO DE LADÁRIO
SECRETARIA MUNICIPAL DE EDUCAÇÃO

ATIVIDADE 05:

MESES DO ANO



JANEIRO	FEVEREIRO	MARÇO
ABRIL	MAIO	JUNHO
JULHO	AGOSTO	SETEMBRO
OUTUBRO	NOVEMBRO	DEZEMBRO

AGORA É COM VOCÊ!

- Qual é o primeiro mês do ano? _____
- Pinte de vermelho o mês do seu aniversário.
- Qual é o quarto mês do ano? _____
- Qual é o mês que tem o nome com 4 letras? _____
- Qual é o mês que tem o maior número de letras? _____
- Em qual mês do ano festejamos o Natal? _____

ESTADO DE MATO GROSSO DO SUL
MUNICÍPIO DE LADÁRIO
SECRETARIA MUNICIPAL DE EDUCAÇÃO

Escola: Municipal Rural Maria Ana Ruso
Professora: Maria do Carmo Rodrigues Coelho
Ensino Fundamental - I
Aluno: **Turma:** 2ºano U **Turno:** Vespertino
Componente Curricular: História **Quantidades de aulas:**05
Objetivo de conhecimento: Documentos Pessoais
Habilidades: MS.EF02HI09.s.09 **Período:**01/10/2020 a 09/10/2020

ATIVIDADE AVALIATIVA DE HISTÓRIA

ATIVIDADE 01

Atividades Suzano

Nome: _____data: _____

HISTÓRIA



Lembre que:

- **Todas as pessoas precisam ter documentos. Eles trazem informações importantes sobre nós e permitem que sejamos identificados como cidadãos.**
- **Existem diferentes tipos de documentos pessoais. Por exemplo: Certidão de Nascimento, Carteira de vacinação, carteira escolar etc. Cada um deles traz informações específicas para nossa cidadania.**





Descubra com ajuda de algum adulto que vive com você, os documentos que você possue.
Desenhe um deles e complete as informações:

Eu tenho este documento desde: _____

ESTADO DE MATO GROSSO DO SUL
MUNICÍPIO DE LADÁRIO
SECRETARIA MUNICIPAL DE EDUCAÇÃO

OS DOCUMENTOS DA CRIANÇA.



PEÇA PARA ALGUÉM DE SUA FAMÍLIA A SUA CERTIDÃO E PREENCHA O QUADRO.

NOME: _____

DATA DE NASCIMENTO: _____ / _____ / _____

HORA DO NASCIMENTO: _____

LOCAL DO NASCIMENTO: _____

NOME DOS PAIS:

PAI: _____

MÃE: _____

NOME DOS AVÓS MATERNOS:

AVÔ: _____

AVÓ: _____

NOME DOS AVÓS PATERNOS:

AVÔ: _____

AVÓ: _____

ESTADO DE MATO GROSSO DO SUL
MUNICÍPIO DE LADÁRIO
SECRETARIA MUNICIPAL DE EDUCAÇÃO

Escola: Municipal Rural Maria Ana Ruso	
Professora: Maria do Carmo Rodrigues Coelho	**Ensino Fundamental - I**
Aluno:	**Turma:** 2ºano U **Turno:** Vespertino
Componente Curricular: Pontos de referências	**Quantidades de aulas:** 04
Objetivo de conhecimento: Habilidades:	**Período:**19/10/2020 a 31/10/2020

ATIVIDADE AVALIATIVA DE GEOGRAFIA

ATIVIDADE 01:

2) ESTA É A PRAÇA DE UMA PEQUENA CIDADE DO INTERIOR. OBSERVANDO A ROSA- DOS- VENTOS LOCALIZE O QUE SE PEDE. CONFORME OS PONTOS CARDEAIS E COLATERAIS.



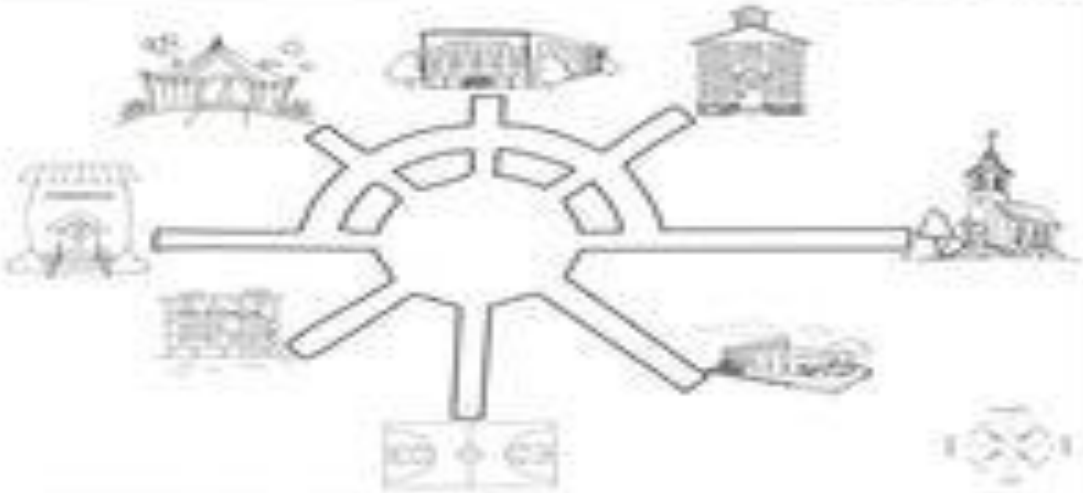

A) O HOSPITAL ESTÁ NO _____

B) A FARMÁCIA ESTÁ NO _____

C) O DELEGACIA ESTÁ NO _____

D) A IGREJA ESTÁ NO _____

E) A ESCOLA ESTÁ NO _____

F) O CIRCO ESTÁ NO _____

G) O SUPERMERCADO ESTÁ NO _____

D) A QUADRA ESTÁ NO _____

Maria Cristina Gil Barbosa

ESTADO DE MATO GROSSO DO SUL
MUNICÍPIO DE LADÁRIO
SECRETARIA MUNICIPAL DE EDUCAÇÃO

ATIVIDADE 02:

PONTOS CARDEAIS

1. Quais são os pontos cardeais? Para que eles servem?

_____

_____

2. O Sol aparece todos os dias do mesmo lado. Esse lado é o:

☐ norte ☐ sul ☐ leste ☐ oeste

3. Que outro nome recebe esse lugar onde o Sol nasce?

☐ poente ☐ nascente ☐ amanhecer

4. De qual lado o Sol desaparece todos os dias?

☐ norte ☐ sul ☐ leste ☐ oeste

5. Que outro nome recebe o lugar onde o Sol se põe à tarde até desaparecer?

☐ poente ☐ nascente ☐ entardecer

6. Pinte esta ilustração e anote os nomes dos pontos cardeais nos quadrinhos em branco.

