**ESTADO DE MATO GROSSO DO SUL**
**MUNICÍPIO DE LADÁRIO**
**SECRETARIA MUNICIPAL DE EDUCAÇÃO**

| | | |
|---|---|---|
| **Escola:** Municipal Rural Maria Ana Ruso | | |
| **Professora:** Maria do Carmo Rodrigues Coelho | | **Ensino Fundamental - I** |
| **Aluno:** | **Turma: 3º**ano -U | **Turno:** Vespertino |
| **Componente Curricular:** Língua Portuguesa | | **Quantidades de aulas:**10 |
| **Objetivo de conhecimento:**Acentuação/Sílaba tônica/Substantivo próprio e comum e Simples e composto | | |
| **Habilidade:**EF03LP04/EF03LP06/EFLP0308 | | |

**LINGUA PORTUGUESA**

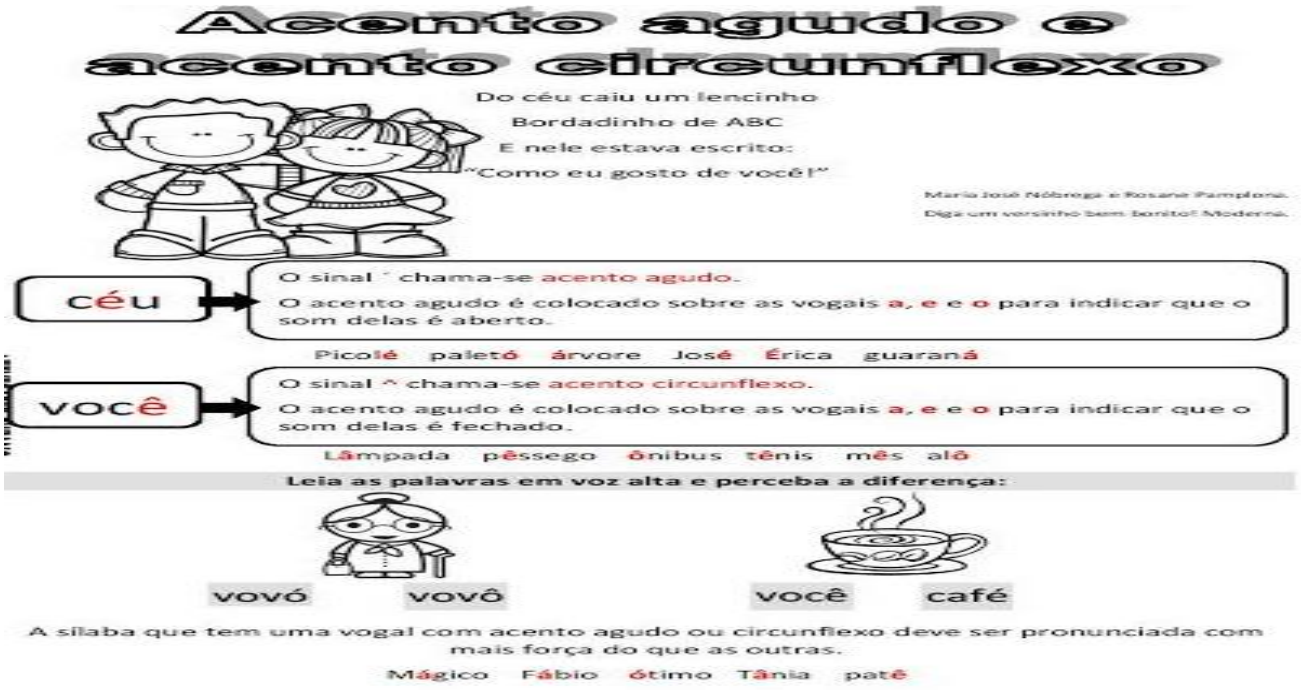


**1.ACENTUE COM OS ACENTOS CIRCUNFLEXOS E AGUDOS NAS PALAVRAS ABAIXO;**



ESTADO DE MATO GROSSO DO SUL
MUNICÍPIO DE LADÁRIO
SECRETARIA MUNICIPAL DE EDUCAÇAO

**2.ACENTUE CORRETAMENTE:**




**3.COMPLETE O QUADRO:**



| Substantivos Próprios | | Substantivos Comuns |
|---|---|---|
| Fabiano | é o nome de um | menino |
| Brasil | é o nome de um | |
| | é o nome de uma | cidade |
| | é o nome de um | macaco |
| Ana | é o nome de uma | |
| | é o nome de um | rio |
| São Paulo | é o nome de uma | |

ESTADO DE MATO GROSSO DO SUL
MUNICÍPIO DE LADÁRIO
SECRETARIA MUNICIPAL DE EDUCAÇÃO

**4.COMPLETE:**

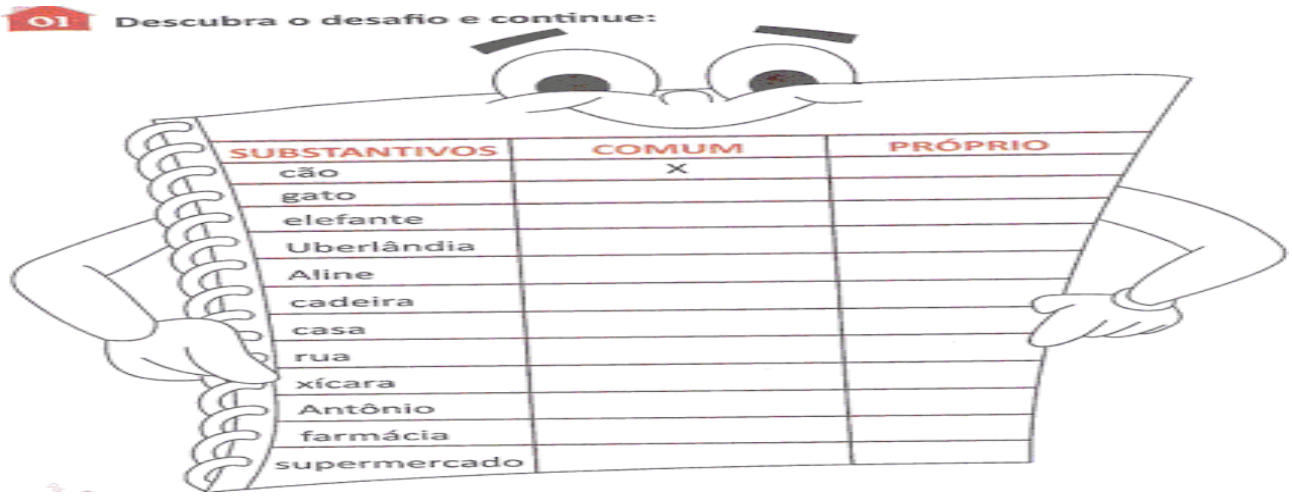


## SUBSTANTIVO: SIMPLES E COMPOSTO

**Os substantivos simples** são formados apenas por um radical. Por exemplo: casa, amor, dinheiro, árvore, roupa, livro, chuveiro e muito mais.

**Já os substantivos compostos** são formados por dois ou mais radicais. Por exemplo: guarda-chuva, passatempo, amor-perfeito, malmequer, fim de semana e muito mais.

**5.COPIE ESSA ATIVIDADE EM SEU CADERNO:**

Substantivos: Simples e Composto

1-Circule só apenas os substantivos simples:

correio chuva
peixe-espada boi
pombo-correiro pica-pau
abelha trem

Quantos substantivos compostos há?
R:_____

2-Dê exemplos de quatro substantivos compostos que você conhece.
1_____
2_____
3_____
4_____

①

3-Classifique os substantivos em: Simples ou composto.

girassol-
passatempo-
noite-
pisca-pisca-
guarda-chuva-
flor-
monstro-
estrela-do-mar-
rosto-
corpo-
pernilongo-
medo-
pombo-correio-

Quantos substantivos Simples há?
R:_____
Quantos substantivos Compostos há?
R:_____

Boa Sorte! ②

ESTADO DE MATO GROSSO DO SUL
MUNICÍPIO DE LADÁRIO
SECRETARIA MUNICIPAL DE EDUCAÇÃO

# Classificando a sílaba tônica

- Para perceber a posição da sílaba tônica de uma palavra, conte a partir da última sílaba:

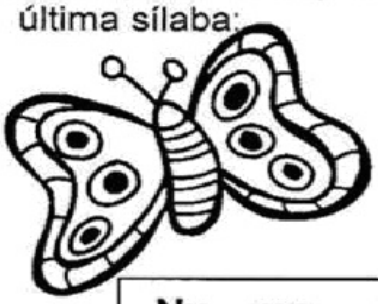

| | Posição da sílaba tônica | Classificação |
|---|---|---|
| Nu me **ral** | Última sílaba | Oxítona |
| Fer **ru** gem | Penúltima sílaba | Paroxítona |
| **Mé** di co | Antepenúltima sílaba | Proparoxítona |

Faça você

- Numere as palavras de acordo com a classificação da sílaba tônica:

| 1 OXÍTONA | 2 PAROXÍTONA | 3 PROPAROXÍTONA |
|---|---|---|
| ◯ pássaro | ◯ folgado | ◯ óculos |
| ◯ fazenda | ◯ atrás | ◯ urubu |
| ◯ viver | ◯ antônimo | ◯ espelhos |

**ESTADO DE MATO GROSSO DO SUL**
**MUNICÍPIO DE LADÁRIO**
**SECRETARIA MUNICIPAL DE EDUCAÇÃO**

| | | |
|---|---|---|
| **Escola:** Municipal Rural Maria Ana Ruso | | |
| **Professora:** Maria do Carmo Rodrigues Coelho | | **Ensino Fundamental - I** |
| **Aluno:** | **Turma: 3º**ano -U | **Turno:** Vespertino |
| **Componente Curricular:** Língua Portuguesa | | **Quantidades de aulas:**08 |
| **Objetivo de conhecimento:**Formas de composição de texto/Compreensão em leitura | | |
| **Habilidades:**EF03LP16/EF03LP24 | | **Período:**22/06/2020 a 30/06/2020 |

**LINGUA PORTUGUESA**

**1.PASSE ESSA ATIVIDADE EM SEU CADERNO E RESPONDA:**

# RECEITA

## ROSQUINHA DE LEITE CONDENSADO

### INGREDIENTES



- 3 OVOS
- 1 LATA DE LEITE CONDENSADO
- 1 COLHER (SOPA) DE MARGARINA
- 1 COLHER (SOPA) DE FERMENTO EM PÓ
- FARINHA DE TRIGO ATÉ DAR O PONTO

### MODO DE PREPARO

- EM UMA VASILHA MÉDIA ACRESCENTE OS OVOS E AMARGARINA
- MEXA BEM
- ACRESCENTE O LEITE CONDENSADO E O FERMENTO EM PÓ
- MEXA NOVAMENTE, ATÉ QUE SE MISTURE BEM
- COLOQUE A FARINHA DE TRIGO AOS POUCOS, ATÉ FICAR NO PONTO DE ENROLAR AS ROSQUINHAS
- AMASSE BEM A MASSA, ENROLE, E FRITE EM ÓLEO BEM QUENTE
- COLOQUE EM PAPEL APROPRIADO PARA ABSORVER A GORDURA E DEPOIS PASSE NO AÇÚCAR REFINADO

http://www.receitadecasa.com.br/

- RESPONDA ORALMENTE.

QUE GÊNERO TEXTUAL FOI LIDO?
PARA QUE SERVEM RECEITAS?
QUEM COZINHA NA SUA CASA?
QUAIS SÃO AS PARTES DE UMA RECEITA?

- O QUE ESTA RECEITA ENSINA A PREPARAR?

ESCOLA_____
ALUNO(A)_____
PROFESSOR(A):_____
TURMA: _____ DATA: _____

# Trabalhando com Receita

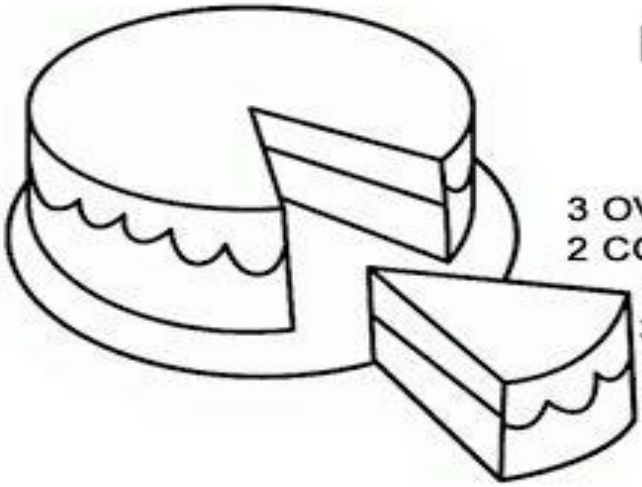

## BOLO SIMPLES

**INGREDIENTES**

3 OVOS
2 COLHERES DE MARGARINA
2 XÍCARAS DE AÇÚCAR
3 XÍCARAS DE TRIGO COM FERMENTO
1\2 XÍCARA DE LEITE

**COMO FAZER?**

BATA OS OVOS COM O AÇÚCAR E A MARGARINA. ACRESCENTE O TRIGO COM FERMENTO E O LEITE. BATA BEM. UNTE UMA FORMA COM MARGARINA OU ÓLEO E FARINHA DE TRIGO. LEVE AO FORNO PARA ASSAR.

1. REESCREVA A RECEITA, DOBRANDO OS INGREDIENTES:

_____
_____
_____
_____
_____
_____
_____

www.espacoeducar.net

**ESTADO DE MATO GROSSO DO SUL**
**MUNICÍPIO DE LADÁRIO**
**SECRETARIA MUNICIPAL DE EDUCAÇÃO**

**Escola:** Municipal Rural Maria Ana Ruso
**Professora:** Maria do Carmo Rodrigues Coelho **Ensino Fundamental - I**
**Aluno:** **Turma:3º**ano -U **Turno:** Vespertino

**Componente Curricular:** Matemática **Quantidades de aulas:**08
**Objetivo de conhecimento:**Leitura,escrita,comparação e ordenação dos numerais /Construir fato da adição e subtração e multiplicação/Formas geométricas **Habilidades**:
**Período:**09/06/2020 a 19/06/2020

**1.RESOLVA AS CONTINHAS:**

ARME E RESOLVA

| 90 - 2 = | | |
|---|---|---|
| | D | U |
| | | |
| | | |
| | | |

| 82 - 5 = | | |
|---|---|---|
| | D | U |
| | | |
| | | |
| | | |

| 33 - 7 = | | |
|---|---|---|
| | D | U |
| | | |
| | | |
| | | |

| 15 - 3 = | | |
|---|---|---|
| | D | U |
| | | |
| | | |
| | | |

| 66 - 4 = | | |
|---|---|---|
| | D | U |
| | | |
| | | |
| | | |



| 31 - 1 = | | |
|---|---|---|
| | D | U |
| | | |
| | | |
| | | |

| 45 - 39 = | | |
|---|---|---|
| | D | U |
| | | |
| | | |
| | | |

| 42 - 16 = | | |
|---|---|---|
| | D | U |
| | | |
| | | |
| | | |

| 36 - 20 = | | |
|---|---|---|
| | D | U |
| | | |
| | | |
| | | |

| 47 - 20 = | | |
|---|---|---|
| | D | U |
| | | |
| | | |
| | | |

| 34 - 19 = | | |
|---|---|---|
| | D | U |
| | | |
| | | |
| | | |

| 39 - 27 = | | |
|---|---|---|
| | D | U |
| | | |
| | | |
| | | |

ARME E RESOLVA

| 195 + 33 | | | |
|---|---|---|---|
| | C | D | U |
| | | | |
| | | | |
| | | | |

| 322 + 85 | | | |
|---|---|---|---|
| | C | D | U |
| | | | |
| | | | |
| | | | |

| 492 + 89 | | | |
|---|---|---|---|
| | C | D | U |
| | | | |
| | | | |
| | | | |

| 359 + 94 | | | |
|---|---|---|---|
| | C | D | U |
| | | | |
| | | | |
| | | | |

| 135 + 16 | | | |
|---|---|---|---|
| | C | D | U |
| | | | |
| | | | |
| | | | |

| 413 + 70 | | | |
|---|---|---|---|
| | C | D | U |
| | | | |
| | | | |
| | | | |

| 409 + 39 | | | |
|---|---|---|---|
| | C | D | U |
| | | | |
| | | | |
| | | | |



| 192 + 96 | | | |
|---|---|---|---|
| | C | D | U |
| | | | |
| | | | |
| | | | |

ESTADO DE MATO GROSSO DO SUL
MUNICÍPIO DE LADÁRIO
SECRETARIA MUNICIPAL DE EDUCAÇÃO

**2.COMPLETE:**



**Fazendo gols nos resultados!**

| 4 x 4 | | | |
|---|---|---|---|
| 14 | 12 | 16 | 18 |

| 3 x 6 | | | |
|---|---|---|---|
| 44 | 12 | 16 | 18 |

| 3 x 7 | | | |
|---|---|---|---|
| 14 | 21 | 16 | 18 |

| 5 x 4 | | | |
|---|---|---|---|
| 14 | 19 | 16 | 20 |

| 6 x 8 | | | |
|---|---|---|---|
| 44 | 32 | 48 | 38 |

| 7 x 6 | | | |
|---|---|---|---|
| 42 | 46 | 32 | 49 |

| 8 x 7 | | | |
|---|---|---|---|
| 56 | 64 | 54 | 63 |

| 9 x 6 | | | |
|---|---|---|---|
| 56 | 64 | 54 | 63 |

| 2 x 9 | | | |
|---|---|---|---|
| 15 | 19 | 16 | 18 |

| 9 x 3 | | | |
|---|---|---|---|
| 32 | 56 | 12 | 27 |

| 7 x 9 | | | |
|---|---|---|---|
| 63 | 82 | 19 | 90 |

| 8 x 8 | | | |
|---|---|---|---|
| 64 | 72 | 56 | 92 |

| 8 x 9 | | | |
|---|---|---|---|
| 71 | 82 | 96 | 72 |

| 3 x 8 | | | |
|---|---|---|---|
| 34 | 24 | 42 | 17 |

| 5 x 5 | | | |
|---|---|---|---|
| 25 | 22 | 55 | 35 |

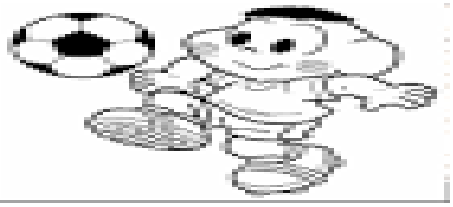

**3.COMPLETE A TABELA:**

## Descobrindo Fatos

• Complete a tabela, escrevendo o fato de multiplicação correspondente ao seu produto:

| ⬡ x ⬡ | ⬠ x ⬠ | ◯ x ◯ |
|---|---|---|
| 6 | 18 | 36 |
| 10 | 24 | 32 |
| 15 | 9 | 12 |
| 24 | 12 | 21 |
| 8 | 40 | 5 |



ESTADO DE MATO GROSSO DO SUL
MUNICÍPIO DE LADÁRIO
SECRETARIA MUNICIPAL DE EDUCAÇÃO

# FIGURAS GEOMÉTRICAS PLANAS

(Pedir ao aluno para colorir)

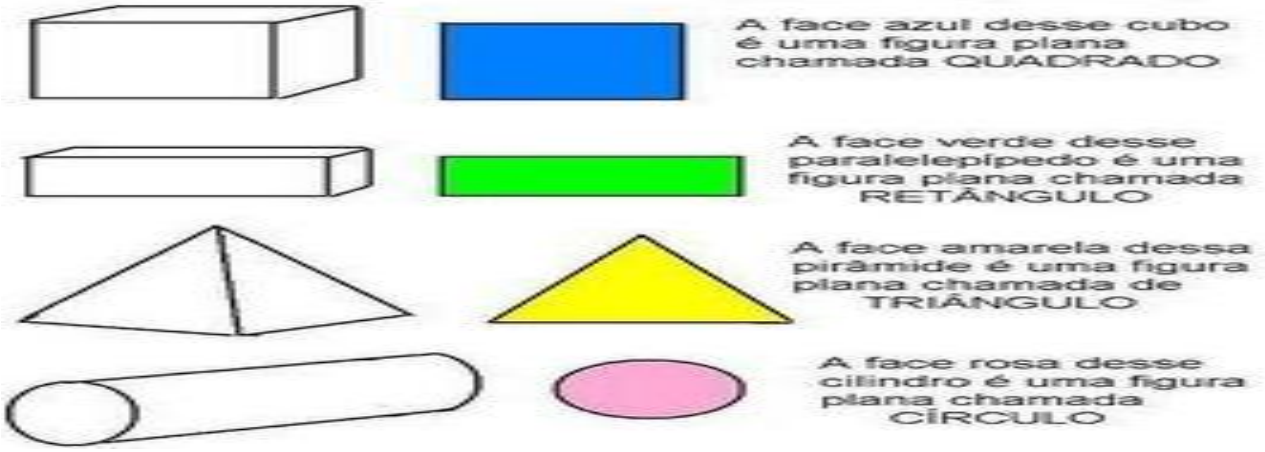


1) Observe os sólidos geométricos do quadro a seguir.

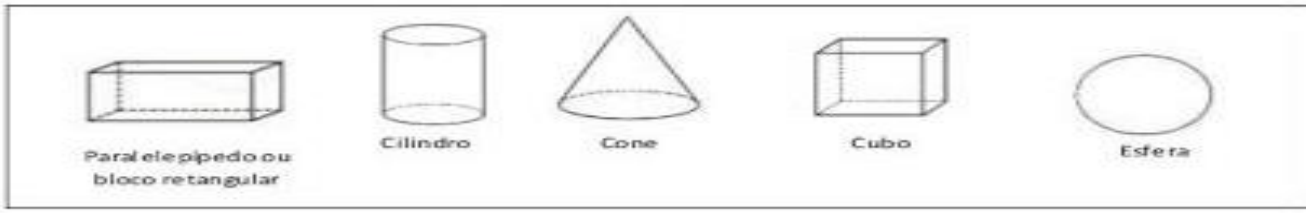


- Agora, observe os objetos abaixo e coloque os nomes dos sólidos geométricos que eles lembram.

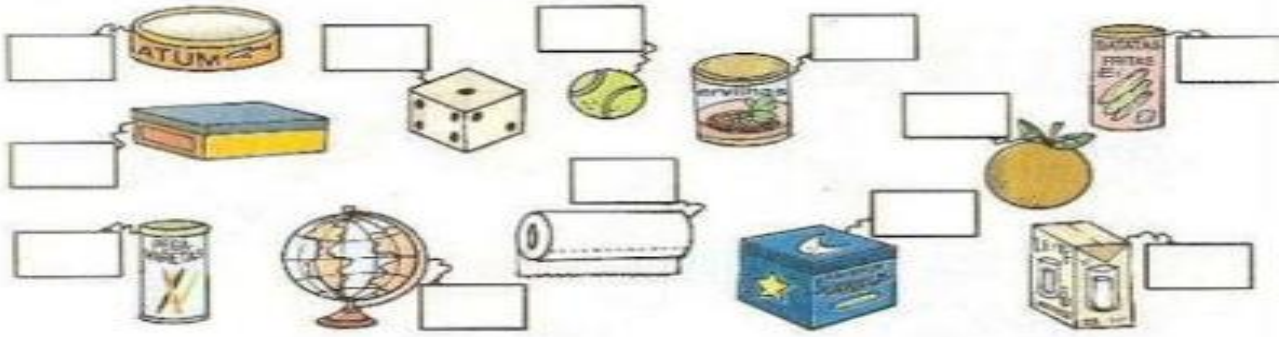

2) Coloque os nomes nas figuras geométricas a seguir.

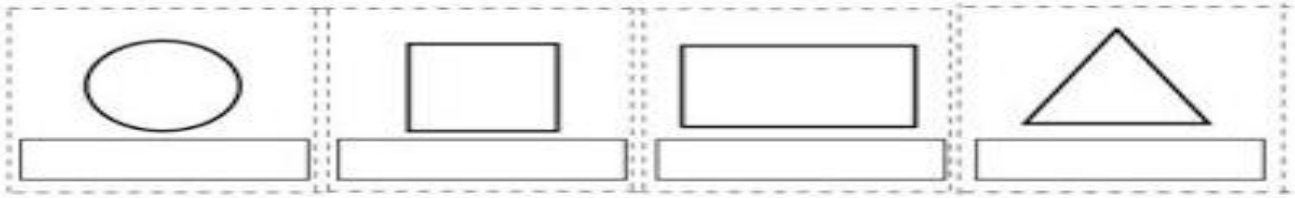

**ESTADO DE MATO GROSSO DO SUL**
**MUNICÍPIO DE LADÁRIO**
**SECRETARIA MUNICIPAL DE EDUCAÇÃO**

| | | |
|---|---|---|
| **Escola:** Municipal Rural Maria Ana Ruso | | |
| **Professora:** Maria do Carmo Rodrigues Coelho | | **Ensino Fundamental - I** |
| **Aluno:** | **Turma: 3º**ano -U | **Turno:** Vespertino |
| **Componente Curricular:** Matemática | **Quantidades de aulas:**06 | |
| **Objetivo de conhecimento:** Medidas de tempo/Tabelas e gráficos **Habilidades**:EF03MA22/EF03MA26 | | |
| **Período:**23/06/2020 a 30/06/2020 | | |

**MATEMÁTICA**

**1.** Observe o relógio:

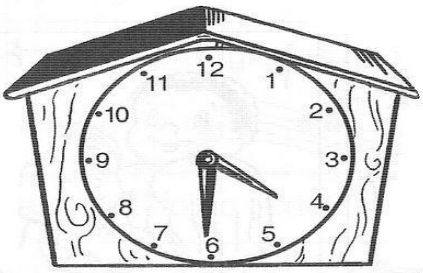

**a)** Que horas ele está marcando?

**b)** O ponteiro grande aponta para o numeral:

**c)** A função do ponteiro grande é marcar:

_____

**d)** O ponteiro pequeno está entre os numerais:

& 

**e)** Para que serve o ponteiro pequeno?

_____

_____

**f )** Quando são horas exatas o ponteiro grande aponta o numeral:

**2.** Escreva nos retângulos as horas indicadas em cada um dos relógios·



ESTADO DE MATO GROSSO DO SUL
MUNICÍPIO DE LADÁRIO
SECRETARIA MUNICIPAL DE EDUCAÇÃO

# Trabalhando as Horas



Recorte as horas indicadas nos mostradores digitais e cole-as abaixo de cada relógio:











20:25 | 15:00 | 13:20 | 12:05

16:10 | 17:15 | 18:45 | 14:30

ESTADO DE MATO GROSSO DO SUL
MUNICÍPIO DE LADÁRIO
SECRETARIA MUNICIPAL DE EDUCAÇÃO

# REGISTRANDO

Observe o gráfico e veja o número de pessoas que compareceram à feira estadual de malhas em Curitiba, durante a semana, e depois responda:

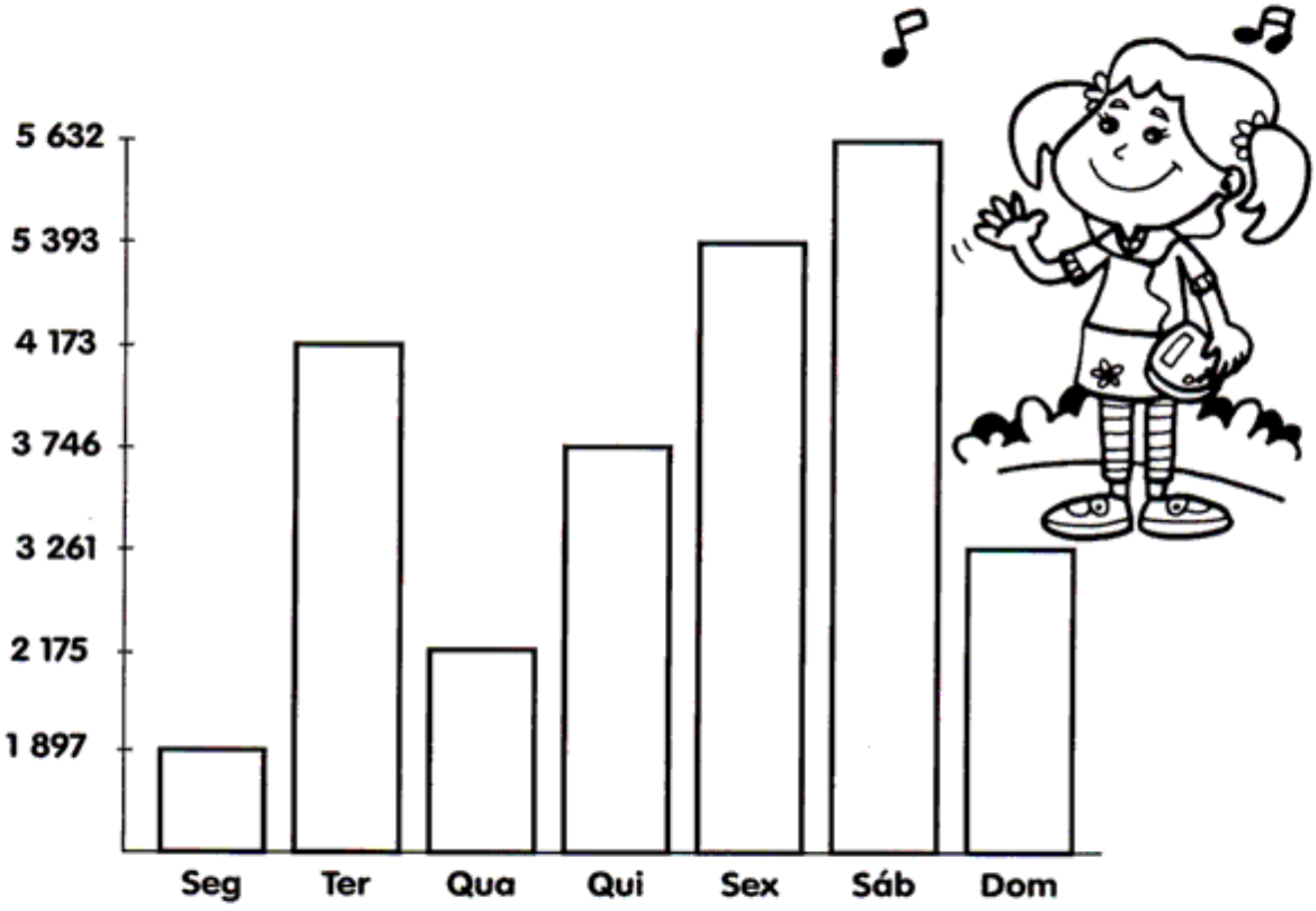


A) Em que dia houve mais visitantes? _____

B) Qual foi o total de visitantes durante a semana? _____

C) Quantos visitantes foram a mais no sábado que no domingo? _____

D) Qual a diferença entre os totais de sexta-feira e segunda-feira? _____

E) Quantas pessoas a mais teriam que ter visitado a feira na quarta-feira para ficar com o mesmo número de pessoas da terça-feira? _____

F) Em qual dia a feira recebeu menos visitantes? _____

ESTADO DE MATO GROSSO DO SUL
MUNICÍPIO DE LADÁRIO
SECRETARIA MUNICIPAL DE EDUCAÇÃO

Veja no gráfico abaixo o tempo médio de vida de alguns animais:

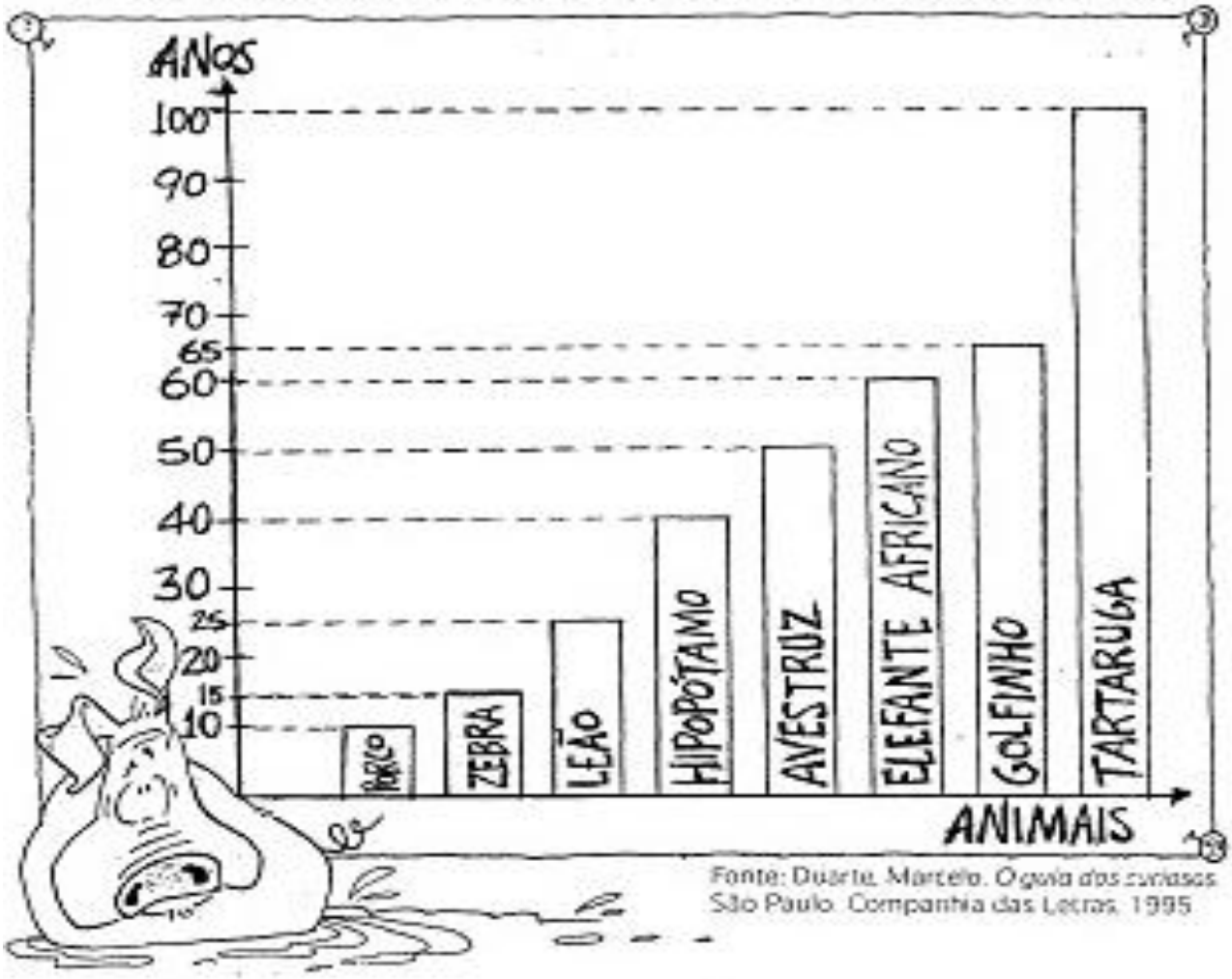


Fonte: Duarte, Martelo. *O guia dos curiosos*. São Paulo: Companhia das Letras, 1995.

a) Entre esses animais, qual é o de vida mais:
- longa? _____
- curta? _____

b) Quantos anos o elefante africano vive em média a mais que o avestruz?

_____

c) Quantos anos a zebra vive em média a menos que o golfinho?

_____

d) O leão vive em média mais ou menos anos que o hipopótamo? Quanto?

**ESTADO DE MATO GROSSO DO SUL**
**MUNICÍPIO DE LADÁRIO**
**SECRETARIA MUNICIPAL DE EDUCAÇÃO**

| | | |
|---|---|---|
| **Escola:** Municipal Rural Maria Ana Ruso | | |
| **Professora:** Maria do Carmo Rodrigues Coelho | | **Ensino Fundamental - I** |
| **Aluno:** | **Turma: 3º**ano -U | **Turno:** Vespertino |
| **Componente Curricular:**História | **Quantidades de aulas:**08 | |
| **Objetivo de conhecimento:**Datas comemorativas/Vida no campo e cidade. | | |
| **Habilidades**: EF01HI08/EF03HI08 | | |
| **Período:**08/06/2020 a 30/06/202 | | |

**HISTÓRIA**

**1.CHEGOU A HORA DA FESTANÇA:**

Marcar com um X o desenho que não pertence a uma Festa Junina:




Vamos preencher o diagrama com os nomes das figuras abaixo?

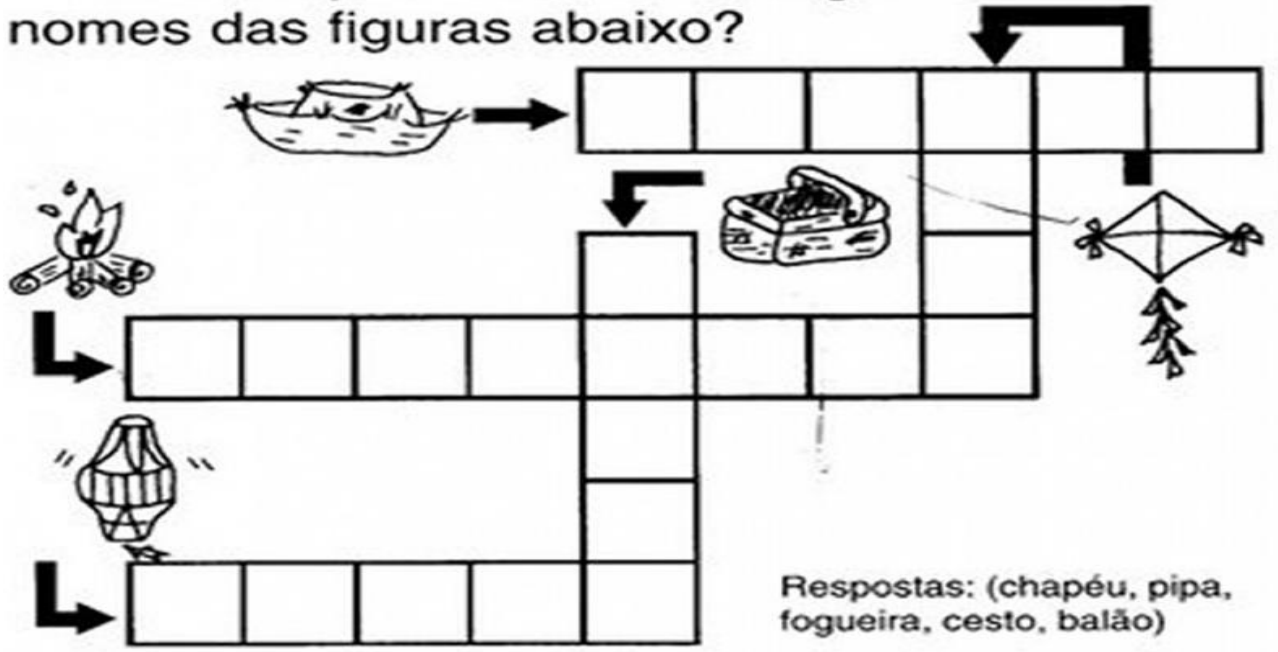

Respostas: (chapéu, pipa, fogueira, cesto, balão)

ESTADO DE MATO GROSSO DO SUL
MUNICÍPIO DE LADÁRIO
SECRETARIA MUNICIPAL DE EDUCAÇÃO

1. Encontre no caça-palavras abaixo palavras relacionadas às festas juninas. Cubra-as.



| | | | | | | | | |
|---|---|---|---|---|---|---|---|---|
| A | B | C | P | I | P | O | C | A |
| A | M | E | N | D | O | I | M | N |
| V | F | O | G | E | B | I | R | A |
| C | A | I | P | I | R | A | B | A |
| T | Q | U | E | N | T | Ã | O | C |
| V | X | Z | A | B | A | N | D | E |
| C | F | O | G | U | E | T | E | D |
| F | O | G | U | E | I | R | A | A |
| U | B | A | D | R | A | Z | U | I |
| B | C | D | E | F | G | J | O | G |
| Q | U | A | D | R | I | L | H | A |
| X | Z | A | B | C | C | H | A | P |
| J | L | M | I | L | H | O | V | E |
| B | A | L | Ã | O | V | X | C | A |

ESTADO DE MATO GROSSO DO SUL
MUNICÍPIO DE LADÁRIO
SECRETARIA MUNICIPAL DE EDUCAÇÃO

# FESTAS JUNINAS
## 13, 24 E 29 DE JUNHO

Junho é mês de festa e de alegria em todo o Brasil. É o mês das festas juninas: **Santo Antônio**, **São João e São Pedro.**

No dia **13** de junho
há festa o tempo inteiro.
Comemoramos Santo Antônio,
o santo casamenteiro.

Em **24** de junho
festejamos São João.
É dia de fogueira,
de pipoca e de quentão.

Em **29** de junho
de São Pedro é a festança!
Nas quadrilhas do arraial,
toda gente brinca e dança.



Crianças, jovens e velhos dançam quadrilha, acendem fogueira, assam milho e batata-doce, estouram pipoca, bebem quentão e fazem muitas brincadeiras.

**Lembre-se:** É proibido soltar balão! Os balões podem causar incêndios e destruir árvores, casas, escolas, fábricas, hospitais.

**2.AGORA FAÇA UM LINDO DESENHO DE UMA FESTA JUNINA:**

ESTADO DE MATO GROSSO DO SUL
MUNICÍPIO DE LADÁRIO
SECRETARIA MUNICIPAL DE EDUCAÇÃO

# ZONA URBANA OU RURAL

Coloque V para as frases verdadeiras e F para as frases falsas.

( ) A zona urbana é formada pelo centro da cidade e os bairros

( ) Na zona rural, uma casa fica distante da outra

( ) Na zona rural tem grandes lojas

( ) Eu estudo na zona rural

( ) Os alimentos naturais como frutas verduras e legumes vem da zona urbana

( ) Na zona rural o ar é poluído

( ) Na zona urbana tem muita movimentação e trânsito

Reescreva as frases falsas, do exercício anterior, fazendo-as ficarem verdadeiras.

_____

_____

_____

_____

_____

Pinte somente a paisagem urbana





**ESTADO DE MATO GROSSO DO SUL**
**MUNICÍPIO DE LADÁRIO**
**SECRETARIA MUNICIPAL DE EDUCAÇÃO**

**Escola:** Municipal Rural Maria Ana Ruso
**Professora:** Maria do Carmo Rodrigues Coelho **Ensino Fundamental - I**
**Aluno:** **Turma: 3**ºano -U **Turno:** Vespertino

**Componente Curricular:**Geografia **Quantidades de aulas:**06
**Objetivo de conhecimento:**Paisagem naturais e modificadas **Habilidades**: EF03GE04
**Período:**08/06/2020 a 30/06/202

**GEOGRAFIA**

# GEOGRAFIA

## A paisagem natural e A paisagem humanizada

Olhando ao seu redor, você pode ver uma porção de coisas.

Muitas dessas coisas foram feitas pelo homem, outras não.

Todas as coisas que existem e que não foram feitas pelo homem, fazem parte da natureza, como os rios, os mares, as fontes, as serras, as montanhas, as ilhas, as florestas, os animais...

O homem, para o seu bem-estar e para ter melhores condições de vida, modifica a paisagem natural:

**Constrói pontes.**



**Abre túneis.**



**Faz aterros.**



**Abre estradas.**



Constrói viadutos.



Constrói cidades.



Faz barragens nos rios.



Canaliza a água dos rios.



Tudo aquilo que existe e que foi feito pelo homem, faz parte da paisagem humanizada, como as cidades, os túneis, as estradas, as plantações...

1º) O que é paisagem?

_____

_____

_____

2) A paisagem pode ser constituída por umagrande variedade de elementos.



Observe a pintura *Paisagem com touro* de Tarsila do Amaral:

a) Que elementos você observa na pintura?

_____

_____

_____

b) Quais os **elementos naturais** presentes napintura?

_____

_____

c) Quais foram construídos pelo seres humanos?

_____

_____

_____