ESTADO DE MATO GROSSO DO SUL
MUNICÍPIO DE LADÁRIO
SECRETARIA MUNICIPAL DE EDUCAÇÃO

Escola: Municipal Rural Maria Ana Ruso
Professora: Maria do Carmo Rodrigues Coelho **Ensino Fundamental - I**
Aluno: **Turma:** 3ºano U **Turno:** Vespertino
Componente Curricular: Língua Portuguesa **Quantidades de aulas:** 13
Objetivo de conhecimento: Segmentação de palavras/Classificação de palavras por número de sílabas. Compreensão em leitura/Estratégia de leitura/Forma de composição do texto/Formação do leitor literário.
Habilidades: EF35LP03/ EF35LP04/ EF03LP05/ EF03LP11/ EF03LP12/ EF03LP16/ EF35LP21
Período:01 a 15 /07/2020

ATIVIDADE AVALIATIVA DE LÍNGUA PORTUGUESA

01 QUESTÃO

Leia o texto abaixo.

Filharada
A joaninha Casou Com o pirilampo. Os fihos Nasceram, Pintadinhos, Pareciam Com sarampo.

A.Quais palavras rimam nesse texto?

_____

B. De acordo com o texto, com quem a Joaninha casou?

_____

02 QUESTÃO

Leia o texto abaixo.

Ginga de mestre Para muitos, a capoeira parece uma dança. Outros falam que é um jogo ou uma luta. Na verdade, é uma mistura de tudo isso! E não se engane: a ginga dos praticantes vira um combate se eles quiserem brigar para valer. A capoeira é o jeito mais brasileiro de lutar. E é herança dos escravos, que usavam o jogo da África como defesa, disfarçando os treinos com canções e palmas. Assim esse esporte fiou como é hoje: gingado e bonito de ver!

A. Qual é o assunto desse texto?

_____

B. De acordo com o texto, como os escravos disfarçavam os treinos de capoeira?

_____

C. Qual a finalidade desse texto?

_____

03 QUESTÃO

Leia o texto abaixo.

Tatá pede socorro! Tatá nada no mar, brinca com os peixes e faz bolhinhas. Mas Tatá está tão sozinha... Onde estão as outras tartarugas? O pingo não é chuva não. É uma lágrima que o Sol deixa cair de tristeza. Mas a Lua tem uma surpresa. E conta para Tatá um segredo: Um dia Tatá porá ovos. A areia os esconderá. O mar cuidará das novas tartaruguinhas. E o vento soprará até você um pedido: – Deixe Tatá nadar no mar, brincar com os peixes e fazer bolhinhas... E não se sentir tão sozinha.

De acordo com o texto, quem era Tatá?

_____

B. Qual gênero textual pertence esse texto?

_____

C. Qual segredo que a Lua contou a Tatá?

_____

04 QUESTÃO

Veja a figura abaixo



A. Escreva o que acontece nessa cena.

_____

B. Escreva 3 palavras que rimam com o objeto que a criança está brincando.

_____

ESTADO DE MATO GROSSO DO SUL
MUNICÍPIO DE LADÁRIO
SECRETARIA MUNICIPAL DE EDUCAÇÃ

05.LEIA A TIRINHA E MARQUE CERTO:



DE ACORDO COM A TIRINHA A MAGALI QUERIA?

(A) BRINCAR COM A MÔNICA
(B) LER O LIVRO DA MÔNICA
(C) ASSUSTAR PARA COMER A FRUTA
(D) GRITAR COM A MÔNICA

06.LEIA A QUESTÃO E RESPONDA:

2- LEIA A QUESTÃO E RESPONDA:



ESSE TEXTO SERVE PARA:

(A) ENSINAR OS DIAS DA SEMANA
(B) ORGANIZAR O CARDÁPIO DA SEMANA
(C) DAR UM AVISO AOS PAIS
(D) FAZER UMA RECEITA.

07.LEIA E RESPONDA:



QUAL A FUNÇÃO DESTE TEXTO:

(A) ORGANIZAR A LISTA DE MATERIAL ESCOLAR
(B) ORGANIZAR O CARDÁPIO DA SEMANA
(C) ORGANIZAR A LISTA DA FESTA DE ANIVERSÁRIO
(D) ORGANIZAR A LISTA DO SUPERMERCADO

1-LEIA:

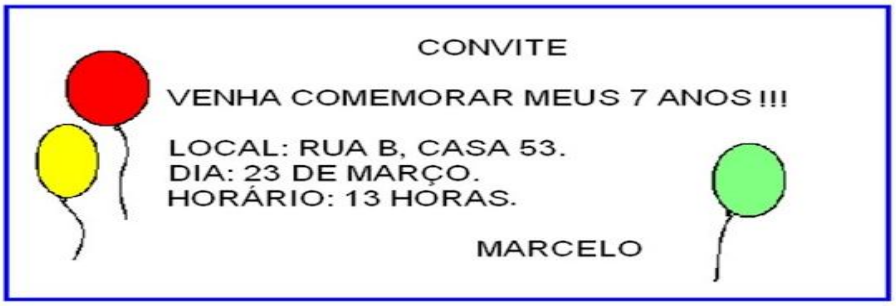

O CONVITE É PARA UMA:

( ) FESTA DE ANIVERSÁRIO.
( ) REUNIÃO DE PAIS.
( ) FESTA FORMATURA.
( ) FESTA JUNINA.

ESTADO DE MATO GROSSO DO SUL
MUNICÍPIO DE LADÁRIO
SECRETARIA MUNICIPAL DE EDUCAÇÃO

08.LEIA A HISTÓRIA EM QUADRINHO E RESPONDA:

Leia o texto abaixo.



SOUZA, Maurício de. Bidu. Rio de Janeiro: Globo, nº 23,1999. p.162

O menino ficou chateado porque o cachorrinho
A) estragou o jornal.
B) não lhe deu o jornal.
C) quis rasgar o jornal.
D) amassou o jornal.

09.LEIA:

Leia o texto abaixo.



A menina fechou a boca do menino para ele não

A) brincar.
B) comer.
C) gritar.
D) sorrir.

10.DEPOIS COPIE EM SEU CADERNO DE LÍNGUA PORTUGUESA AS ATIVIDADES 1,2,3,4:

ESTADO DE MATO GROSSO DO SUL
MUNICÍPIO DE LADÁRIO
SECRETARIA MUNICIPAL DE EDUCAÇÃO

Escola: Municipal Rural Maria Ana Ruso
Professora: Maria do Carmo Rodrigues Coelho **Ensino Fundamental - I**
Aluno: **Turma:**3 ºano U **Turno:** Vespertino

Componente Curricular: Matemática **Quantidades de aulas**:11
Objetivo de conhecimento: Construção de fatos fundamentais fundamentais/ Procedimentos de cálculo/ Problemas das operações fundamentais/ Figuras geométricas espaciais/ Medidas de tempo.
Habilidades: EF03MA03/ EF03MA05/EF03MA06./ EF04MA17/EF04MA22
Período:01 a 15 /07/20

ATIVIDADE AVALIATIVA DE MATEMÁTICA

OBSERVAÇÕES:EM TODAS AS ATIVIDADES DEVERÁ MARCAR SOMENTE UMA ALTERNATIVA

1-PINÓQUIO GANHOU DE SEU AMIGO GRILO, MAIS FIGURINHAS PARA A SUA COLEÇÃO. SE ELE GANHOU MAIS 6 FIGURINHAS, COM QUANTAS FIGURINHAS PINÓQUIO FICOU?

(A) 14
(B) 15
(C) 16



2-OLHANDO O RÁDIO DO GEPETO, VEMOS A FORMA DE UM:

(A) TRIÂNGULO
(B) CIRCULO
(C) RETÂNGULO



3-VEJA O PINÓQUIO E O GRILO FALANTE:



QUANTAS PIPAS FALTAM PARA PINÓQUIO FICAR COM A MESMA QUANTIDADE DE BOLAS QUE O GRILO TEM?

(A) 2
(B) 3
(C) 4

4-QUANTOS QUADRADOS VEMOS NO DESENHO ABAIXO?

(A) 3
(B) 4
(C) 6



ESTADO DE MATO GROSSO DO SUL
MUNICÍPIO DE LADÁRIO
SECRETARIA MUNICIPAL DE EDUCAÇAO

5.LEIA E MARQUE A ALTERNATIVA CORRETA:

VEJA ABAIXO AS CAMISAS DE UNIFORME DA SELEÇÃO BRASILEIRA:

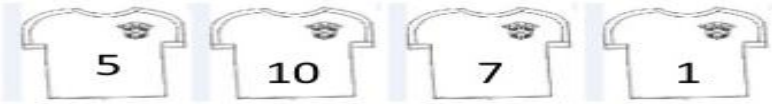

AS CAMINSAS FORAM ENTREGUES PARA OS JOGADORES EM ORDEM CRI
A ORDEM DE ENTREGA FOI:

(A) 7 – 10- 5 – 1
(B) 1 – 5 – 7 – 10
(C) 1 – 7 – 5 – 10
(D) 10 – 7 – 5 – 1

06.GEPETO FEZ 14 CAIXINHAS DE MADEIRA , SE 4 SE QUEBRARAM, QUANTAS ESTARAM?



(A) 9
(B) 10
(C) 11

08.SE VOCÊ CIRCULAR GRUPOS DE 5 ,QUANTOS GRUPOS VAI FICAR?



(A) 2 GRUPOS
(B) 3 GRUPOS
(C) 4 GRUPOS

TIAGO E PEDRO FAZEM ANIVERSÁRIO NA MESMA DATA. TIAGO ESTÁ COMPLETANDO 05 ANOS E PEDRO O DOBRO DA IDADE DE TIAGO.



MARQUE O BOLO QUE REPRESENTA A IDADE QUE PEDRO ESTÁ COMPLETANDO.

(A) 

(B) 

(C) 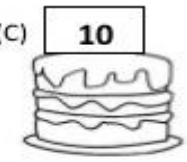

(D) 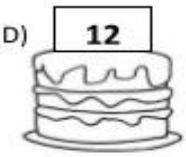

10.MARQUE A BRINCADEIRA CORRETA:

NA CRECHE SONHO ENCANTADO A PROFESSORA PESQUISOU AS BRINCADEIRAS PREFERIDAS PELOS ALUNOS.



BRINCADEIRAS PREFERIDAS	
BRINCADEIRA	TOTAL
QUEIMADA	5
AMARELINHA	7
MORTO-VIVO	8
ESTÁTUA	9
PEGA-PEGA	10

A BRINCADEIRA PREFERIDA PELOS ALUNOS É:

(A) MORTO - VIVO
(B) PEGA – PEGA
(C) QUEIMADA
(D) ESTÁTUA

H17 — QUESTÃO 11

(SAEMS). O quadro abaixo mostra os pontos conquistados por quatro pilotos no campeonato de Fórmula Jovem.

PILOTOS	PONTOS
Pesado	111
Chuma	92
Raico	109
Rubão	99

Quem ganhou esse campeonato?
A) Pesado.
B) Chuma.
C) Raico.
D) Rubão.

H15 — QUESTÃO 12

(SAEMS). Observe o calendário abaixo.

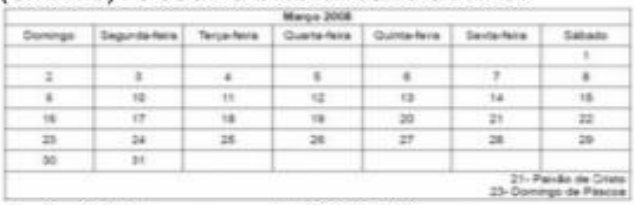

Março 2008						
Domingo	Segunda-feira	Terça-feira	Quarta-feira	Quinta-feira	Sexta-feira	Sábado
						1
2	3	4	5	6	7	8
9	10	11	12	13	14	15
16	17	18	19	20	21	22
23	24	25	26	27	28	29
30	31					

21- Paixão de Cristo
23- Domingo de Páscoa

O dia 19 de março de 2008 foi
A) quarta-feira.
B) quinta-feira.
C) sexta-feira
D) sábado.

H11 — QUESTÃO 13

(SAEMS). Rogério montou uma pipa, usando peças com figuras geométricas, como mostra o desenho abaixo.

Nessa pipa, qual é a peça que tem a forma de triângulo?
A) Peça 1.
B) Peça 2.
C) Peça 3.
D) Peça 4.

H8 — QUESTÃO 14

(SAEMS). Veja a operação que Denise escreveu no quadro abaixo.

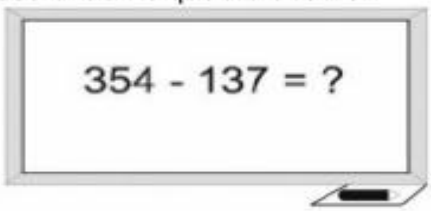

Qual é o resultado dessa operação?
A) 491
B) 481
C) 227
D) 217

H8 — QUESTÃO 15

(SAEMS). Observe a adição abaixo.

855 + 217

Qual é o resultado dessa adição?
A) 1 062
B) 1 072
C) 1 082
D) 1 092

H1 — QUESTÃO 16

(SAEMS). Abaixo está representado o corredor onde se localiza a sala de aula de Fabiana. Para chegar a sua sala de aula, ela deve subir a escada, seguir em frente pelo corredor e entrar na 2ª porta à esquerda.

ESTADO DE MATO GROSSO DO SUL
MUNICÍPIO DE LADÁRIO
SECRETARIA MUNICIPAL DE EDUCAÇÃO

Escola: Municipal Rural Maria Ana Ruso		
Professora: Maria do Carmo Rodrigues Coelho		**Ensino Fundamental - I**
Aluno:	**Turma:** 2ºano U	**Turno:** Vespertino
Componente Curricular: História		**Quantidades de aulas:** 05
Objetivo de conhecimento: Data comemoirativa:Festa junina		
Habilidades :EF01HI08		
Período:01 a 15 /07/20		

ATIVIDADE AVALIATIVA DE HISTÓRIA

FESTAS JUNINAS

O MÊS DE JUNHO É CARACTERIZADO POR DANÇAS, COMIDAS TÍPICAS E BANDEIRINHAS.

A FESTA JUNINA SE INICIA NO DIA 12 DE JUNHO, VÉSPERA DO DIA DE SANTO ANTÔNIO E ENCERRA NO DIA 29, DIA DE SÃO PEDRO.

O PONTO MAIS ELEVADO DA FESTA OCORRE NOS DIAS 23 E 24, O DIA DE SÃO JOÃO.

DURANTE OS FESTEJOS ACONTECEM QUADRILHAS, FORRÓS, LEILÕES, BINGOS, BRINCADEIRAS E CASAMENTOS CAIPIRAS.



ESCREVA AQUI OS NOMES DOS SANTOS QUE APARECEM NO TEXTO:

ESTADO DE MATO GROSSO DO SUL
MUNICÍPIO DE LADÁRIO
SECRETARIA MUNICIPAL DE EDUCAÇÃO

1.COMPLETE A CRUZADINHA:

★ São Pedro
★ Terreiro
★ Balões
★ Barraquinhas
★ Santo Antônio
★ Bambus
★ São João
★ Amendoim
★ Pipocas
★ Quadrilha
★ Festança



1) Mês de festa no arraial: _____
2) Mamãe prepara _____ torrado para a festança.
3) A _____ será muito animada.
4) Vamos soltar _____ coloridos no céu.
5) O pessoal ensaia _____ no terreiro.
6) O _____ está todo enfeitado com barraquinhas.
7) Dia 24 de junho é dia de _____.
8) A criança fez arcos com _____ para decorar o terreiro.
9) Dia 13 de junho é dia de _____.
10) Nas _____ tem quentão e milho verde cozido.
11) As _____ pulam na panela.
12) Dia 29 de junho é dia de _____.



ESTADO DE MATO GROSSO DO SUL
MUNICÍPIO DE LADÁRIO
SECRETARIA MUNICIPAL DE EDUCAÇÃO

2.COMPLETE O CAÇA PALAVRAS:

CAÇA PALAVRAS JUNINOS

B	A	R	R	A	C	A	S	V	T	R	G	A	S	A	N	F	O
Q	A	M	E	N	D	O	I	M	A	P	C	N	P	A	M	L	M
S	D	N	C	X	E	S	M	H	M	I	H	O	F	O	G	U	N
Q	U	A	D	R	I	L	H	A	E	P	U	F	D	R	S	B	A
U	H	J	V	E	M	I	K	L	N	O	T	N	H	J	L	M	C
A	C	O	H	L	I	M	V	B	T	C	R	A	X	R	A	S	I
S	G	U	E	I	A	R	G	O	L	A	A	S	F	G	I	Y	A
O	B	R	A	R	F	G	I	U	O	J	S	E	C	L	R	U	C
T	J	K	L	N	M	B	V	N	L	R	C	L	H	Ç	A	J	I
N	C	H	Á	P	I	L	D	C	H	U	R	R	A	S	C	O	J
A	R	I	E	U	G	O	F	B	Ç	A	O	F	P	N	S	L	N
S	M	N	H	A	S	D	U	I	É	G	S	U	É	J	E	Ç	A
N	H	N	G	I	C	A	R	F	U	G	L	H	U	K	P	N	C



AMENDOIM ARGOLA BANDEIRINHAS
BARRACAS CAIPIRA CANJICA
CHAPÉU CHURRASCO FOGUEIRA
MILHO PESCARIA PIPOCA
QUADRILHA SANFONA SANTOS

ESTADO DE MATO GROSSO DO SUL
MUNICÍPIO DE LADÁRIO
SECRETARIA MUNICIPAL DE EDUCAÇÃO

3.RECORTE E MONTE EM SEU CADERNO DE HISTÓRIA ESSE QUEBRA CABEÇA JUNINO:



ESTADO DE MATO GROSSO DO SUL
MUNICÍPIO DE LADÁRIO
SECRETARIA MUNICIPAL DE EDUCAÇÃO

Escola: Municipal Rural Maria Ana Ruso
Professora: Maria do Carmo Rodrigues Coelho **Ensino Fundamental - I**
Aluno: **Turma:** 2ºano U **Turno:** Vespertino
Componente Curricular: Geografia **Quantidades de aulas:04**
Objetivo de conhecimento: Paisagens naturais e antrópicas em transformação;
Habilidades: EF03GE04
Período:01 a 15/07/20

ATIVIDADE AVALIATIVA DE GEOGRAFIA

1.VAMOS FAZER A ATIVIDADE COM CAPRICHO;

AS PAISAGENS FORAM SE MODIFICANDO COM O PASSAR DO TEMPO. PINTE AS ILUSTRAÇÕES, RECORTE-AS E ORGANIZE NO CADERNO, COLOCANDO AS TRANSFORMAÇÕES NA SEQUÊNCIA CORRETA, DEPOIS COLE-AS NO CADERNO.



ESTADO DE MATO GROSSO DO SUL
MUNICÍPIO DE LADÁRIO
SECRETARIA MUNICIPAL DE EDUCAÇÃO

2.OBSERVE E FAÇA A ATIVIDADE ABAIXO:

PINTE SÓ AS PAISAGENS **NATURAIS**


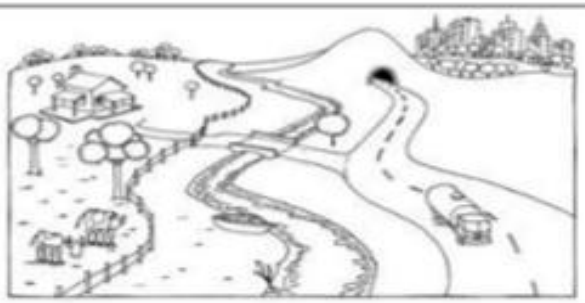



FAÇA UM **X** NA PAISAGEM **MODIFICADA**



MODIFICADA



NATURAL

ESTADO DE MATO GROSSO DO SUL
MUNICÍPIO DE LADÁRIO
SECRETARIA MUNICIPAL DE EDUCAÇÃO

3.PINTE CERTO:

PINTE de verde o que encontramos na paisagem natural e de vermelho o que encontramos na paisagem modificada.

RIOS	SUPERMERCADOS	ESTRADAS
MONTANHAS	FÁBRICAS	CACHOEIRAS

4.MARQUE CERTO OU ERRADO:

MARQUE (V) para as alternativas verdadeiras e (F), para as falsas.

( ) O ser humano transformou grande parte das paisagens naturais do planeta.

( ) As praias, cachoeiras e montanhas são paisagens consideradas naturais.

( ) As cidades construídas não foram transformadas pelo homem.

5. COMPLETE:

COMPLETE as lacunas com as palavras em destaque.

BRASIL - RIO DE JANEIRO - CIDADE MARAVILHOSA

A cidade do _____ é conhecida como _____.

Esta cidade fica localizada no mais belo dos países chamado _____.

6.COMPLETE:

OBSERVE a imagem abaixo e **ESCREVA** um direito das crianças que não está sendo respeitado.



_____

_____

ESTADO DE MATO GROSSO DO SUL
MUNICÍPIO DE LADÁRIO
SECRETARIA MUNICIPAL DE EDUCAÇÃO

7.OBSERVE AS TIRINHAS DE DIFERENTES PAISAGENS,RECORTE E COLE EM SEU CADERNO DE GEOGRAFIA E ESCREVA QUAL TIPO DE PAISAGEM :

Agora vamos observar outras paisagens.
Tente identificar cada uma delas.

