ESTADO DE MATO GROSSO DO SUL
MUNICÍPIO DE LADÁRIO
SECRETARIA MUNICIPAL DE EDUCAÇÃO

Escola Municipal Rural Maria Ana Ruso
Ladário____ de _____ de 2020
Aluno(a):
Professor(a): Suziane
Turma: 3º Ano

Cronograma das Atividades de Arte 1º ao 3º ano

CONTEÚDO:
- Outros trabalhos de Dim Brinquedim

METODOLOGIA:
*** 24\04\2020**
- Livro didático página – 77;
- Observar a imagem Revoada, de Dim Brinquedim, 2014 ;
- Reproduzir no caderno, bem grande a obra Revoada ;
- Pintar o desenho.

*** 25\04\2020**
- Livro didático página 77;
- Observe a obra Nas Nuvens, de Dim Brinquedim, 2014
- Reproduza no caderno a obra Nas Nuvens;
- Pintar o desenho;

*** 28\04\2020**
- Livro página – 76;
- Observe a Obra: Brincando na chuva, de Dim Brinquedim, 2003;
- Reproduza no caderno a obra: Brincando na Chuva;
- Pintar o desenho.

Cronograma da atividade de E.C.D.H.

CONTEÚDO:
- Nossa história

METODOLOGIA:
-27\04\2020
- Converse com um adulto e procure saber as mudanças que houve no lugar onde mora;
- Desenhar no caderno o lugar onde mora, onde vive, quem mora com você;
- Desenhar também as brincadeiras quem costumam fazer;
- Pintar o desenho.

ESTADO DE MATO GROSSO DO SUL
MUNICÍPIO DE LADÁRIO
SECRETARIA MUNICIPAL DE EDUCAÇÃO

Escola Municipal Rural Maria Ana Ruso
Ladário____ de _____ de 2020
Aluno(a):
Professor(a): Fábio
Turma: 3º Ano

CIÊNCIAS 1ª ATIVIDADE

RECORTE AS *DICAS DE HIGIENE* E COLE-AS DE ACORDO COM AS FIGURAS.

CANTINHO DA HIGIENE





1
2
3
4

ESCOVAR OS DENTES.	TOMAR BANHO.
PENTEAR OS CABELOS.	LAVAR AS MÃOS .

https://porvir.org/dicas-de-formatos-de-atividades-online-durante-a-crise-do-coronavirus/

ESTADO DE MATO GROSSO DO SUL
MUNICÍPIO DE LADÁRIO
SECRETARIA MUNICIPAL DE EDUCAÇÃO

Escola Municipal Rural Maria Ana Ruso
Ladário____ de _____ de 2020
Aluno(a):
Professor(a): Fábio
Turma: 3º Ano

CIÊNCIAS 2ª ATIVIDADE



https://porvir.org/dicas-de-formatos-de-atividades-online-durante-a-crise-do-coronavirus/

ESTADO DE MATO GROSSO DO SUL
MUNICÍPIO DE LADÁRIO
SECRETARIA MUNICIPAL DE EDUCAÇÃO

Escola Municipal Rural Maria Ana Ruso
Ladário____ de _____ de 2020
Aluno(a):
Professor(a): Walquiria
Turma: 3º Ano

Atividade Pedagógica complementar

Conhecimento sobre o corpo

VAMOS PROCURAR AS PALAVRAS:



B	N	O	L	H	O	D
N	A	R	I	Z	D	O
T	Y	U	D	G	P	É
T	R	D	M	Ã	O	V
A	B	O	C	A	Y	X
O	R	E	L	H	A	C



https://escolaeducacao.com.br/atividades-sobre-o-corpo-humano/atividades-sobre-o-corpo-humano-caca-palavras/

ESTADO DE MATO GROSSO DO SUL
MUNICÍPIO DE LADÁRIO
SECRETARIA MUNICIPAL DE EDUCAÇÃO

Escola Municipal Rural Maria Ana Ruso
Ladário____ de _____ de 2020
Aluno(a):
Professor(a): Maria do Carmo
Turma: 3º Ano

ALUNO (A):

DATA: __/__ /___

SÉRIE: _____



MATEMÁTICA COM EMÍLIA – 3º ANO



LEIA E RESOLVA COM ATENCAO.

1. DONA BENTA TEM 60 ANOS E TIO BARNABÉ TEM 80 ANOS. QUAL A DIFERENÇA DE IDADE ENTRE ELES?



2. TIA NASTÁCIA FOI A FEIRA E COMPROU 16 MAÇAS, 19 PERAS E 20 LARANJAS. QUANTAS FRUTAS ELA COMPROU?



3. PEDRINHO TINHA 30 REAIS PARA COMPRAR BRINQUEDOS. QUANDO CHEGOU A LOJA ELE SE DEPAROU COM OS SEGUINTES VALORES:

- BOLA: 17 REAIS
- CARRINHO: 19 REAIS
- ESTILINGUE: 13 REAIS.



A) QUAIS BRINQUEDOS ELE PODE COMPRAR COM 30 REAIS?

B) QUANTOS REAIS IRÃO FALTAR SE ELE COMPRAR A BOLA E O ESTILINGUE?



BLOG CLICK EDUCATIVO

ESTADO DE MATO GROSSO DO SUL
MUNICÍPIO DE LADÁRIO
SECRETARIA MUNICIPAL DE EDUCAÇÃO

Escola Municipal Rural Maria Ana Ruso
Ladário____ de _____ de 2020
Aluno(a):
Professor(a): Maria do Carmo
Turma: 3º Ano

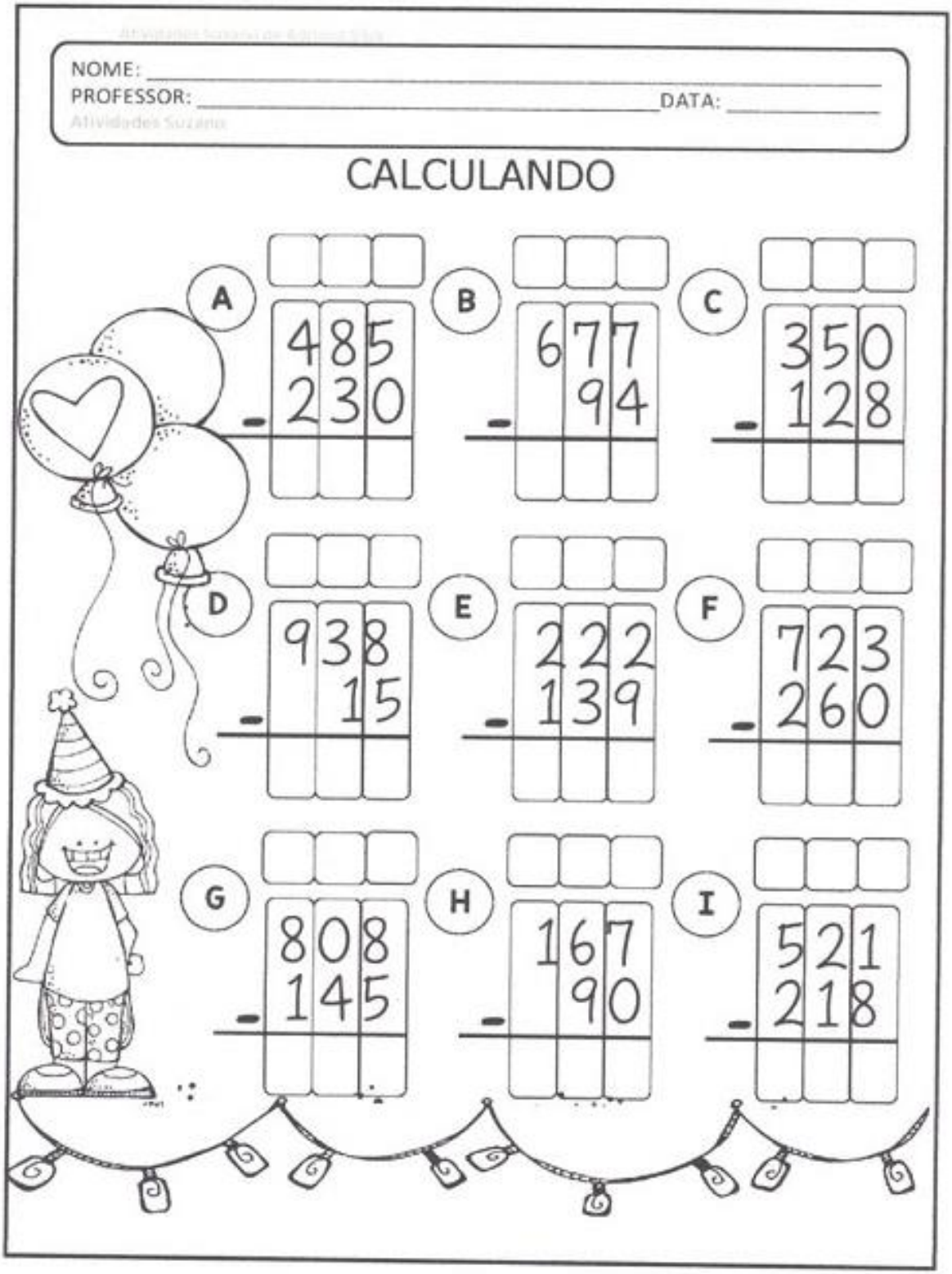

ESTADO DE MATO GROSSO DO SUL
MUNICÍPIO DE LADÁRIO
SECRETARIA MUNICIPAL DE EDUCAÇÃO

Escola Municipal Rural Maria Ana Ruso
Ladário____ de _____ de 2020
Aluno(a):
Professor(a): Maria do Carmo
Turma: 3º Ano

Colando Fichas



1. Complete os quadros abaixo

4	X		=	32			:	4	=	3
	X	7	=	21			:	3	=	8
4	X	9	=				:	4	=	5
	X	5	=	20			:	3	=	2
3	X	6	=				:	3	=	3
4	X		=	16			:	3	=	9







4	6	18	36	3	12
20	27	16	8	24	9

ESTADO DE MATO GROSSO DO SUL
MUNICÍPIO DE LADÁRIO
SECRETARIA MUNICIPAL DE EDUCAÇÃO

Escola Municipal Rural Maria Ana Ruso
Ladário____ de _____ de 2020
Aluno(a):
Professor(a): Maria do Carmo
Turma: 3º Ano

Matemática - 3º ano (Para -casa) - Data: ____/___/____

Recortar, colar e resolver os probleminhas abaixo no caderno de para casa. Deixe as continhas no caderno.

1. Em um estádio de futebol cabem 550 pessoas. Entraram apenas 380. Quantas pessoas ainda faltam para lotar o estádio?

---

2. Roberto tem 32 selos em sua coleção. Paulo tem 24 selos. Quantos selos Roberto têm a mais que Paulo?

---

3. Um sorveteiro fez 63 picolés de goiaba, 29 de laranja e 18 de manga. Vendeu ao todo 46 picolés. Quantos picolés não foram vendidos?



---

4. Numa estante havia 120 livros. Colocaram mais 48 e depois retiraram 23. Quantos livros ficaram?



---

5. Para o aniversário de Didi foram feitos 50 empadinhas, 45 coxinhas e 90 canudinhos. Quantos salgados foram feitos ?



---

6. Um feirante tinha 138 mangas e 123 laranjas. Vendeu 114 frutas. Quantas frutas ainda restam?



---

7. Carlos tem 45 figurinhas. André tem 87 . Quantas figurinhas os dois tem juntos?

ESTADO DE MATO GROSSO DO SUL
MUNICÍPIO DE LADÁRIO
SECRETARIA MUNICIPAL DE EDUCAÇÃO

Escola Municipal Rural Maria Ana Ruso
Ladário____ de _____ de 2020
Aluno(a):
Professor(a): Maria do Carmo
Turma: 3º Ano

Recursos Naturais



Água para beber.
Água para limpar.

Água para plantar.
Água para viver.

Que beleza!
É a água na natureza.



Complete a cruzadinha.











					N				
		C			A				
					T				
			B		U				
				A	R				
	E				E				
					Z				
			D		A				

ESTADO DE MATO GROSSO DO SUL
MUNICÍPIO DE LADÁRIO
SECRETARIA MUNICIPAL DE EDUCAÇÃO

Escola Municipal Rural Maria Ana Ruso
Ladário____ de _____ de 2020
Aluno(a):
Professor(a): Maria do Carmo
Turma: 3º Ano

O PICA-PAU

O que mais sinto falta do tempo em que morava na fazenda é do barulho do pica-pau:

Toque, toque, toque.

Lá estava o pica-pau batendo o bico no tronco das árvores.

Ele estava sempre à procura do alimento que mais apreciava: larvas de insetos escondidos na madeira.

Ah! Que saudade do toque, toque, toque do pica-pau.

Maria Luisa Aroeira



30

1 Onde o pica-pau vivia?

☐ No campo. ☐ Na cidade.

2 O alimento mais apreciado pelo pica-pau era:

☐ cascas de árvore.
☐ sementes de frutas.
☐ larvas de insetos.

3 Onde o pica-pau procurava seu alimento?

_____

_____

4 Todas as alternativas estão erradas, exceto:

☐ O pica-pau bate o bico no tronco para assustar os predadores.
☐ O pica-pau bate o bico no tronco para chamar a fêmea.
☐ O pica-pau bate o bico no tronco para procurar alimentos.

ESTADO DE MATO GROSSO DO SUL
MUNICÍPIO DE LADÁRIO
SECRETARIA MUNICIPAL DE EDUCAÇÃO

Escola Municipal Rural Maria Ana Ruso
Ladário____ de _____ de 2020
Aluno(a):
Professor(a): Maria do Carmo
Turma: 3º Ano

Chambolinho

Nome:

O MENINO E A ÁRVORE



ERA UMA VEZ UMA ÁRVORE
QUE AMAVA UM MENINO.
E TODOS OS DIAS
O MENINO
VINHA,
JUNTAVA
SUAS
FOLHAS
E COM ELAS FAZIA
COROAS DE REI,
COM ELAS BRINCAVA
DE REI DA FLORESTA.
SUBIA EM SEU GROSSO TRONCO,
BALANÇAVA-SE EM SEUS GALHOS,
COMIA SUAS MAÇÃS
E BRINCAVAM
DE ESCONDER.
QUANDO FICAVA CANSADO,
O MENINO REPOUSAVA
À SUA SOMBRA FRESQUINHA.
O MENINO AMAVA A ÁRVORE
PROFUNDAMENTE
E A ÁRVORE ERA FELIZ.

S. Silverstein - tradução de Fernando Sabino

De Olho No Texto

1. Responda de acordo com o texto:

a. Qual o título do texto? _____

b. Qual o assunto? _____

c. O que o menino costumava fazer todos os dias? _____

ESTADO DE MATO GROSSO DO SUL
MUNICÍPIO DE LADÁRIO
SECRETARIA MUNICIPAL DE EDUCAÇÃO

Escola Municipal Rural Maria Ana Ruso
Ladário____ de _____ de 2020
Aluno(a):
Professor(a): Maria do Carmo
Turma: 2º Ano

Blog Cantinho do Saber

Nome:_____Data:____/____/____

COMPLETE O QUADRO ABAIXO.

PALAVRA	Separação de sílabas	Classificação quanto ao número de sílabas
FUTEBOL		
JOGADOR		
TÉCNICO		
BOLA		
APITO		
GOL		
TRAVE		
BANDEIRINHA		

Desenvolvido por Blog Cantinho do Saber (Carolina) http://cantinhodosaber.buscasulfluminense.com/

ESTADO DE MATO GROSSO DO SUL
MUNICÍPIO DE LADÁRIO
SECRETARIA MUNICIPAL DE EDUCAÇÃO

Escola Municipal Rural Maria Ana Ruso
Ladário____ de _____ de 2020
Aluno(a):
Professor(a): Maria do Carmo
Turma: 3º Ano

Sílaba, divisão silábica e número de sílabas

Preencha o quadro como no modelo.

Palavra	Divisão silábica	Número de sílabas	Classificação
pedalada	pe-da-la-da	4 sílabas	polissílaba
céu			
abuso			
nó			
disco			
felicidade			
carretel			
nota			
viagem			
recreio			
sol			
duelo			
dama			

ESTADO DE MATO GROSSO DO SUL
MUNICÍPIO DE LADÁRIO
SECRETARIA MUNICIPAL DE EDUCAÇÃO

Escola Municipal Rural Maria Ana Ruso
Ladário____ de _____ de 2020
Aluno(a):
Professor(a): Maria do Carmo
Turma: 3º Ano

SEPARANDO AS SÍLABAS

Separe em sílabas as palavras e classifique-as.

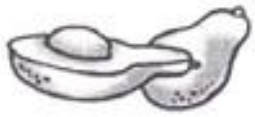










Quatro sílabas: polissílaba

Três sílabas: trissílaba

Duas sílabas: dissílaba

Uma sílaba: monossílaba

ESTADO DE MATO GROSSO DO SUL
MUNICÍPIO DE LADÁRIO
SECRETARIA MUNICIPAL DE EDUCAÇÃO

Escola Municipal Rural Maria Ana Ruso
Ladário____ de _____ de 2020
Aluno(a):
Professor(a): Maria do Carmo
Turma: 3º Ano

Nome:_____ Data:____/____/____

A casa do jabuti

Eu gosto da minha casa
e dela sou muito amigo,
pois, quando saio de casa,
levo-a nas costas comigo.

Eu gosto é da minha casa,
eu sou, sempre fui assim:
quando estou fora de casa,
me sinto... fora de mim...

A casa vou reformar,
apenas do lado externo:
eu quero um teto solar
como o de um carro moderno.



NCRONHA, Tereza/In. *Remar, rimar*. São Paulo: Scipione, 1994.

Tereza Noronha. Remar, rimar. São Paulo: Scipione, 1994. p. 20

1. Qual é o animal que aparece no poema?

2. Complete:
O poema tem _____ versos e _____ estrofes.

3. Copie abaixo as palavras que rimam no texto.

4. Por que o jabuti pretende reformar sua casa?

5. Retire do texto palavras com 2 sílabas.

ESTADO DE MATO GROSSO DO SUL
MUNICÍPIO DE LADÁRIO
SECRETARIA MUNICIPAL DE EDUCAÇÃO

Escola Municipal Rural Maria Ana Ruso
Ladário____ de _____ de 2020
Aluno(a):
Professor(a): Maria do Carmo
Turma: 3º Ano

Matemática - 3º ano (Para -casa) - Data: ____/___/____

Recortar, colar e resolver os probleminhas abaixo no caderno de para casa. Deixe as continhas no caderno.

1. Em um estádio de futebol cabem 550 pessoas. Entraram apenas 380. Quantas pessoas ainda faltam para lotar o estádio?

---

2. Roberto tem 32 selos em sua coleção. Paulo tem 24 selos. Quantos selos Roberto têm a mais que Paulo?

---

3. Um sorveteiro fez 63 picolés de goiaba, 29 de laranja e 18 de manga. Vendeu ao todo 46 picolés. Quantos picolés não foram vendidos?



---

4. Numa estante havia 120 livros. Colocaram mais 48 e depois retiraram 23. Quantos livros ficaram?



---

5. Para o aniversário de Didi foram feitos 50 empadinhas, 45 coxinhas e 90 canudinhos. Quantos salgados foram feitos ?



---

6. Um feirante tinha 138 mangas e 123 laranjas. Vendeu 114 frutas. Quantas frutas ainda restam?



---

7. Carlos tem 45 figurinhas. André tem 87 . Quantas figurinhas os dois tem juntos?

ESTADO DE MATO GROSSO DO SUL
MUNICÍPIO DE LADÁRIO
SECRETARIA MUNICIPAL DE EDUCAÇÃO

Escola Municipal Rural Maria Ana Ruso
Ladário____ de _____ de 2020
Aluno(a):
Professor(a): Maria do Carmo
Turma: 3º Ano

Aluno (a)_____ Turma 1º Ano
Prof._____ Data___/___/_____

Formas Geométricas

1. Complete:



Um  tem ____ lados

Um  tem ____ lados

Um  tem ____ lados

Um  tem ____ lados

O  é o único que não tem lados, pois é uma circunferência (Formato arredondado)

2. Desenhe:

Triângulo Quadrado Círculo Losango

Retângulo

ABC MUSICAL KID'S

ESTADO DE MATO GROSSO DO SUL
MUNICÍPIO DE LADÁRIO
SECRETARIA MUNICIPAL DE EDUCAÇÃO

Escola Municipal Rural Maria Ana Ruso
Ladário____ de _____ de 2020
Aluno(a):
Professor(a): Maria do Carmo
Turma: 3º Ano

DECLARAÇÃO DOS DIREITOS DA CRIANÇA



ESTADO DE MATO GROSSO DO SUL
MUNICÍPIO DE LADÁRIO
SECRETARIA MUNICIPAL DE EDUCAÇÃO

Escola Municipal Rural Maria Ana Ruso
Ladário____ de _____ de 2020
Aluno(a):
Professor(a): Maria do Carmo
Turma: 3º Ano

Tenho Direitos e Deveres

- Os direitos que você tem e que estão sendo respeitados na sua escola.
- Marque com um X:



- ○ Ter bons professores.
- ○ Ter um lugar na sala de aula.
- ○ Estudar em ambiente limpo.
- ○ Ser respeitado em suas opiniões.
- ○ Participar das atividades escolares.
- ○ Receber explicações para o que não entendeu.

- Pinte os deveres que você respeita:



- ○ Conservo a sala de aula e a escola sempre limpas.
- ○ Estudo com atenção.
- ○ Não falto às aulas.
- ○ Trato com respeito as pessoas da escola.
- ○ Sou cordial e educado.
- ○ Cumpro meus deveres escolares.
- ○ Coopero com meus colegas e professor.

ESTADO DE MATO GROSSO DO SUL
MUNICÍPIO DE LADÁRIO
SECRETARIA MUNICIPAL DE EDUCAÇÃO

Escola Municipal Rural Maria Ana Ruso
Ladário____ de _____ de 2020
Aluno(a):
Professor(a): Maria do Carmo
Turma: 3º Ano

RECURSOS NATURAIS

OS RECURSOS NATURAIS SÃO ENCONTRADOS NA NATUREZA E SERVEM DE MATÉRIA PRIMA PARA A INDÚSTRIA.

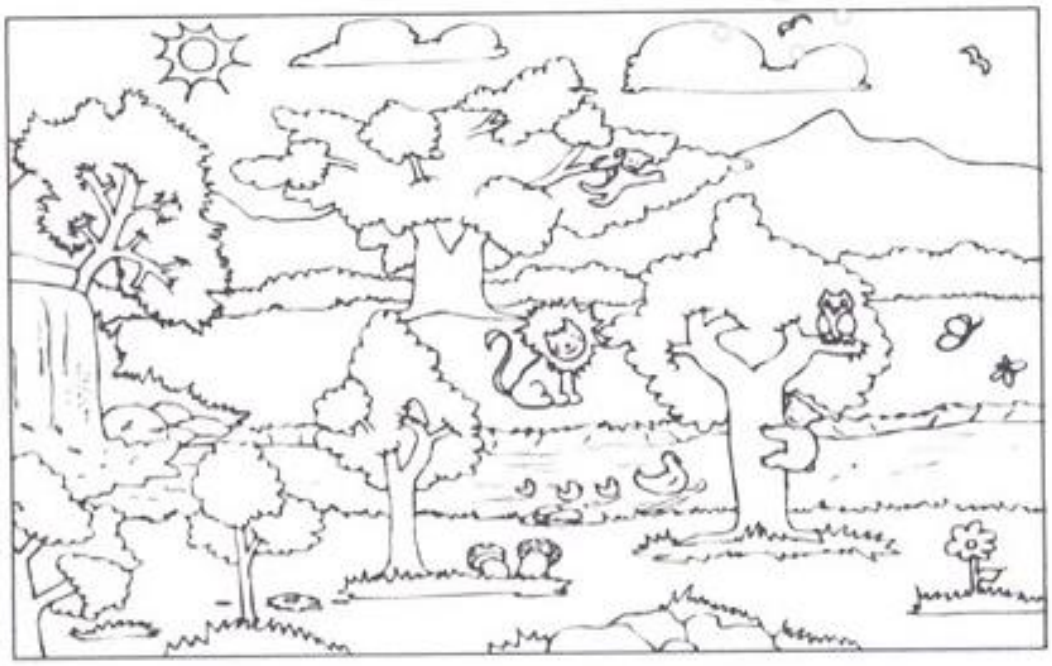

ESCREVA O NOME DE ALGUNS RECURSOS NATURAIS QUE VOCÊ VÊ NA IMAGEM.

1-	2-
3-	4-
5-	6-

ESTADO DE MATO GROSSO DO SUL
MUNICÍPIO DE LADÁRIO
SECRETARIA MUNICIPAL DE EDUCAÇÃO

Escola Municipal Rural Maria Ana Ruso
Ladário____ de _____ de 2020
Aluno(a):
Professor(a): Maria do Carmo
Turma: 3º Ano

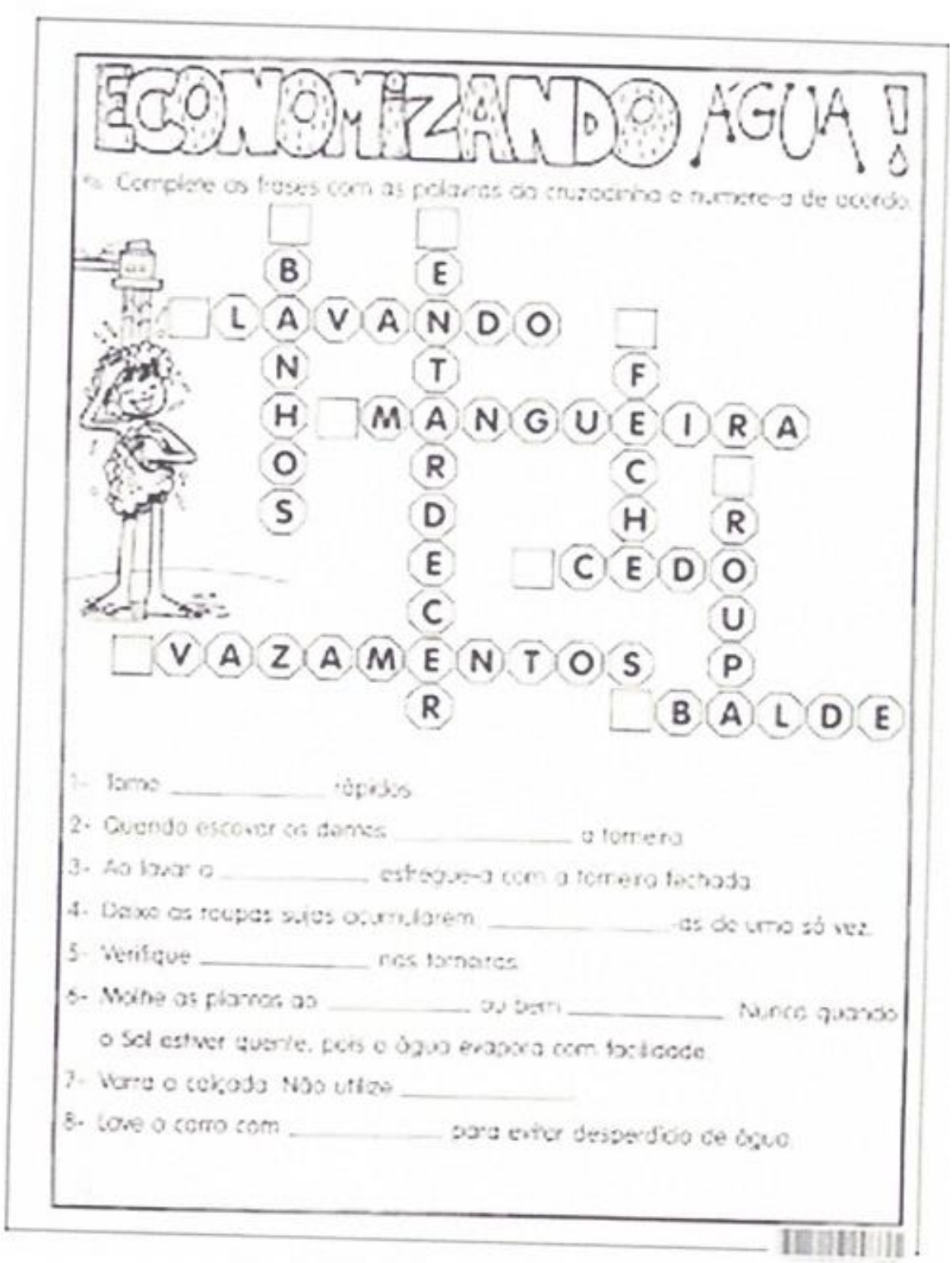

ESTADO DE MATO GROSSO DO SUL
MUNICÍPIO DE LADÁRIO
SECRETARIA MUNICIPAL DE EDUCAÇÃO

Escola Municipal Rural Maria Ana Ruso
Ladário____ de _____ de 2020
Aluno(a):
Professor(a): Maria do Carmo
Turma: 3º Ano

SITUAÇÕES-PROBLEMA

ATIVIDADE Nº 2

1. NUM POMAR HÁ 37 LARANJEIRAS E 15 CAJUEIROS. QUANTAS ÁRVORES FRUTÍFERAS HÁ NO POMAR?

2. CÉLIA FEZ 13 ATIVIDADES DA LOUSA E AINDA FALTAM 7 PARA FAZER. QUANTAS ATIVIDADES HÁ NA LOUSA?

3. NUM ESTACIONAMENTO DE AUTOMÓVEIS HAVIA 34 CARROS. CHEGARAM MAIS 17. QUANTOS CARROS FICARAM NO ESTACIONAMENTO?

4. MAMÃE COMPROU 15 QUILOS DE ARROZ E DEPOIS COMPROU MAIS 7 QUILOS. QUANTOS QUILOS DE ARROZ ELA COMPROU?

5. RAFAEL COMPROU 15 BALAS E DEPOIS GANHOU MAIS 15 BALAS DE SEU PAI. QUANTAS BALAS ELE TEM AGORA?

6. NUMA SALA HÁ 42 POLTRONAS OCUPADAS E 9 POLTRONAS VAZIAS. QUANTAS POLTRONAS HÁ NESSA SALA?

7. PAULO TEM 48 REAIS E QUER COMPRAR UM CARRINHO MINIATURA. PARA CONSEGUIR COMPRAR O CARRINHO, ELE PRECISA DE MAIS 25 REAIS. QUAL O PREÇO DO CARRINHO?

8. EM UM JOGO DE BASQUETE, OSCAR MARCOU 28 PONTOS NO PRIMEIRO TEMPO E 14 PONTOS NO SEGUNDO TEMPO. QUANTOS PONTOS OSCAR MARCOU NESSE JOGO?

9. NUM ÔNIBUS HÁ 24 PASSAGEIROS EM PÉ E 46 SENTADOS. QUANTOS PASSAGEIROS HÁ NO ÔNIBUS?

10. FÁBIO DEU 18 FIGURINHAS PARA JOÃO E AINDA FICOU COM 16. QUANTAS FIGURINHAS ELE TINHA?