ESTADO DE MATO GROSSO DO SUL
MUNICÍPIO DE LADÁRIO
SECRETARIA MUNICIPAL DE EDUCAÇÃO

Escola Municipal Maria Ana Ruso.

Professora: Maria do Carmo Rodrigues Coelho **Ensino fundamental - I**

Aluno: **Turma:**1ºano -U

Turno: Vespertino Periodo:25 /05 /2020 a Periodo:06/05/2020
Componente curricular: Língua Portuguesa
Quantidade de aula:12
Objetivo de conhecimento: -Construção do sistema alfabético/Compreensão de leitura/Forma de composição Oralidade/Compreensão do sistema alfabético de escrita.
Habilidade:EF01LP01/EF01LP03/EF01LP04/EF01LP13/EFLP0116.

LÍNGUA PORTUGUESA



Atividade

QUEM MORA NA CASINHA?

QUEM MORA NA CASINHA VERMELHINHA?
GALINHA

QUEM MORA NA CASINHA AMARELINHA?
PATO

QUEM MORA NA CASINHA VERDINHA?
SAPINHO

QUEM MORA NA CASINHA AZULZINHA?
COELHINHO

QUEM MORA NA CASINHA MARRONZINHA?
PORQUINHO

QUEM MORA NA CASINHA BEM BRANQUINHA
RATINHO

QUEM MORA NA CASINHA TODA ROSINHA?
A MACAQUINHA.

1.RESCREVA O TEXTO NO CADERNO DE LÍNGUA PORTUGUESA.

ESTADO DE MATO GROSSO DO SUL
MUNICÍPIO DE LADÁRIO
SECRETARIA MUNICIPAL DE EDUCAÇÃO

Atividade

1-QUEM MORA NA CASINHA VERMELHINHA?

_____

2-QUEM MORA NA CASINHA AMARELINHA?

_____

3-QUEM MORA NA CASINHA VERDINHA?

_____

4-QUEM MORA NA CASINHA AZULZINHA?

_____

5-QUEM MORA NA CASINHA MARRONZINHA?

_____

6-QUEM MORA NA CASINHA BEM BRANQUINHA?

_____

7-QUEM MORA NA CASINHA TODA ROSINHA?

_____

8-ESCREVA O NOME DOS ANIMAIS:









---------- ---------- ---------- ----------

ESTADO DE MATO GROSSO DO SUL
MUNICÍPIO DE LADÁRIO
SECRETARIA MUNICIPAL DE EDUCAÇÃO

1.COMPLETE:

QUEM MORA NA CASINHA MARROM?







QUEM MORA NA CASINHA BRANCA?





QUEM MORA NA CASINHA ROSA?





GALINHA PATO SAPO COELHO

PORCO RATO MACACA

http://ler-com-prazer.blogspot.com.br

ESTADO DE MATO GROSSO DO SUL
MUNICÍPIO DE LADÁRIO
SECRETARIA MUNICIPAL DE EDUCAÇÃO

2.LIGUE CERTO:



2.COLORIR:

PINTE AS LETRAS DA MESMA COR DAS CASINHAS:



VERMELHA



AMARELA



VERDE



AZUL

ESTADO DE MATO GROSSO DO SUL
MUNICÍPIO DE LADÁRIO
SECRETARIA MUNICIPAL DE EDUCAÇÃO

3.ESCREVA O NOME DAS GRAVURAS:





_____ _____ _____

9-PINTE A CASINHA NA COR CERTA, DE ACORDO O MORADOR QUE MORA:



4-COLOQUE O NOME DOS ANIMAIS ACIMA EM ORDEM ALFABÉTICA:

_____

11.ESCREVA NO QUADRO AS LETRAS QUE FALTAM:

C	A	S	I	N	H	A



5.ESCREVA FRASES COM A PALAVRA ABAIXO:

RATO_____

MACACO_____

ESTADO DE MATO GROSSO DO SUL
MUNICÍPIO DE LADÁRIO
SECRETARIA MUNICIPAL DE EDUCAÇÃO

Escola Municipal Maria Ana Ruso.

Professora: Maria do Carmo Rodrigues Coelho **Ensino fundamental - I**

Aluno: **Turma:** 1ºano -U

Turno: Vespertino Periodo:25 /05 /2020 a Periodo:06/05/2020
Componente curricular: Matemática
Quantidade de aula: 10 aulas
Objetivo de conhecimento: -Contagem de rotina / Contagem ascendentes e descendentes.
Reconhecimento de números no contexto diário/Quantificação de elementos de uma coleção / Reta numérica.
-Leitura e escrita e comparação de números naturais (até 100)
-Localização de objetos e de pessoas no espaço, utilizando diversos pontos de referências e vocabulário.
Habilidade: EF01MA01/EF01MA02/EF01MA03/EF01MA11

MATEMÁTICA

1.COMPLETE AS ATIVIDADES ABAIXO:

MARA ESTÁ FAZENDO GINÁSTICA.
MARQUE, NOS DOIS QUADROS, UM **X** NA MÃO **DIREITA** DE MARA.




QUEM ESTÁ SEGURANDO A BANDEIRA COM A MÃO **ESQUERDA**? MARQUE A RESPOSTA CORRETA.



○ O MENINO.
○ A MENINA.

PINTE AS FLORES QUE ESTÃO VIRADAS PARA O LADO **ESQUERDO**.



ESTADO DE MATO GROSSO DO SUL
MUNICÍPIO DE LADÁRIO
SECRETARIA MUNICIPAL DE EDUCAÇÃO

2.VAMOS VER SE VOCÊ APRENDEU:



Paula segura a raquete com a mão _____ .
Maria segura a raquete com a mão _____ .
Paula está com o pé _____ no chão.
Maria está com o pé _____ no chão.

Para onde os objetos estão virados?


virado para a _____


virado para a _____


virado para a _____


virado para a _____


virado para a _____


virado para a _____


virado para a _____


virado para a _____

3.VAMOS TREINAR A SEQUÊNCIA NUMÉRICA:

COMPLETE A SEQUÊNCIA NUMÉRICA

1		3		5		7		9	10
11	12		14		16		18		20
21		23		25		27		29	30
31	32		34		36		38		40
41		43		45		47		49	50

ESTADO DE MATO GROSSO DO SUL
MUNICÍPIO DE LADÁRIO
SECRETARIA MUNICIPAL DE EDUCAÇÃO

4.complete a reta numérica:

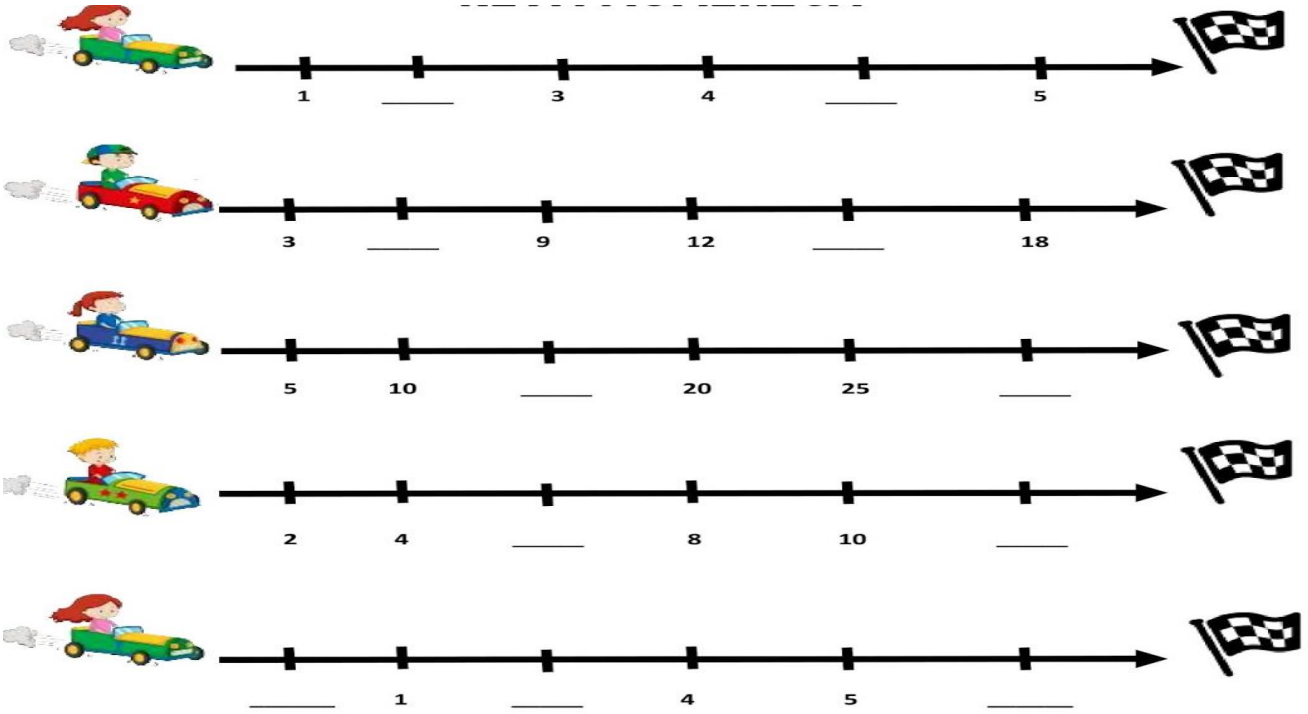

5.REGISTRE AS QUANTIDADES CERTAS:

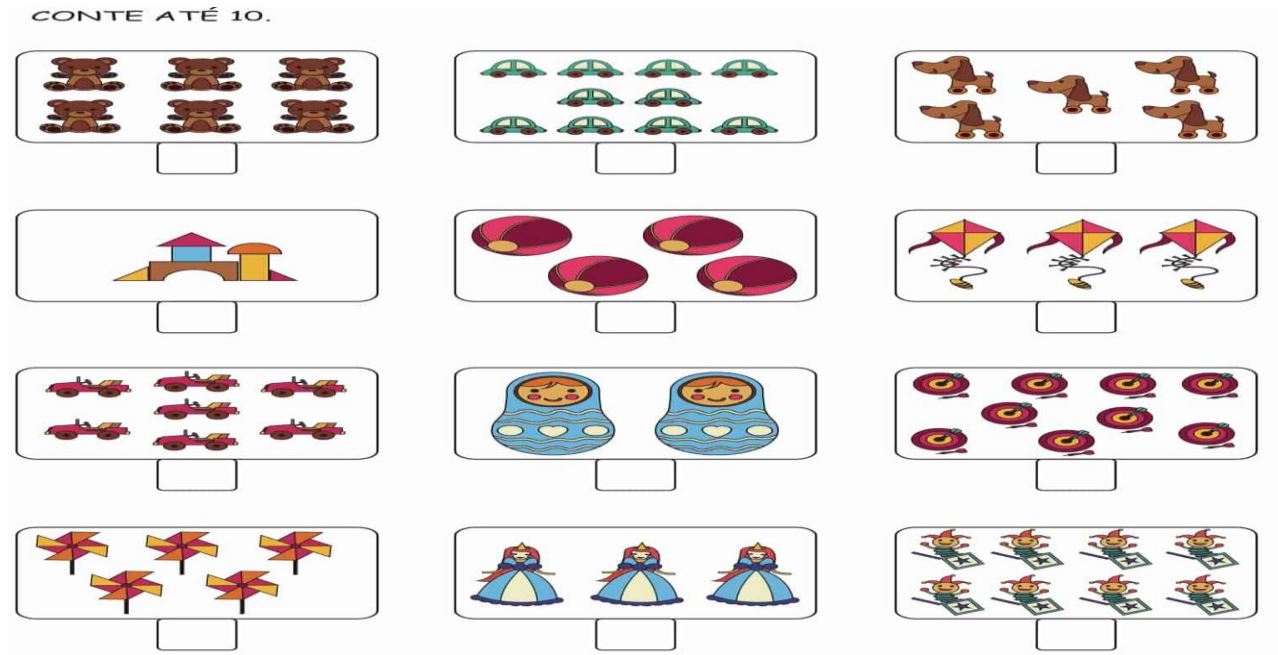

ESTADO DE MATO GROSSO DO SUL
MUNICÍPIO DE LADÁRIO
SECRETARIA MUNICIPAL DE EDUCAÇÃO

6.

DESCUBRA OS NÚMEROS QUE ESTÃO NO LUGAR DOS SÍMBOLOS.

1	2	3		5			8		
11			14		16	17		19	20
21		23		25	26		28		30
31	32		34	35		37		39	40
41	42	43			46			49	50

7.VAMOS COLORIR E COLOCAR AS QUANTIDADES CORRETAS;

ESTADO DE MATO GROSSO DO SUL
MUNICÍPIO DE LADÁRIO
SECRETARIA MUNICIPAL DE EDUCAÇÃO

Escola Municipal Maria Ana Ruso.

Professora: Maria do Carmo Rodrigues Coelho **Ensino fundamental - I**

Aluno: **Turma:** 1ºano -U

Turno: Vespertino Periodo:25 /05 /2020 a Periodo:06/05/2020
Componente curricular: História
Quantidade de aula: 06 aulas
Objetivo de conhecimento: -As fases da vida e a ideia de temporalidade (passado, presente, futuro)
-As diferentes formas de organização da família e da comunidade: os vínculos pessoais e as relações de amizade.
-A escola e a diversidade do grupo social envolvido.

Habilidade: EF01HI01/EF01HI02/EF01HI03/EF01HI04

HISTÓRIA

MÚSICA ORA BOLAS

(Palavra Cantada)



OI, OI, OI... OLHA AQUELA BOLA
A BOLA PULA BEM NO PE, NO PE DO MENINO



QUEM E ESSE MENINO!
ESSE MENINO E MEU VIZINHO!
ONDE ELE MORA!
MORA LA NAQUELA CASA!



ONDE ESTA A CASA!
A CASA TA NA RUA!
ONDE ESTA A RUA!



TA DENTRO DA CIDADE!
ONDE ESTA A CIDADE!



DO LADO DA FLORESTA!
ONDE E A FLORESTA!
A FLORESTA E NO BRASIL!
ONDE ESTA O BRASIL,

TA NA AMERICA DO SUL CONTINENTE AMERICANO CERCADO DE OCEANO DAS
TERRAS MAIS DISTANTES DE TODO O PLANETA
E COMO E O PLANETA!O PLANETA E UMA BOLA QUE REBOLA LA NO CEU (BIS)

ESTADO DE MATO GROSSO DO SUL
MUNICÍPIO DE LADÁRIO
SECRETARIA MUNICIPAL DE EDUCAÇÃO

1.COMPLETE DE ACORDO COM A MÚSICA;

RESPONDA DE ACORDO COM A MUSICA

QUEM E ESSE MENINO!

ONDE ELE MORA!

ONDE ESTA A CASA!

ONDE ESTA A RUA

ONDE ESTA A CIDADE!

ESCREVA O NOME DOS DESENHOS QUE APRECEM NA MÚSICA





2.COM AJUDA SE U RESPONSAVÉL FAÇA UMA PESQUISA COM A SUA CERTIÃO DE NASCIMENTO**.**



O seu nome completo: _____

_____

Da sua mãe: _____

_____

Do seu pai: _____

_____

Onde nasceu: _____

_____

Data de nascimento:

_____ de _____ de _____

3.CONTINUE:

1 COMPLETE COM O QUE SE PEDE:

MEU NOME É _____

MEU SOBRENOME É _____

ESSE SOBRENOME VEIO DO _____

E DA _____

2 CONSULTE A CERTIDÃO DE NASCIMENTO E COMPLETE A ÁRVORE GENEALÓGICA COM O NOME DOS MEMBROS DA SUA FAMÍLIA. PEÇA AO PESSOAL DE CASA QUE AJUDE VOCÊ.

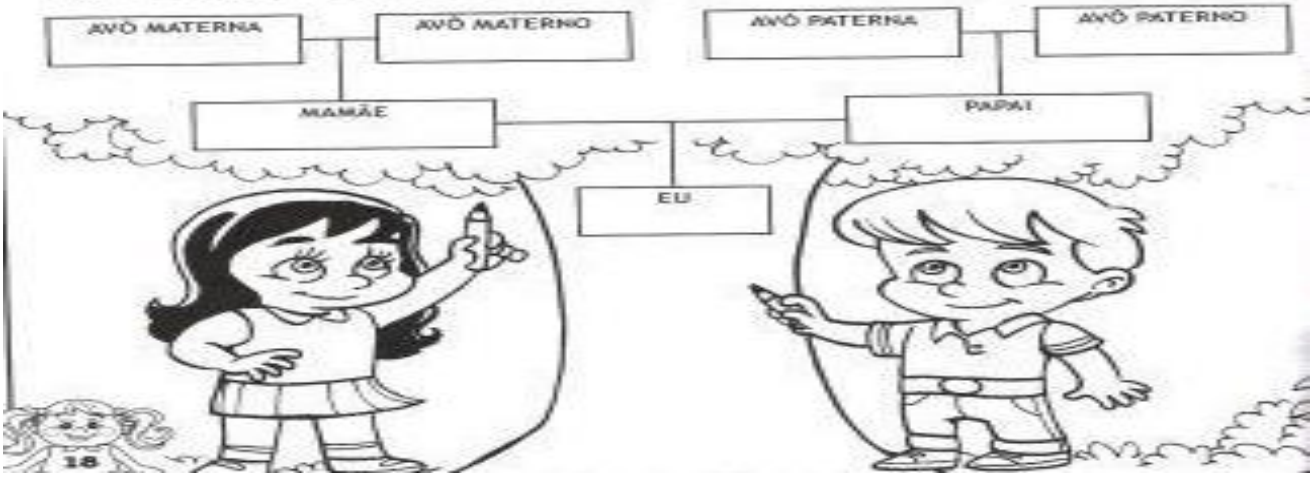

ESTADO DE MATO GROSSO DO SUL
MUNICÍPIO DE LADÁRIO
SECRETARIA MUNICIPAL DE EDUCAÇÃO

Escola Municipal Maria Ana Ruso.	
Professora: Maria do Carmo Rodrigues Coelho	**Ensino fundamental - I**
Aluno:	**Turma:** 1ºano -U
Turno: Vespertino	Periodo:25 /05 /2020 a Periodo:06/05/2020
Componente curricular: Geografia	
Quantidade de aula:4	
Objetivo de conhecimento:	
Habilidade:	

GEOGRAFIA

MAMÃE,
VOU PRECISAR DA SUA AJUDA
PARA MONTAR ESTA ATIVIDADE.

1) O local onde moramos se chama:

☐☐☐☐ *(casa)*

2) Minha moradia é: (marcar com um X)

☐ casa ☐ prédio



3) Nossa casa nos protege de quê?

4) Quais são os tipos de moradia que você conhece?

5) As casas são divididas em: *(cômodos)*

6) Minha casa tem ☐ cômodos.

ESTADO DE MATO GROSSO DO SUL
MUNICÍPIO DE LADÁRIO
SECRETARIA MUNICIPAL DE EDUCAÇÃO

7.CONTINUE AS ATIVIDADES COM CAPRICHO:

. Qual casa mais se parece com a sua? Marque com um X



2. Desenhe sua casa, em seguida, pinte!

ESTADO DE MATO GROSSO DO SUL
MUNICÍPIO DE LADÁRIO
SECRETARIA MUNICIPAL DE EDUCAÇÃO

PESQUISA:

PARTES DE UMA CASA

1 - OBSERVE O DESENHO E COMPLETE.

A - ESTE DESENHO MOSTRA AS PARTES DE UMA: _____ .

B - ESTAS PARTES CHAMAM-SE:

_____ .

C - ESTA CASA TEM _____ CÔMODOS.



2 - DESENHE OS ITENS QUE FAZEM PARTE DE CADA CÔMODO DE UMA CASA.

1. QUARTO
2. BANHEIRO
3. COZINHA
4. SALA

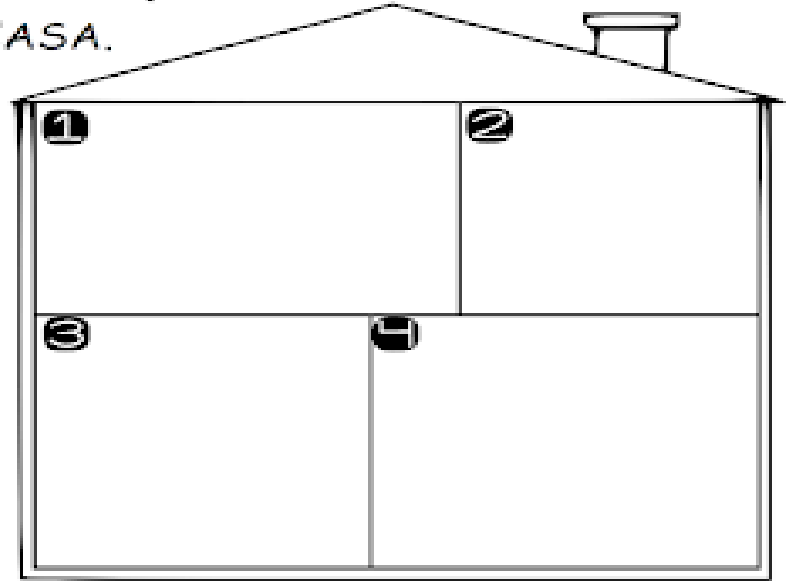

www.amorensina.com.br - Todos os direitos reservados ©