ESTADO DE MATO GROSSO DO SUL
MUNICÍPIO DE LADÁRIO
SECRETARIA MUNICIPAL DE EDUCAÇÃO

Escola: Municipal Rural Maria Ana Ruso
Professora: Maria do Carmo Rodrigues Coelho **Ensino Fundamental - I**
Aluno: **Turma:** 1ºano U **Turno:** Vespertino

Componente Curricular: Língua Portuguesa **Quantidades de aulas:** 13
Objetivo de conhecimento: Construção do sistema alfabético e da ortografia
Segmentação de palavras/Classificação de palavras por número de sílabas/ Compreensão em leitura
Forma de composição do texto/ Decodificação/Fluência de leitura.
Habilidades: EF12LP04/ EF01LP06/ EF01LP08/ EF01LP09/ EF01LP12/.EF01LP16/ EF01LP20/.EF12LP01
Período:01/07/2020 a 15 /07/2020

ATIVIDADE AVALIATIVA DE LÍNGUA PORTUGUESA

01.LEIA A TIRINHA E MARQUE CERTO:



DE ACORDO COM A TIRINHA A MAGALI QUERIA?

(A) BRINCAR COM A MÔNICA
(B) LER O LIVRO DA MÔNICA
(C) ASSUSTAR PARA COMER A FRUTA
(D) GRITAR COM A MÔNICA

02.LEIA E RESPONDA:



QUAL A FUNÇÃO DESTE TEXTO:

(A) ORGANIZAR A LISTA DE MATERIAL ESCOLAR
(B) ORGANIZAR O CARDÁPIO DA SEMANA
(C) ORGANIZAR A LISTA DA FESTA DE ANIVERSÁRIO
(D) ORGANIZAR A LISTA DO SUPERMERCADO

03.MARQUE CERTO:

1-LEIA:

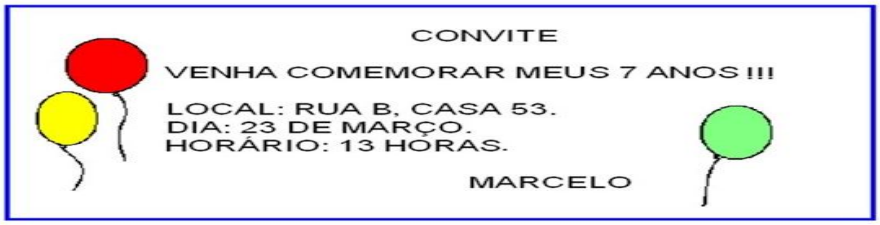

O CONVITE É PARA UMA:

( ) FESTA DE ANIVERSÁRIO.
( ) REUNIÃO DE PAIS.
( ) FESTA FORMATURA.
( ) FESTA JUNINA.

ESTADO DE MATO GROSSO DO SUL
MUNICÍPIO DE LADÁRIO
SECRETARIA MUNICIPAL DE EDUCAÇÃO

04.COMPLETE A ATIVIDADE ABAIXO:

1- Leia e texto abaixo e marque a resposta certa:

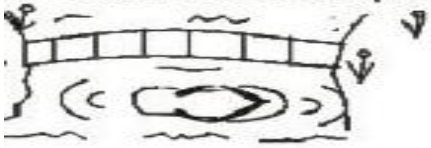

FUI PASSAR NA PINGUELINHA,
CHINELINHO CAIU DO PÉ
OS PEIXINHOS RECLAMARAM:
QUE CHEIRINHO DE CHULÉ!

As rimas do texto são:



A ☐ PINGUELINHA E PÉ.
B ☐ PÉ E CHULÉ.
C ☐ CAIU E PEIXINHOS.
D ☐ PASSAR E QUE.

2- O texto da atividade 1, tem quantas frases?

A ☐ 5
B ☐ 6
C ☐ 3
D ☐ 4

3- Circule todas as palavras do texto. O número de palavras é:

A ☐ 13
B ☐ 14
C ☐ 15
D ☐ 12

4- O nome do desenho abaixo termina com o mesmo som de qual palavra?



A ☐ PIÃO
B ☐ PEIXE
C ☐ PIPA
D ☐ BONECA

5-O nome do desenho abaixo é:



A ☐ MALA
B ☐ SALA
C ☐ BALA
D ☐ RALA

05.LEIA:

BOLINHA DE SABÃO

INGREDIENTES:
- 1 COPO DE ÁGUA
- SABÃO
- 1 CANUDINHO

MODO DE FAZER:

COLOQUE UMA COLHER DE SABÃO PICADINHO NUM COPO DE ÁGUA E MEXA BEM COM O CANUDINHO. PEGUE O CANUDINHO E SOPRE. VOCÊ FARÁ MUITAS BOLINHAS.

E

( ) **UM AVISO.**
( ) **UMA NOTÍCIA.**
( ) **UM CONVITE.**
( ) **UMA RECEITA.**

06.QUAL É RECEITA DO BOLO NA FIGURA:



( ) **BALA JUJUBA**
( ) **BOLA DE GUDE**
( ) **BOTA AMARELA**
( ) **BOLO DE FUBÁ**

07.MARQUE X NA ALTERNATIVA CORRETA:



Copyright © 2001 Mauricio de Sousa Produções Ltda. Todos os direitos reservados. 5180

(A) ☐ CHORANDO (C) ☐ SORRINDO

(B) ☐ CANTANDO (D) ☐ FALANDO

ESTADO DE MATO GROSSO DO SUL
MUNICÍPIO DE LADÁRIO
SECRETARIA MUNICIPAL DE EDUCAÇÃO

08.MARQUE CERTO:



O CARTAZ INFORMA SOBRE A VACINAÇÃO CONTRA:

( ) DENGUE

( ) GRIPE

( ) SARAMPO

( ) ALERGIA

09.LEIA A TIRINHA:



QUAL É A EXPRESSÃO DO ROSTO DA MÔNICA NO ÚLTIMO QUADRINHO:

( ) FELICIDADE

( ) ESPANTO

( ) TRISTEZA

( ) SEDE

10.LEIA A TIRINHA ABAIXO:



A FAMILIA DO CEBOLINHA VIAJA DE:

A) ☐ CARROÇA

B) ☐ TREM

C) ☐ ÔNIBUS

D) ☐ AVIÃO

ESTADO DE MATO GROSSO DO SUL
MUNICÍPIO DE LADÁRIO
SECRETARIA MUNICIPAL DE EDUCAÇÃO

11.MARQUE O QUADRINHO QUE APRESENTA O GRUPO DE PALAVRAS COMO MESMO NÚMERO DE SILABAS:

A) ☐ BONECA - SAPO - BOLA

B) ☐ CAMELO - PETECA - CANECA

C) ☐ PATA - PATO - SÁBADO

D) ☐ BELA - BANANA - MOLA

12.QUAL É A SÍLABA MEDIANA DO NOME DESSA FIGURA?



A) ☐ BA B) ☐ CA

C) ☐ NA D) ☐ DO

13.QUAL O NOME DA FIGURA:



A) ☐ CAVALO

B) ☐ BEZERRO

C) ☐ BALEIA

D) ☐ PORCO

14.MARQUE CERTO:

FAÇA UM X NO QUADRADINHO EM QUE ESTÃO ESCRITOS OS NOMES DAS FIGURAS ABAIXO.





(A) ☐ ANÃO – ILHA – URNA

(B) ☐ ANÃO – OLHO – URNA

(C) ☐ AVIÃO – ILHA – UVA

(D) ☐ AVIÃO – OLHO – UVA

15.OBSERVE AS CENAS E MARQUE CERTO:

1º) Observe as cenas, o rosto das personagens. Leia com atenção e responda



Ao ver que ia apanhar da Mônica, Cebolinha pediu ajuda para:

( ) seu pai.
( ) seu anjo da guarda.
( ) seus amigos.
( ) sua mãe.

O anjo da guarda de Cebolinha está decepcionado por que:

( ) a Mônica foi embora.
( ) o Cebolinha chorou.
( ) porque caiu no chão.
( ) porque ele e o Cebolinha apanharam da Mônica.

ESTADO DE MATO GROSSO DO SUL
MUNICÍPIO DE LADÁRIO
SECRETARIA MUNICIPAL DE EDUCAÇÃO

Escola: Municipal Rural Maria Ana Ruso	
Professora: Maria do Carmo Rodrigues Coelho	**Ensino Fundamental - I**
Aluno:	**Turma:1º**ano U **Turno:** Vespertino
Componente Curricular: Matemática	**Quantidades de aulas:** 09
Objetivo de conhecimento: Leitura, escrita, comparação e ordenação dos números. Construção de fatos fundamentais das operações/ Problemas envolvendo diferentes operações/Figuras geométricas planas	
Habilidades: EF02MA03/ EF02MA05/ EF02MA06/ EF02MA15	**Período:**01 a 15 /07/20

SIMULADO AVALIATIVO DE MATEMÁTICA

1-PINÓQUIO GANHOU DE SEU AMIGO GRILO, MAIS FIGURINHAS PARA A SUA COLEÇÃO. SE ELE GANHOU MAIS 6 FIGURINHAS, COM QUANTAS FIGURINHAS PINÓQUIO FICOU?

(A) 14
(B) 15
(C) 16



2-OLHANDO O RÁDIO DO GEPETO, VEMOS A FORMA DE UM:

(A) TRIÂNGULO
(B) CIRCULO
(C) RETÂNGULO



3-VEJA O PINÓQUIO E O GRILO FALANTE:



QUANTAS PIPAS FALTAM PARA PINÓQUIO FICAR COM A MESMA QUANTIDADE DE BOLAS QUE O GRILO TEM?

(A) 2
(B) 3
(C) 4

4-QUANTOS QUADRADOS VEMOS NO DESENHO ABAIXO?

(A) 3
(B) 4
(C) 6



ESTADO DE MATO GROSSO DO SUL
MUNICÍPIO DE LADÁRIO
SECRETARIA MUNICIPAL DE EDUCAÇAO

5.LEIA E MARQUE A ALTERNATIVA CORRETA:

LARA ESTAVA BRINCANDO DE PULAR CORDA. ELA CONTAVA DE 5 EM 5.
NA SUA CONTAGEM LARA ESQUECEU ALGUNS NÚMEROS.



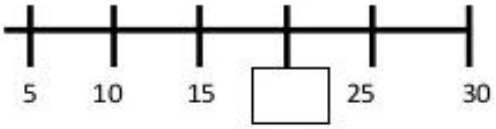

O NÚMERO ESQUECIDO FOI:

(A) 12 (B) 15 (C) 18 (D) 20

6.MARQUE CERTO:

VEJA ABAIXO AS CAMISAS DE UNIFORME DA SELEÇÃO BRASILEIRA:

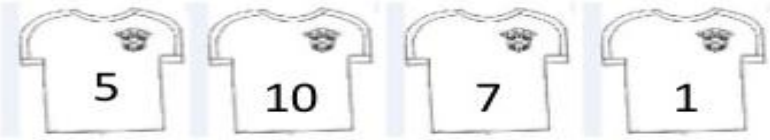

AS CAMINSAS FORAM ENTREGUES PARA OS JOGADORES EM ORDEM CRESCENTE.
A ORDEM DE ENTREGA FOI:

(A) 7 – 10- 5 – 1
(B) 1 – 5 – 7 – 10
(C) 1 – 7 – 5 – 10
(D) 10 – 7 – 5 – 1

7. GEPETO FEZ 14 CAIXINHAS DE MADEIRA , SE 4 SE QUEBRARAM, QUANTAS RESTARAM?



(A) 9
(B) 10
(C) 11

8.SE VOCÊ CIRCULAR GRUPOS DE 5 ,QUANTOS GRUPOS VAI FICAR?



(A) 2 GRUPOS
(B) 3 GRUPOS
(C) 4 GRUPOS

10.OBSERVE O ESTACIONAMEMTO DO SUPERMERCADO BRETAS:

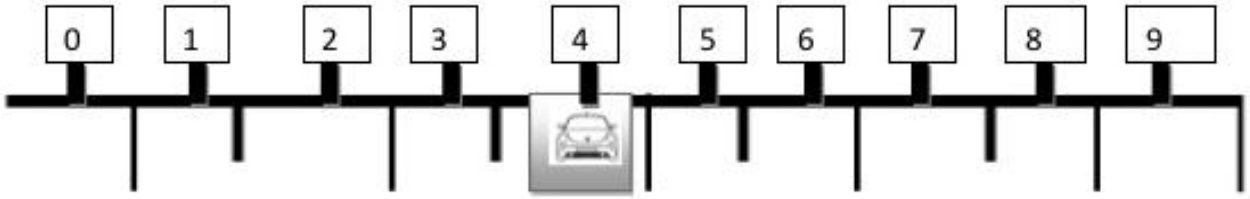

O NÚMERO DA VAGA EM QUE O CARRO ESTÁ ESTACIONADO É:

(A) 4 (B) 5 (C) 6 (D) 7

11.OBSERVE:

TIAGO E PEDRO FAZEM ANIVERSÁRIO NA MESMA DATA. TIAGO ESTÁ COMPLETANDO 05 ANOS E PEDRO O DOBRO DA IDADE DE TIAGO.



MARQUE O BOLO QUE REPRESENTA A IDADE QUE PEDRO ESTÁ COMPLETANDO.

(A) 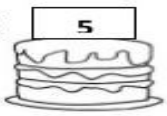

(B) 

(C) 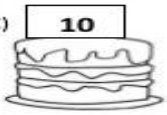

(D) 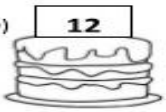

12.MARQUE A BRINCADEIRA CORRETA:

NA CRECHE SONHO ENCANTADO A PROFESSORA PESQUISOU AS BRINCADEIRAS PREFERIDAS PELOS ALUNOS.



BRINCADEIRAS PREFERIDAS	
BRINCADEIRA	TOTAL
QUEIMADA	5
AMARELINHA	7
MORTO-VIVO	8
ESTÁTUA	9
PEGA-PEGA	10

A BRINCADEIRA PREFERIDA PELOS ALUNOS É:

(A) MORTO - VIVO
(B) PEGA – PEGA
(C) QUEIMADA
(D) ESTÁTUA

ESTADO DE MATO GROSSO DO SUL
MUNICÍPIO DE LADÁRIO
SECRETARIA MUNICIPAL DE EDUCAÇÃO

13.MARQUE CERTO:

Marina vai para escola sempre usando ônibus de número par. Veja alguns ônibus que passam perto da casa de Marina.



A alternativa em que todos os números são pares é:

(A) 65 – 83 – 91 (B) 70- 80 – 90 (C) 65 – 70 – 80 (D) 70 – 85 - 90

14.VAMOS CONTAR:

Dona Geralda, mãe de Júlio, foi à feira comprar algumas frutas para fazer uma salada. Veja o que ela comprou e indique a quantidade de cada produto no quadro ao lado.



15.OBSERVE :

Veja o chapeuzinho do aniversário de Carlos.



Qual das figuras abaixo tem a mesma forma do chapeuzinho?

A) ☐ 

B) ☐ 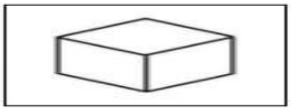

C) ☐ 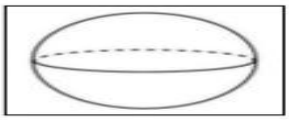

D) ☐ 

ESTADO DE MATO GROSSO DO SUL
MUNICÍPIO DE LADÁRIO
SECRETARIA MUNICIPAL DE EDUCAÇÃO

15.MARQUE AS ALTERNATIVAS CORRETAS ABAIXO;

3- A professora resolveu pesar alguns brinquedos da turma para descobrir algumas informações sobre eles. Observe o gráfico.











- Qual brinquedo tem **menos que** 5 quilos?

A. ( ) o trem
B. ( ) o ursinho
C. ( ) o carrinho
D. ( ) a boneca

Valor:	Nota:

4- A jardineira colheu 17 flores coloridas para colocar num jarro de vidro. Seis delas murcharam e foram jogadas fora.

Valor:	Nota:

- **Quantas flores sobraram?**

D	U

A. ( ) Restaram 11 flores
B. ( ) Restaram 12 flores
C. ( ) Restaram 13 flores
D. ( ) Restaram 14 flores



7- Qual é o resultado das operações?

24 + 35=

D	U

Valor:	Nota:

A. ( ) 54
B. ( ) 57
C. ( ) 59
D. ( ) 60

ESTADO DE MATO GROSSO DO SUL
MUNICÍPIO DE LADÁRIO
SECRETARIA MUNICIPAL DE EDUCAÇÃO

Escola: Municipal Rural Maria Ana Ruso		
Professora: Maria do Carmo Rodrigues Coelho		**Ensino Fundamental - I**
Aluno:	**Turma:** 1ºano U	**Turno:** Vespertino
Componente Curricular: História		**Quantidades de aulas:** 05
Objetivo de conhecimento: Data comemorativa:Festa juninas		**Habilidades:**EF01HI08
Período:01 a 15 /07/20		

ATIVIDADE AVALIATIVA DE HISTÓRIA

FESTAS JUNINAS

O MÊS DE JUNHO É CARACTERIZADO POR DANÇAS, COMIDAS TÍPICAS E BANDEIRINHAS.

A FESTA JUNINA SE INICIA NO DIA 12 DE JUNHO, VÉSPERA DO DIA DE SANTO ANTÔNIO E ENCERRA NO DIA 29, DIA DE SÃO PEDRO.

O PONTO MAIS ELEVADO DA FESTA OCORRE NOS DIAS 23 E 24, O DIA DE SÃO JOÃO.

DURANTE OS FESTEJOS ACONTECEM QUADRILHAS, FORRÓS, LEILÕES, BINGOS, BRINCADEIRAS E CASAMENTOS CAIPIRAS.



ESCREVA AQUI OS NOMES DOS SANTOS QUE APARECEM NO TEXTO:

ESTADO DE MATO GROSSO DO SUL
MUNICÍPIO DE LADÁRIO
SECRETARIA MUNICIPAL DE EDUCAÇÃO

1.COMPLETE A CRUZADINHA:

★ São Pedro
★ Terreiro
★ Balões
★ Barraquinhas
★ Santo Antônio
★ Bambus
★ São João
★ Amendoim
★ Pipocas
★ Quadrilha
★ Festança



1) Mês de festa no arraial: _____
2) Mamãe prepara _____ torrado para a festança.
3) A _____ será muito animada.
4) Vamos soltar _____ coloridos no céu.
5) O pessoal ensaia _____ no terreiro.
6) O _____ está todo enfeitado com barraquinhas.
7) Dia 24 de junho é dia de _____.
8) A criança fez arcos com _____ para decorar o terreiro.
9) Dia 13 de junho é dia de _____.
10) Nas _____ tem quentão e milho verde cozido.
11) As _____ pulam na panela.
12) Día 29 de junho é dia de _____.



ESTADO DE MATO GROSSO DO SUL
MUNICÍPIO DE LADÁRIO
SECRETARIA MUNICIPAL DE EDUCAÇÃO

2.COMPLETE O CAÇA PALAVRAS:

CAÇA PALAVRAS JUNINOS

B	A	R	R	A	C	A	S	V	T	R	G	A	S	A	N	F	O
Q	A	M	E	N	D	O	I	M	A	P	C	N	P	A	M	L	M
S	D	N	C	X	E	S	M	H	M	I	H	O	F	O	G	U	N
Q	U	A	D	R	I	L	H	A	E	P	U	F	D	R	S	B	A
U	H	J	V	E	M	I	K	L	N	O	T	N	H	J	L	M	C
A	C	O	H	L	I	M	V	B	T	C	R	A	X	R	A	S	I
S	G	U	E	I	A	R	G	O	L	A	A	S	F	G	I	Y	A
O	B	R	A	R	F	G	I	U	O	J	S	E	C	L	R	U	C
T	J	K	L	N	M	B	V	N	L	R	C	L	H	Ç	A	J	I
N	C	H	Á	P	I	L	D	C	H	U	R	R	A	S	C	O	J
A	R	I	E	U	G	O	F	B	Ç	A	O	F	P	N	S	L	N
S	M	N	H	A	S	D	U	I	É	G	S	U	É	J	E	Ç	A
N	H	N	G	I	C	A	R	F	U	G	L	H	U	K	P	N	C



AMENDOIM ARGOLA BANDEIRINHAS
BARRACAS CAIPIRA CANJICA
CHAPÉU CHURRASCO FOGUEIRA
MILHO PESCARIA PIPOCA
QUADRILHA SANFONA SANTOS

ESTADO DE MATO GROSSO DO SUL
MUNICÍPIO DE LADÁRIO
SECRETARIA MUNICIPAL DE EDUCAÇÃO

3.RECORTE E MONTE EM SEU CADERNO DE HISTÓRIA ESSE QUEBRA CABEÇA JUNINO:









ESTADO DE MATO GROSSO DO SUL
MUNICÍPIO DE LADÁRIO
SECRETARIA MUNICIPAL DE EDUCAÇÃO

Escola: Municipal Rural Maria Ana Ruso	
Professora: Maria do Carmo Rodrigues Coelho	**Ensino Fundamental - I**
Aluno:	**Turma:** 1ºano U **Turno:** Vespertino
Componente Curricular: Geografia	**Quantidades de aulas:**
Objetivo de conhecimento: Diferentes tipos de moradia existentes no seu dia a dia;	
Habilidades: EF01GE06	**Período:**01 a 15/07/20

ATIVIDADE AVALIATIVA DE GEOGRAFIA

1.OBSERVE A ATIVIDADE ABAIXO:

A rua

Cubra com lápis de cor o caminho que Tiago gosta de fazer para chegar à escola.



2.QUAL É O NOME DE SUA ESCOLA?

_____

3.SUA ESCOLA FICA LOCALIZADA NA AREA RUAL OU URBANA?

_____

4.FAÇA EM SEU CADERNO DE GEOGRAFIA UM DESENHO LINDO DE SUA ESCOLA?

ESTADO DE MATO GROSSO DO SUL
MUNICÍPIO DE LADÁRIO
SECRETARIA MUNICIPAL DE EDUCAÇÃO

5.PINTE A CENA QUE VOCÊ ENCONTRA NO CAMINHO QUE VOCÊ FAZ PARA A ESCOLA:


RESIDÊNCIAS


PRAÇA



COMÉRCIO


PLANTAÇÕES


IGREJA


INDÚSTRIA



BANCO



HOSPITAL

ESTADO DE MATO GROSSO DO SUL
MUNICÍPIO DE LADÁRIO
SECRETARIA MUNICIPAL DE EDUCAÇÃO

6.COMPLETE A CRUZADINHA CO TIPOS DE MORADIAS:

Cruza-casa

- Complete a cruzadinha seguindo as instruções abaixo:



Cruzadinha:

1- Casa encontrada, geralmente, em florestas ou lugares mais pobres. (cabana)
2- O mesmo que residência. (casa)
3- Casa de dois andares com duas moradias. (sobrado)
4- O mesmo que prédio. (edifício)
5- Casa pequena situada no quintal de uma casa maior. (barracão)
6- Residência de reis, governadores, presidentes. (palácio)
7- Casa de ciganos. (tenda)
8- Casa de índios. (oca)

ESTADO DE MATO GROSSO DO SUL
MUNICÍPIO DE LADÁRIO
SECRETARIA MUNICIPAL DE EDUCAÇÃO

7.LEVE CADA ANIMALZINHO NA CASINHA CERTA:

CADA BICHO TEM SEU LAR PARA SABER, É SO LIGAR



