ESTADO DE MATO GROSSO DO SUL
MUNICÍPIO DE LADÁRIO
SECRETARIA MUNICIPAL DE EDUCAÇÃO

ESCOLA:MUNICPAL RURAL MARIA ANA RUSO
PROFESSOR (A): ELISANDRA AUXILIADORA NASCIMENTO VIEIRA TURMA(S): 4º **ano** ENSINO FUNDAMENTAL TURNO: VESPERTINO ALUNO(A):
COMPONENTE CURRICULAR: GEOGRAFIA **PERÍODO: 25/05/2020 A 06/06/2020** **Quantidade de aulas:**
Objeto de Conhecimento: Utilizar as direções cardeais na localização de componentes físicos e humanos nas paisagens rurais e urbanas.
Habilidade: MS.EF04GE09

Pontos Cardeais e Colaterais

Os pontos cardeais servem para nossa orientação no espaço. Eles indicam direções, e você pode identificá-los usando o seu corpo.

Os pontos colaterais estão situados entre os pontos cardeais. São eles; Noroeste, sudoeste, nordeste e sudeste.

A figura que representa os pontos cardeais e colaterais chama-se rosa dos ventos.

PONTOS CARDEAIS	PONTOS COLATERAIS
N = NORTE	NE = NORDESTE
S = SUL	SE = SUDESTE
L = LESTE	NO = NOROESTE
O = OESTE	SO = SUDOESTE



ESTADO DE MATO GROSSO DO SUL
MUNICÍPIO DE LADÁRIO
SECRETARIA MUNICIPAL DE EDUCAÇÃO

ESCOLA:
PROFESSOR (A): _____ TURMA(S): **5º ano** ENSINO FUNDAMENTAL TURNO: ALUNO(A):
COMPONENTE CURRICULAR: **PERÍODO: 25/05/2020 A 06/06/2020** **Quantidade de aulas:**
Objeto de Conhecimento: Utilizar as direções cardeais no localização de componentes físicos e humanos nas paisagens rurais e urbanas.
Habilidade: MS.EF04GE09

1 – Observe o desenho e responda:

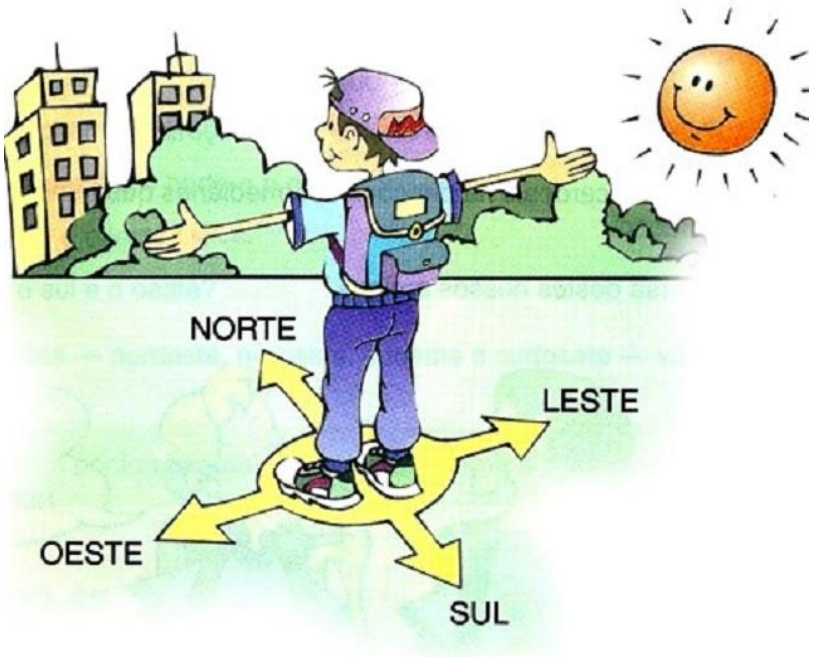

O Sol nasce no _____

O Sol desaparece no _____

O braço direito está indicando o _____

O braço esquerdo está indicando o _____

À frente do corpo está o _____

Atrás do corpo está o _____

ESTADO DE MATO GROSSO DO SUL
MUNICÍPIO DE LADÁRIO
SECRETARIA MUNICIPAL DE EDUCAÇÃO

ESCOLA:
PROFESSOR (A): _____ TURMA(S): **5º ano** ENSINO FUNDAMENTAL TURNO: ALUNO(A):
COMPONENTE CURRICULAR: **PERÍODO: 25/05/2020 A 06/06/2020** **Quantidade de aulas:**
Objeto de Conhecimento: Utilizar as direções cardeais no localização de componentes físicos e humanos nas paisagens rurais e urbanas.
Habilidade: MS.EF04GE09

2– Marque corretamente:

O Sol aparece todos os dias do mesmo lado.

☐ Leste

☐ Oeste

☐ Norte

☐ Sul

O sol desaparece todos os dias do mesmo lado.

☐ Leste

☐ Oeste

☐ Norte

☐ Sul

ESTADO DE MATO GROSSO DO SUL
MUNICÍPIO DE LADÁRIO
SECRETARIA MUNICIPAL DE EDUCAÇÃO

ESCOLA:
PROFESSOR (A): _____ TURMA(S): **5º ano** ENSINO FUNDAMENTAL TURNO: ALUNO(A):
COMPONENTE CURRICULAR: **PERÍODO: 25/05/2020 A 06/06/2020** **Quantidade de aulas:**
Objeto de Conhecimento: Utilizar as direções cardeais no localização de componentes físicos e humanos nas paisagens rurais e urbanas.
Habilidade: MS.EF04GE09

3-Escreva o nome do ponto cardeal correspondente:

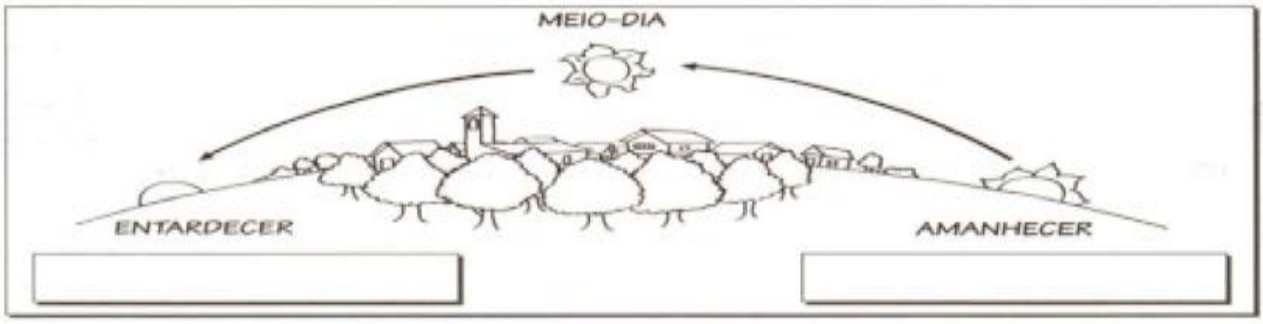

4- Escreva o nome dos pontos cardeais e colaterais.

ESTADO DE MATO GROSSO DO SUL
MUNICÍPIO DE LADÁRIO
SECRETARIA MUNICIPAL DE EDUCAÇÃO

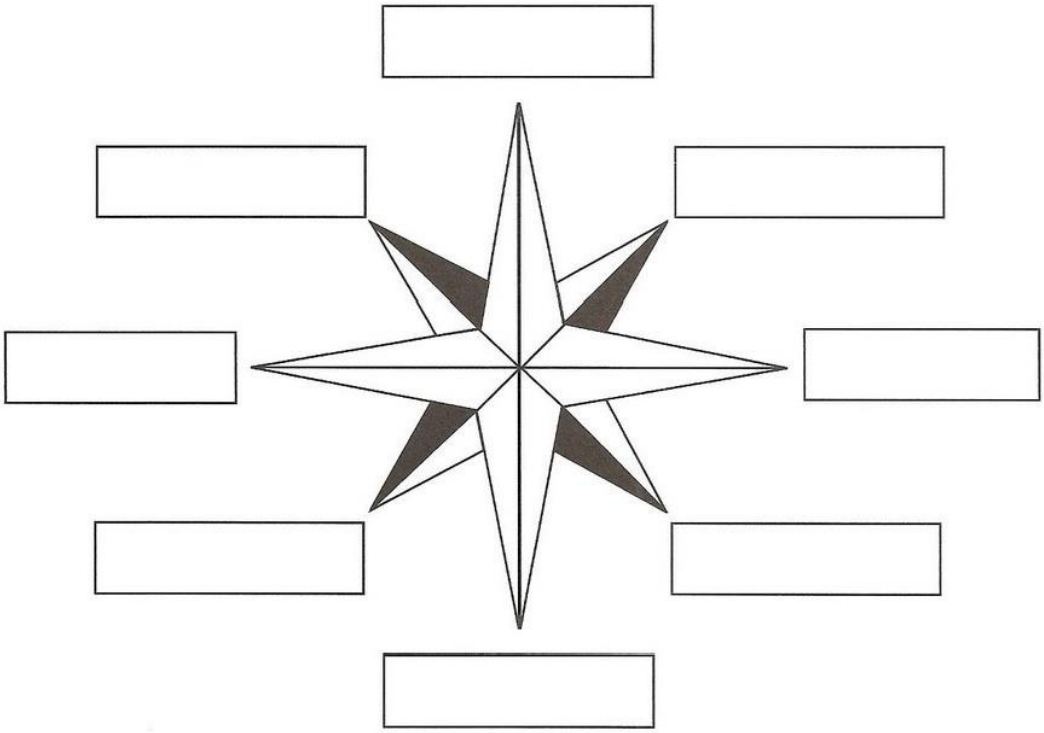

ESCOLA:
PROFESSOR (A): _____ TURMA(S): **5º ano** ENSINO FUNDAMENTAL TURNO: ALUNO(A):
COMPONENTE CURRICULAR: **PERÍODO: 25/05/2020 A 06/06/2020** **Quantidade de aulas:**
Objeto de Conhecimento: Utilizar as direções cardeais no localização de componentes físicos e humanos nas paisagens rurais e urbanas.
Habilidade: MS.EF04GE09

5- Escreva o nome dos pontos cardeais, observando o lugar onde o Sol nasce.

ESTADO DE MATO GROSSO DO SUL
MUNICÍPIO DE LADÁRIO
SECRETARIA MUNICIPAL DE EDUCAÇÃO

