ATIVIDADES PEDAGÓGICAS COMPLENTARES

5º ANO
ENSINO FUNDAMENTAL

Prezado aluno(a) você está recebendo as atividades referente ao período de

25/05/2020 a 06/06/2020.

LÍNGUA PORTUGUESA, MATEMÁTICA, HISTÓRIA E GEOGRAFIA

Você deverá entregar essas atividades feitas no dia:_____/_____/_____

Estabeleça uma rotina diária de estudos;

Seja cuidadoso com seus materiais;

Capriche na letra e realização das atividades;

Acompanhe a explicações na plataforma

http://ead.tisocial.com.br/ladario

Se cuide! Use máscara! Evite aglomerações.

Atenciosamente, Prof.

ESTADO DE MATO GROSSO DO SUL
MUNICÍPIO DE LADÁRIO
SECRETARIA MUNICIPAL DE EDUCAÇÃO

ESCOLA:
PROFESSOR (A): _____ TURMA(S): **5º ano** ENSINO FUNDAMENTAL TURNO: ALUNO(A):
COMPONENTE CURRICULAR: **PERÍODO: 25/05/2020 A 06/06/2020** **Quantidade de aulas:**
Objeto de Conhecimento: Sistema de numeração decimal: leitura, escrita e ordenação de números naturais (de até seis ordens). Cálculo de probabilidade de eventos equiprováveis
Habilidade:(MS.EF05MA01.s.01)(MS.EF05MA23.s.23)

Aula 01 e 02

1- (Portal MEC). No ábaco abaixo, Cristina representou um número:

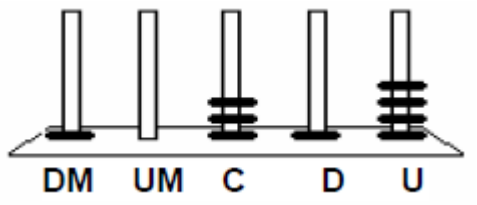

Qual foi o número representado por Cristina?

(A) 1.314
(B) 4.131
(C) 10.314
(D) 41.301

2- (Portal MEC). Um fazendeiro tinha 285 bois. Comprou mais 176 bois e depois vendeu 85 deles. Quantos bois esse fazendeiro tem agora?

(A) 266
(B) 376
(C) 476
(D) 486

3- (Portal MEC). Uma professora da 4ª série pediu que uma aluna marcasse numa linha do tempo o ano de 1940.

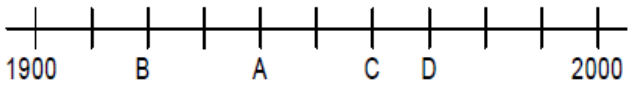

Que ponto a aluna deve marcar para acertar a tarefa pedida?

(A) A
(B) B
(C) C
(D) D

3 (Portal MEC). Todos os objetos estão cheios de água.



Qual deles pode conter exatamente 1 litro de água?

(A) A caneca
(B) A jarra
(C) O garrafão
(D) O tambor

4- (Portal MEC). Mariana colou diferentes figuras numa página de seu caderno de Matemática, como mostra o desenho abaixo.

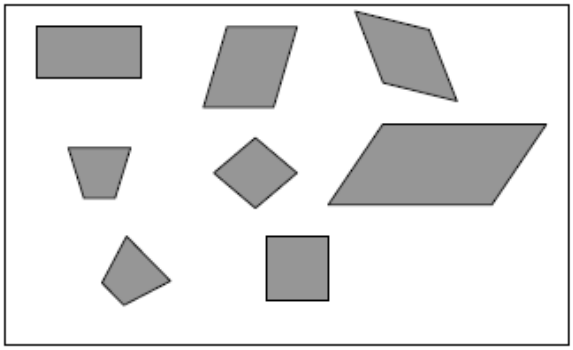

Essas figuras têm em comum

(A) o mesmo tamanho.
(B) o mesmo número de lados.
(C) a forma de quadrado.
(D) a forma de retângulo.

Referências: profwarles.blogspot.com
Acesso feito 21-05-2020.

ESTADO DE MATO GROSSO DO SUL
MUNICÍPIO DE LADÁRIO
SECRETARIA MUNICIPAL DE EDUCAÇÃO

Aula 03

Adição e Subtração: Operações Inversas

Abra seu livro de matemática Ápis autor (Luiz Roberto Dante) na página 66 - leia com atenção as Atividades e resolva no caderno de matemática. Exercícios 01, 02, 03 e 04.
Para saber mais assista na plataforma a explicação.

Aula 04

Arredondamento, cálculo mental e resultado aproximado

Abra seu livro de matemática Ápis (autor Luiz Roberto Dante) na páginas 70 leia com atenção as Atividades e resolva no caderno de matemática. Exercícios 01 letra a) b) e c) e o exercício n. 02 Para saber mais assista na plataforma a explicação.

Aula 05

Atenção nas compras!

Abra seu livro de matemática Ápis (autor Luiz Roberto Dante) na páginas 71 e leia com atenção as explicações e depois resolva as atividades no caderno de matemática. Exercícios 03, 04 e 05. Para saber mais assista na plataforma a explicação.

Aula 06

Vamos realizar operações com três parcelas

a) 1.098+ 345+ 8 =
b) 3.479+ 768 + 0=
c) 5.7990+ 5.478 + 3=
d) 1.009+30 + 2=
e) 9.345+ 449 + 4=

Lembre-se:

Unidade abaixo de unidade , dezena abaixo de dezena e centena abaixo de centena
Resolva aqui abaixo:

Exemplo: 5. 8 9 9 3 6 5 + 6 _____ .		

Escreva por extenso os valores a seguir:

a) 5.890=_____
_____

b) 10.999= _____
_____

c) 95.008 =_____
_____

d) 6.980=_____

e) 555.222= _____

ESTADO DE MATO GROSSO DO SUL
MUNICÍPIO DE LADÁRIO
SECRETARIA MUNICIPAL DE EDUCAÇÃO

Objeto de Conhecimento: Explorar as operações de multiplicação e de divisão: Ideias, algoritmos, vocabulário e calculo mental.
Habilidade: BNCC MS.EF05MA09.S.13 e MS.EF05MA17

Aula 07 e 08

1- Complete a tabela de multiplicações.

TABELA DE MULTIPLICAÇÕES

X	6	7	8	9	10	11
7		49				
8			64			
						99
	60					

2 – Efetue as multiplicações mentalmente e registre-as. Depois, confira os resultados com os colegas.

a) 10 x 7= _____

b) 100 x 7=_____

c) 1000 x 7=_____

d) 10000 x 7=_____

e) 45 x 10=_____

f) 45 x 100=_____

g) 45 x 1000=_____

h) 50 x 1000=_____

i) 400 x 10=_____

3 – Se você comprar esta bola e este jogo e pagar com a nota abaixo, então quantos reais você vai receber de troco?

		
R$ 12,00	R$ 18,00	

_____

4 – Identifique e assinale os contornos que são polígonos**.**

( ) 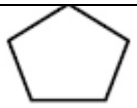	( ) 
( ) 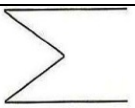	( ) 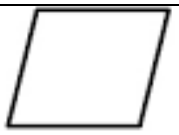
( ) 	( ) 

5 – Danilo resolveu viajar de Cuiabá (Mato Grasso) para Porto Seguro (Bahia). Durante os 4 dias da viagem ele planejou gastar R$ 20,00 por dia, em média, com alimentação. No 1º dia ele gastou R$ 18,00, no 2º dia R$ 24,00 e no 3º dia, R$ 17,00. Calcule, responda e faça a verificação. Para não ultrapassar a média planejada, quanto ele pôde gastar no 4º dia?

ESTADO DE MATO GROSSO DO SUL
MUNICÍPIO DE LADÁRIO
SECRETARIA MUNICIPAL DE EDUCAÇÃO

Aulas 09 e 10

6 – Calcule mentamente e anote os resultados.

a) 700 – 100=_____

b) 4000 – 3000=_____

c) 928.000 – 10.000=_____

d) 60.000 – 20.000=_____

e) 100 – 20=_____

f) 3.000 – 400=_____

g) 2.000 – 50=_____

7 – Pense e complete. Faça os cálculos mentalmente.

a) Rui tinha R$ 346,00 e gastou R$ 46,00. Agora ele tem?
_____

b) Um comerciante investiu R$ 15.200,00 na compra de brinquedos para a loja dele. Com a venda de todos os brinquedos, o comerciante arrecadou R$ 17.200,00.
O lucro dele foi de:
R$_____

8 – Observe as imagens de objetos que lembram a forma de alguns desses sólidos geométricos. Legue cada objeto ao sólido geométrico correspondente e este ao nome dele.

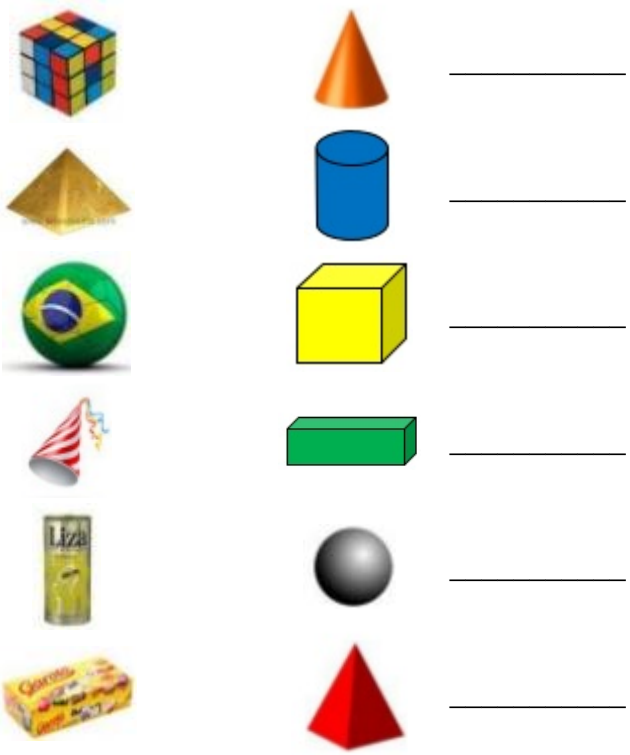

_____
_____
_____
_____
_____
_____

9- Complete a tabela calculando mentalmente:

3X 3=	4X 3=
4X5=	7X5=
5x6=	2x6=
5x 8=	0x 8=
6x 6=	7x 6=
4x8=	2x8=

Referências: Livro de Matemática Editora Ática - Ápis 5º ano