ESCOLA: MARIA ANA RUSO
PROFESSOR (A): MARCELINA COSTA **TURMA (S):** 6 ANO **ENSINO FUNDAMENTAL** II **TURNO:** VESP **ALUNO (A):**
COMPONENTE CURRICULAR: MATEMATICA **PERÍODO:** 17/08/2020 A 07/09/2020 **QUANTIDADE DE AULAS:**

Objeto de conhecimento: PERIMETRO
Habilidade: EF06MA17

Circule as figuras geométricas planas.

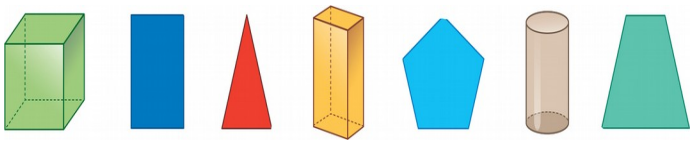

Exploração e descoberta

Perímetro é o comprimento da linha que contorna uma figura geométrica plana.

Se a figura for um polígono, podemos dizer que o perímetro é a soma das medidas de todos os seus lados.

Exemplo 1:

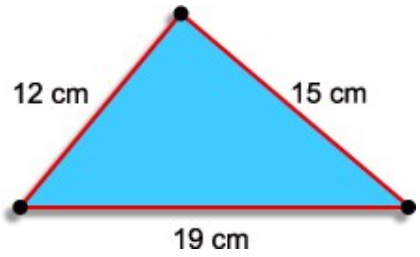

O perímetro do triângulo é: 12 + 15 + 19 = 46 cm

Exemplo 2:

O mesmo raciocínio se estende às outras figuras, sempre somando as medidas de todos os seus lados. Observe:

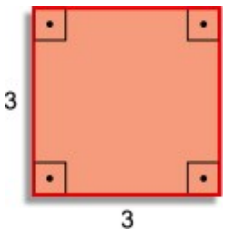

Um quadrado de lado 3 tem como perímetro: 3 + 3 + 3 + 3 = 12

Demonstre seus conhecimentos

1. Calcule o perímetro das figuras a seguir:

a)

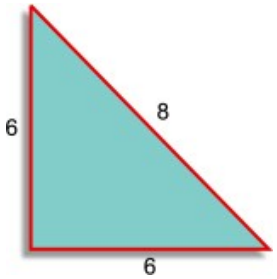

b)

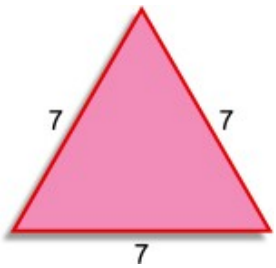

c)

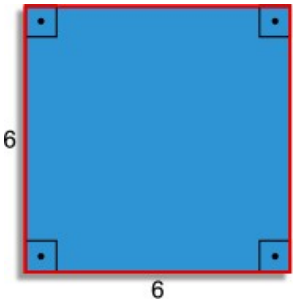

d)

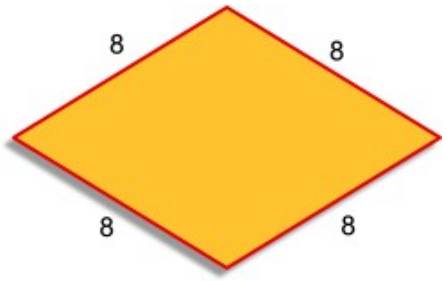

e)

