ESCOLA MUNICIPAL'' IRMÃ RÉGULA''.
LADÁRIO, 30 DE ABRIL DE 2020.
ALUNO (A): _____ SÉRIE: 3º ANO ''U''
PROFESSORA: CIBELE FÁTIMA DO PRADO

LÍNGUA INGLESA

CUT THE NAMES AND GLUE THEM: (CORTE OS NOMES E COLE-O
JUNTO DA FIGURA CORRESPONDENTE)











MIKE	SALLY	PHILIP	ANDREW	ISABELLE

ESCOLA MUNICIPAL'' IRMÃ RÉGULA''.
LADÁRIO, 27 DE ABRIL DE 2020
ALUNO (A): _____ SÉRIE: 3º ANO ''U''
PROFESSORA: CIBELE FÁTIMA DO PRADO

LÍNGUA INGLESA

COLOR THE PICTURES: (PINTE AS FIGURAS)



ESCOLA MUNICIPAL'' IRMÃ RÉGULA''.
LADÁRIO, 27 DE ABRIL DE 2020
ALUNO (A): _____ SÉRIE: 3º ANO ''U''
PROFESSORA: CIBELE FÁTIMA DO PRADO
LÍNGUA INGLESA

COLOR THE PICTURES: (PINTE AS FIGURAS)



ESCOLA MUNICIPAL'' IRMÃ RÉGULA''.
LADÁRIO, 30 DE ABRIL DE 2020.
ALUNO (A): _____ SÉRIE: 3° ANO ''U''
PROFESSORA: CIBELE FÁTIMA DO PRADO

LÍNGUA INGLESA

CUT THE NAMES AND GLUE THEM: (CORTE OS NOMES E COLE-O: JUNTO DA FIGURA CORRESPONDENTE)



MIKE	SALLY	PHILIP	ANDREW	ISABELLE

MUNICÍPIO DE LADÁRIO
SECRETARIA MUNICIPAL DE EDUCAÇÃO
ESCOLA MUNICIPAL DE ENSINO FUNDAMENTAL IRMÃ RÉGULA
CRIAÇÃO: DECRETO LEI Nº920 DE 25 DE FEVEREIRO DE 2014

LADÁRIO, 23 DE MARÇO DE 2020.
ARTE- 3 ANO – PROFESSORA- CARLA

ALUNO: Pinte o Desenho

NOME: .....

PROFESSOR(A): .....

ESCOLA: .....

CORONAVÍRUS

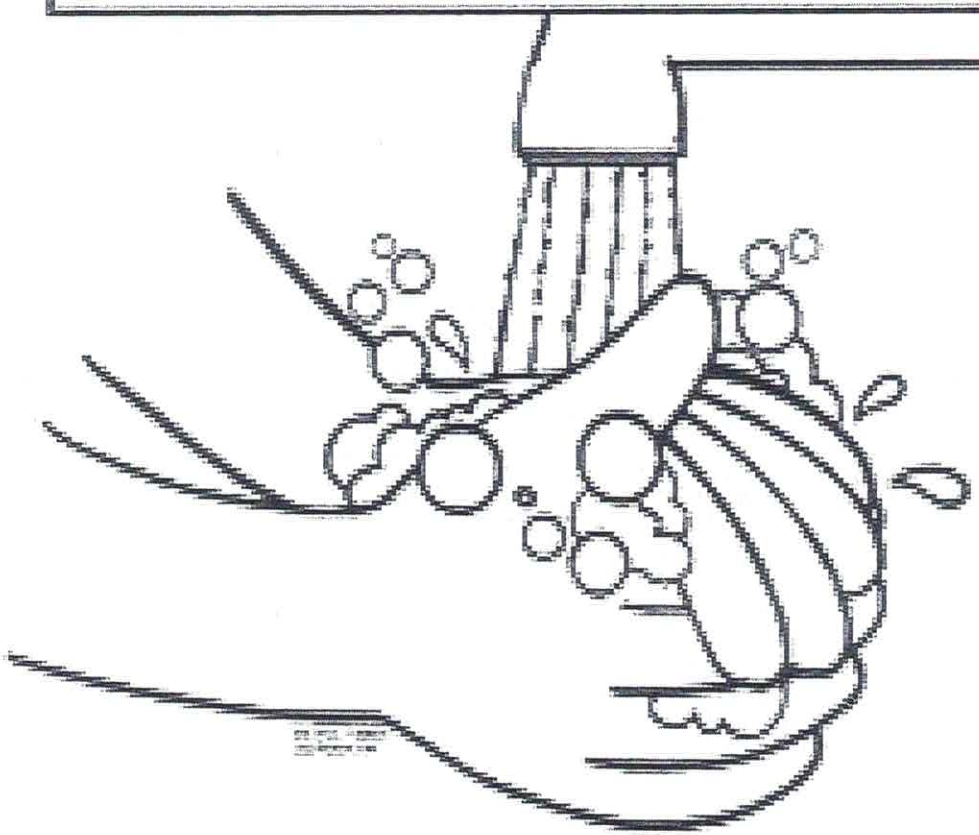

LAVAR AS MÃOS

www.dicasparaomaternal.blogspot.com ADILÉA

MUNICÍPIO DE LADÁRIO
SECRETARIA MUNICIPAL DE EDUCAÇÃO
ESCOLA MUNICIPAL DE ENSINO FUNDAMENTAL IRMÃ RÉGULA
CRIAÇÃO: DECRETO LEI Nº920 DE 25 DE FEVEREIRO DE 2014

LADÁRIO,23 DE MARÇO DE 2020.

PRODUÇÃO TEXTUAL- PROFESSORA- CARLA- 3 ANO

ALUNO:_____

NOME: .....

PROFESSOR(A): .....

ESCOLA: .....

CAÇA - SINTOMAS

CORONAVÍRUS

R	T	G	E	H	B	V	N	U	A	D
Z	C	O	R	I	Z	A	E	C	X	I
D	K	A	I	P	C	E	S	F	J	A
W	Ç	V	N	Y	S	X	P	V	O	R
D	O	R	E	S	F	W	I	D	N	R
M	G	J	O	D	A	K	R	E	H	É
C	R	T	H	R	S	Ç	R	Y	G	I
W	D	C	T	X	F	U	O	B	Y	A
F	E	B	R	E	Q	C	L	G	S	O

CANSAÇO - DIARRÉIA - TOSSE -

DORES -FEBRE - CORIZA - ESPIRRO -

www.misturadealegria.blogspot.com ADILEA

MUNICÍPIO DE LADÁRIO
SECRETARIA MUNICIPAL DE EDUCAÇÃO
ESCOLA MUNICIPAL DE ENSINO FUNDAMENTAL IRMÃ RÉGULA
CRIAÇÃO: DECRETO LEI Nº920 DE 25 DE FEVEREIRO DE 2014

LADÁRIO,24 DE ABRIL DE 2020- 3 ANO
RACIOCÍNIO LÓGICO MATEMÁTICO- PROFESSORA- CARLA

ALUNO:_____

Escola: _____

Data: _____ Turma:_____ ENSINOJA.COM

Aluno: _____

1) OBSERVE A FRUTEIRA.

A) QUANTAS LARANJAS HÁ NA PARTE DE CIMA DA FRUTEIRA? ( )

B) QUANTAS LARANJAS VOCÊ VÊ NA PARTE DE BAIXO DA FRUTEIRA? ( )



C) RISQUE, NO QUADRO ABAIXO, A QUANTIDADE DE ELEMENTOS PEDIDA EM CADA FILEIRA E REGISTRE OS FATOS FORMADOS. VEJA O MODELO.

7	
2	
4	
1	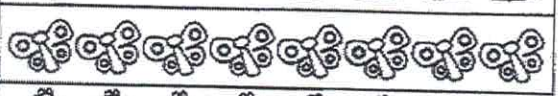
8	
5	
0	
6	
3	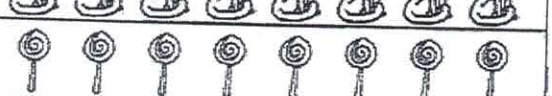

8 – 7 = 1

_____ – _____ = _____

_____ – _____ = _____

_____ – _____ = _____

_____ – _____ = _____

_____ – _____ = _____

_____ – _____ = _____

_____ – _____ = _____

_____ – _____ = _____

SECRETARIA MUNICIPAL DE EDUCAÇÃO
ESCOLA MUNICIPAL DE ENSINO FUNDAMENTAL IRMÃ RÉGULA
CRIAÇÃO: DECRETO LEI Nº920 DE 25 DE FEVEREIRO DE 2014
DECRETO LEI Nº920 DE 25 DE FEVEREIRO DE 2014
LADÁRIO,30 DE ABRIL DE 2020. 3 ANO

PRODUÇÃO TEXTUAL – PROFESSORA- CARLA

ALUNO:_____

COMPLETANDO O TEXTO

1) Complete as frases sobre o sapinho com uma das palavras de cada quadro.

a)	b)	c)
quieto	no açude	frutas
esperto	na lagoa	pudim
feio	na piscina	insetos



a) O sapinho é muito _____.

b) Ele nada _____.

c) O sapinho gosta de comer _____.

2)Agora, escreva as frases que você completou.

_____

_____

_____

_____

_____

MUNICÍPIO DE LADÁRIO
SECRETARIA MUNICIPAL DE EDUCAÇÃO
ESCOLA MUNICIPAL DE ENSINO FUNDAMENTAL IRMÃ RÉGULA
CRIAÇÃO: DECRETO LEI Nº920 DE 25 DE FEVEREIRO DE 2014

ATIVIDADES PEDAGÓGICA COMPLEMENTAR- LÍNGUA PORTUGUESA.
DIA: QUARTA- FEIRA 22/04/2020.
AULA:2ª 3º ANO
CONTEÚDO: TEXTO (INTERPRETAÇÃO)
PROFESSORA: ROSANA GRILLO

LEIA COM MUITA ATENÇÃO E RESPONDA AS QUESTÕES

Escola: _____

Data: _____ Turma: _____ SOESCOLA.COM

Aluno: _____

O BANHO DE PLUTÃO



Cláudio adora molhar as plantas do jardim de sua casa. Mas ele é muito distraído.

Um dia, enquanto Cláudio sentia o perfume de uma flor, não percebeu que seu cachorrinho, Plutão, havia chegado.

Coitado de Plutão! Cláudio deu-lhe um belo banho de mangueira.

O cãozinho saiu correndo, derrubou a placa do jardim e, aflito, foi parar perto de dona Gláucia. Ela o enxugou e o embrulhou numa flanela até que ele ficasse quentinho.

Cláudio precisa ser mais atencioso, você não acha?

Graça Boquet



1) O que Cláudio gosta de fazer?

_____

_____

2) Cláudio é um menino muito:

○ teimoso. ○ cuidadoso. ○ distraído.

MUNICÍPIO DE LADÁRIO
SECRETARIA MUNICIPAL DE EDUCAÇÃO
ESCOLA MUNICIPAL DE ENSINO FUNDAMENTAL IRMÃ RÉGULA
CRIAÇÃO: DECRETO LEI Nº920 DE 25 DE FEVEREIRO DE 2014

ATIVIDADES PEDAGÓGICA COMPLEMENTAR- GEOGRAFIA
DIA: QUARTA- FEIRA 22/04/2020.
AULA:3ª 3º ANO
CONTEÚDO: PAISAGEM NATURAL E MODIFICADA
PROFESSORA: ROSANA GRILLO

OBSERVE AS PAISAGENS MARQUE (N) NAS PAISAGENS NATURAIS E (M) NAS PAISAGENS MODIFICADAS. APÓS PINTE BEM COLORIDO.

PAISAGENS NATURAIS E PAISAGENS CULTURAIS

- Marque (N) nas paisagens naturais e (C) nas paisagens culturais.



suportegeografico77.blogspot.com.br

MUNICÍPIO DE LADÁRIO
SECRETARIA MUNICIPAL DE EDUCAÇÃO
ESCOLA MUNICIPAL DE ENSINO FUNDAMENTAL IRMÃ RÉGULA
CRIAÇÃO: DECRETO LEI Nº920 DE 25 DE FEVEREIRO DE 2014

ATIVIDADES PEDAGÓGICA COMPLEMENTAR- MATEMÁTICA

DIA: QUARTA- FEIRA 22/04/2020.
AULA:5ª 3º ANO
CONTEÚDO: SUBTRAÇÃO
PROFESSORA: ROSANA GRILLO

COM MUITA ATENÇÃO RESOLVA AS OPERAÇÕES, LEMBRANDO SE O NÚMERO A SER SUBTRAIDO FOR MENOR IRÁ PEDIR AJUDA AO AMIGUINHO.

Escola: _____

Data: _____ Turma: _____ LEITORZINHO.COM

Aluno: _____



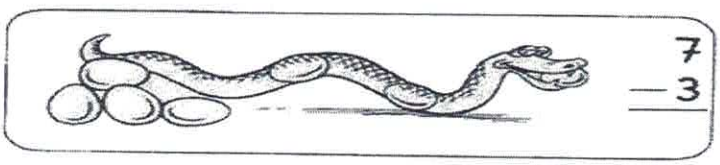

$$\begin{array}{r} 7 \\ -\,3 \\ \hline \end{array}$$

$\begin{array}{r} 505 \\ -\,326 \\ \hline \end{array}$	$\begin{array}{r} 493 \\ -\,199 \\ \hline \end{array}$	$\begin{array}{r} 729 \\ -\,518 \\ \hline \end{array}$	$\begin{array}{r} 364 \\ -\,\ 66 \\ \hline \end{array}$
$\begin{array}{r} 702 \\ -\,\ 32 \\ \hline \end{array}$	$\begin{array}{r} 460 \\ -\,229 \\ \hline \end{array}$	$\begin{array}{r} 610 \\ -\,241 \\ \hline \end{array}$	$\begin{array}{r} 929 \\ -\,415 \\ \hline \end{array}$
$\begin{array}{r} 643 \\ -\,360 \\ \hline \end{array}$	$\begin{array}{r} 274 \\ -\,125 \\ \hline \end{array}$	$\begin{array}{r} 961 \\ -\,308 \\ \hline \end{array}$	$\begin{array}{r} 128 \\ -\,106 \\ \hline \end{array}$
$\begin{array}{r} 660 \\ -\,163 \\ \hline \end{array}$	$\begin{array}{r} 640 \\ -\,152 \\ \hline \end{array}$	$\begin{array}{r} 350 \\ -\,310 \\ \hline \end{array}$	$\begin{array}{r} 311 \\ -\,\ 94 \\ \hline \end{array}$
$\begin{array}{r} 266 \\ -\,115 \\ \hline \end{array}$	$\begin{array}{r} 511 \\ -\,\ 65 \\ \hline \end{array}$	$\begin{array}{r} 808 \\ -\,209 \\ \hline \end{array}$	$\begin{array}{r} 803 \\ -\,\ \ 8 \\ \hline \end{array}$

NOME:_____ DATA: 22 /04 /2020

PROFESSOR (A):_____

TIRADENTES

21 DE ABRIL

NO DIA 21 DE ABRIL LEMBRAMOS A EXISTÊNCIA DE UM HERÓI BRASILEIRO, TIRADENTES.

PINTE O DESENHO E COLE PEDAÇOS DE LÃ NAS BARBAS DE TIRADENTES.



http://palmoidelisiadejo.blogspot.com.br/

MUNICÍPIO DE LADÁRIO
SECRETARIA MUNICIPAL DE EDUCAÇÃO
ESCOLA MUNICIPAL DE ENSINO FUNDAMENTAL IRMÃ RÉGULA
CRIAÇÃO: DECRETO LEI Nº920 DE 25 DE FEVEREIRO DE 2014

ATIVIDADES PEDAGÓGICA COMPLEMENTAR- EDUCAÇÃO CIDADÃ
DIA: QUARTA- FEIRA 22/04/2020.
AULA:5ª 3º ANO
CONTEÚDO: DIREITOS E DEVERES
PROFESSORA: ROSANA GRILLO

LEMBRANDO QUE TEMOS DIREITOS E TAMBÉM TEMOS DEVERES.
LEIA COM MUITA ATENÇÃO E MARQUE O QUE FOI PEDIDO NO TEXTO ABAIXO.

Tenho Direitos e Deveres

- Os direitos que você tem e que estão sendo respeitados na sua escola.
- Marque com um X:

○ Ter bons professores.
○ Ter um lugar na sala de aula.
○ Estudar em ambiente limpo.
○ Ser respeitado em suas opiniões.
○ Participar das atividades escolares.
○ Receber explicações para o que não entendeu.



- Pinte os deveres que você respeita:

○ Conservo a sala de aula e a escola sempre limpas.
○ Estudo com atenção.
○ Não falto às aulas.
○ Trato com respeito as pessoas da escola.
○ Sou cordial e educado.
○ Cumpro meus deveres escolares.
○ Coopero com meus colegas e professor.



www.viverdeeducar.com

MUNICÍPIO DE LADÁRIO
SECRETARIA MUNICIPAL DE EDUCAÇÃO
ESCOLA MUNICIPAL DE ENSINO FUNDAMENTAL IRMÃ RÉGULA
CRIAÇÃO: DECRETO LEI Nº920 DE 25 DE FEVEREIRO DE 2014

ATIVIDADES PEDAGÓGICA COMPLEMENTAR- LÍNGUA PORTUGUESA
DIA: QUINTA- FEIRA 23/04/2020.
AULA:2ª 3° ANO
CONTEÚDO: SÍLABAS
PROFESSORA: ROSANA GRILLO
ALUNO (A)_____ 3° ANO

LEIA E RESPONDA AS QUESTÕES COM MUITA ATENÇÃO

Escola: _____

Aluno: _____

atividades-portugues-1-ano.blogspot.com

PROCURANDO PALAVRAS

1) Coloque a letra **n** nas palavras e faça conforme o modelo.

nuca	→	nunca	nun – ca
troco	→	_____	_____
mudo	→	_____	_____
cato	→	_____	_____
veto	→	_____	_____



2) Procure, no quadro, as palavras que completam as frases e escreva-as no lugar certo.

mentiroso – bancário
dentista – cantor
vendedor – dançarino

a) Quem **canta** é _____.
b) Quem **mente** é _____.
c) Quem sabe **dançar** é _____.
d) Quem trata dos **dentes** é o _____.
e) Quem **vende** mercadorias é o _____.
f) Quem trabalha no **banco** é o _____.



3) Substitua os números pelas sílabas e escreva as palavras.

1-**bin**	2-**an**	3-**ta**	4-**fla**	5-**pin**	6-**go**	7-**do**	8-**fun**	9-**min**	10-**jo**

7,9,6 → _____ 5,6 → _____

2,10 → _____ 1,6 → _____

2,3 → _____ 5,3 → _____

MUNICÍPIO DE LADÁRIO
SECRETARIA MUNICIPAL DE EDUCAÇÃO
ESCOLA MUNICIPAL DE ENSINO FUNDAMENTAL IRMÃ RÉGULA
CRIAÇÃO: DECRETO LEI Nº920 DE 25 DE FEVEREIRO DE 2014

ATIVIDADES PEDAGÓGICA COMPLEMENTAR- MATEMÁTICA
DIA: QUINTA- FEIRA 23/04/2020.
AULA:6ª 3º ANO
CONTEÚDO: GRÁFICO
PROFESSORA: ROSANA GRILLO
ALUNO (A)_____ 3º ANO

OBSERVE O GRÁFICO E RESPONDA AS QUESTÕES REFERENTE A VOTAÇÃO DA TURMA VAMOS DESCOBRIR O SANDUICHE PREFERIDO.

NOME: _____
PROFESSOR: _____ DATA: _____
ATIVIDADES SUZANO



Em uma sala de aula, fizeram uma votação para descobrir o sanduíche preferido da turma. Os votos foram registrados em um gráfico. Observe o gráfico e responda:



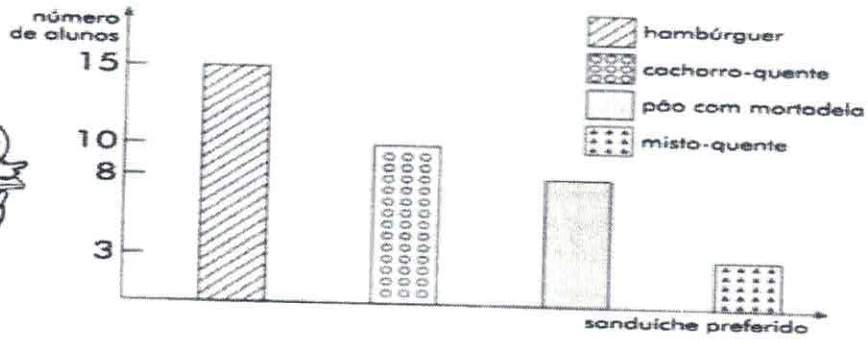

- Qual foi o sanduíche mais votado? Quantos votos ele recebeu?

- Quantos alunos têm nessa sala de aula? Como você fez este cálculo?

- Quantos votos receberam o cachorro quente e o pão com mortadela, juntos?

- Qual foi o sanduíche menos votado?

ATIVIDADES SUZANO

MUNICÍPIO DE LADÁRIO
SECRETARIA MUNICIPAL DE EDUCAÇÃO
ESCOLA MUNICIPAL DE ENSINO FUNDAMENTAL IRMÃ RÉGULA
CRIAÇÃO: DECRETO LEI Nº920 DE 25 DE FEVEREIRO DE 2014

ATIVIDADES PEDAGÓGICA COMPLEMENTAR- CIÊNCIAS E TECNOLOGIA
DIA: QUINTA- FEIRA 23/04/2020.
AULA:6ª 3º ANO
CONTEÚDO: PROJETO EM DESENVOLVIMENTO: USANDO A IMAGINAÇÃO PARA INVENTAR, CRIAR E TRANSFORMAR
PROFESSORA: ROSANA GRILLO
ALUNO (A)_____ 3º ANO

VAMOS CRIAR, SUGESTÕES



MUNICÍPIO DE LADÁRIO
SECRETARIA MUNICIPAL DE EDUCAÇÃO
ESCOLA MUNICIPAL DE ENSINO FUNDAMENTAL IRMÃ RÉGULA
CRIAÇÃO: DECRETO LEI Nº920 DE 25 DE FEVEREIRO DE 2014

ATIVIDADES PEDAGÓGICA COMPLEMENTAR- LÍNGUA PORTUGUESA
DIA: SEXTA- FEIRA 24/04/2020.
AULA3:ª 3º ANO
CONTEÚDO: TEXTO: INTERPRETAÇÃO
PROFESSORA: ROSANA GRILLO
ALUNO (A)_____ 3º ANO

LEIA O TEXTO E RESPONDA AS QUESTÕES ABAIXO, MUITA ATENÇÃO.
LEMBRANDO QUE INÍCIO DE FRASE LETRA MAIÚSCULA E NO FINAL DA FRASE PONTO.

Escola: _____

Data: _____ Turma:_____

Aluno: _____

MANHÃ NA PRAIA

Mateus brinca na areia
Surge um caranguejo que parece avisar:
"Não faça o castelo aqui,
Pois logo vem a onda desmanchar."

Mateus observa os golfinhos,
O barco que está no mar
E as gaivotas que caçam peixinhos
Para os filhotes alimentar.

Graça Boquet



1) Quem Mateus vê brincar na areia?

○ golfinhos. ○ caranguejo. ○ gaivotas.

2) O que o caranguejo parece querer avisar?

_____

3) Quem observa o barco que está no mar?

_____

4) O que as gaivotas fazem?

_____

MUNICÍPIO DE LADÁRIO
SECRETARIA MUNICIPAL DE EDUCAÇÃO
ESCOLA MUNICIPAL DE ENSINO FUNDAMENTAL IRMÃ RÉGULA
CRIAÇÃO: DECRETO LEI Nº920 DE 25 DE FEVEREIRO DE 2014

ATIVIDADES PEDAGÓGICA COMPLEMENTAR- GEOGRAFIA
DIA: SEXTA- FEIRA 24/04/2020.
AULA4:ª 3º ANO
CONTEÚDO: PAISAGEM
PROFESSORA: ROSANA GRILLO
ALUNO (A)_____ 3º ANO

OBSERVE AS PAISAGENS, VIMOS QUE NÃO É SÓ O HOMEM QUE MODIFCA A PAISAGEM O VENTO E A CHUVA TAMBÉM. OBSERVE A FIGURA E COMPLETE AS FRASES. PINTE

Mas, não é só o homem que faz modificações na natureza. O vento e a chuva também provocam mudanças nela.

O vento, quando bate, vai carregando folhas, poeiras, pequenos pedaços das rochas que formam as montanhas e, assim, elas vão ficando cada vez mais baixas.



As águas da chuva, caindo durante anos e anos num morro, por exemplo, vão levando pequenas quantidades de terra junto com elas e, aos poucos, o morro vai ficando mais baixo.

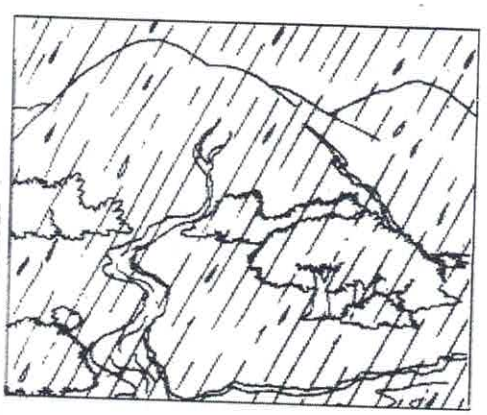

ATIVIDADES

❶ Observe as figuras e complete as frases:



Antes, nesse lugar havia _____



Depois, o homem derrubou as árvores para construir _____

MUNICÍPIO DE LADÁRIO
SECRETARIA MUNICIPAL DE EDUCAÇÃO
ESCOLA MUNICIPAL DE ENSINO FUNDAMENTAL IRMÃ RÉGULA
CRIAÇÃO: DECRETO LEI Nº920 DE 25 DE FEVEREIRO DE 2014

ATIVIDADES PEDAGÓGICA COMPLEMENTAR- MATEMÁTICA
DIA: SEXTA- FEIRA 24/04/2020.
AULA5:ª 3º ANO
CONTEÚDO: ADIÇÃO E SUBTRAÇÃO
PROFESSORA: ROSANA GRILLO
ALUNO (A)_____ 3º ANO

RESOLVA NO CADERNO AS OPERAÇÕES E PINTE OS RESULTADOS(RESPOSTAS) NA FOLHA COM MUITA ATENÇÃO, LEMBRANDO NA HORA DE ARMAR AS OPERAÇÕES. UNIDADE EMBAIXO DE UNIDADE, DEZENA EMBAIXO DE DEZENA, CENTENA EMBAIXO DE CENTENA.

QUAL É O RESULTADO?

Resolva no caderno e pinte os resultados corretos:

a) 357 + 383 =	640	740	521
b) 973 + 894 =	1894	573	1867
c) 957 + 844 =	6531	6431	1801
d) 560 + 39 + 2 =	610	601	600
e) 907 + 984 =	1981	1891	1291
f) 972 + 234 =	1206	1307	1306
g) 500 – 46 =	545	444	454
h) 80 - 37 =	43	40	47
i) 900 – 754 =	146	174	243
j) 921 – 234 =	574	687	786
k) 50 – 44 =	6	50	14
l) 858 – 6 =	852	271	853

Escola Municipal Integral Irmã Régula.
Ladário, 24 de abril de 2020.
Professora: Rosana Grillo.
Aluno (a): _____ Série: 3º ano

HISTÓRIA



MUNICÍPIO DE LADÁRIO
SECRETARIA MUNICIPAL DE EDUCAÇÃO
ESCOLA MUNICIPAL DE ENSINO FUNDAMENTAL IRMÃ RÉGULA
CRIAÇÃO: DECRETO LEI Nº920 DE 25 DE FEVEREIRO DE 2014

ATIVIDADES PEDAGÓGICA COMPLEMENTAR- PROJETO E PESQUISA
DIA: SEXTA- FEIRA 24/04/2020.
AULA7:ª 3° ANO
CONTEÚDO: PROJETO EM DESENVOLVIMENTO: COMBATENDO O AEDES AEGYPTI
PROFESSORA: ROSANA GRILLO
ALUNO (A)_____ 3° ANO

ESCOLA_____
TURMA_____ **DATA**__/__/__
NOME_____

MÚSICA DA DENGUE

(CIRANDA, CIRANDINHA)

CRIANÇAS, CRIANCINHAS
VAMOS TODOS ESCUTAR
VAMOS TOMAR CUIDADO
PARA DENGUE NÃO PEGAR.
É DA ÁGUA LIMPA E PARADA
QUE VEM ESTE MOSQUITO
ELE NUNCA ESTÁ
CONTENTE
E QUER SEMPRE PICAR
A GENTE.
POR ISSO SEU MOSQUITO
FAZ FAVOR
DE IR EMBORA
NÃO QUERO FICAR DOENTE
DIGA ADEUS E VÁ SE EMBORA

APÓS CANTAR A MÚSICA, RECORTE E MONTE AQUI O QUEBRA-CABEÇA DO MOSQUITO AEDES AEGYPTI.

www.sitnoon.com.br



MUNICÍPIO DE LADÁRIO
SECRETARIA MUNICIPAL DE EDUCAÇÃO
ESCOLA MUNICIPAL DE ENSINO FUNDAMENTAL IRMÃ RÉGULA
CRIAÇÃO: DECRETO LEI Nº920 DE 25 DE FEVEREIRO DE 2014

ATIVIDADES PEDAGÓGICA COMPLEMENTAR- MATEMÁTICA
DIA: SEGUNDA- FEIRA 27/04/2020.
AULA2:ª, 3ª 3º ANO
CONTEÚDO: GRÁFICO
PROFESSORA: ROSANA GRILLO
ALUNO (A)_____ 3º ANO

VAMOS DESCOBRIR QUAL ANIMAL VIVE MAIS E QUAL VIVE MENOS.

Veja no gráfico abaixo o tempo médio de vida de alguns animais:

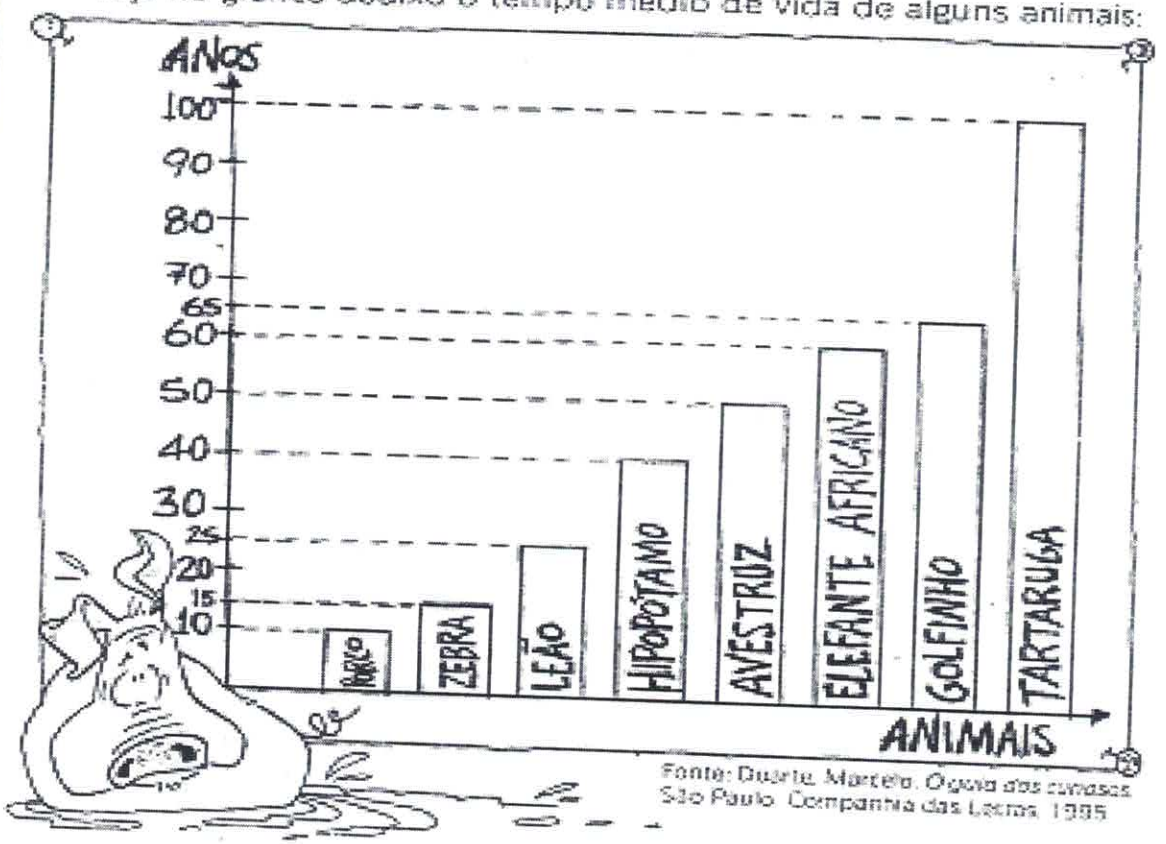

Fonte: Duarte, Marcelo. Ogiva das curvas. São Paulo: Companhia das Letras, 1995.

a) Entre esses animais, qual é o de vida mais:
• longa?_____ • curta?_____

b) Quantos anos o elefante africano vive em média a mais que o avestruz?

c) Quantos anos a zebra vive em média a menos que o golfinho?

d) O leão vive em média mais ou menos anos que o hipopótamo? Quanto?

MUNICÍPIO DE LADÁRIO
SECRETARIA MUNICIPAL DE EDUCAÇÃO
ESCOLA MUNICIPAL DE ENSINO FUNDAMENTAL IRMÃ RÉGULA
CRIAÇÃO: DECRETO LEI Nº920 DE 25 DE FEVEREIRO DE 2014

ATIVIDADES PEDAGÓGICA COMPLEMENTAR- CIÊNCIAS
DIA: SEGUNDA- FEIRA 27/04/2020.
AULA4:ª 3º ANO
CONTEÚDO:SISTEMA SOLAR (PLANETAS)
PROFESSORA: ROSANA GRILLO
ALUNO (A)_____ 3º ANO

OBSERVE OS PLANETAS E PINTE BEM BONITO.

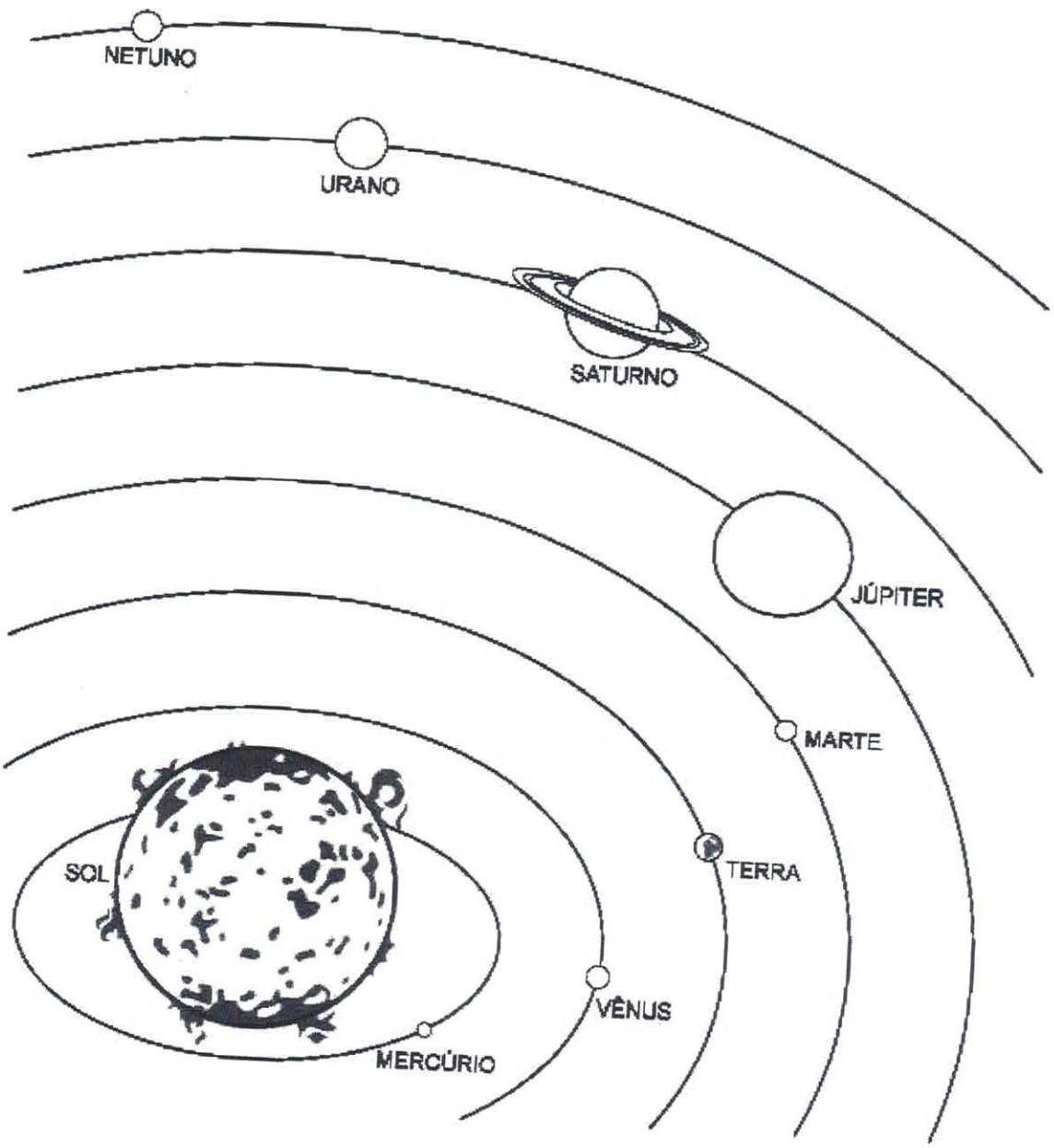

SISTEMA SOLAR

MUNICÍPIO DE LADÁRIO
SECRETARIA MUNICIPAL DE EDUCAÇÃO
ESCOLA MUNICIPAL DE ENSINO FUNDAMENTAL IRMÃ RÉGULA
CRIAÇÃO: DECRETO LEI Nº920 DE 25 DE FEVEREIRO DE 2014

ATIVIDADES PEDAGÓGICA COMPLEMENTAR- LÍNGUA PORTUGUESA
DIA: SEGUNDA- FEIRA 27/04/2020.
AULA5:ª 3° ANO
CONTEÚDO: ORTOGRAFIA M ANTES DE P E B
PROFESSORA: ROSANA GRILLO
ALUNO (A)_____ 3° ANO

RELEMBRANDO QUE SÓ PODEMOS USAR M ANTES DA LETRA P E B.
EX: PO_M_BA. COMPLETE CORRETAMENTE, MUITA ATENÇÃO

Escola _____
Aluno (a) _____
Professor (a) _____



Atividade

Pra responder fique de olho na regrinha:

ca ____peão la ____bada
bo ____ba de ____te
pe ____sar ca ____ta
lo ____bada ca ____ção
ce ____tro co ____boio
bu ____ bo
bo ____bom



Antes de P e B, só M devo escrever!

M OU N?

MUNICÍPIO DE LADÁRIO
SECRETARIA MUNICIPAL DE EDUCAÇÃO
ESCOLA MUNICIPAL DE ENSINO FUNDAMENTAL IRMÃ RÉGULA
CRIAÇÃO: DECRETO LEI Nº920 DE 25 DE FEVEREIRO DE 2014

ATIVIDADES PEDAGÓGICA COMPLEMENTAR- PROJETO E PESQUISA
DIA: SEGUNDA- FEIRA 27/04/2020.
AULA6:ª 3° ANO
CONTEÚDO: PROJETO EM DESENVOLVIMENTO: COMBATENDO O AEDES AEGYPTI
PROFESSORA: ROSANA GRILLO
ALUNO (A)_____ 3° ANO

MUITA ATENÇÃO AO PREENCHER OS CÍRCULOS COM AS LETRAS PEDIDAS.
VAMOS DESCOBRIR O NOME DO MOSQUITO TRANSMISSOR DA DENGUE...

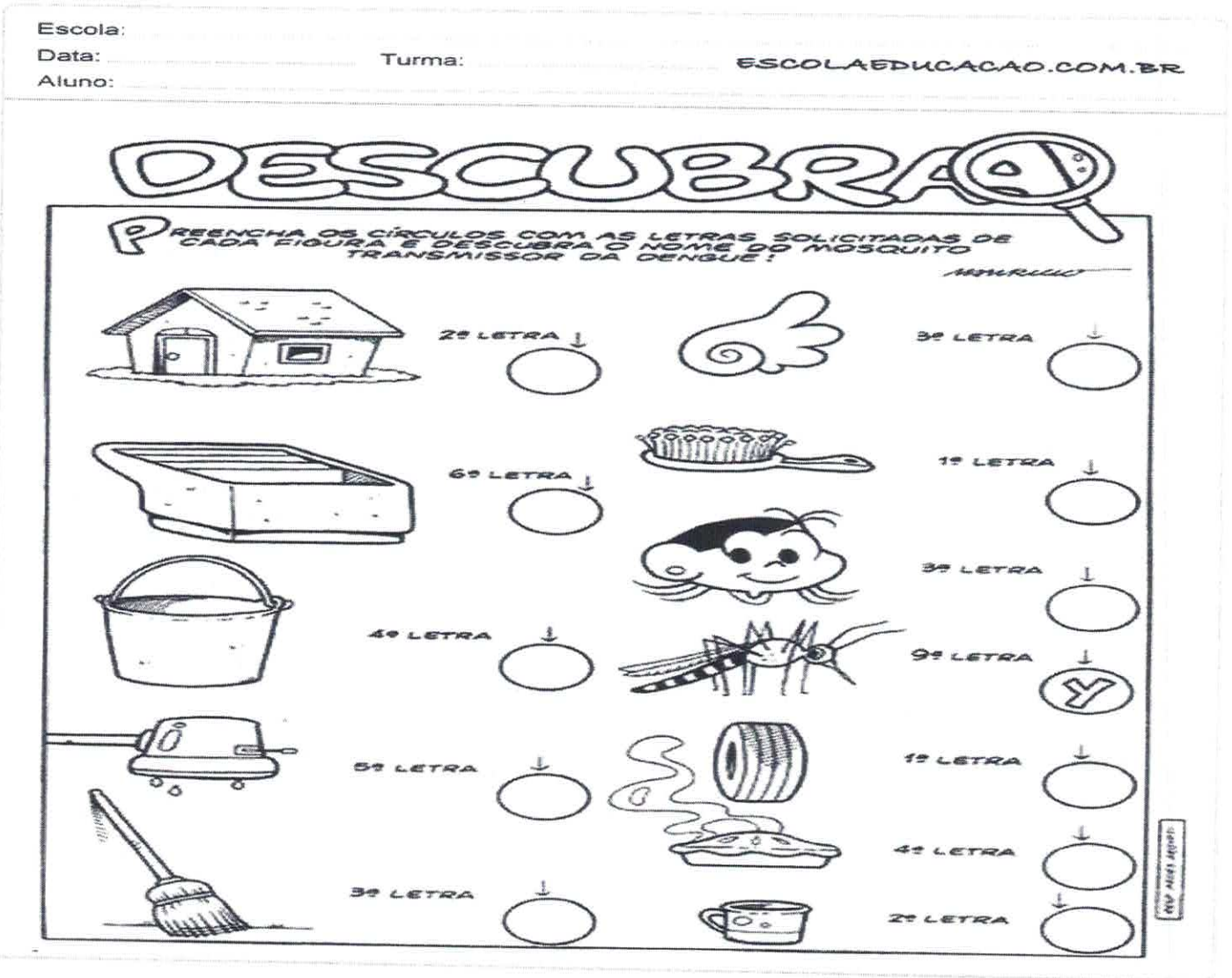

MUNICÍPIO DE LADÁRIO
SECRETARIA MUNICIPAL DE EDUCAÇÃO
ESCOLA MUNICIPAL DE ENSINO FUNDAMENTAL IRMÃ RÉGULA
CRIAÇÃO: DECRETO LEI Nº920 DE 25 DE FEVEREIRO DE 2014

ATIVIDADES PEDAGÓGICA COMPLEMENTAR- CIÊNCIAS
DIA: TERÇA- FEIRA 28/04/2020.
AULA3:ª 3° ANO
CONTEÚDO: ASTROS
PROFESSORA: ROSANA GRILLO
ALUNO (A)_____ 3° ANO

LEIA O TEXTO E RESPONDA AS QUESTÕES ABAIXO

ASTROS: O BRILHO NO CÉU

A Terra, o Sol e a Lua são astros que se movimentam no espaço. Da superfície da Terra podemos ver parte do espaço. Nós conhecemos essa parte com o nome de céu.

Os astros e o espaço onde eles estão, formam o Universo. Durante o dia, vemos o sol, que é a estrela mais próxima da Terra, fonte luz e de calor.

À noite, podemos ver outros astros, como as estrelas e a Lua, por exemplo.

É comum as pessoas pensarem que a Lua sempre será vista somente a noite. Muitas vezes podemos vê-la também durante o dia. Também a noites em que não conseguimos observar a Lua.



A Terra não está sozinha no Universo. De qualquer lugar da superfície terrestre, numa noite sem nuvens, é possível ver uma infinidade de pontos brilhantes no céu. Esses pontos brilhantes são chamados de astros e podem ser classificados em **LUMINOSOS** ou **ILUMINADOS**.

Os astros **LUMINOSOS** são os astros que possuem luz própria, esses astros são chamados de **ESTRELAS**.

Os astros **ILUMINADOS** são aqueles que não possuem luz própria, eles são iluminados pelo Sol. Os principais astros iluminados são os planetas e os satélites.

Alguns são vistos a olho nu, outros, por serem menores ou por estarem muito distantes da Terra, só podem ser observados com o auxílio de um aparelho chamado **TELESCÓPIO**.

A ciência que estuda os astros, de que eles são feitos, seus movimentos e sua posição no espaço é chamada **ASTRONOMIA**. Os **ASTRÔNOMOS** são os cientistas que se dedicam à Astronomia.

1- COM ATENÇÃO, RESPONDA AS PERGUNTAS A SEGUIR:

a) Quais são os astros que podemos ver durante o dia? E no período da noite?

b) Todas as noites é possível ver a lua? Podemos ver a lua durante o dia?

c) O que são astros luminosos?

d) O que são astros iluminados?

e) O que é um telescópio?

f) Como é o nome do cientista que estuda os astros?

MUNICÍPIO DE LADÁRIO
SECRETARIA MUNICIPAL DE EDUCAÇÃO
ESCOLA MUNICIPAL DE ENSINO FUNDAMENTAL IRMÃ RÉGULA
CRIAÇÃO: DECRETO LEI Nº920 DE 25 DE FEVEREIRO DE 2014

ATIVIDADES PEDAGÓGICA COMPLEMENTAR- MATEMÁTICA
DIA: TERÇA- FEIRA 28/04/2020.
AULA5:ª 3º ANO
CONTEÚDO: ANTECESSOR/ SUCESSOR
PROFESSORA: ROSANA GRILLO
ALUNO (A)_____ 3º ANO

COMPLETE COM O NÚMERO QUE VEM ANTES ANTECESSOR E O QUE VEM DEPOIS SUCESSOR

NOME: _____ DATA: ___/___/___

1. Coloque o número que vem antes e depois.



25	95
18	23
30	69
56	99
74	12
15	20
27	40
71	69

NOME: _____ DATA: ___/___/___

1. Coloque o número que vem antes e depois.



69	49
91	45
61	52
50	67
90	10
13	58
92	11
34	21

MUNICÍPIO DE LADÁRIO
SECRETARIA MUNICIPAL DE EDUCAÇÃO
ESCOLA MUNICIPAL DE ENSINO FUNDAMENTAL IRMÃ RÉGULA
CRIAÇÃO: DECRETO LEI Nº920 DE 25 DE FEVEREIRO DE 2014

ATIVIDADES PEDAGÓGICA COMPLEMENTAR- EDUCAÇÃO CIDADÃ
DIA: TERÇA- FEIRA 28/04/2020.
AULA: 6ª 3° ANO
CONTEÚDO: DIREITOS E DEVERES
PROFESSORA: ROSANA GRILLO
ALUNO (A)_____ 3° ANO

LEIA COM MUITA ATENÇÃO OS DIREITOS DAS CRIANÇAS E PINTE BEM BONITO

Escola:
Data: Turma: Aluno:

OS DIREITOS DAS CRIANÇAS



1- DIREITO À IGUALDADE, SEM DISTINÇÃO DE RAÇA, COR RELIGIÃO OU NACIONALIDADE.



2- DIREITO A PROTEÇÃO PARA O SEU DESENVOLVIMENTO FÍSICO, SOCIAL E MENTAL.



3- DIREITO A UM NOME E UMA NACIONALIDADE.



4- DIREITO A ALIMENTAÇÃO, MORADIA E ASSITÊNCIA.



5- DIREITO A UMA VAGA NA ESCOLA E A CUIDADOS ESPECIAIS PARA A CRIANÇA FÍSICA OU MENTAMENTE DEFICIENTE.

MUNICÍPIO DE LADÁRIO
SECRETARIA MUNICIPAL DE EDUCAÇÃO
ESCOLA MUNICIPAL DE ENSINO FUNDAMENTAL IRMÃ RÉGULA
CRIAÇÃO: DECRETO LEI Nº920 DE 25 DE FEVEREIRO DE 2014

ATIVIDADES PEDAGÓGICA COMPLEMENTAR- CIÊNCIAS E TECNOLOGIA
DIA: TERÇA- FEIRA 28/04/2020.
AULA: 7ª 3° ANO
CONTEÚDO: PROJETO EM DESENVOLVIMENTO: USANDO A IMAGINAÇÃO PARA CRIAR, INVENTAR, TRANSFORMAR
PROFESSORA: ROSANA GRILLO
ALUNO (A)_____ 3° ANO

SUGESTÕES PARA CRIAR, INVENTAR, TRANSFORMAR





MUNICÍPIO DE LADÁRIO
SECRETARIA MUNICIPAL DE EDUCAÇÃO
ESCOLA MUNICIPAL DE ENSINO FUNDAMENTAL IRMÃ RÉGULA
CRIAÇÃO: DECRETO LEI Nº920 DE 25 DE FEVEREIRO DE 2014

ATIVIDADES PEDAGÓGICA COMPLEMENTAR- LÍNGUA PORTUGUESA
DIA: QUARTA- FEIRA 29/04/2020.
AULA:2ª 3º ANO
CONTEÚDO: ORTOGRAFIA M ANTES DE P E B
PROFESSORA: ROSANA GRILLO
ALUNO (A)_____ 3º ANO

COMPLETE AS PALAVRAS COM M OU N. MUITA ATENÇÃO, NÃO ESQUEÇA A REGRINHA

M OU N?



Atenção!
Só posso usar a letra **m** antes de **p** e **b**.

1) Use m ou n.

ta ____ bor	li ____ po	ba ____ buzal
ba ____ co	ba ____ bolê	te ____ poral
sa ____ ba	mere ____ da	lo ____ bo
ca ____ po	lara ____ ja	mu ____ do

2) Leia as palavras e numere os desenhos de acordo com elas.

① gambá
② bombom
③ tampa
④ bombeiro
⑤ empada
⑥ pomba



MUNICÍPIO DE LADÁRIO
SECRETARIA MUNICIPAL DE EDUCAÇÃO
ESCOLA MUNICIPAL DE ENSINO FUNDAMENTAL IRMÃ RÉGULA
CRIAÇÃO: DECRETO LEI Nº920 DE 25 DE FEVEREIRO DE 2014

ATIVIDADES PEDAGÓGICA COMPLEMENTAR- GEOGRAFIA
DIA: QUARTA- FEIRA 29/04/2020.
AULA:3ª 3º ANO
CONTEÚDO: ZONA RURAL/ ZONA URBANA
PROFESSORA: ROSANA GRILLO
ALUNO (A)_____ 3º ANO

LEIA O TEXTO QUE FALA DA ZONA RURAL E DA ZONA URBANA E RESPONDA AS QUESTÕES ABAIXO. APÓS PINTE BEM COLORIDO.

Leia:

HÁ PESSOAS QUE MORAM NA CIDADE, OUTRAS QUE MORAM NO CAMPO.

AS PESSOAS QUE MORAM NA CIDADE FORMAM A COMUNIDADE URBANA E AS PESSOAS QUE VIVEM NO CAMPO FORMAM A COMUNIDADE RURAL.

NA COMUNIDADE URBANA, HÁ MUITAS COISAS EM COMUM, POR EXEMPLO, ALGUNS SERVIÇOS COMO ELETRICIDADE, ÁGUA E ESGOTO TRATADOS, TRANSPORTES COLETIVOS, COMUNICAÇÃO, REDE DE BANCOS E UM COMÉRCIO MUITO VARIADO.

NAS CIDADES, AS CASAS OU APARTAMENTOS SÃO CONSTRUÍDOS BEM JUNTO UNS DOS OUTROS.





A ZONA RURAL, TAMBÉM CHAMADA DE CAMPO, É A REGIÃO QUE FICA FORA DA CIDADE.

AS PESSOAS VIVEM NO CAMPO EM SÍTIOS, CHÁCARAS, FAZENDAS, ETC.

AS CASAS DA ZONA RURAL NÃO SÃO CONSTRUÍDAS PERTO UMA DAS OUTRAS. A MAIORIA DAS PESSOAS QUE VIVEM NA COMUNIDADE RURAL TRABALHA CUIDANDO DA LAVOURA E DO GADO.

AS QUE CUIDAM DA LAVOURA SÃO CHAMADAS DE AGRICULTORES OU LAVRADORES. ELAS TRABALHAM NA TERRA, PLANTAM, COLHEM E VENDEM OS PRODUTOS.

QUEM CRIA OS ANIMAIS COMO BOIS, CAVALOS, CABRAS, PORCOS, AVES SÃO CHAMADAS PECUARISTAS.

1. Responda:

a) AS PESSOAS QUE MORAM NA CIDADE FORMAM A COMUNIDADE_____.

b) AS PESSOAS QUE VIVEM NO CAMPO FORMAM A COMUNIDADE _____.

c) QUEM CUIDA DA LAVOURA SÃO CHAMADOS DE _____

d) QUEM CUIDA DA CRIAÇÃO DE ANIMAIS SÃO CHAMADOS DE _____.

MUNICÍPIO DE LADÁRIO
SECRETARIA MUNICIPAL DE EDUCAÇÃO
ESCOLA MUNICIPAL DE ENSINO FUNDAMENTAL IRMÃ RÉGULA
CRIAÇÃO: DECRETO LEI Nº920 DE 25 DE FEVEREIRO DE 2014

ATIVIDADES PEDAGÓGICA COMPLEMENTAR- MATEMÁTICA
DIA: QUARTA- FEIRA 29/04/2020.
AULA:5ª 3º ANO
CONTEÚDO: NUMERAIS
PROFESSORA: ROSANA GRILLO
ALUNO (A)_____ 3º ANO

Escola: .....
Data: ..... Turma: ..... ESCOLAEDUCACAO.COM.BR
Aluno: .....

Escreva os numerais pedidos.

Oitenta e nove	
Cinqüenta e cinco	
Setenta e quatro	
Trinta e seis	
Noventa e um	
Quarenta e oito	
Vinte e dois	
Sessenta e três	



QUESTÃO 7

Observe o quadro numerado de 1 a 99.

1	2	3	4	5	6	□	8	9	10
△	12	13	14	15	16	17	18	19	20
21	22	23	24	✱	26	27	28	29	☾
31	32	33	34	35	36	37	38	●	40
41	42	✂	44	45	46	47	48	49	50
51	52	53	54	55	56	57	☆	59	60
61	62	63	⊙	65	66	67	68	69	70
71	72	73	74	75	∞	77	78	79	80
81	♡	83	84	85	86	87	88	89	◇
91	92	93	94	95	96	☺	98	99	



Agora, substitua os símbolos pelos numerais.

♡	⊙	✂	✱
☆	∞	☾	☺
□	△	●	◇

Colégio Ideal Nome: _____ Turma: _____

22 de abril - Descobrimento do Brasil

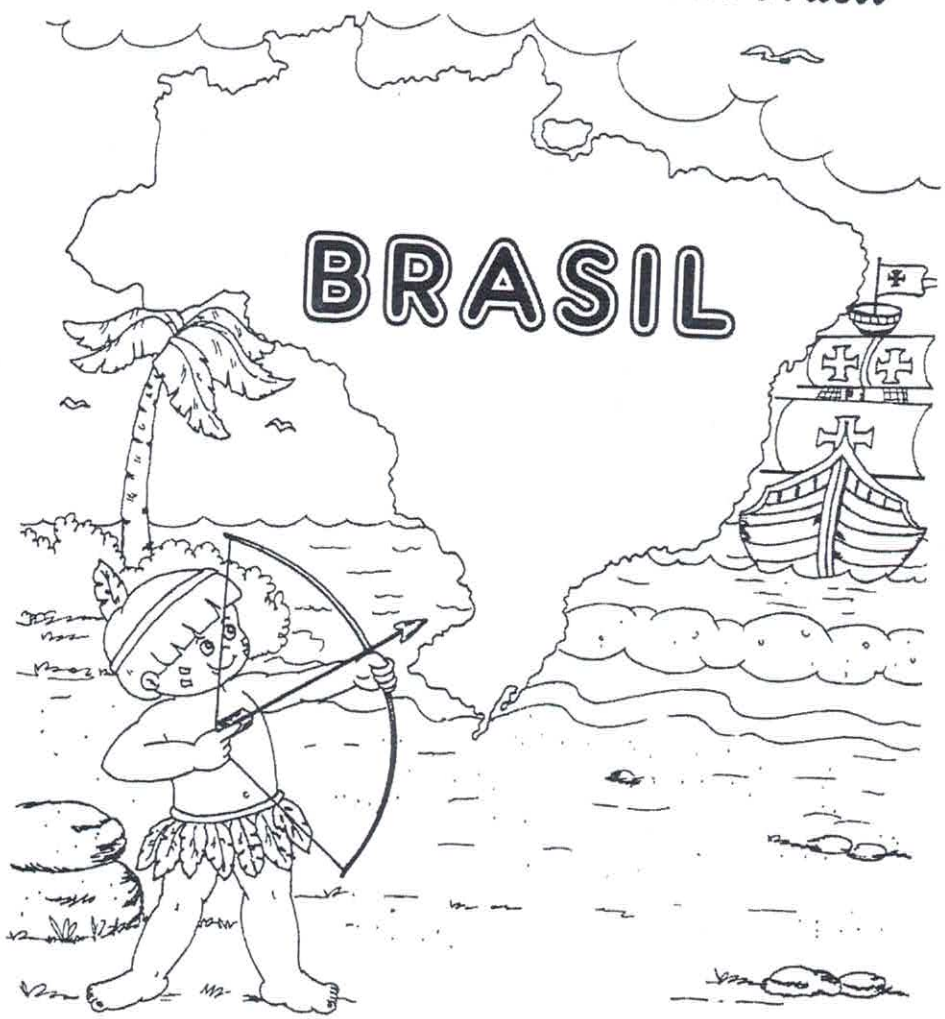

Em 22 de abril de 1500 chegava ao Brasil 13 caravelas portuguesas lideradas por Pedro Álvares Cabral. A primeira vista, eles acreditavam tratar-se de um grande monte, e chamaram-no de Monte Pascoal. Após deixarem o local em direção à Índia, Cabral, na incerteza se a terra descoberta tratava-se de um continente ou de uma grande ilha, alterou o nome para Ilha de Vera Cruz. Após exploração realizada por outras expedições portuguesas, foi descoberto tratar-se realmente de um continente, e novamente o nome foi alterado. A nova terra passou a ser chamada de Terra de Santa Cruz. Somente depois da descoberta do pau-brasil, ocorrida no ano de 1511, nosso país passou a ser chamado pelo nome que conhecemos hoje: Brasil.

MUNICÍPIO DE LADÁRIO
SECRETARIA MUNICIPAL DE EDUCAÇÃO
ESCOLA MUNICIPAL DE ENSINO FUNDAMENTAL IRMÃ RÉGULA
CRIAÇÃO: DECRETO LEI Nº920 DE 25 DE FEVEREIRO DE 2014

ATIVIDADES PEDAGÓGICA COMPLEMENTAR- EDUCAÇÃO CIDADÃ
DIA: QUARTA- FEIRA 29/04/2020.
AULA:7ª 3º ANO
CONTEÚDO: DIREITOS E DEVERES
PROFESSORA: ROSANA GRILLO
ALUNO (A)_____ 3º ANO

LEIA E PINTE CONFORME SUAS AÇÕES.



• Colorir as afirmativas conforme o seu comportamento na escola:

Faço	Não Faço	
☆	☆	Costumo cumprimentar meus professores e colegas.
☆	☆	Agradecer sempre é um costume que tenho.
☆	☆	Sou agressivo nas horas de lazer.
☆	☆	Converso com todos os meus colegas, sou amigável e prestativo.
☆	☆	Participo de todas as atividades, dentro ou fora da sala, com educação.
☆	☆	Procuro não chegar atrasado à escola.
☆	☆	Durante a hora do lanche procuro usar as lixeiras, para jogar o lixo.
☆	☆	Subo as escadas bem devagar, sem fazer barulho ou brincadeiras.

MUNICÍPIO DE LADÁRIO
SECRETARIA MUNICIPAL DE EDUCAÇÃO
ESCOLA MUNICIPAL DE ENSINO FUNDAMENTAL IRMÃ RÉGULA
CRIAÇÃO: DECRETO LEI Nº920 DE 25 DE FEVEREIRO DE 2014

ATIVIDADES PEDAGÓGICA COMPLEMENTAR- MATEMÁTICA
DIA: QUARTA- FEIRA 29/04/2020.
AULA:5ª 3º ANO 30
CONTEÚDO: GRÁFICO
PROFESSORA: ROSANA GRILLO
ALUNO (A)_____ 3º ANO

OBSERVE O GRÁFICO COM MUITA ATENÇÃO E RESPONDA AS QUESTÕES ABAIXO.

ESCOLA _____DATA:_____/_____/_____

PROF:_____TURMA:_____

NOME:_____

Leitura de gráficos

1)Observe o gráfico de brinquedos de Higor. Cada barra corresponde a um brinquedo.

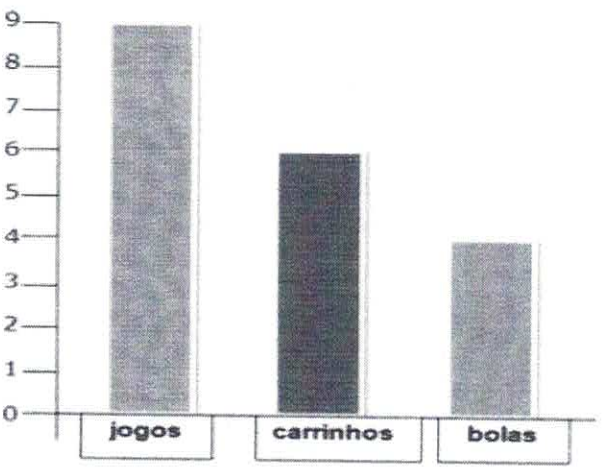

2)Agora responda:

a)Quantas bolas Higor tem?

b)Quantos carrinhos?

c)Quantos jogos?

d)Quantos jogos Higor tem a mais que bolas?

e)Quantos carrinhos faltam para Higor ficar com a mesma quantidade que tem de jogos?

3.Higor tem quantos brinquedos no total?

4)Marque a resposta certa. Para agrupar uma dezena de brinquedos de Higor,é só adicionar:

( )jogos e bolas.

( )carrinhos e bolas.

( )carrinhos e jogos.

www.acessaber.com.br

MUNICÍPIO DE LADÁRIO
SECRETARIA MUNICIPAL DE EDUCAÇÃO
ESCOLA MUNICIPAL DE ENSINO FUNDAMENTAL IRMÃ RÉGULA
CRIAÇÃO: DECRETO LEI Nº920 DE 25 DE FEVEREIRO DE 2014

ATIVIDADES PEDAGÓGICA COMPLEMENTAR- CIÊNCIAS E TECNOLOGIA
DIA: QUARTA- FEIRA 29/04/2020.
AULA:7ª 3º ANO 30
CONTEÚDO: PROJETO EM DESENVOLVIMENTO: USANDO A IMAGINAÇÃO PARA CRIAR, INVENTAR, TRANSFORMAR.
PROFESSORA: ROSANA GRILLO
ALUNO (A)_____ 3º A

Desenhe bem bonito o que gostaria de criar.