Escola Municipal Pro° João Baptista – Ladário/ MS

Plano de aulas:

Atividades Pedagógicas Complementares

Professora : Cleonice Gomes Andrade.

EJA – 2ª fase - Turno : Noturno Turma : Ù Ano : 2020

Disciplina : Língua Portuguesa

Quantidade de aula : 05 semanal - total : 08

Data: 03,03,06,09,09,10,10,13 /11/20

Sábado letivo: -

Competências e Habilidades: desenvolver a linguagem o raciocínio a coordenação motora e o conhecimento a fim de promover a aprendizagem do aluno de acordo com seu nível escolar.

Conteúdos : Gramática - Ortografia – Leitura - Interpretação de texto.

Metodologia : Pesquisa em atividades anteriores ,pesquisa em internet.

Recursos : folha xerocada, internet , livros....

Avaliação : visual e contínua da aprendizagem.

Escola Municipal Pro° João Baptista – Ladário MS

Atividades Pedagógicas Complementares – EJA 2º fase

Turno : Noturno Turma : Ù Ano : 2020 Prof. Cleonice Gomes

Disciplina : Português – data: 03,03/11/20 – Horário de 3ª feira

Fonte: google

Gramática.

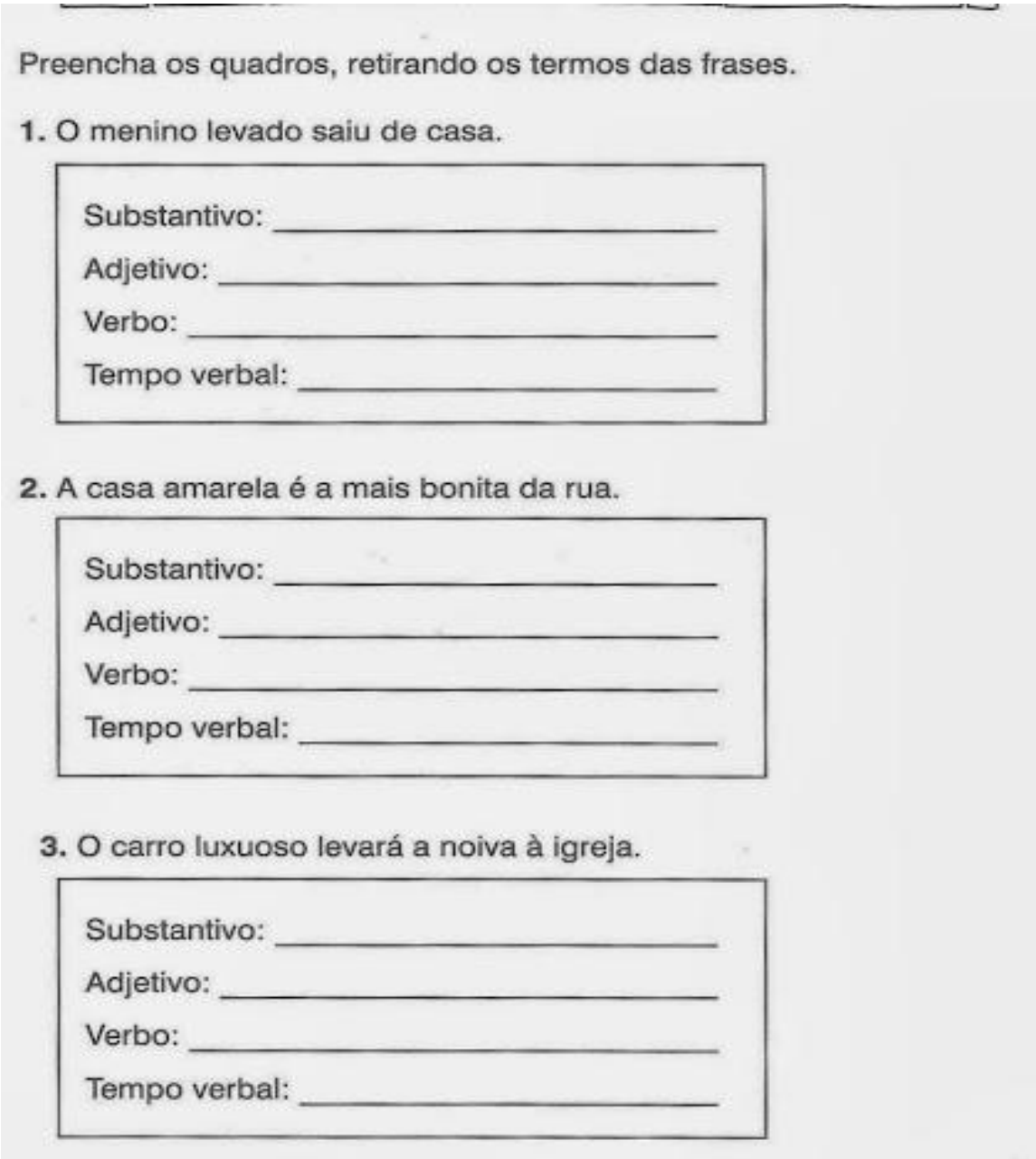

Preencha os quadros, retirando os termos das frases.

1. O menino levado saiu de casa.

Substantivo: _____

Adjetivo: _____

Verbo: _____

Tempo verbal: _____

2. A casa amarela é a mais bonita da rua.

Substantivo: _____

Adjetivo: _____

Verbo: _____

Tempo verbal: _____

3. O carro luxuoso levará a noiva à igreja.

Substantivo: _____

Adjetivo: _____

Verbo: _____

Tempo verbal: _____

Escola Municipal Pro° João Baptista – Ladário MS

Atividades Pedagógicas Complementares – EJA 2º fase

Turno : Noturno Turma : Ù Ano : 2020 Prof. Cleonice Gomes

Disciplina : Português – data: 06/11/20 – Horário de 6ª feira

Fonte: google

Gramática.

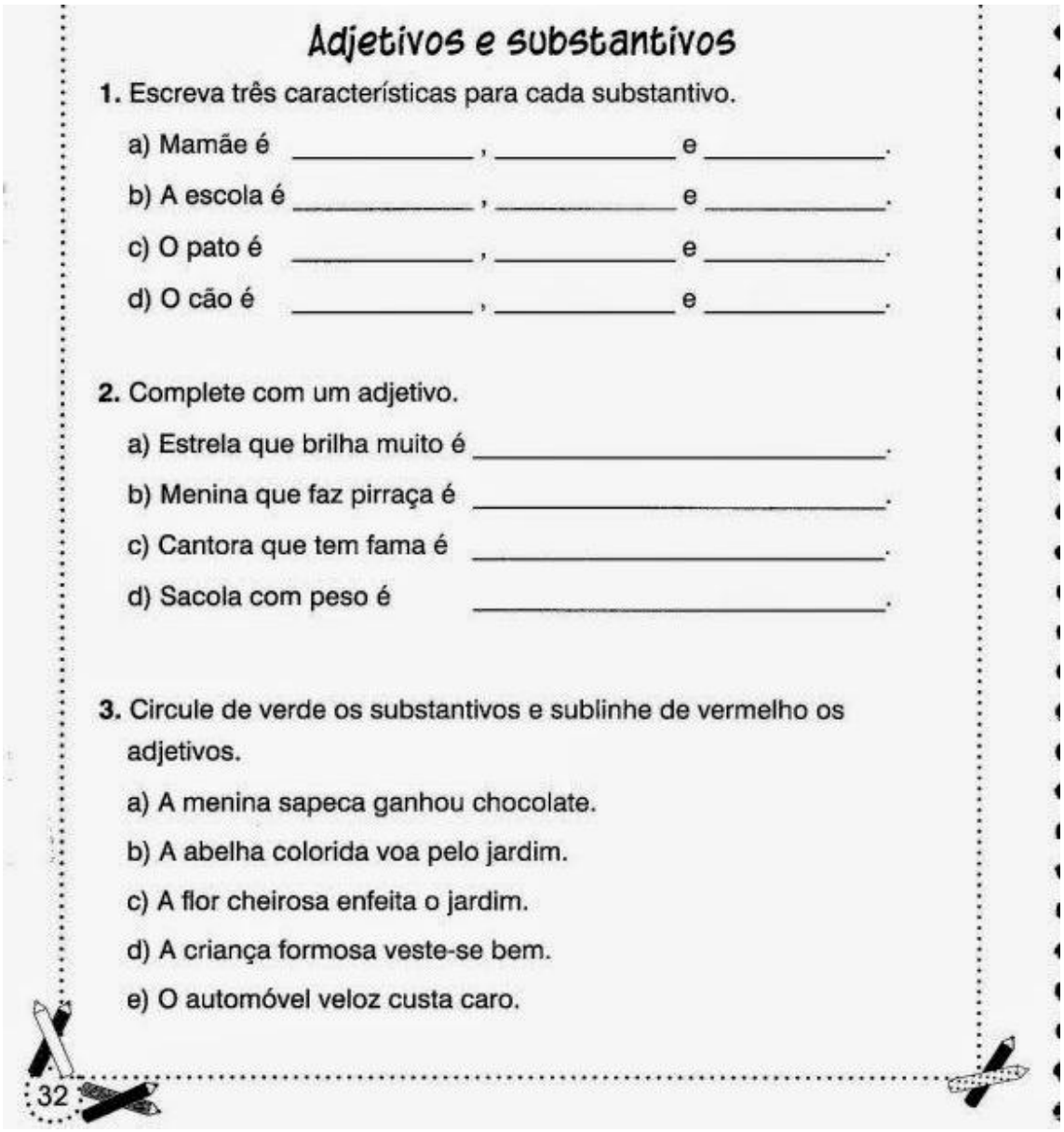

Adjetivos e substantivos

1. Escreva três características para cada substantivo.

a) Mamãe é _____, _____ e _____.

b) A escola é _____, _____ e _____.

c) O pato é _____, _____ e _____.

d) O cão é _____, _____ e _____.

2. Complete com um adjetivo.

a) Estrela que brilha muito é _____.

b) Menina que faz pirraça é _____.

c) Cantora que tem fama é _____.

d) Sacola com peso é _____.

3. Circule de verde os substantivos e sublinhe de vermelho os adjetivos.

a) A menina sapeca ganhou chocolate.

b) A abelha colorida voa pelo jardim.

c) A flor cheirosa enfeita o jardim.

d) A criança formosa veste-se bem.

e) O automóvel veloz custa caro.

32

Escola Municipal Pro° João Baptista – Ladário MS

Atividades Pedagógicas Complementares – EJA 2º fase

Turno : Noturno Turma : Ù Ano : 2020 Prof. Cleonice Gomes

Disciplina : Português – data:09,09/11/20 – Horário de 2ª feira

Fonte: google

Gramática:

1) ESCOLHA, DENTRO DO QUADRO, DOIS ADJETIVOS PARA CADA SUBSTANTIVO ABAIXO:

PELUDO	FEROZ	INTELIGENTE	BONITA
COMILÃO	ELEGANTE	ESPERTA	SABOROSA
ESTUDIOSO	ALEGRE	PERIGOSO	VERMELHA
PERFUMADA	ENGRAÇADO	COLORIDO	MADURA

















Escola Municipal Pro° João Baptista – Ladário MS

Atividades Pedagógicas Complementares – EJA 2º fase

Turno : Noturno Turma : Ù Ano : 2020 Prof. Cleonice Gomes

Disciplina : Português – data: 10,10/11/20 – Horário de 3ª feira

Fonte: google

Gramática.

Revisão dos substantivos

1. Complete o quadro com substantivos derivados.

Substantivo primitivo	Substantivo derivado
manga	
motor	
jardim	

2. Descubra a palavra intrusa em cada grupo e justifique a sua resposta.

girassol vaivém planalto chuva

_____

sobremesa escova pente sabonete

_____

água-viva cachorro olho de sogra varapau

_____

3. Circule os substantivos de azul e ligue-os à classificação.

Fui à padaria e comprei pão, mortadela e queijo.

primitivo derivado comum

Escola Municipal Pro° João Baptista – Ladário MS

Atividades Pedagógicas Complementares – EJA 2º fase

Turno : Noturno Turma : Ù Ano : 2020 Prof. Cleonice Gomes

Disciplina : Português – data: 13/11/20 – Horário de 6ª feira

Fonte: google

Gramática.

Atividade de português

1) Escreva o feminino das palavras abaixo:

a) Médico: _____

b) Cantor: _____

c) Português: _____

d) Comilão: _____

e) Sacerdote: _____

f) Escritor: _____

g) Aluno: _____

h) Vereador: _____

2) Escreva o diminutivo das palavras abaixo:

a) Mesa: _____

b) Cadeira: _____

c) Cama: _____

d) Carlos: _____

e) Caneta: _____

f) Livro: _____

g) Pedra: _____

h) Bola: _____

3) Escreva o aumentativo das palavras abaixo:

a) Cachorro: _____

b) Copo: _____

c) Carro: _____

d) Sapo: _____

e) Lobo: _____

f) Gato: _____

4) Passe as frases abaixo para o singular:

a) As casas são amarelas.

R: _____

b) As meninas são bonitas.

R: _____

www.acessaber.com.br

Escola Municipal Pro° João Baptista – Ladário/ MS

Plano de aulas:

Atividades Pedagógicas Complementares

Professora : Cleonice Gomes Andrade.

EJA – 2ª fase - Turno : Noturno Turma : Ù Ano : 2020

Disciplina : Matemática

Quantidade de aula : 05 semanal - total : 10

Data: 04,04,05,05,6,11,11,12,12,13 /11/20

Sábado letivo: -

Competências e Habilidades: desenvolver a linguagem o raciocínio a coordenação motora e o conhecimento a fim de promover a aprendizagem do aluno de acordo com seu nível escolar.

Conteúdos : – Números, as quatro operações, tabuada e problemas.

Metodologia : Pesquisa em atividades anteriores ,pesquisa em internet.

Recursos : folha xerocada, internet , livros....

Avaliação : visual e contínua da aprendizagem.

Escola Municipal Pro° João Baptista – Ladário MS

Atividades Pedagógicas Complementares – EJA 2º fase

Turno : Noturno Turma : Ù Ano : 2020 Prof. Cleonice Gomes

Disciplina : Matemática – data: 04,04/11/20 – Horário de 4ª feira

Fonte: google

Problemas matemáticos

Resolva os problemas, apresentando operações e resposta no caderno.

1. Luciana nasceu em 1964 e tem um irmão 9 anos mais velho. Em que ano nasceu o irmão de Luciana?

2. Quando Bete nasceu, seu pai tinha 33 anos. Que idade Bete terá quando seu pai tiver 69 anos?

3. A soma de dois números é igual a 5.129. Se um número é 2.375, qual é o outro?

4. Papai nasceu em 1970. Qual a idade dele no ano atual?

5. Mamãe nasceu em 1975. Sabendo que Papai é 12 anos mais velho que ela, em que ano Papai nasceu?

6. A diferença de idade entre Papai e vovô é de 26 anos. Sabendo que Papai nasceu em 1966, em que ano vovô nasceu?

7. A diferença de idade entre mim e meu irmão mais novo é de 7 anos. Sabendo que meu irmão nasceu em 2000, responda:

a) Em que ano eu nasci?

b) Quantos anos eu tenho atualmente?

Escola Municipal Pro° João Baptista – Ladário MS

Atividades Pedagógicas Complementares – EJA 2º fase

Turno : Noturno Turma : Ù Ano : 2020 Prof. Cleonice Gomes

Disciplina : Matemática – data: 05.05/11/20 – Horário de 5ª feira

Fonte: google

Problemas:

1 - Uma papelaria, em janeiro, tendo em vista o início das aulas, comprou uma remessa grande de cadernos. Ao receber a encomenda, a papelaria recebeu 2 caixas de 1000 cadernos, 3 caixas de 100 cadernos, 2 pacotes de 10 cadernos. Quantos cadernos a papelaria comprou?

a) 2320 cadernos
b) 2689 cadernos
c) 2950 cadernos
d) 3100 cadernos

2 - A biblioteca de uma escola tem 1 milhar de livros didáticos, 4 centenas de livros de literatura, 2 dezenas de livros de arte e 4 dicionários. Quantos livros há na biblioteca da escola?

a) 1242 livros
b) 1244 livros
c) 1404 livros
d) 1424 livros

3 - Numa viagem de 650 km, Donizete e sua família percorreram 256 km e fizeram uma parada para o almoço. Quantos quilômetros eles ainda têm que percorrer para terminar a viagem?

a) 390 km
b) 394 km
c) 650 km
d) 906 km

4 - Em uma cesta, há 21 laranjas e na outra há 13 laranjas. Quantas laranjas devem ser passadas de uma cesta à outra para que as duas fiquem com a mesma quantidade de laranjas?

a)2 b)3 c)4 d)5

BLOG CLICK EDUCATIVO

Escola Municipal Pro° João Baptista – Ladário MS

Atividades Pedagógicas Complementares – EJA 2º fase

Turno : Noturno Turma : Ù Ano : 2020 Prof. Cleonice Gomes

Disciplina : Matemática – data: 06/11/20 – Horário de 6ª feira

Fonte: google

7 - Um pacote de papel higiênico contém 8 rolos. Quantos rolos dona Matilde levará se comprar 6 pacotes?
( ) A -18 rolos
( ) B -32 rolos
( ) C -24 rolos
( ) D -48 rólos

8 - Se uma caixa de sabão em pó custa R$ 6, quanto custarão 8 caixas?
( ) A -R$ 24,00
( ) B -R$ 48,00
( ) C -R$ 42,00
( ) D -R$ 54,00

9 - Em um táxi, cabem no máximo 4 pessoas, além do motorista. Quantos passageiros, no máximo, 6 táxis poderão transportar ao mesmo tempo?
( ) A -10
( ) B -24
( ) C -16
( ) D -30

10 - Uma caixa de bombons contém 10 unidades. Se João comprar 11 caixas, quantos bombons estará comprando?
( ) A - 101
( ) B - 110
( ) C -10
( ) D -11

Escola Municipal Pro° João Baptista – Ladário MS

Atividades Pedagógicas Complementares – EJA 2º fase

Turno : Noturno Turma : Ù Ano : 2020 Prof. Cleonice Gomes

Disciplina : Matemática – data: 11,11/11/20 – Horário de 4ª feira

Fonte: google

Utilize a operação inversa para calcular o valor de cada quadrinho partindo das informações sobre algumas cidades.

A distância entre a cidade de Conde e Salvador em linha reta é de 151 km.

☐ + 39 = 151

Resposta _____

Pela Br-101 a distância aumenta de 151 pra 203 km.

☐ - 59 = 203

Resposta _____

A cidade de Arací conta com 22.000 habitantes.

☐ + 13.000 = 22.000

Resposta _____

No dia 10 de agosto 1935 a cidade de Alvorada foi emancipada.

☐ - 1732 = 1935

Resposta _____

Escola Municipal Pro° João Baptista – Ladário MS

Atividades Pedagógicas Complementares – EJA 2º fase

Turno : Noturno Turma : Ù Ano : 2020 Prof. Cleonice Gomes

Disciplina : Matemática – data: 12,12/11/20 – Horário de 5ª feira

Fonte: google

Problemas:

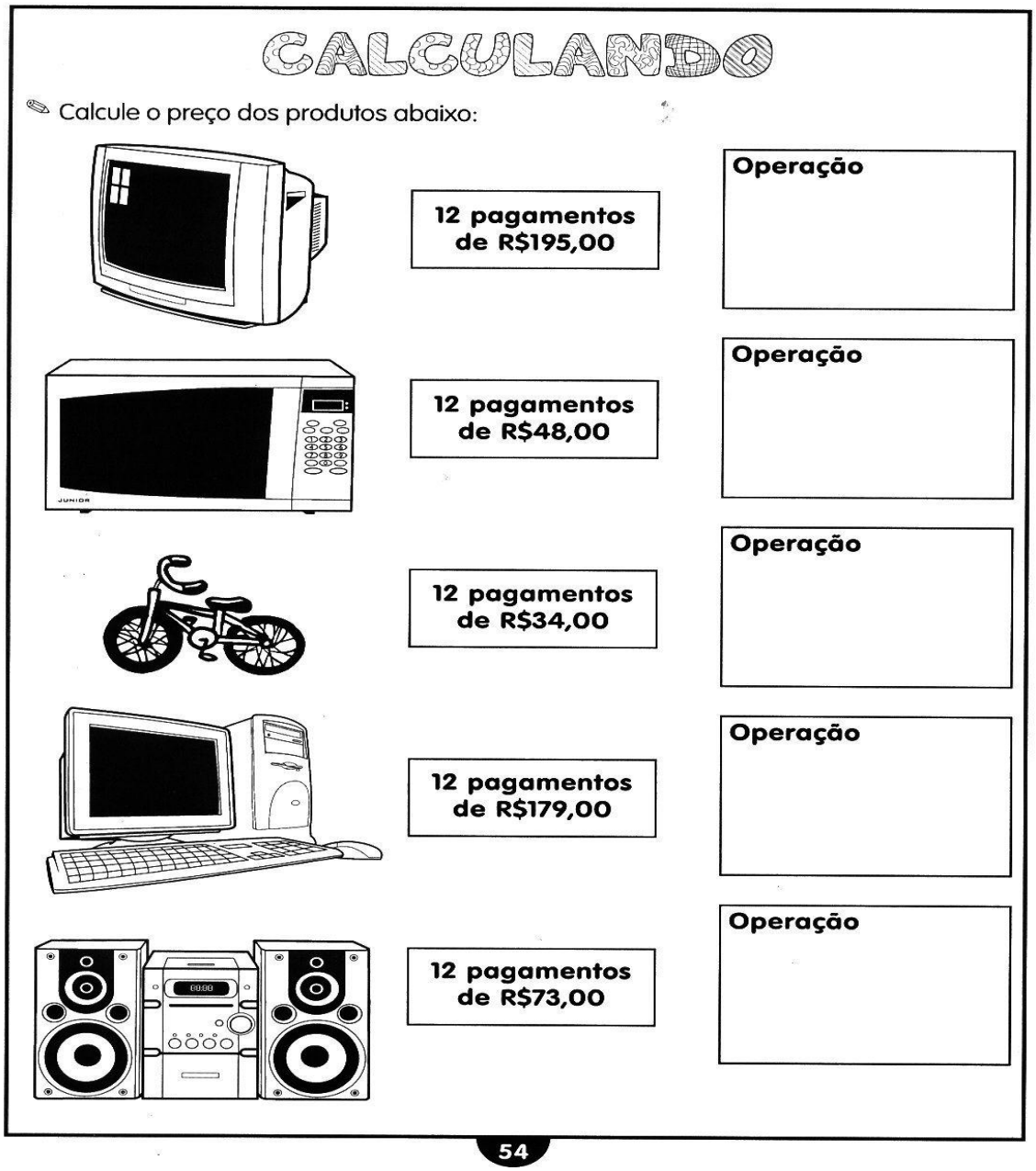

Escola Municipal Pro° João Baptista – Ladário MS

Atividades Pedagógicas Complementares – EJA 2º fase

Turno : Noturno Turma : Ù Ano : 2020 Prof. Cleonice Gomes

Disciplina : Matemática – data:13/11/20 – Horário de 6ª feira

Fonte: google

1-UMA CAIXA TINHA 273 PREGOS. COLOQUEI MAIS 358. QUANTOS PREGOS HÁ NA CAIXA AGORA?
2-EM UMA ESTANTE HAVIA 367 LIVROS. FORAM COLOCADOS MAIS 185 LIVROS. QUANTOS LIVROS FICARAM NA ESTANTE?
3-VICENTE GANHOU 48 BALAS DE SEU PADRINHO E 12 BALAS DE SUA MADRINHA. QUANTAS BALAS GANHOU
4-UMA QUITANDA RECEBEU 25 CAIXAS COM 8 PÊSSEGOS EM CADA UMA. QUANTOS PÊSSEGOS RECEBEU?
5-JOSÉ TINHA UMA DEZENA E MEIA DE BOLINHAS DE GUDE. DEU 6 A SEU IRMÃO. COM QUANTAS JOSÉ FICOU?
6-NUM CINEMA HÁ 6230 POLTRONAS DISTRIBUÍDAS EM 7 FILEIRAS IGUAIS. QUANTOS POLTRONAS HÁ EM CADA FILEIRA?
7-EUNICE COLOU 105 FIGURINHAS NO SEU ÁLBUM E AINDA FALTAM 274 FIGURINHAS PARA ACABAR DE ENCHÊ-LO. QUANTAS FIGURINHAS TEM O ÁLBUM?

Escola Municipal Pro° João Baptista – Ladário/ MS

Plano de aulas:

Atividades Pedagógicas Complementares

Professora: Cleonice Gomes Andrade.

EJA – 2ª fase - Turno : Noturno Turma : Ù Ano : 2020

Disciplina : geografia.

Quantidade de aula : 01 semanal - total : 02

Data: 06,13 /11/20

Sábados letivos: -

Competências e Habilidades: desenvolver a linguagem o raciocínio a coordenação motora e o conhecimento a fim de promover a aprendizagem do aluno de acordo com seu nível escolar.

Conteúdos : Regiões do Brasil, Pecuária .

Metodologia : Pesquisa em atividades anteriores, pesquisa em internet.

Recursos : folha xerocada, internet , livros....

Avaliação : visual e contínua da aprendizagem.

Escola Municipal Pro° João Baptista – Ladário MS

Atividades Pedagógicas Complementares – EJA 2º fase

Turno : Noturno Turma : Ù Ano : 2020 Prof. Cleonice Gomes

Disciplina : Geografia – data: 06/11/20 – Horário de 6ª feira

Fonte: google

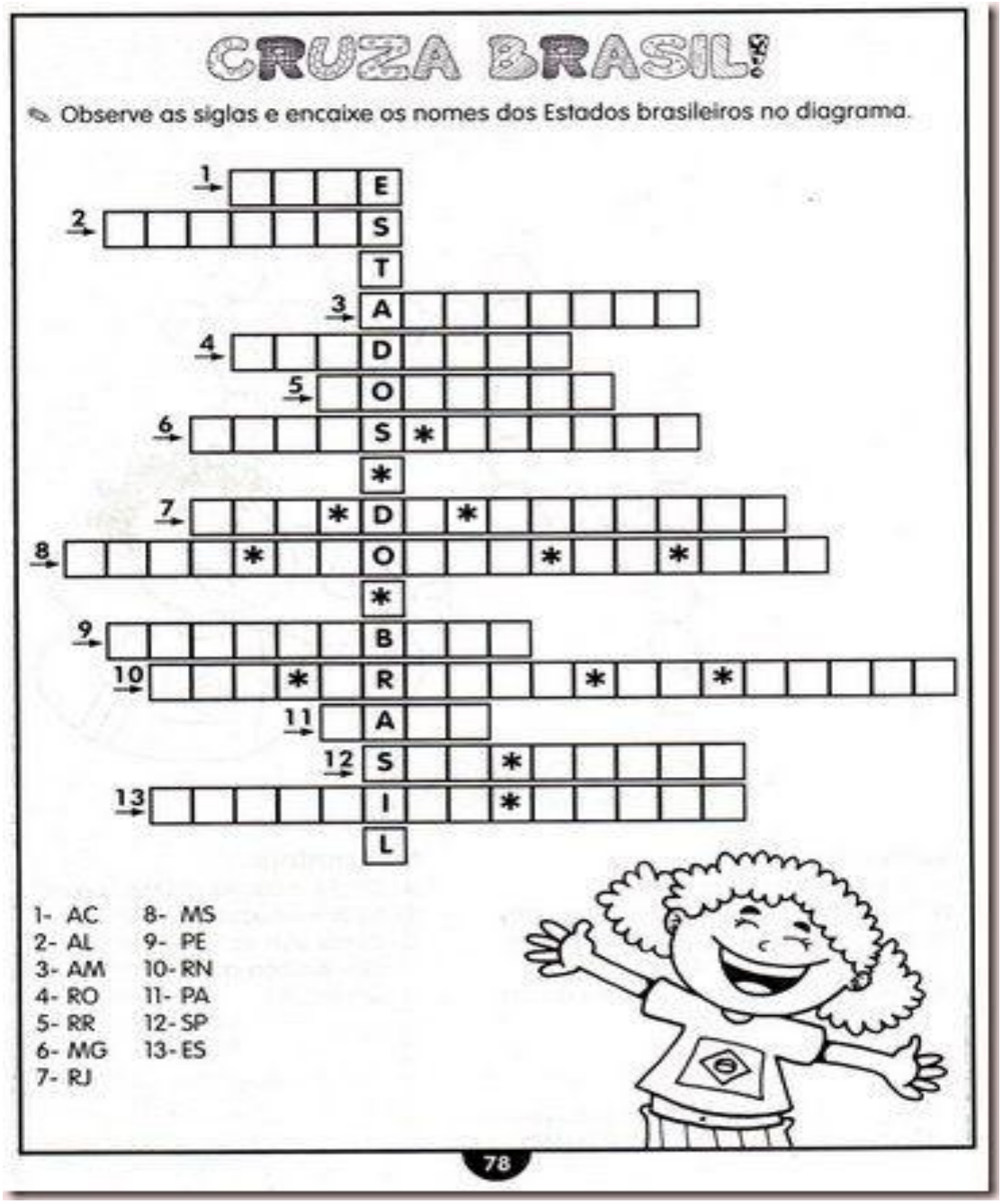

Escola Municipal Pro° João Baptista – Ladário MS

Atividades Pedagógicas Complementares – EJA 2º fase

Turno : Noturno Turma : Ù Ano : 2020 Prof. Cleonice Gomes

Disciplina : Geografia – data: 13/11/20 – Horário de 6ª feira

Fonte: google

PECUÁRIA

- O rebanho bovino é de cerca de 51 milhões de cabeças, concentrando-se principalmente no Pantanal, em Goiás e no Mato Grosso do Sul, que é o estado da região Centro-Oeste com o maior número de cabeças. Em segundo lugar encontra-se a criação de suínos, com maior destaque em Goiás. A produção de leite ocupa posição destacada na economia da região Centro-Oeste.



Escola Municipal Pro° João Baptista – Ladário/ MS

Plano de aulas:

Atividades Pedagógicas Complementares

Professora : Cleonice Gomes Andrade.

EJA – 2ª fase - Turno : Noturno Turma : Ù Ano : 2020

Disciplina : História.

Quantidade de aula : 01 semanal - total : 01

Data: 09 /11/20

Sábados letivos: -

Competências e Habilidades: desenvolver a linguagem o raciocínio a coordenação motora e o conhecimento a fim de promover a aprendizagem do aluno de acordo com seu nível escolar.

Conteúdos : Migração, Imigração.

Metodologia : Pesquisa em atividades anteriores, pesquisa em internet.

Recursos : folha xerocada, internet , livros....

Avaliação : visual e contínua da aprendizagem.

Escola Municipal Pro° João Baptista – Ladário MS

Atividades Pedagógicas Complementares – EJA 2º fase

Turno : Noturno Turma : Ù Ano : 2020 Prof. Cleonice Gomes

Disciplina : História – data: 09/11/20 – Horário de 2ª feira

Fonte: google



História

► O Segundo Reinado (1840-1889)

* Em junho de **1840**, **D. Pedro** foi coroado **Imperador do Brasil**, com o título de **D. Pedro II**.
* D. Pedro II governou o Brasil por quase cinqüenta anos.
* Luís Alves de Lima e Silva, o futuro Duque de Caxias ajudou na pacificação.
* O governo imperial sufocou a Revolução Praieira, em Pernambuco, de 1848 a 1850. Os revoltosos queriam o controle do comércio pelos brasileiros, o fim da escravidão e a proclamação da República.
* O conflito mais longo foi a Guerra do Paraguai, que durou de 1865 até 1870. Envolveu, de um lado, o Brasil, a Argentina e o Uruguai, e, de outro lado, o Paraguai. O Paraguai, além de derrotado, foi arrasado.



Numere os acontecimentos de acordo com as datas.

(1) 1840 (2) 1848 a 1850 (3) 1865 a 1870

( ) O governo imperial sufocou a Revolução Praieira, em Pernambuco.

( ) D. Pedro II enfrentou conflitos com alguns países vizinhos. O conflito mais longo foi a Guerra do Paraguai.

( ) D. Pedro foi coroado **Imperador do Brasil**.

* **Qual a ordem numérica que você encontrou?**

a) (3, 2, 1) **b)** (1, 3, 2) **c)** (2, 3, 1)

Escola Municipal Pro° João Baptista – Ladário/ MS

Plano de aulas:

Atividades Pedagógicas Complementares

Professora : Cleonice Gomes Andrade.

EJA – 2ª fase - Turno : Noturno Turma : Ù Ano : 2020

Disciplina : Ciências.

Quantidade de aula : 01 semanal - total : 02

Data: 04,11 /11/20

Sábados letivos: -

Competências e Habilidades: desenvolver a linguagem o raciocínio a coordenação motora e o conhecimento a fim de promover a aprendizagem do aluno de acordo com seu nível escolar.

Conteúdos : Coração, Sistema circulatório sanguíneo .

Metodologia : Pesquisa em atividades anteriores, pesquisa em internet.

Recursos : folha xerocada, internet , livros....

Avaliação : visual e contínua da aprendizagem.

Escola Municipal Pro° João Baptista – Ladário MS

Atividades Pedagógicas Complementares – EJA 2º fase

Turno : Noturno Turma : Ù Ano : 2020 Prof. Cleonice Gomes

Disciplina : Ciências – data:04/11/20 – Horário de 4ª feira

Fonte: google

AULA EXPOSITIVA:

Um músculo especial

O coração é o órgão central do sistema circulatório. Localiza-se na cavidade toráxica, entre os dois pulmões, em cima do diafragma.

Ele funciona como uma poderosa bomba de distribuição de sangue para o corpo.

Nosso coração nunca descansa: começa a bater antes de nascermos e irá bater sem parar enquanto estivermos vivos. Ele é um músculo especial, chamado estriado cardíaco, e cresce junto com a gente.

O coração possui quatro cavidades: duas superiores, as aurículas (átrios), e duas inferiores, os ventrículos.

As aurículas e os ventrículos não se comunicam entre si, mas cada aurícula comunica-se com o ventrículo do mesmo lado.

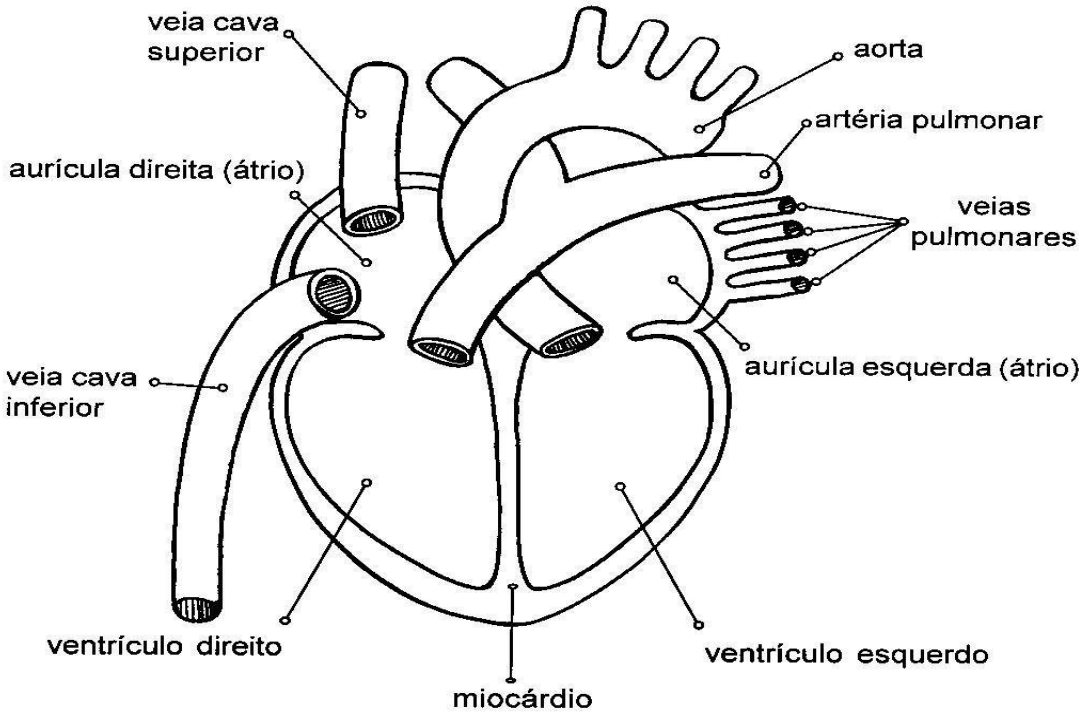

Escola Municipal Pro° João Baptista – Ladário MS

Atividades Pedagógicas Complementares – EJA 2º fase

Turno : Noturno Turma : Ù Ano : 2020 Prof. Cleonice Gomes

Disciplina : Ciências – data: 11/11/20 – Horário de 4ª feira

Fonte: google

Sistema Circulatório Sanguíneo

O **sistema circulatório sanguíneo** ou sistema cardiovascular, é responsável por bombear e transportar o sangue para todo o corpo. Ele é composto pelo coração, pelos vasos sanguíneos e pelo sangue. O sangue transporta, para todas as células do corpo, as substâncias nutritivas absorvidas durante a digestão e o gás oxigênio absorvido pela respiração.

O **sangue** é formado por duas partes: o plasma e os glóbulos sanguíneos.

Componentes do sangue

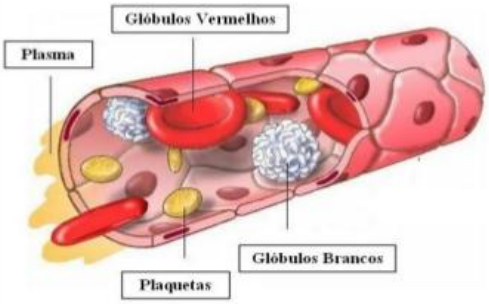

O **plasma** é uma mistura de água, sais minerais, vitaminas, proteínas, açúcares, gorduras e outras substâncias.

Os **glóbulos sanguíneos** dividem-se em três grupos: glóbulos vermelhos, os glóbulos brancos e as plaquetas.

Os **glóbulos vermelhos** ou **hemáceas**, são células sanguíneas responsáveis pelo transporte de gás oxigênio e gás carbônico pora o todo o corpo.

Os **glóbulos brancos** ou **leucócitos**, também são células sanguíneas que protegem nosso corpo contra vírus, bactérias e outros corpos estranhos.

As **plaquetas**, são pequenos fragmentos celulares que auxiliam na coagulação do sangue, evitando o sangramento.

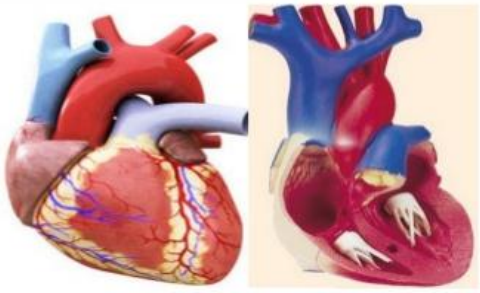

O **coração** é o órgão que bombeia sangue para todo o corpo. Localiza-se entre entre os pulmões e é protegido pela caixa torácica, formada pelas costelas. Em uma pessoa adulta, ele tem o tamanho aproximado de um punho fechado e pesa cerca de 400 gramas. O coração é um órgão oco, dividido em quatro cavidades, por onde o sangue passa. O lado direito do coração não se comunica com o lado esquerdo.

Os **vasos sanguíneos** são tubos pelos quais o sangue percorre todas as partes do corpo. Podem ser de três tipos diferentes: artérias, veias e capilares.



Função dos vasos sanguíneos na circulação do sangue pelo corpo:

As **artérias** transportam o sangue do coração para as outras partes do corpo. O sangue transportado pelas artérias, é chamado sangue arterial. Ele é rico em gás oxigênio.

As **veias** trazem o sangue do corpo de volta ao coração. O sangue transportado pelas veias, é chamado sangue venoso. Ele é pobre em gás oxigênio.

Os **capilares** são vasos sanguíneos muito finos, visíveis apenas com ajuda de um microscópio. São eles que permitem a troca de substâncias entre o sangue e as células.