ESCOLA MUNICIPAL RURAL MARIA ANA RUSO.
PROFESSORA: JUDITH TURMA: PRÉ II

NOME: _____
CAMPOS DE EXPERIÊNCIA: ESPAÇOS, TEMPOS, QUANTIDADES. RELAÇÕES E TRANSFORMAÇÕES.
PERÍODO: 16/09 A 30/09 TURNO: VESPERTINO
https://br.pinterest.com MS.EI03ET07. s. 07

Observa o número escrito antes da série de elementos. Pinta o número de elementos correspondente em cada série.

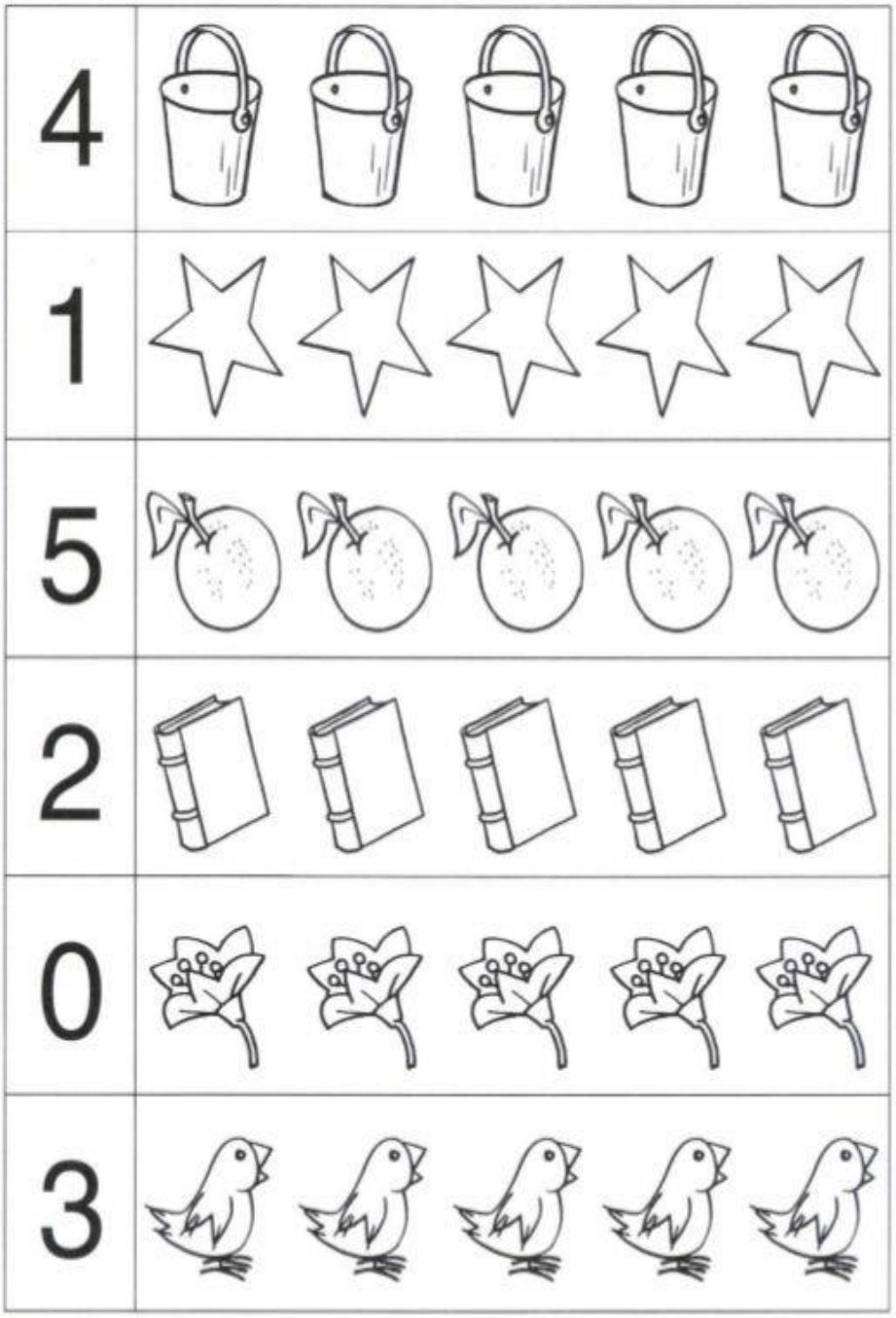

ESCOLA MUNICIPAL RURAL MARIA ANA RUSO.
PROFESSORA: JUDITH BISPO DOS SANTOS TURMA: PRE II
ALUNO: _____
PERÍODO: 16/9 A 30/9 TURNO: VESPERTINO
CAMPOS DE EXPERIÊNCIAS: ESPAÇOS, TEMPOS, QUANTIDADES, RELAÇÕES E TRANSFORMAÇÃO.
http://dessiral.blogspot.com MS.EI03ET05. s. 05 Classificar objetos e figuras de acordo com suas semelhanças e diferenças.

MATEMÁTICA

OBSERVE OS CALÇADOS DO RETÂNGULO ABAIXO E FAÇA O QUE SE PEDE.



A) QUANTOS CALÇADOS AO TODO? ☐

PARA FORMAR PARES É PRECISO JUNTAR DE DOIS EM DOIS.

B) FAÇA UMA LINHA LIGANDO OS CALÇADOS IGUAIS PARA FORMAR PARES.

C) QUANTOS PARES FORAM FORMADOS? ☐

D) QUANTOS CALÇADOS FICARAM SEM PAR? ☐

www.amorensina.com.br

ESCOLA MUNICIPAL RURAL MARIA ANA RUSO
PROFESSORA: JUDITH BISPO DOS SANTOS TURMA: PRE II
ALUNO: _____
PERÍODO: 16/9 A 30/9 TURNO:VESPERTINO
CAMPOS DE EXPERIÊNCIAS: ESPAÇOS, TEMPOS, QUANTIDADES, RELAÇÕES E TRANSFORMAÇÃO.
http://dessiral.blogspot.com MS.EI03ET05. s. 05 Classificar objetos e figuras de acordo com suas semelhanças e diferenças.

NUMERAIS PARES



QUANDO SEPARAMOS OS ELEMENTOS DE UM CONJUNTO DE 2 EM 2 E NÃO SOBRA NENHUM ELEMENTO, DIZEMOS QUE ESSE CONJUNTO É PAR. EM NOSSO CORPO TEMOS ALGUNS PARES. VEJA:



UM PAR DE OLHOS



UM PAR DE ORELHAS



UM PAR DE PÉS

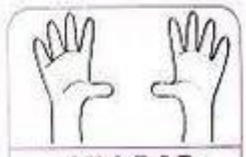

UM PAR DE MÃOS

É POR ISSO QUE TAMBÉM COMPRAMOS ALGUMAS COISAS AOS PARES: SAPATOS, LUVAS, BRINCOS, ETC.



- LIGUE OS CALÇADOS ORGANIZANDO-OS DE PAR EM PAR E, DEPOIS, RESPONDA:



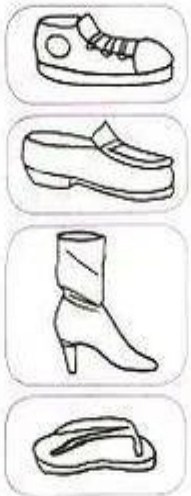

A) QUANTOS PARES DE CALÇADOS VOCÊ FORMOU? ◯

B) CADA PAR FOI FORMADO POR ◯ CALÇADOS IGUAIS.

C) SOBROU ALGUM CALÇADO SEM LIGAR?

◯ SIM ◯ NÃO

ESCOLA MUNICIPAL RURAL MARIA ANA RUSO.
PROFESSORA: JUDITH TURMA: PRÉ II
EDUCAÇÃO INFANTIL TURNO: VESPERTINO
ALUNO (A): _____
CAMPOS DE EXPERIÊNCIA: ESPAÇOS, TEMPOS, QUANTIDADES, RELAÇÕES E TRANSFORMAÇÕES.
https://br.pinterest.com MS.EI03ET03. s. 03 Identificar e selecionar fontes de informações, para responder a questões sobre a natureza, seus fenômenos, sua conservação.

PRIMAVERA

NA PRIMAVERA POSSO VER
ABELHAS, PASSARINHOS E BELAS BORBOLETAS
FLORES DE TODAS AS CORES
AZUL,AMARELAS E VIOLETAS Dani Cayres



QUANTAS FLORES ESTÃO NO JARDIM DA MAGALI?

QUANTAS ABELHAS APARECEM?

QUANTOS PASSARINHOS ESTÃO VOANDO?

CONTE COMIGO QUANTOS SÃO JUNTOS:

ESCOLA MUNICIPAL RURAL MARIA ANA RUSO.
PROFESSORA: JUDITH TURMA: PRÉ II TURNO: VESPERTINO
EU SOU: _____
CAMPOS DE EXPERIÊNCIA: O EU, O OUTRO E O NÓS.
PERÍODO: 16/9 A 30/9
https://www.aartedeensinareaprender.com MS. EI03TS00. n. 07 Desenvolver e avançar em seus percursos expressivos e criativos por meio do desenho, pintura, escultura, literatura, cinema, teatro e dança.

VIVA A PRIMAVERA!

VAMOS COLORIR?



ESCOLA MUNICIPAL RURAL MARIA ANA RUSO.
PROFESSORA: JUDITH BISPO DOS SANTOS TURMA: PRÉ II
NOME_____
PERÍODO: 16/09 A 30/09 TURNO: VESPERTINO
CAMPOS DE EXPERIÊNCIA: FALA, ESCUTA, PENSAMENTO E IMAGINAÇÃO.
https://br.pinterest.comMS. EI02TS00. n. 08 Produzir e criar diferentes imagens por meio do desenho, pintura, colagem e fotografia, significando suas ideias, pensamentos e percepções.
ATIVIDADE: PINTE CADA BALÃO COM A COR INDICADA.

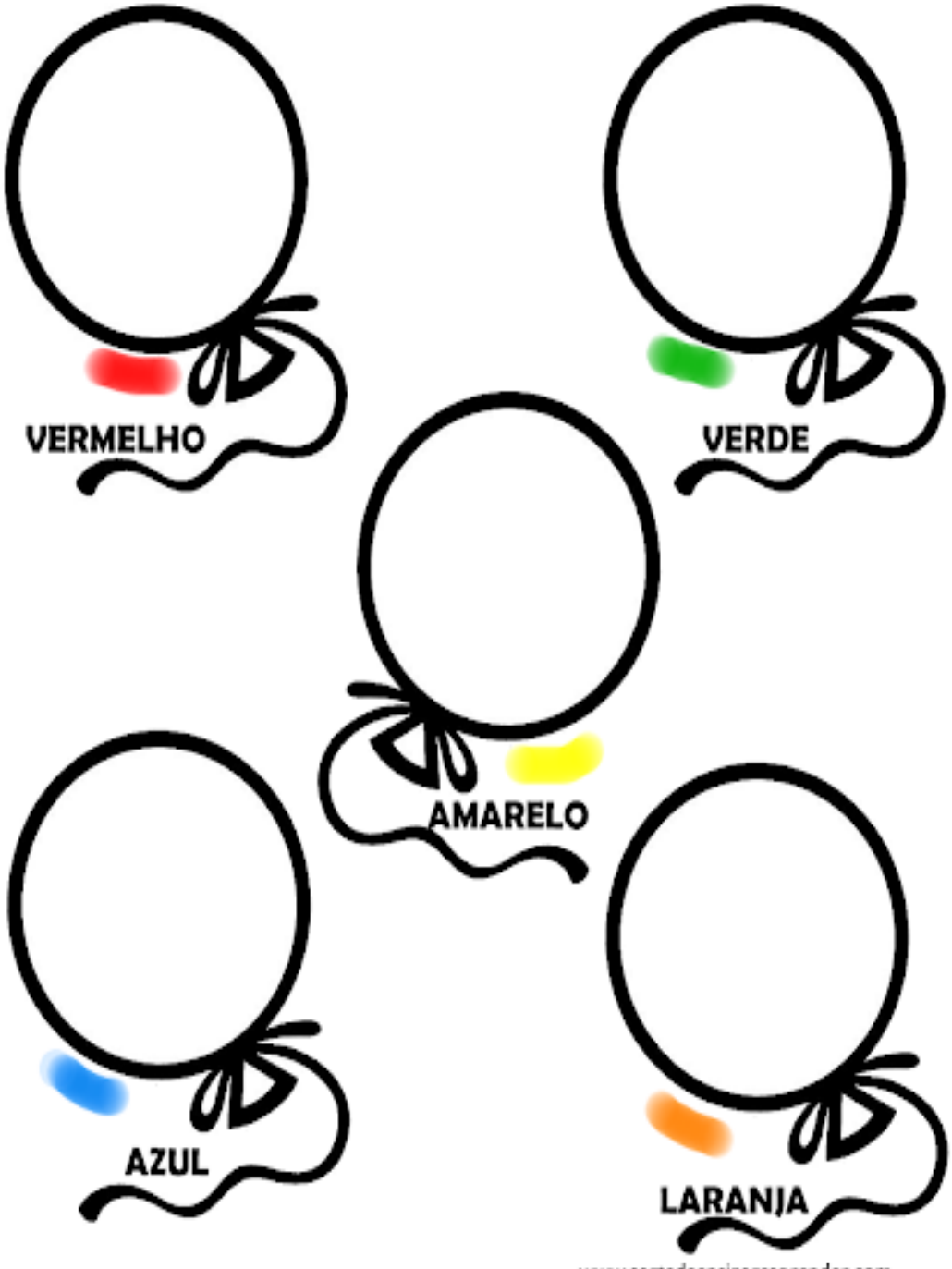

ESCOLA MUNICIPAL RURAL MARIA ANA RUSO
PROFESSORA: JUDITH TURMA: PRÉ II
EDUCAÇÃO INFANTIL TURNO: VESPERTINO
ALUNO (A): _____
CAMPOS DE EXPERIÊNCIA: FALA, ESCRITA, PENSAMENTO E IMAGINAÇÃO.
PERÍODO 16/09 A 30/09
https://br.pinterest.com MS.EI03ET05. s. 05

PRIMAVERA

PINTE CONFORME SE PEDE:

VERDE: A BORBOLETA DE BAIXO.

AMARELO: A BORBOLETA DE CIMA.

E AZUL A BORBOLETA DO MEIO.



NOME:_____

PROFESSORA:_____

PRIMAVERA

PINTE CONFORME SE PEDE:

VERDE: A BORBOLETA DE BAIXO.

AMARELO: A BORBOLETA DE CIMA.

E AZUL A BORBOLETA DO MEIO.



ESCOLA MUNICIPAL RURAL MARIA ANA RUSO.
PROFESSORA: JUDITH TURMA: PRÉ II

NOME: _____

CAMPOS DE EXPERIÊNCIA: O EU, O OUTRO E O NÓS.

PERÍODO: 16/09 A 30/09 TURNO: VESPERTINO

https://br.pinterest.com MSEI02TS00.N.08

ATIVIDADE: PINTE O CIRCULO DO SINAL DE TRÂNSITO NA COR QUE PEDE CADA



"Quem obedece aos sinais de trânsito evita acidentes."

ESCOLA MUNICIPAL RURAL MARI ANA RUSO.
PROFESSORA: JUDITH BISPO DOS SANTOS TURMA: PRE II
ALUNO: _____
PERÍODO: 16/9 A 30/9 TURNO: VESPERTINO
CAMPOS DE EXPERIÊNCIAS: ESPAÇOS, TEMPOS, QUANTIDADES, RELAÇÕES E TRANSFORMAÇÃO.
http://dessiral.blogspot.com MS.EI03ET07. s. 07 Relacionar números às suas respectivas quantidades e identificar o antes, o depois e o entre em uma sequência.

CONTANDO COM A IARA

