ESCOLA MUNICIPAL PROF. JOÃO BAPTISTA

ENSINO FUNDAMENTAL
5º ANO C

Regente – Elias Molina de Souza 5º ano C

COMPONENTES CURRICULARES:

Língua Portuguesa

Matemática

História

Geografia

Data para devolução: _____/___/2020.

ORIENTAÇÕES IMPORTANTES:

ESSE PERÍODO DE

16-07- 2020 A 31-07-2020

OS ESTUDANTES REALIZARÃO TRABALHOS AVALIATIVOS REFERENTE AOS CONTEÚDOS TRABALHADOS NO SEGUNDO BIMESTRE. SERÃO REALIZADAS REVISÕES.

PARA TAIS ATIVIDADES SERÃO CONTABILIZADAS AS SEGUINTES CARGAS HORÁRIAS:

• LINGUA PORTUGUESA – 12 HORAS

• MATEMÁTICA – 12 HORAS

• HISTÓRIA- 04 HORAS

• GEOGRAFIA –06 HORAS

ESSA CARGA HORÁRIA FAREMOS ALGUMAS REVISÕES.

ATENCIOSAMENTE,

Prof. Elias Souza

As habilidades constantes no currículo de referência do MS trabalhadas no período de 15 de junho a 31 de julho são:	
Geografia	MS.EF05GE01s. 02 - MS.EF05GE02.s.03 – MS. EF05GE04.s.05- MS.EF05GE08.s.08
História	MS.EF05HI01s. 01 – EF05HI03.s.3 – MSEF05HI04.s. 04 – MS.EF05HI05.s.05
Matemática	MS.EF.05MA01.s.01 - MS.EF05MA05.s.05 – MS.EF05MA06.s.06
Língua Portuguesa	MS.EF05LP01. s.01 - MS.EF05LP02. s.02 - MS.EF05LP03. s.03 MS.EF05LP08. s.08 - MS.EF05LP09. s.09 - MS.EF05LP10. s.10 MS.EF05LP12. s.12 - MS.EF05LP15. s.15 - MS.EF05LP20. s.20 MS.EF05LP21. s.21 - MS.EF05LP24. s.24 - MS.EF05LP31. s.31

Escola Municipal Prof. João Baptista		
Professor: Elias Molina de Souza 5º ANO C	vespertino	Nota:
Aluno:		

1. Leia o texto e observe as palavras derivadas.

Wikipedia/Wikimedia Commons



Gambazinho.

[...] A face é cinza, com um anel marrom avermelhado ao redor dos olhos e uma listra marrom que se origina próxima ao focinho, segue por entre os olhos e desfaz-se no topo da cabeça, já com um tom mais alaranjado. Seu pelo é fino, longo e macio, de aspecto lanoso. [...]

Nelio R. Reis et al. **Mamíferos do Brasil**. Londrina: Nelio R. dos Reis, 2006. p. 28.

Uma das palavras derivadas do texto foi formada a partir de uma palavra primitiva que se encontra abaixo. Qual é essa palavra primitiva?

a) Laranja.
b) Marrom.
c) Focinho.
d) Macio.

2. Leia o texto.

Tífon (Mitologia Grega)

É um titã conhecido como o pai dos terremotos e dos ventos ferozes. Uma criatura tão poderosa que até os deuses tinham medo dele. Segundo a lenda narrada por Hesíodo, Tífon foi criado para acabar com Zeus e o Olimpo – venceu a primeira luta contra seu oponente, mas foi derrotado na segunda vez em que se enfrentaram.

[...]

Daniel Mologni; Lukas Marques. **Você sabia?**: + de 400 coisas que você deveria saber.
São Paulo: Planeta, 2017.

Uma característica da linguagem usada nesse texto é o emprego:

a) de termos técnicos.
b) de linguagem mais formal.
c) de rimas.
d) de gírias.

3. Leia as palavras.

MOLEZA – DESENTERRAR – DENTISTA – INCOLOR
BELEZA – FELIZMENTE – DESEJO – REFAZER

Quais palavras são formadas pelo acréscimo de prefixo?

a) DESENTERRAR – DENTISTA – DESEJO
b) FELIZMENTE – REFAZER – INCOLOR
c) INCOLOR – REFAZER – DESENTERRAR
d) MOLEZA – BELEZA – FELIZMENTE

4. Leia a frase substituindo cada figura pelo nome correspondente.

Fotos: pixabay/<pixabay.com>

"No Natal, comi  com . De sobremesa,  em calda."

A acentuação correta do nome de cada figura na frase é:

a) peru – abacaxí – pessego.
b) peru – abacaxi – pêssego.
c) perú – abacaxí – pêssego.
d) perú – abacaxi – pessego.

5. Leia o trecho de texto a seguir.

> Segundo o biólogo do Museu de Ciências Naturais da Fundação Zoobotânica Glayson Benke, os pombos domésticos, que estão nas ruas e nas praças, representam riscos reais para a saúde dos estudantes. Uma série de doenças é transmitida, principalmente a partir das fezes, de restos de ninho e de penas em decomposição. [...]
>
> Disponível em: <http://diariogaucho.clicrbs.com.br/rs/dia-a-dia/noticia/2017/06/escola-invadida-por-pombos-esta-com-aulas-suspensas-na-capital-9809645.html>. Acesso em: 29 jan. 2018.

Qual é o assunto principal desse texto?

a) Saúde dos estudantes.
b) Pombos nas ruas e nas praças.
c) Extinção dos pombos da natureza.
d) Doenças transmitidas por pombos.

6. Leia o trecho:

> **Tífon** foi criado para acabar com Zeus e o Olimpo — **venceu a primeira luta** contra seu oponente.

Como ficaria a frase “Tífon venceu a primeira luta” se substituíssemos **Tífon** por **Zeus e o Olimpo**?

a) vencerão a primeira luta.
b) venceram a primeira luta.
c) vencerá a primeira luta.
d) venceu a primeira luta.

7. Leia a sinopse do livro Alice no País das Maravilhas.

> O livro conta a história de uma menina chamada Alice, que seguiu um coelho que estava muito atrasado. Ao seguir o coelho, Alice caiu em um gigantesco buraco, que a transportou para um lugar povoado por diferentes e misteriosas criaturas como o Gato, o Chapeleiro e a Rainha de Copas. Muito tempo depois, Alice descobriu que aquele buraco era o caminho para o País das Maravilhas.
>
> Sinopse escrita pelas autoras.

De acordo com a sinopse, qual era o caminho para o País das Maravilhas?

_____

_____

_____

_____

8. Leia o trecho de texto a seguir.

Alimentos fraudados

> O fornecedor, para obter maior lucro, pode, às vezes, cometer certas fraudes. Por exemplo, colocar água no leite. Quando isso acontece o alimento é fraudado. Se você perceber que um alimento foi fraudado, exija a troca do produto [...].
>
> Disponível em: <//www.procon.al.gov.br/legislacao/cartilhadoconsumidor.pdf>. Acesso em: 26 jan. 2018.

A quem se dirige esse texto? Justifique.

_____

_____

_____

_____

9. Depois de ler o trecho do texto “Alimentos fraudados”, que outra palavra você usaria no lugar de **fraudado**, com o mesmo sentido?

_____

_____

10. Leia este texto.

> Em 1995, nasceram 3,1 milhões de crianças no Brasil. Em 2017, 30 mil delas continuam analfabetas por não terem entrado na escola ou a terem abandonado antes de aprender a ler. Cerca de 2,6 milhões concluíram o ensino fundamental. Apenas 2 milhões terminaram o ensino médio [...].
>
> Disponível em: <www.gazetadopovo.com.br/opiniao/artigos/afogamento-e-fuga-98ilzc6x2iq186e4kgbr2fwp8>. Acesso em: 26 jan. 2018.

O trecho “Em 1995, nasceram 3,1 milhões de crianças no Brasil” é um fato ou uma opinião? Justifique.

_____

_____

_____

_____

11. Leia o texto.

> [...] Brincadeiras ao ar livre, como jogar bola, pular amarelinha e correr, deram lugar aos videogames [...]. Embora de reconhecida utilidade e diversão, especialistas recomendam que pais estimulem os filhos a brincar como antigamente [...].

Conceição Trucom. Disponível em: <www.docelimao.com.br/site/especial-kids/educacao/1061-brincar-e-bom-demais-e-muito-saudavel.html>. Acesso em: 5 jan. 2018.

O que significa: "pais estimulem os filhos a brincar como antigamente"?

Escreva com suas próprias palavras.

12. Leia o trecho de texto a seguir.

> Todos nós adoramos cachorros fofos, coelhos bonitinhos e até ratos simpáticos que vivem brincando de correr nas rodas giratórias de suas gaiolas. A ideia de maltratar um animal – seja ele qual for – é horrível, não acha?

Henrique Kugler. **Animais no laboratório**. Disponível em: <http://chc.cienciahoje.uol.com.br/animais-no-laboratorio/>. Acesso em: 26 jan. 2018.

Escreva um parágrafo dando sua opinião a respeito do tema desse texto.

13. Observe a imagem.

Wikipedia/Wikimedia Commons



Disponível em: <https://pt.wikipedia.org/wiki/Objetivos_de_Desenvolvimento_do_Mil%C3%AAnio#/media/File:Metas.jpg>. Acesso em: 3 jan. 2018.

Qual das oito maneiras de mudar o mundo envolve escola e ensino? Quais elementos do texto permitiram essa resposta?

Escola Municipal Prof. João Baptista	
Professor: Elias Molina de Souza 5º Ano C Vespertino	Nota:
Aluno:	

1. O estádio de futebol de uma cidade tem 15 089 lugares. No dia da partida final de um campeonato, compareceram 9 867 torcedores.

Quantos lugares ficaram vagos?

a) 5 222 lugares.

b) 9 867 lugares.

c) 14 822 lugares.

d) 24 956 lugares.

2. Em janeiro, Cauã vendeu o *videogame* dele para Rafael por R$ 2 100,00. Esse valor foi dividido em prestações iguais que foram pagas nos meses de fevereiro, março, abril, maio, junho e julho.

Qual foi o valor de cada prestação?

a) R$ 300,00

b) R$ 350,00

c) R$ 420,00

d) R$ 575,00

3. Ao arrumar a mala para uma viagem, Luana percebeu que podia levar 3 saias, sendo uma *jeans*, uma preta e uma branca. Além disso, ela podia levar 5 blusas: uma preta, uma amarela, uma azul, uma vermelha e uma verde.

Se Luana levar todas essas saias e blusas para a viagem, então quantas possibilidades de escolha de 1 saia e 1 blusa ela terá?

a) 3

b) 5

c) 8

d) 15

4. O gráfico abaixo representa a distribuição de pessoas, de acordo com a faixa etária e o gênero, que tomaram a vacina contra a febre amarela na campanha de vacinação de uma cidade.

Avits Estúdio Gráfico/Arquivo da editora

Vacinação contra a febre amarela

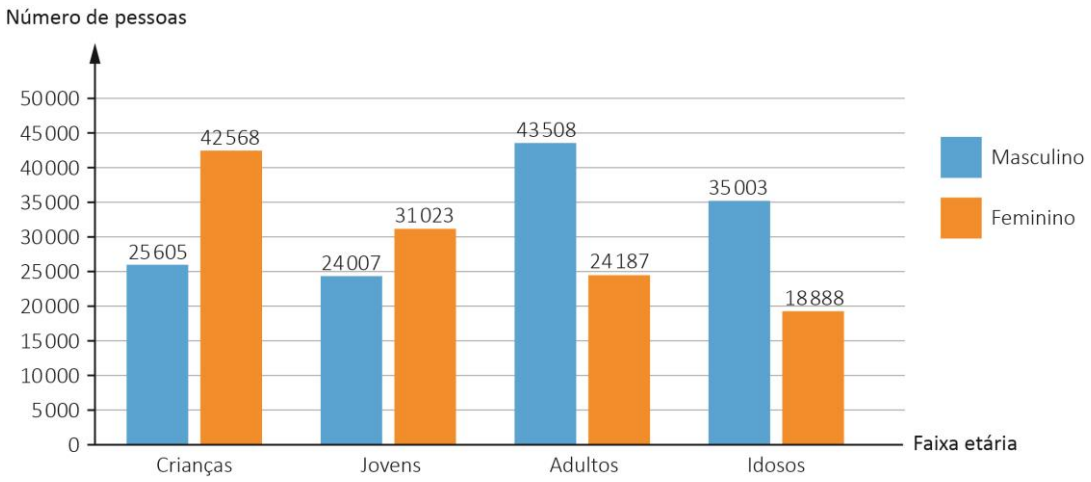

Gráfico elaborado para fins didáticos.

Qual foi a faixa etária mais vacinada nessa campanha de vacinação?

a) Crianças.

b) Jovens.

c) Adultos.

d) Idosos.

https://edocente.com.br/edital/pnld-2019/avaliacoes/?editora=&disciplina=93

5. Bárbara, Luísa e Camila saíram para jantar e pediram uma *pizza* de 8 pedaços iguais que custou R$ 48,00. Camila comeu sozinha metade da quantidade de pedaços da *pizza*, Bárbara comeu 2 pedaços e Luísa comeu o restante. Cada uma pagou o valor proporcional à quantidade de pedaços que comeu.

Quanto Camila pagou?

a) R$ 12,00

b) R$ 16,00

c) R$ 24,00

d) RS 36,00

6 . Para fazer uma receita de doce de leite caseiro, Lurdes precisava de 3 litros de leite. Quando chegou ao mercado, encontrou a seguinte promoção.

Avits Estúdio Gráfico/Arquivo da editora



Como Lurdes deve fazer a compra para conseguir fazer a receita e ter o menor gasto possível?

a) Comprando 3 embalagens de 600 mL.

b) Comprando 3 embalagens de 1 000 mL.

c) Comprando 5 embalagens de 600 mL.

d) Comprando 5 embalagens de 1 000 mL.

7.Camila é dona de uma pousada e decidiu renovar o estoque de lençóis e toalhas. Ela comprou 32 toalhas por R$ 21,00 cada uma e jogos de lençol por R$ 34,00 cada um, gastando R$ 1. 216,00 ao todo.

Quantos jogos de lençol Camila comprou?

_____

8. Secretaria de Transportes de uma cidade fez uma pesquisa para descobrir qual é o tipo de transporte que a população da cidade utiliza com maior frequência para se deslocar. Veja o resultado.

- 739 pessoas utilizam bicicleta.
- 1 197 pessoas utilizam motocicleta.
- 4 234 pessoas utilizam carro.
- 5 054 pessoas utilizam transportes públicos.

Cada pessoa só pôde votar em 1 opção de transporte. Sabendo disso, responda: Quantas pessoas participaram da pesquisa?

_____

9-Para a lição de casa, Leandro deve efetuar as seguintes operações.

10 981	19 234	109 987
– 1 099	+ 423	– 70 151

Escreva por extenso o maior resultado que Leandro vai encontrar.

_____

_____

ATIVIDADES PEDAGÓGICAS COMPLEMENTARES

Geografia e História – 5º ano

2º bimestre Período de 16/07/2020 a 31/07/2020

Escola Municipal Prof. João Baptista	
Professor: Elias Molina de Souza 5º Ano C Vespertino	Nota:
Aluno:	

1. Grupos nômades sempre existiram ao longo da história. A imagem mostra um desses grupos – os Khoi, nativos do sudoeste da África – preparando-se para mudar de lugar.

Reprodução/Museu Paulista da USP. São Paulo, SP.



Khois preparando-se para deixar o acampamento (tradução livre), de Samuel Daniell, 1805.

Os povos nômades:

a) constroem habitações que duram por um longo período de tempo.

b) mudam de território com certa frequência, em busca, por exemplo, de novos recursos, como alimento e terras férteis para plantar.

c) não existem mais hoje em dia.

https://edocente.com.br/edital/pnld-2019/avaliacoes/?editora=&disciplina=93

d) não utilizam recursos tecnológicos.

2. O Estado é responsável pela organização social e política de um espaço e de um povo.

Selecione uma tarefa do Estado que corresponde à afirmação acima.

a) Explorar matéria-prima da natureza, pensando no crescimento econômico de um país, e não na preservação do ambiente.

b) Governar, garantir a ordem, criar as leis, cobrar os impostos e manter a sociedade organizada.

c) Informar a sociedade sobre a democracia, sem permitir que a população participe do governo por meio de assembleias e votos.

d) Omitir-se diante de situações de conflito social, permitindo que os membros da sociedade exponham suas opiniões e atuem como desejem.

3. Ao longo de sua história, o Brasil já recebeu povos de diversas origens e regiões do globo. Primeiro, foram os portugueses e os negros africanos escravizados. Mais tarde, foram os imigrantes vindos de várias partes do mundo, como japoneses, alemães, italianos, libaneses, angolanos, moçambicanos, ganenses, coreanos e bolivianos, entre outros.

Assinale a alternativa correta, que mostra como alguns desses povos chegaram ao Brasil.

a) Muitos povos provenientes do Oriente Médio, como libaneses, foram obrigados a vir ao Brasil e, por isso, dificilmente são encontrados no mercado de trabalho.

b) Durante a colonização, muitos povos negros, provenientes da África, foram obrigados a vir ao Brasil para trabalhar como escravos.

c) Depois da independência do Brasil, em 1822, os portugueses foram obrigados a vir para o Brasil.

d) Italianos foram obrigados a vir ao Brasil para substituírem a mão de obra escrava de negros africanos.

4. Observe as imagens abaixo.

Adenilson Nunes/flickr/Creative Commons 2.0



Festa de Iemanjá.

Wikipedia/Wikimedia Commons



Festival folclórico de Parintins.

As manifestações religiosas e culturais brasileiras apresentadas nas imagens:

a) foram abandonadas pelos seus praticantes.

b) são proibidas e praticadas em locais escondidos.

c) devem ser respeitadas pelas outras culturas e religiões.

d) foram bem-aceitas pelos colonizadores no passado.

5. Em 1990, o Estado brasileiro criou o Estatuto da Criança e do Adolescente (ECA) com o objetivo de estabelecer direitos para crianças e adolescentes.

Em qual das situações abaixo, envolvendo crianças, algum desses direitos não está sendo respeitado?

a) Érica estuda na escola durante o período da manhã e, à tarde, aproveita para brincar em sua casa.

b) Marcel consegue se locomover até a escola para estudar e, depois, voltar para a sua casa.

c) Pedro frequentava a escola, mas precisou abandonar os estudos e trabalhar a fim de ajudar com a renda familiar.

d) Marília morou no orfanato até os 7 anos de idade, quando foi adotada por uma família.

6. Gabriel está entrando na adolescência e os primeiros sinais da puberdade já estão surgindo. Sua voz está mudando e estão aparecendo algumas espinhas na pele do seu rosto.

No dia a dia, Gabriel deve:

a) ser respeitado e valorizado pelos colegas, independentemente das mudanças pelas quais está passando.

b) ficar em casa para se esconder das pessoas que vão criticar sua aparência.

c) perseguir o ideal de beleza imposto pela mídia.

d) ser tratado como inferior por seus colegas.

7. No Brasil, diversas religiões são praticadas. Podemos citar, como exemplo, as religiões cristãs, o espiritismo, o candomblé, a umbanda, o budismo, o judaísmo, o islamismo, entre outras.

O que pode explicar essa grande diversidade religiosa no país? Podemos considerar uma religião mais importante que a outra?

8. Entre 1920 e 1970, a população total do Brasil passou de cerca de 27 milhões de habitantes para pouco mais de 93 milhões de habitantes (IBGE, Censos Demográfico de 1960 e 1970).

Além dos nascimentos que ocorreram no território, qual outro fator contribuiu para esse aumento populacional? Cite o motivo desse crescimento.

9. Durante a colonização, os padres portugueses obrigavam os negros e os indígenas a se converterem ao cristianismo.

No período colonial, os povos indígenas e os que vieram da África tinham direito à liberdade de religião? E atualmente?

10. Em 1888, a princesa Isabel assinou a Lei Áurea, que determinou a abolição da escravatura no Brasil. A sociedade brasileira, entretanto, não se tornou igualitária a partir daquele momento.

Identifique dois problemas que a população negra enfrentou e ainda enfrenta atualmente.

11. Ao ser anunciada a chegada de uma aluna com deficiência visual na sala de aula, dois estudantes fizeram os seguintes comentários:

Estudante 1: "Seja muito bem-vinda! Se precisar, posso ajudar você com as tarefas de casa."

Estudante 2: "Ela vai atrapalhar nossas aulas, porque não consegue ler nem escrever."

Comparando os pontos de vista dos estudantes, qual representa uma situação de respeito e tolerância? Por que esse ponto de vista é importante?

12. O Brasil possui uma grande diversidade cultural, entretanto nem todas as manifestações culturais são respeitadas, como acontece com alguns costumes e algumas tradições religiosas. Mesmo atualmente, ainda vemos casos de preconceito e intolerância.

Explique um motivo histórico pelo qual isso ainda ocorre em nosso país? Isso é permitido por lei?

https://edocente.com.br/edital/pnld-2019/avaliacoes/?editora=&disciplina=93