ESTADO DE MATO GROSSO DO SUL
MUNICÍPIO DE LADÁRIO SECRETÁRIA
MUNICIPAL DE EDUCAÇÃO

ESCOLA MUNICIPAL PROFESSOR JOÃO BAPTISTA
PROFESSOR (a): Marina TURMA(S): 5º ANO ENSINO FUNDAMENTAL TURNO: VESPERTINO ALUNO(a):
COMPONENTE CURRICULAR: **CIÊNCIAS** PERÍODO: 07/07/2020 – 14/07/2020 – 18/07/2020 QUANTIDADE DE AULAS: 06 aulas
Objeto de conhecimento: Vida e evolução **Habilidade: (EF06CI06)** – Selecionar argumentos que justifiquem por que o sistema digestório e respiratório são considerados corresponsáveis pelo processo pelo processo de nutrição do organismo, com base na identificação das funções desses sistemas.

VEGETAIS

1. Classifique as partes deste vegetal.

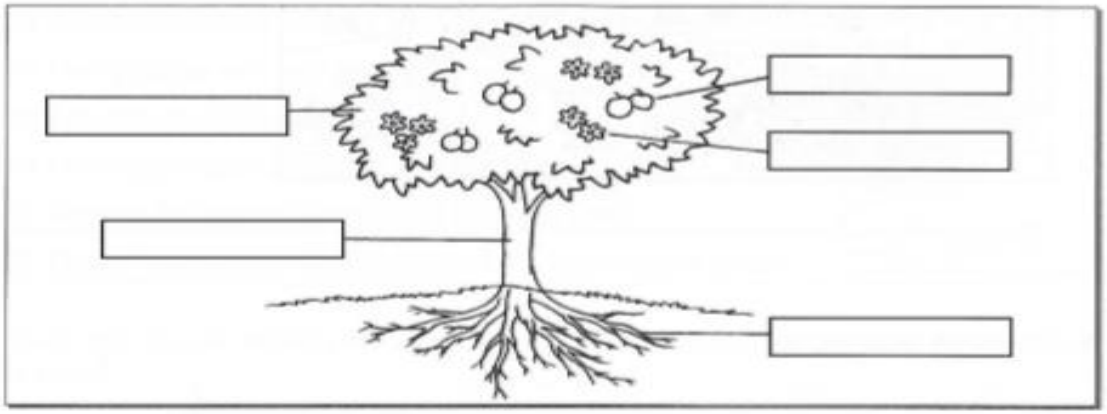

2. Marque **V** para verdadeiro e **F** para falso.



- ☐ Todos os vegetais são iguais no formato.
- ☐ Os vegetais são diferentes entre si.
- ☐ Os vegetais precisam de luz, calor, ar, espaço, água e nutrientes para sobreviver.
- ☐ Os vegetais não são seres vivos.
- ☐ Todos os vegetais, sem exceção, dão flores e frutos.
- ☐ Todos os vegetais têm sementes.
- ☐ Os vegetais produzem o próprio alimento de que precisam.
- ☐ Os vegetais não necessitam do Sol para sobreviver.

Referências Bibliográficas: **https://br.pinterest.com**

ESTADO DE MATO GROSSO DO SUL
MUNICÍPIO DE LADÁRIO SECRETÁRIA
MUNICIPAL DE EDUCAÇÃO

ESCOLA MUNICIPAL PROFESSOR JOÃO BAPTISTA
PROFESSOR (a): Marina TURMA(S): 5º ANO ENSINO FUNDAMENTAL TURNO: VESPERTINO ALUNO(a):
COMPONENTE CURRICULAR: **CIÊNCIAS** PERÍODO: 07/07/2020 – 14/07/2020 – 18/07/2020 QUANTIDADE DE AULAS: 06 aulas
Objeto de conhecimento: Vida e evolução **Habilidade: (EF06CI06)** – Selecionar argumentos que justifiquem por que o sistema digestório e respiratório são considerados corresponsáveis pelo processo pelo processo de nutrição do organismo, com base na identificação das funções desses sistemas.

3. Pinte os quadrinhos conforme a legenda.

LEGENDA
Verde = vegetal que produz semente.
Vermelho = vegetal que não produz semente.

- ☐ abacateiro
- ☐ samambaia
- ☐ musgo
- ☐ avenca
- ☐ mamoeiro
- ☐ laranjeira
- ☐ tomateiro
- ☐ aboboreira
- ☐ limoeiro
- ☐ melancieira

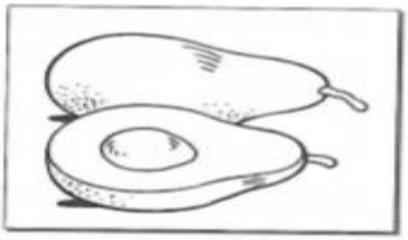

4. Indique onde vivem e se desenvolvem as plantas:

a) terrestres _____

b) aquáticas _____

c) aéreas _____

5. De que as plantas terrestres precisam para viver?

_____

_____

6. Indique o gás que, por meio das folhas, as plantas:

a) consomem _____

_____

b) liberam no ar _____

_____

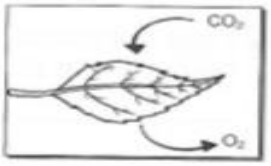

Referências Bibliográficas: **https://br.pinterest.com**