ESCOLA MUNICIPAL PROFESSOR JOÃO BAPTISTA
PROFESSORA: RUTH DE QUEIRÓZ KUKIEL.
TURMA: 1º ANO A
ENSINO: FUNDAMENTAL 1 TURNO: MATUTINO
ALUNO:_____.
COMPONENTE CURRICULAR: MATEMÁTICA
PERÍODO: 19/10/2020 a 30/10/2020
QUANTIDADE DE AULAS: 08

OBJETO DE CONHECIMENTO: Números, adição e subtração.
HABILIDADES: (EF01MA06. S07)

ATIVIDADE DE MATEMÁTICA

COMPLETE OS QUADROS COM AS INFORMAÇÕES PEDIDAS:



HAVIA NO CAMPO .....CACHORRINHOS.

CHEGARAM MAIS ..... CARNEIRINHOS.

AGORA, EXISTEM ..... ANIMAIS NO CAMPO.



QUANTOS URSOS?.....

QUANTOS PATOS? .....

QUANTOS ANIMAIS VOCÊ ESTÁ VENDO? .....



QUANTOS IOIÔS?.....

QUANTAS BONECAS? .....

QUANTOS BRINQUEDOS? .....

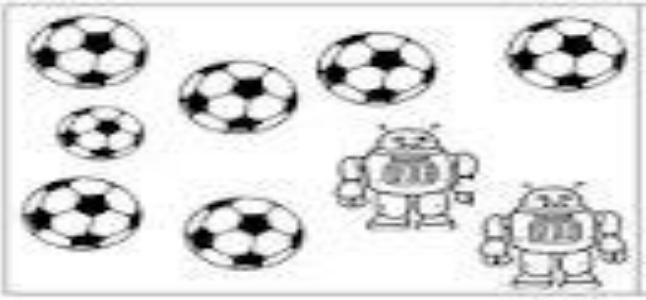

QUANTAS BOLAS?.....

QUANTOS ROBÔS? .....

QUANTOS BRINQUEDOS? .....

https://br.pinterest.com/pin/513698706357612 1/?nic_v2=1ahteKCcU

ESCOLA MUNICIPAL PROFESSOR JOÃO BAPTISTA
PROFESSORA: RUTH DE QUEIRÓZ KUKIEL.
TURMA: 1º ANO A
ENSINO: FUNDAMENTAL 1 TURNO: MATUTINO
ALUNO:_____.
COMPONENTE CURRICULAR: MATEMÁTICA
PERÍODO: 19/10/2020 a 30/10/2020
QUANTIDADE DE AULAS: 08

OBJETO DE CONHECIMENTO: Números, adição e subtração.
HABILIDADES: (EF01MA06. S07)

ATIVIDADES

1) Risque a quantidade de elementos pedida e, depois, coloque ao lado quantos elementos sobraram e arme as operações:

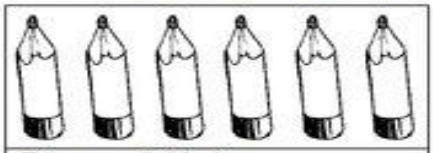

Risque 2 lápis.

Eram ..... lápis.
Ficaram ..... lápis.

..... - ..... = ...



Risque 3 gatos.

Eram ..... gatos.
Ficou ..... gato.

..... - ..... = ...



Risque 4 vacas.

Eram ..... vacas.
Ficaram ..... vacas.

..... - ..... = ...

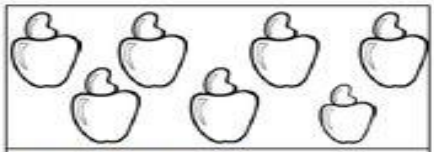

Risque 3 cajus.

Eram ..... cajus.
Ficaram ..... cajus.

..... - ..... = ...



Risque 2 xícaras.

Eram ..... xícaras.
Ficou ..... xícaras.

..... - ..... = ...



Risque 1 pássaro.

Eram ..... pássaros.
Ficaram ..... pássaros.

..... - ..... = ...

2) Resolva as adições:

1 + 1	1 + 9	1 + 2	1 + 6	1 + 4

3) Complete as retas numeradas com os números faltosos:

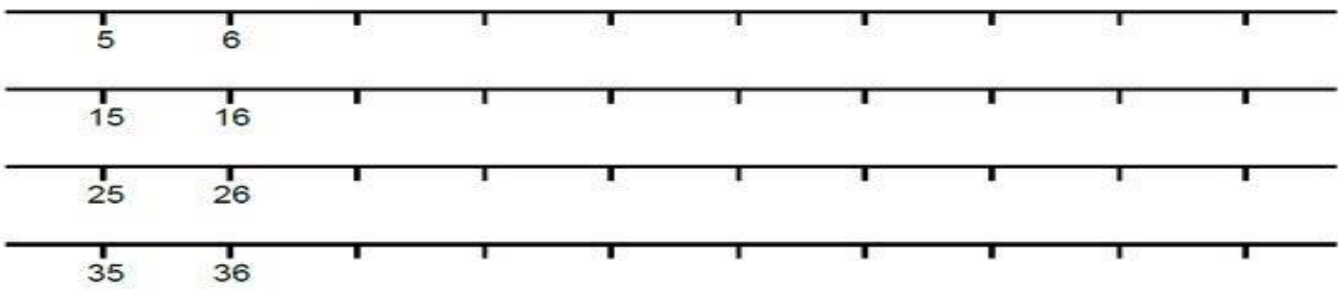

https://br.pinterest.com/pin/415182464355127 1/?nic_v2=1ahteKCcU