| |
|---|
| **ESCOLA:** Municipal Prof. João Baptista |
| **PROFESSOR(A):** SIMONE BRAGA **TURMA(S): 1º B** |
| **TURNO: VESPERTINO**<br>**ALUNO ( A):**_____ |
| **QUANTIDADE DE AULAS:** |
| **COMPONENTE CURRICULAR: LÍNGUA PORTUGUESA** |
| **PERIODO: 01/09/2020 à 07/09/2020** |
| **Objeto de conhecimento: Conhecimento do alfabeto do português do Brasil** |
| **Habilidade :**<br>MS.EF01LP04.s.04 |

PINTE O ALFABETO ABAIXO E CIRCULE AS VOGAIS:

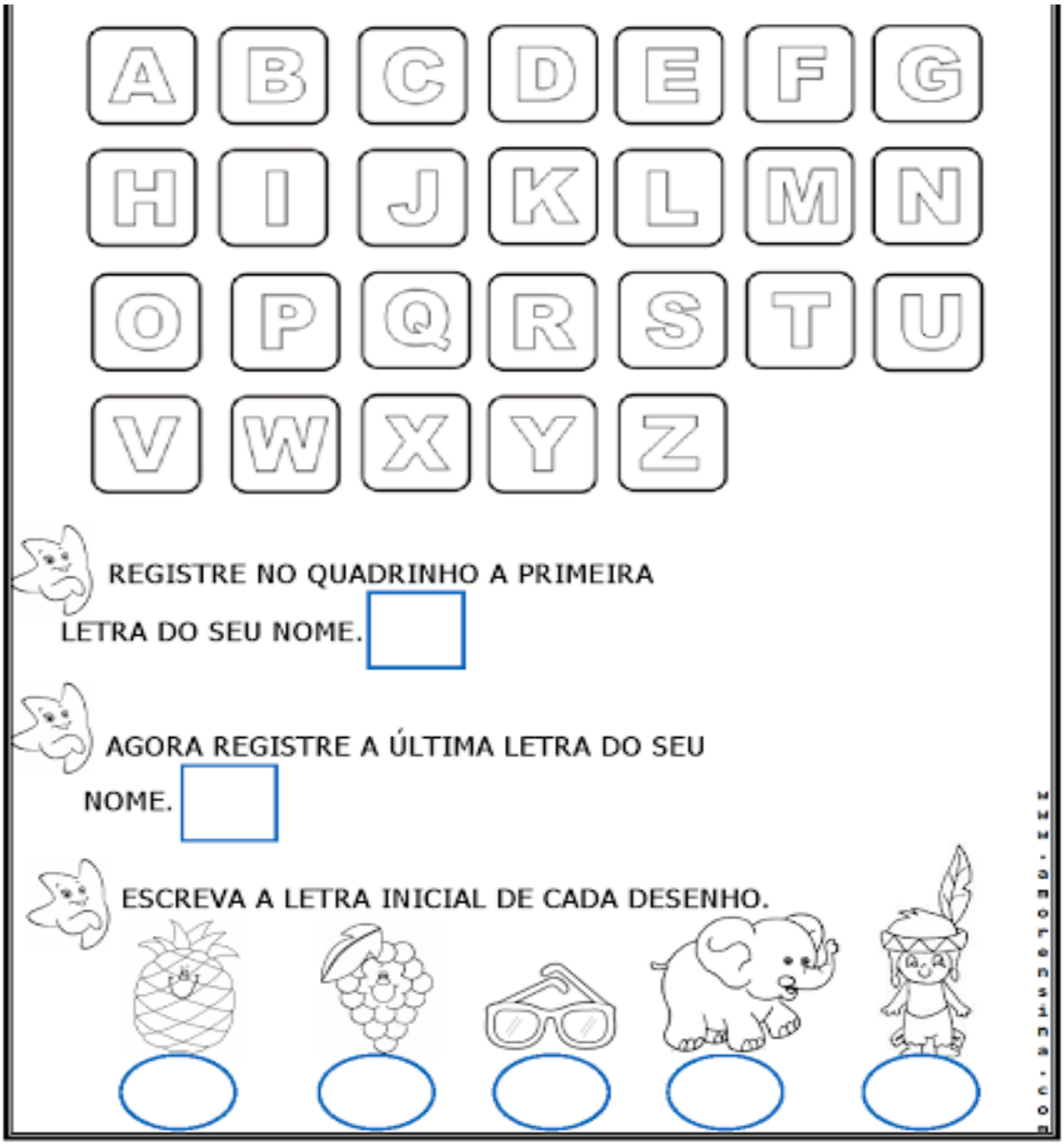

| |
|---|
| **ESCOLA:** Municipal Prof. João Baptista |
| **PROFESSOR(A):** SIMONE BRAGA **TURMA(S):** 1º B |
| **TURNO:** VESPERTINO<br>ALUNO (A): _____- |
| **QUANTIDADE DE AULAS:** |
| **COMPONENTE CURRICULAR: LÍNGUA PORTUGUESA** |
| **PERÍODO: 01/09/2020 À 07/09/2020** |
| **HABILIDADE:**<br>MS.EF01LP06.s.06 |

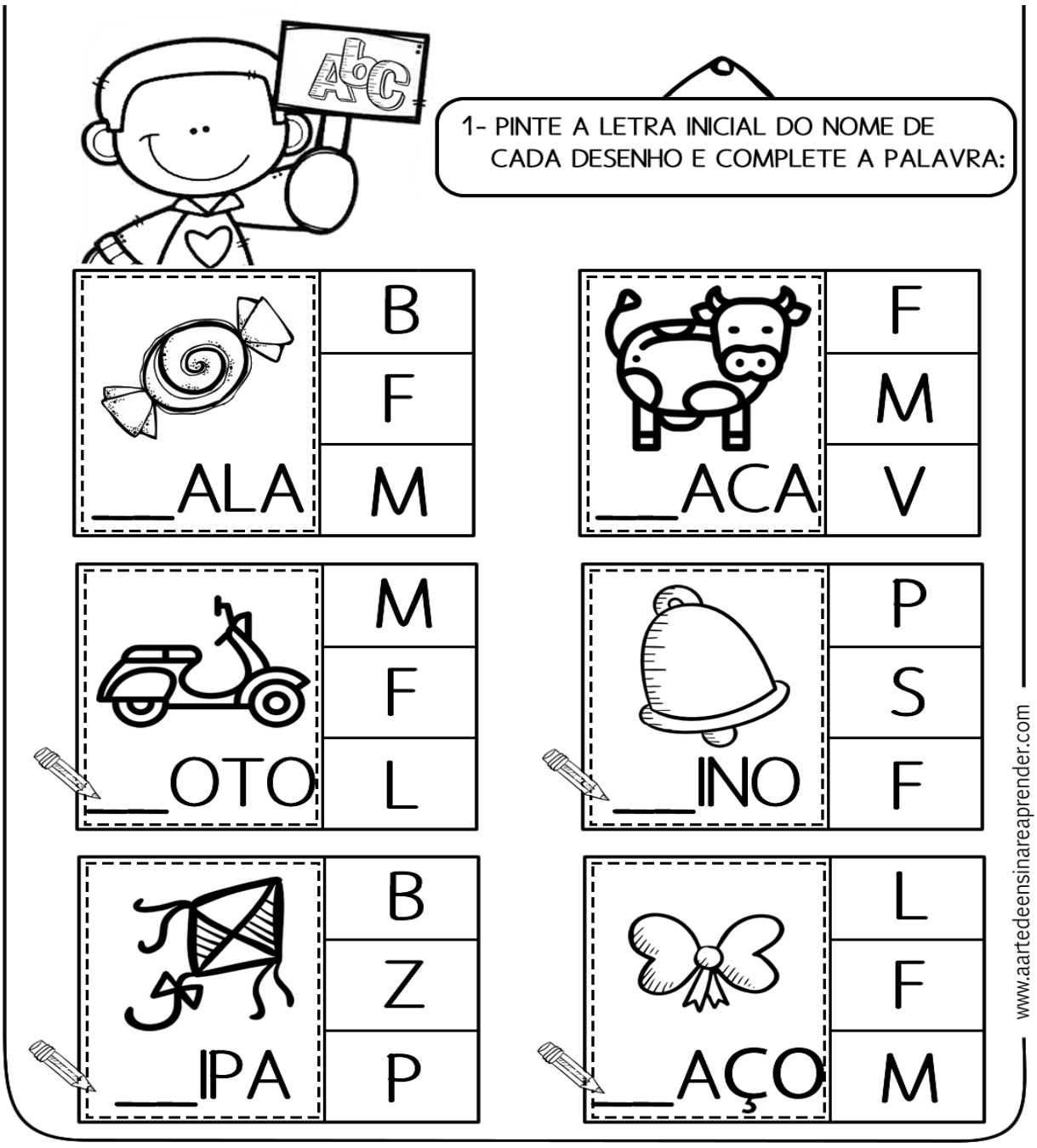

| |
|---|
| **ESCOLA: Municipal Professor João Batista** |
| **PROFESSOR(A): SIMONE BRAGA TURMA(S): 1º B** |
| **TURNO: Vespertino**<br>**ALUNO(A) : _____** |
| **QUANTIDADE DE AULAS:** |
| **COMPONENTE CURRICULAR: MATEMÁTICA** |
| **PERÍODO: 01/09/2020 à 07/09/2020** |
| **Objeto de conhecimento : Quantificação de elementos de uma coleção,estimativas contagem um a um ,pareamento ou outros agrupamentos e comparação** |
| **Habilidade:**<br>(MS.EF01MA03.s.03 |

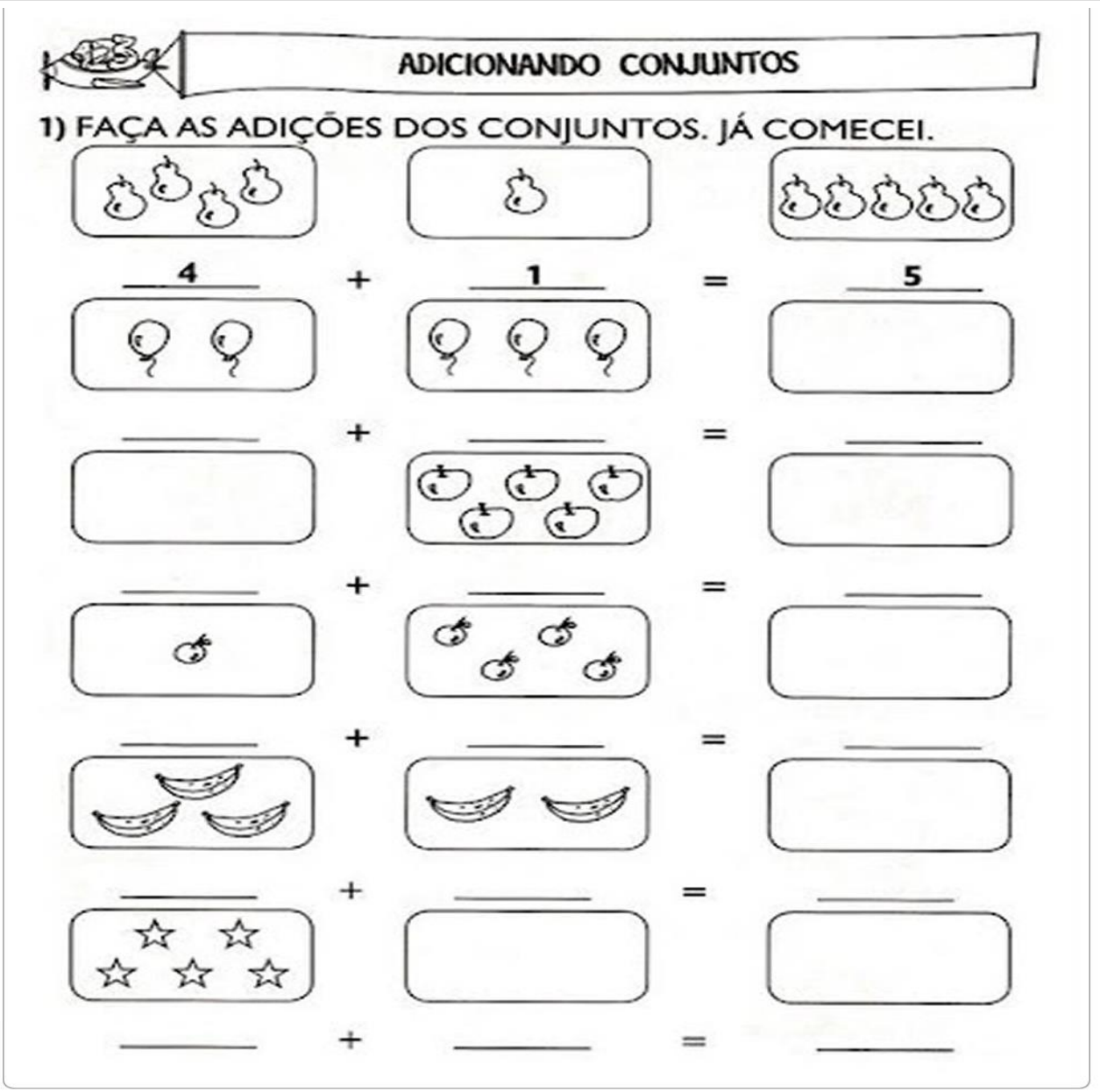

ESTADO DE MATO GROSSO DO SUL
MUNICÍPIO DE LADÁRIO
SECRETARIA MUNICIPAL DE EDUCAÇÃO

| |
|---|
| **ESCOLA: Municipal Professor João Batista** |
| **PROFESSOR(A): SIMONE BRAGA TURMA(S): 1º B** |
| **TURNO: Vespertino**<br>**ALUNO(A) : _____** |
| **QUANTIDADE DE AULAS:** |
| **COMPONENTE CURRICULAR: MATEMÁTICA** |
| **PERÍODO: 01/09/2020 à 07/09/2020**<br>**HABILIDADE:**<br>(MS.EF01MA00.no6) |

## Complete com os números vizinhos.

| | | |
|---|---|---|
| | 1 | |
| | 2 | |
| | 3 | |
| | 4 | |
| | 5 | |
| | 6 | |
| | 7 | |
| | 8 | |
| | 9 | |
| | 10 | |
| | 11 | |
| | 12 | |
| | 13 | |
| | 14 | |
| | 15 | |
| | 16 | |
| | 17 | |
| | 18 | |
| | 19 | |
| | 20 | |

ESTADO DE MATO GROSSO DO SUL
MUNICÍPIO DE LADÁRIO
SECRETARIA MUNICIPAL DE EDUCAÇÃO

| |
|---|
| **ESCOLA: Municipal Professor João Batista** |
| **PROFESSOR(A): SIMONE BRAGA TURMA(S): 1º B** |
| **TURNO: Vespertino**<br>**ALUNO(A) : _____** |
| **QUANTIDADE DE AULAS:** |
| **COMPONENTE CURRICULAR: GEOGRAFIA** |
| **PERÍODO: 01/09/2020 à 07/09/2020** |
| **Objeto de conhecimento : Condições de vida nos lugares de vivência** |
| **Habilidade:**<br>(MS.EF01GE10.s.10) |

## COMO ESTÁ O TEMPO HOJE?

RECORTE OU DESENHE AS ROUPAS E ACESSÓRIOS SOL E CHUVA.E, DE ACORDO COM A LEGENDA E COLE-OS NO QUADRO CERTO.



Professora Iolanda Sá Freire, 3ªed.(Org.)

ESTADO DE MATO GROSSO DO SUL
MUNICÍPIO DE LADÁRIO
SECRETARIA MUNICIPAL DE EDUCAÇÃO

| |
|---|
| **ESCOLA: Municipal Professor João Batista** |
| **PROFESSOR(A): SIMONE BRAGA TURMA(S): 1º B** |
| **TURNO: Vespertino**<br>**ALUNO (A):** |
| **QUANTIDADE DE AULAS:** |
| **COMPONENTE CURRICULAR: HISTÓRIA** |
| **PERÍODO:01/09/2020 á 07/09/2020** |
| **Objeto de conhecimento : A escola,sua representação espacial,sua história e seu papel na comunidade** |
| **Habilidade:**<br>MS.EF01HI08.s.08 |

## 7 DE SETEMBRO – INDEPENDÊNCIA DO BRASIL



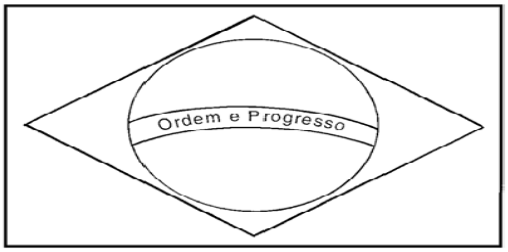


ESSA É A BANDEIRA DO

AS CORES DA BANDEIRA SÃO:

QUANTAS CORES SÃO?

O QUE ESTÁ ESCRITO NA BANDEIRA?

| |
|---|
| **ESCOLA:** Municipal Prof. João Baptista |
| **PROFESSOR(A):** SIMONE BRAGA **TURMA(S): 1º B** |
| **TURNO: VESPERTINO**<br>**ALUNO ( A):**_____ |
| **QUANTIDADE DE AULAS: aulas** |
| **COMPONENTE CURRICULAR: LÍNGUA PORTUGUESA** |
| **PERIODO: 17/08/2020 à 31/08/2020** |
| **Objeto de conhecimento: Construção do sistema alfabético** |
| **Habilidade :** EF01LP08 |

# OLHO VIVO

Escreva as letras de acordo com os símbolos e leia as palavrinhas.

| | | | | |
|---|---|---|---|---|
| A | E | I | O | U |



| |
|---|
| **ESCOLA:** Municipal Prof. João Baptista |
| **PROFESSOR(A):** SIMONE BRAGA **TURMA(S):** 1º B |
| **TURNO:** VESPERTINO<br>ALUNO (A): _____- |
| **QUANTIDADE DE AULAS:** |
| **COMPONENTE CURRICULAR: LÍNGUA PORTUGUESA** |
| **PERÍODO: 17/08/2020 à 31/08/2020** |
| **HABILIDADE: (EF35LP05)** |

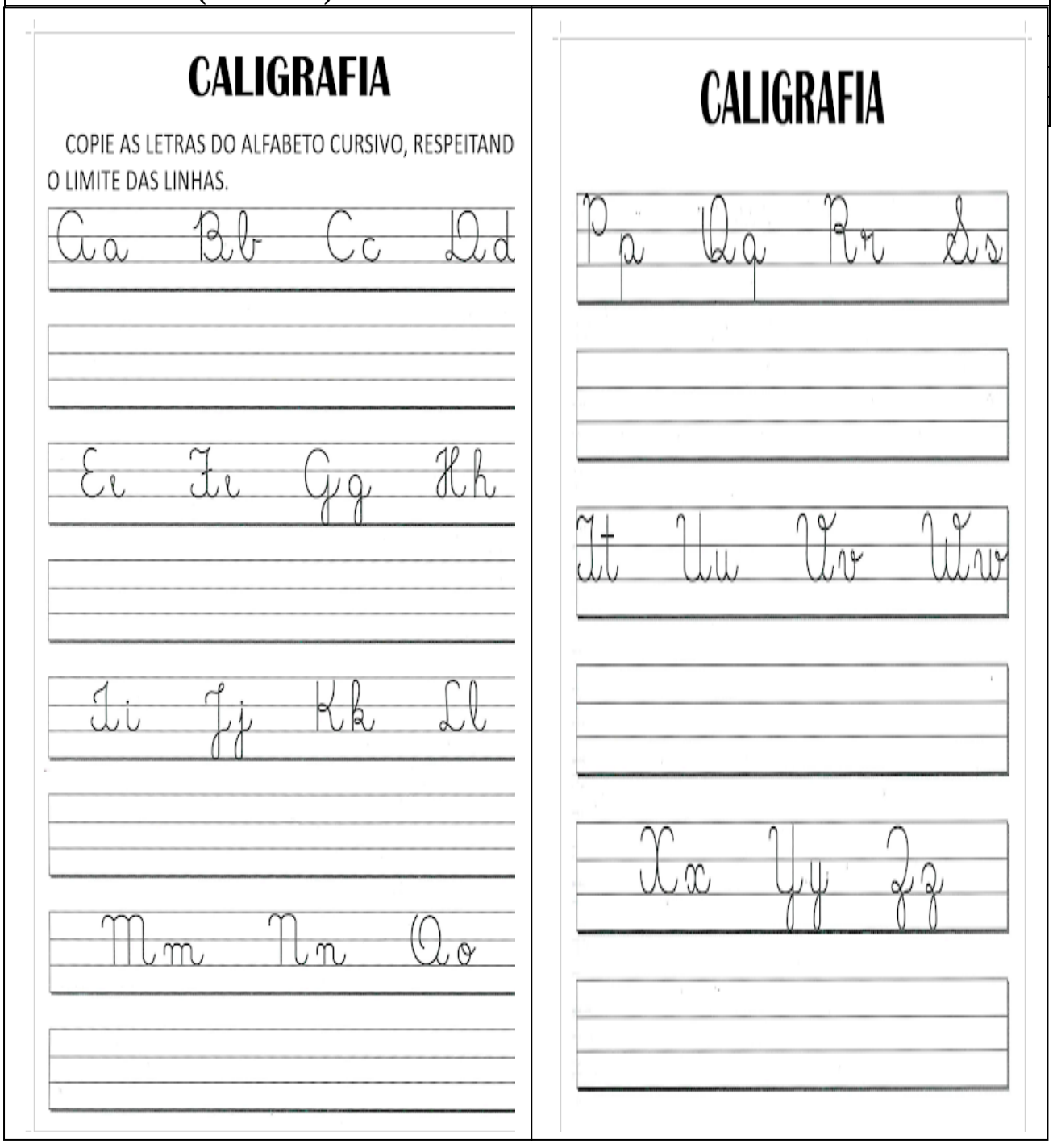

# CALIGRAFIA

COPIE AS LETRAS DO ALFABETO CURSIVO, RESPEITAND O LIMITE DAS LINHAS.

Aa Bb Cc Dd

Ee Ff Gg Hh

Ii Jj Kk Ll

Mm Nn Oo

# CALIGRAFIA

Pp Qq Rr Ss

Tt Uu Vv Ww

Xx Yy Zz

| |
|---|
| **ESCOLA:** Municipal Prof. João Baptista |
| **PROFESSOR(A):** SIMONE BRAGA **TURMA(S):** 1º B |
| **TURNO:** VESPERTINO<br>ALUNO (A): _____- |
| **QUANTIDADE DE AULAS:** |
| **COMPONENTE CURRICULAR: LÍNGUA PORTUGUESA** |
| **PERÍODO : 17/08/2020 à 31/08/2020** |
| **HABILIDADE:** EF01LP08 |

1 - Vamos treinar as vogais?

A a



E e



I i



O o



U u



| |
|---|
| **ESCOLA: Municipal Professor João Batista** |
| **PROFESSOR(A): SIMONE BRAGA TURMA(S): 1º B** |
| **TURNO: Vespertino**<br>**ALUNO(A) : _____** |
| **QUANTIDADE DE AULAS:** |
| **COMPONENTE CURRICULAR: MATEMÁTICA** |
| **PERÍODO: 17/08/2020 à 31/08/2020** |
| **Objeto de conhecimento : Números** |
| **Habilidade: EF01MA01** |

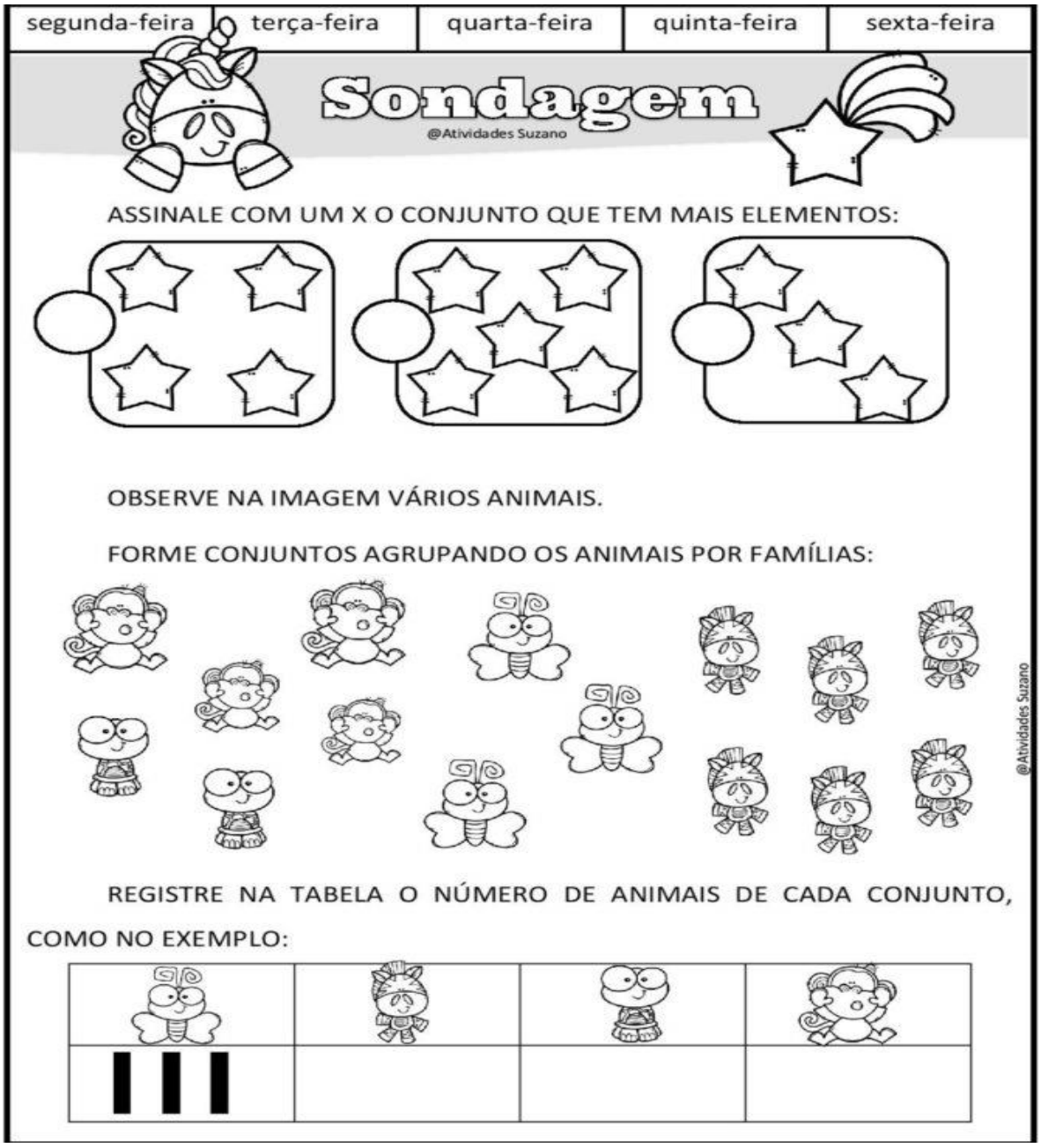

| |
|---|
| **ESCOLA: Municipal Professor João Batista** |
| **PROFESSOR(A): SIMONE BRAGA TURMA(S): 1º B** |
| **TURNO: Vespertino**<br>**ALUNO(A) : _____** |
| **QUANTIDADE DE AULAS:** |
| **COMPONENTE CURRICULAR: MATEMÁTICA** |
| **PERÍODO: 17/08/2020 à 31/08/2020**<br>**HABILIDADE: EF01MA01** |

CIRCULE O NUMERAL CORRESPONDENTE AOS ELEMENTOS DE CADA CONJUNTO.



6 - 9 - 3 - 1



4 - 8 - 0 - 2

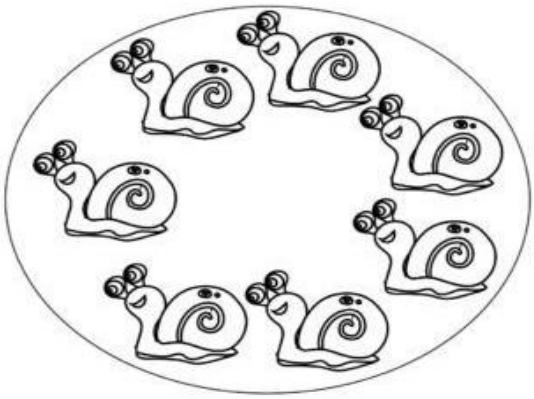

3 - 5 - 2 - 7



8 - 2 - 5 - 6

| |
|---|
| **ESCOLA: Municipal Professor João Batista** |
| **PROFESSOR(A): SIMONE BRAGA TURMA(S): 1º B** |
| **TURNO: Vespertino**<br>**ALUNO(A) : _____** |
| **QUANTIDADE DE AULAS:** |
| **COMPONENTE CURRICULAR: MATEMÁTICA** |
| **PERÍODO: 17/08/2020 à 31/08/2020**<br>**HABILIDADE:** EF01MA03 |

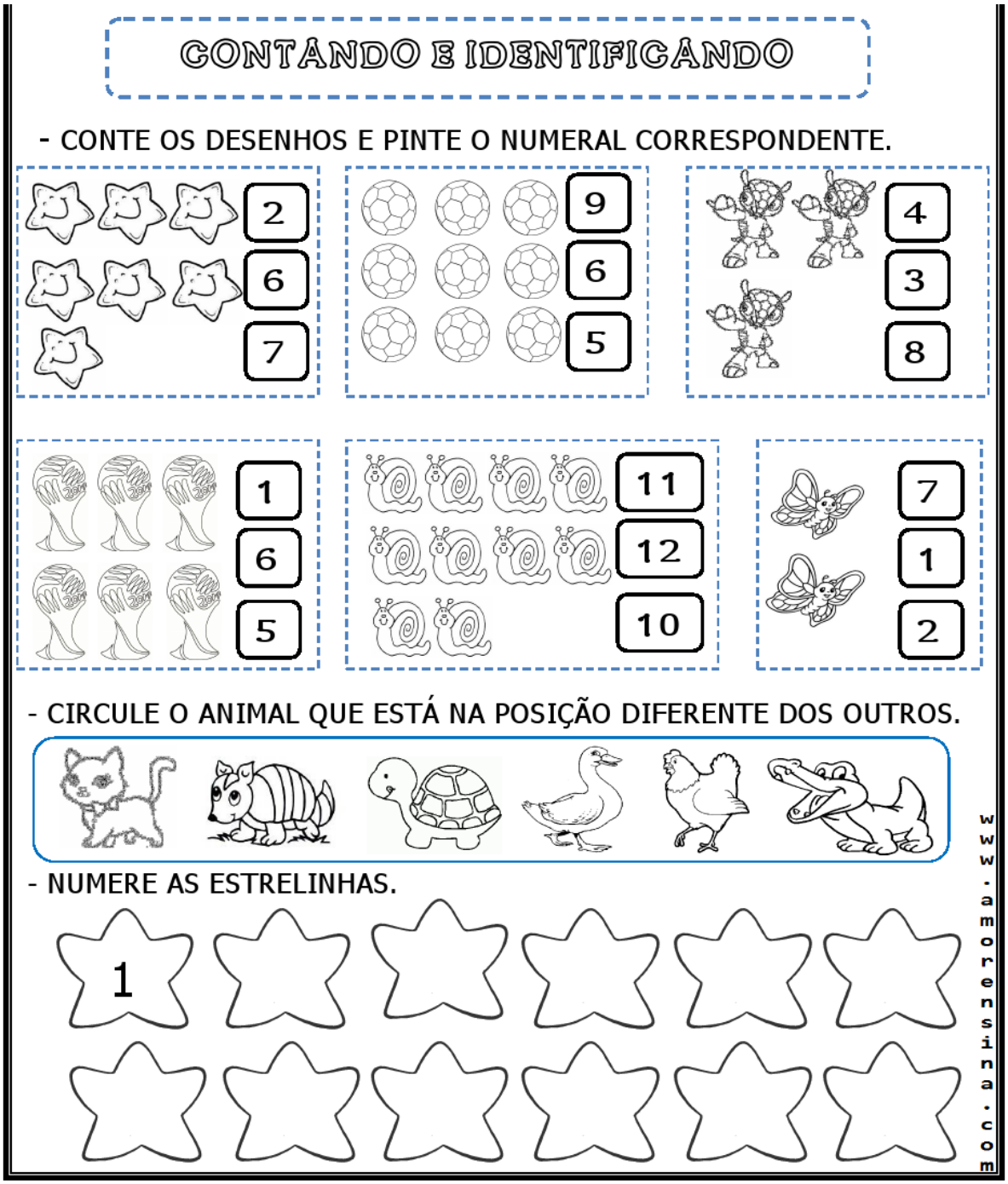

| |
|---|
| **ESCOLA: Municipal Professor João Batista** |
| **PROFESSOR(A): SIMONE BRAGA TURMA(S): 1º B** |
| **TURNO: Vespertino**<br>**ALUNO(A) : _____** |
| **QUANTIDADE DE AULAS:** |
| **COMPONENTE CURRICULAR: GEOGRAFIA** |
| **PERÍODO: 17/08/2020 à 31/08/2020** |
| **Objeto de conhecimento : O modo de vida das crianças em diferentes lugares de vivência** |
| **Habilidade: EF01GE01** |

1) OBSERVE AS IMAGENS ABAIXO E NUMERE CORRETAMENTE:

**(1) PAISAGEM DA ZONA RURAL** **(2) PAISAGEM DA ZONA URBANA**





( ) ( )

2) OBSERVE AS ESCOLAS ABAIXO E NUMERE CORRETAMENTE ONDE CADA ALUNO DEVE ESTUDAR:

(1) ALUNO RURAL (2) ALUNO URBANO






( ) ( )

3) PINTE A ZONA RURAL E CIRCULE A ZONA URBANA





| |
|---|
| **ESCOLA: Municipal Professor João Batista** |
| **PROFESSOR(A): SIMONE BRAGA TURMA(S): 1º B** |
| **TURNO: Vespertino**<br>**ALUNO(A) : _____** |
| **QUANTIDADE DE AULAS:** |
| **COMPONENTE CURRICULAR: GEOGRAFIA** |
| **PERÍODO: 17/08/2020 à 31/08/2020** |
| **Objeto de conhecimento :**<br><br>**HABILIDADE:** (EF01GE01) |

1. Qual casa mais se parece com a sua? Marque com um X

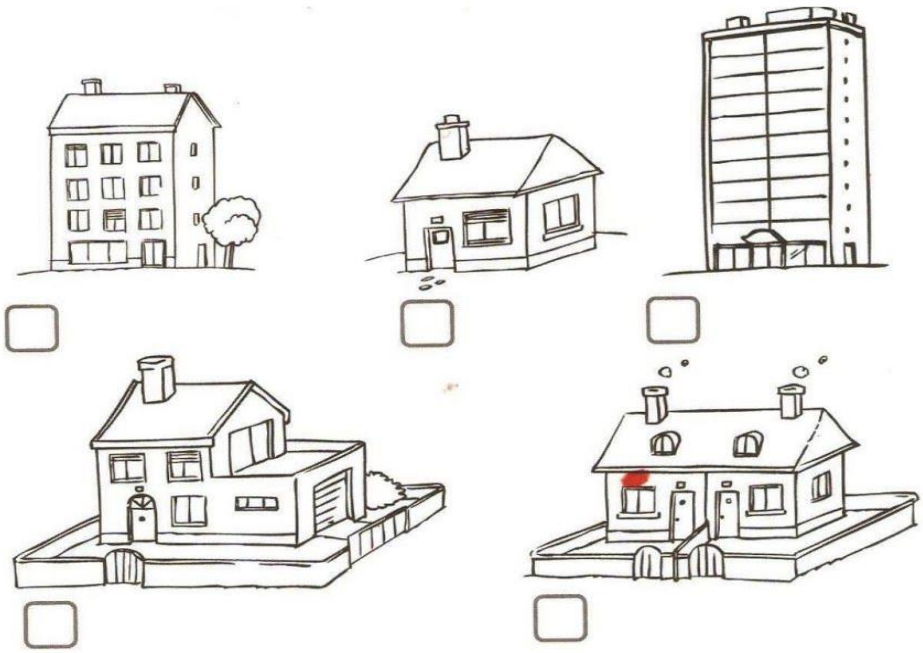

2. Desenhe sua casa, em seguida, pinte!

BLOG CLICK EDUCATIVO

| |
|---|
| **ESCOLA: Municipal Professor João Batista** |
| **PROFESSOR(A): SIMONE BRAGA TURMA(S): 1º B** |
| **TURNO: Vespertino**<br>**ALUNO (A):** |
| **QUANTIDADE DE AULAS:** |
| **COMPONENTE CURRICULAR: HISTÓRIA** |
| **PERÍODO:17/08/2020 á 31/08/2020** |
| **Objeto de conhecimento : A escola e a diversidade do grupo social envolvido** |
| **Habilidade: EF01HI04** |

## A ESCOLA

Todas as crianças têm direito à educação: aprender a ler, escrever, fazer contas etc.

A sala de aula é o lugar da escola onde os alunos estudam.

Encontre na ilustração três objetos que não fazem parte da sala de aula e faça um X.

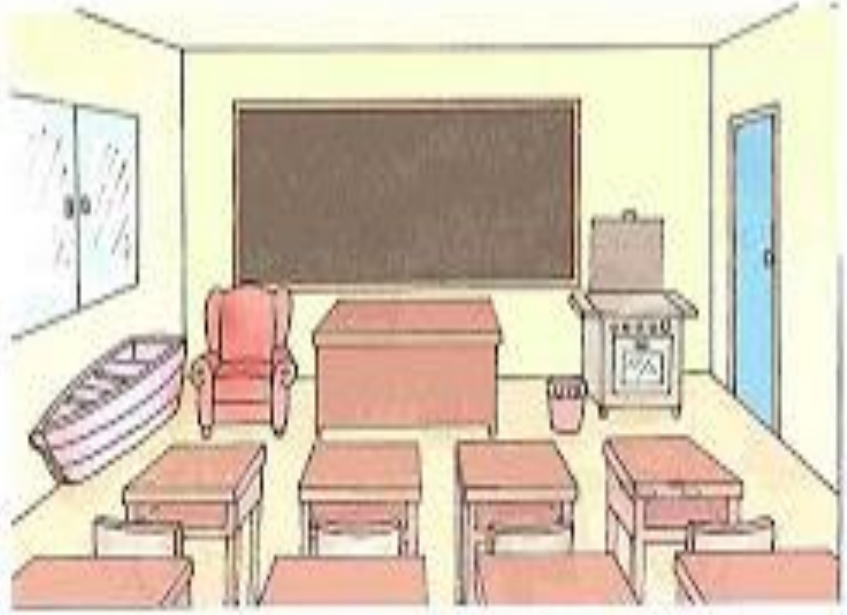

| |
|---|
| **ESCOLA: Municipal Professor João Batista** |
| **PROFESSOR(A): SIMONE BRAGA TURMA(S): 1º B** |
| **TURNO: Vespertino**<br>**ALUNO (A):** |
| **QUANTIDADE DE AULAS:** |
| **COMPONENTE CURRICULAR: HISTÓRIA** |
| **PERÍODO: 17/08/2020 à 31/08/2020**<br>**HABILIDADE: EF01HI08** |

.

## VAMOS PINTAR OS PERSONAGENS DO FOLCLORE!




## VAMOS PINTAR AS PALAVRAS IGUAIS

| | | | | |
|---|---|---|---|---|
| 1 | IARA | AAIRA | IRAA | IARA |
| 2 | BOTO | OBOT | BOTO | BTOO |
| 3 | SACI | ICSA | ICAS | SACI |
| 4 | MULA | LUMA | MULA | MALU |
| 5 | CURUPIRA | RUPICURA | CRPURUIA | CURUPIRA |
| 6 | BOITATÁ | BATÁTOA | BOITATÁ | TOIBATÁ |