ESTADO DE MATO GROSSO DO SUL
MUNICÍPIO DE LADÁRIO
SECRETARIA MUNICIPAL DE EDUCAÇÃO
ESCOLA MUNICIPAL DE EDUCAÇÃO INFANTIL E
ENSINO FUNDAMENTAL PROFESSOR JOÃO BAPTISTA

ESCOLA: ESCOLA MUNICIPAL PROFESSOR JOÃO BAPTISTA	
PROFESSORA: MARGARETH DE BARROS S.S. DOS SANTOS ENSINO FUNDAMENTAL I ALUNO (A):	TURMA: 5º ANO B TURNO: MATUTINO
COMPONENTE CURRICULAR: LÍNGUA PORTUGUESA QUANTIDADE DE AULAS: 6 Aulas OBJETO DE CONHECIMENTO: Advérbio HABILIDADES:(EF3502) (EF05LP08)	PERÍODO: 08/09/2020 a 15/09/2020

soescola.com

ATIVIDADE DE LINGUA PORTUGUESA

Leia o texto abaixo.

O celular em nossas vidas

Talvez você ainda não tenha pensado nisso, mas já imaginou que o celular existe há pouco tempo? Basta você assistir a reprise de uma novela de tv de duas décadas atrás, e você logo perceberá muitas situações que são bem diferentes das encontradas nos dias atuais, graças ao celular. As pessoas saíam para seus compromissos e só era possível entrar em contato com elas, quando chegassem aos seus destinos. Isso contando que lá onde elas estivessem, existisse um telefone "fixo" disponível. O fato é que durante o trajeto, seja ele perto ou longe as pessoas ficavam incomunicáveis.

Essa pequena caixinha que as pessoas costumam levar dentro de suas bolsas, bolsos ou dependuradas no pescoço, provocaram uma grande mudança na nossa sociedade. Antes o telefone se limitava a fazer e receber ligações. Hoje vários recursos são utilizados: torpedos, e-mails, fotos, vídeos, jogos e outros. Tudo mudou muito depressa e certamente mudará muito mais.

Imagine só que a primeira demonstração de um aparelho portátil de comunicação à distancia foi feita em Nova York em 1973 pelo engenheiro Martin Cooper. O aparelho que ele usou pesava quase um quilo e media 25 centímetros.

No Brasil a primeira ligação por celular foi feita na cidade do Rio de Janeiro no mês de dezembro de 1990. O aparelho custava uma fortuna e a conta outra.

Identifique no texto e classifique os advérbios nos quadros abaixo:

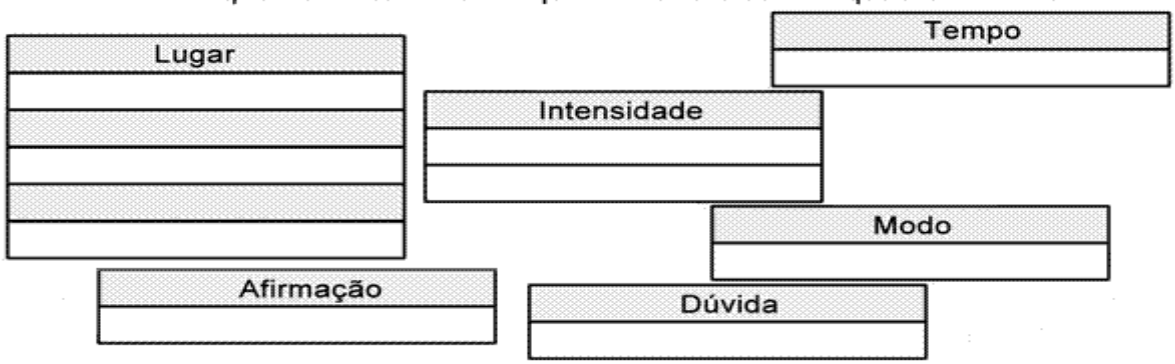

ESTADO DE MATO GROSSO DO SUL
MUNICÍPIO DE LADÁRIO
SECRETARIA MUNICIPAL DE EDUCAÇÃO
ESCOLA MUNICIPAL DE EDUCAÇÃO INFANTIL E
ENSINO FUNDAMENTAL PROFESSOR JOÃO BAPTISTA

ESCOLA: ESCOLA MUNICIPAL PROFESSOR JOÃO BAPTISTA	
PROFESSORA: MARGARETH DE BARROS S.S. DOS SANTOS ENSINO FUNDAMENTAL I ALUNO (A):	TURMA: 5º ANO B TURNO: MATUTINO
COMPONENTE CURRICULAR: LÍNGUA PORTUGUESA QUANTIDADE DE AULAS: 6 Aulas OBJETO DE CONHECIMENTO: Advérbio HABILIDADES: (EF35LP02), (EF05LP08)	PERÍODO: 08/09/2020 a 15/09/2020

www.educaescola.com.br

ATIVIDADE DE LINGUA PORTUGUESA

1. VAMOS TREINAR!!!

1. CIRCULE OS ADVÉRBIOS E ESCREVA-OS AO LADO DA CLASSIFICAÇÃO.

NUNCA VI UM ESPETÁCULO TÃO LINDO. ABAIXO AS CATARATAS DO RIO IGUAÇU E ACIMA O SOL TOTALMENTE ENCOBERTO PELA LUA.

A) _____ = ADVÉRBIO DE MODO

B) _____ = ADVÉRBIO DE LUGAR

C) _____ = ADVÉRBIO DE LUGAR

D) _____ = ADVÉRBIO DE TEMPO

E) _____ = ADVÉRBIO DE INTENSIDADE

2. REPRESENTE COM DESENHO O TRECHO ACIMA.

ESTADO DE MATO GROSSO DO SUL
MUNICÍPIO DE LADÁRIO
SECRETARIA MUNICIPAL DE EDUCAÇÃO
ESCOLA MUNICIPAL DE EDUCAÇÃO INFANTIL E
ENSINO FUNDAMENTAL PROFESSOR JOÃO BAPTISTA

ESCOLA MUNIPAL PROFESSOR JOÃO BAPTISTA	
PROFESSORA: MARGARETH DE BARROS S.S. DOS SANTOS ENSINO FUNDAMENTAL I ALUNO (A):	TURMA: 5º ANO B TURNO: VESPERTINO
COMPONENTE CURRICULAR: MATEMÁTICA QUANTIDADE DE AULAS: 5 Aulas OBJETO DE CONHECIMENTO: Situação Problema envolvendo Adição e Subtração HABILIDADES: (EF05MA07)	PERÍODO: 08/09 /2020 a 15/09/2020

wwweducaescola.com

ATIVIDADE DE MATEMÁTICA

ATIVIDADES DE REFORÇO MATEMÁTICA 5º ANO

Resolva as questões de 1 a 10(multiplicação de números naturais)

1 - A organização de um campeonato de futebol recebeu a inscrição de 14 equipes. Se cada uma tinha 12 jogadores quantos atletas se inscreveram?
( ) A -26 ( ) B -168
( ) C -62 ( ) D -420

2 - Toda semana, Ricardo coloca R$ 5 no cofrinho. Quantos reais ele terá juntado após 12 semanas?
( ) A -12 reais ( ) B -60 reais
( ) C -70 reais ( ) D -65 reais

3 - Um pacote de balas contém 14 unidades. Quantas balas existem em 5 pacotes iguais a esse?
( ) A -14 ( ) B -28
( ) C -56 ( ) D -70

4 - Todos os dias, Raul dá duas voltas correndo ao redor do parque. Quantas voltas ele completa em uma semana?
( ) A -10 ( ) B -7
( ) C -14 ( ) D -5

5 - Para fazer uma receita de bolo, dona Luzia utiliza 5 ovos. Quantos ovos ela precisa para preparar 8 receitas?
( ) A -12 ( ) B -13
( ) C -40 ( ) D -58

6 - Um pacote de papel higiênico contém 8 rolos. Quantos rolos dona Matilde levará se comprar 6 pacotes?
( ) A -18 rolos ( ) B -32 rolos
( ) C -24 rolos ( ) D -48 rolos

ESTADO DE MATO GROSSO DO SUL
MUNICÍPIO DE LADÁRIO
SECRETARIA MUNICIPAL DE EDUCAÇÃO
ESCOLA MUNICIPAL DE EDUCAÇÃO INFANTIL E
ENSINO FUNDAMENTAL PROFESSOR JOÃO BAPTISTA

PROFESSORA: MARGARETH DE BARROS S.S. DOS SANTOS ENSINO FUNDAMENTAL I ALUNO (A):	TURMA: 5º ANO B TURNO: MATUTINO
COMPONENTE CURRICULAR: MATEMÁTICA QUANTIDADE DE AULAS: 5 Aulas OBJETO DE CONHECIMENTO: SITUAÇÃO PROBLEMA DE MULTIPLICAÇÃO HABILIDADES: (EF05MA08)	PERÍODO: 08/09/2020 a 15/09/2020

www.pinterest.com.br

ATIVIDADES DE MATEMÁTICA

1. Resolva as situações-problema.

Uma doceira vende bombons em caixas de vários tipos.



a) Colocando 3 bombons em cada caixa, de quantos bombons ela precisa para completar 5 caixas?

b) Colocando 4 bombons em cada caixa, de quantos bombons ela precisa para completar 6 caixas?

c) Ela tem uma encomenda de 4 caixas com 5 bombons em cada uma. De quantos bombons ela vai precisar?

d) A doceira arrumou 3 caixas com 6 bombons em cada uma. Quantos bombons ela utilizou?

ESTADO DE MATO GROSSO DO SUL
MUNICÍPIO DE LADÁRIO
SECRETARIA MUNICIPAL DE EDUCAÇÃO
ESCOLA MUNICIPAL DE EDUCAÇÃO INFANTIL E
ENSINO FUNDAMENTAL PROFESSOR JOÃO BAPTISTA

ESCOLA: ESCOLA MUNICIPAL PROFESSOR JOÃO BAPTISTA	
PROFESSORA: MARGARETH DE BARROS S.S. DOS SANTOS ENSINO FUNDAMENTAL I ALUNO (A):	TURMA: 5º ANO B TURNO: MATUTINO
COMPONENTE CURRICULAR: MATEMÁTICA QUANTIDADE DE AULAS: 5 Aulas OBJETO DE CONHECIMENTO: SITUAÇÃO PROBLEMA DE DIVISÃO HABILIDADES: (EF05MA08)	PERÍODO: 08 /09/2020 a 15/09/2020

www.pinturest.com.br

ATIVIDADE DE MATEMÁTICA

NOME:_____

Situações problema de divisão

1) A diretora de uma escola irá dividir 490 livros e 14 prateleiras. Quantos livros ela irá colocar em cada prateleira?

R: _____

Cálculo

2) Para realizar uma gincana, a organizadora irá dividir 42 pessoas em 6 grupos. Quantas pessoas ficarão em cada grupo?

R: _____

Cálculo

3) Uma livraria recebeu uma encomenda de 2.448 livros. A livraria tem que enviar esta encomenda pelo correio, porém cada caixa comporta apenas 9 livros. Quantas caixas serão necessárias para enviar todos os livros?

R: _____

Cálculo

ESTADO DE MATO GROSSO DO SUL
MUNICÍPIO DE LADÁRIO
SECRETARIA MUNICIPAL DE EDUCAÇÃO
ESCOLA MUNICIPAL DE EDUCAÇÃO INFANTIL E ENSINO FUNDAMENTAL PROFESSOR JOÃO BAPTISTA

ESCOLA: ESCOLA MUNICIPAL PROFESSOR JOÃO BAPTISTA	
PROFESSORA: MARGARETH DE BARROS S.S. DOS SANTOS ENSINO FUNDAMENTAL I ALUNO (A):	TURMA: 5º ANO B TURNO: MATUTINO
COMPONENTE CURRICULAR: MATEMÁTICA QUANTIDADE DE AULAS: 5 Aulas OBJETO DE CONHECIMENTO: Tratamento da informação HABILIDADES: (EF05MA24)	PERÍODO: 08/09/2020 a 15/09/2020

br.pinterest.com

ATIVIDADE DE MATEMÁTICA

TRATAMENTO DA INFORMAÇÃO

Recapitulando...

1 – Observe a imagem abaixo, que representa o tempo de decomposição de materiais na natureza.



Ajude a preservar a natureza!!!
Separe o lixo que você produz para que ele possa ser reciclado.
Não jogue lixo em qualquer lugar!
Evite a poluição do meio ambiente!

4 - Bruna resolveu registrar, por meio de um gráfico, o tempo que gasta com suas atividades. Veja abaixo:



Agora que você observou o gráfico, preencha a tabela a seguir:

ATIVIDADE	TEMPO GASTO
Sono	
Higiene pessoal	
Estudo	
Tarefas de casa	
Alimentação	
Lazer	
Total de horas	

2 – Complete a tabela abaixo:

TEMPO DE DECOMPOSIÇÃO DO LIXO NA NATUREZA	
Papel	
Chiclete	
Borracha	
Tecido	
Metal	
Vidro	
Cigarro	
Plástico	
Madeira	

3 – De acordo com os dados da tabela, responda:

a) Que material possui o maior tempo de duração?

b) Podemos observar que existem 3 materiais que possuem o mesmo tempo de decomposição. Quais são eles?

DESAFIO

c) Quanto tempo a mais a garrafa de vidro leva para se decompor, se comparada com as garrafas de plástico?

5 - É a sua vez de registrar, por meio de um gráfico, o tempo que gasta com as suas atividades:

ATIVIDADE	TEMPO GASTO
Sono	
Higiene pessoal	
Estudo	
Tarefas de casa	
Alimentação	
Lazer	
Total de horas	

Tempo diário



ESTADO DE MATO GROSSO DO SUL
MUNICÍPIO DE LADÁRIO
SECRETARIA MUNICIPAL DE EDUCAÇÃO
ESCOLA MUNICIPAL DE EDUCAÇÃO INFANTIL E
ENSINO FUNDAMENTAL PROFESSOR JOÃO BAPTISTA

ESCOLA: ESCOLA MUNICIPAL PROFESSOR JOÃO BAPTISTA	
PROFESSORA: MARGARETH DE BARROS S.S. DOS SANTOS ENSINO FUNDAMENTAL I ALUNO (A):	TURMA: 5º ANO B TURNO: MATUTINO
COMPONENTE CURRICULAR: HISTÓRIA QUANTIDADE DE AULAS: 2 Aulas OBJETO DE CONHECIMENTO: HABILIDADES: (EF05HI10)	PERÍODO: 08/09/2020 a 1509/2020

educasempre.com

ATIVIDADE AVALIATIVA DE HISTÓRIA

1) OBSERVE AS ILUSTRAÇÕES ABAIXO E FAÇA O QUE SE PEDE:
CONSTRUA UM DESENHO REPRESENTANDO UM PATRIMÔNIO DE SUA CIDADE.

Conhecendo os Patrimônios Culturais da Humanidade!



Crédito das imagens:

Patrimônios Mundiais do Brasil, © UNESCO,

ESTADO DE MATO GROSSO DO SUL
MUNICÍPIO DE LADÁRIO
SECRETARIA MUNICIPAL DE EDUCAÇÃO
ESCOLA MUNICIPAL DE EDUCAÇÃO INFANTIL E
ENSINO FUNDAMENTAL PROFESSOR JOÃO BAPTISTA

ESCOLA: ESCOLA MUNICIPAL PROFESSOR JOÃO BAPTISTA	
PROFESSORA: MARGARETH DE BARROS S.S. DOS SANTOS ENSINO FUNDAMENTAL I ALUNO :	TURMA: 5º ANO B TURNO: MATUTINO
COMPONENTE CURRICULAR: GEOGRAFIA QUANTIDADE DE AULAS: 2 Aulas OBJETO DE CONHECIMENTO: Tipos de poluição HABILIDADES: (EF05GE11)	PERÍODO: 08/09/2020 a 15/09/20

br.pinterest.com

ATIVIDADE AVALIATIVA DE GEOGRAFIA

1) FAÇA UMA PESQUISA SOBRE TIPOS DE POLUIÇÃO:
RECORTE E COLE EM UMA FOLHA.

POLUIÇÃO VISUAL:
POLUIÇÃO SONORA:
POLUIÇÃO DAS ÁGUAS
POLUIÇÃO DO SOLO