ESCOLA MUNICIPAL PROFESSOR JOÃO BAPTISTA
PROFESSORA: JUCENIR LOPES BRAGA.
TURMA: 3º ANO A
ENSINO: FUNDAMENTAL 1 TURNO: MATUTINO.
ALUNO:_____.
COMPONENTE CURRICULAR: MATEMÁTICA
PERÍODO: 31/09/2020 À 09/10/2020
QUANTIDADE DE AULA: 06

Objeto de conhecimento: Figuras Geométricas Planas.
Habilidades: EF03MA015
AGORA VAMOS UTILIZAR O LÁPIS DE COR DO SEU KIT ESCOLAR

ATIVIDADE DE MATEMÁTICA

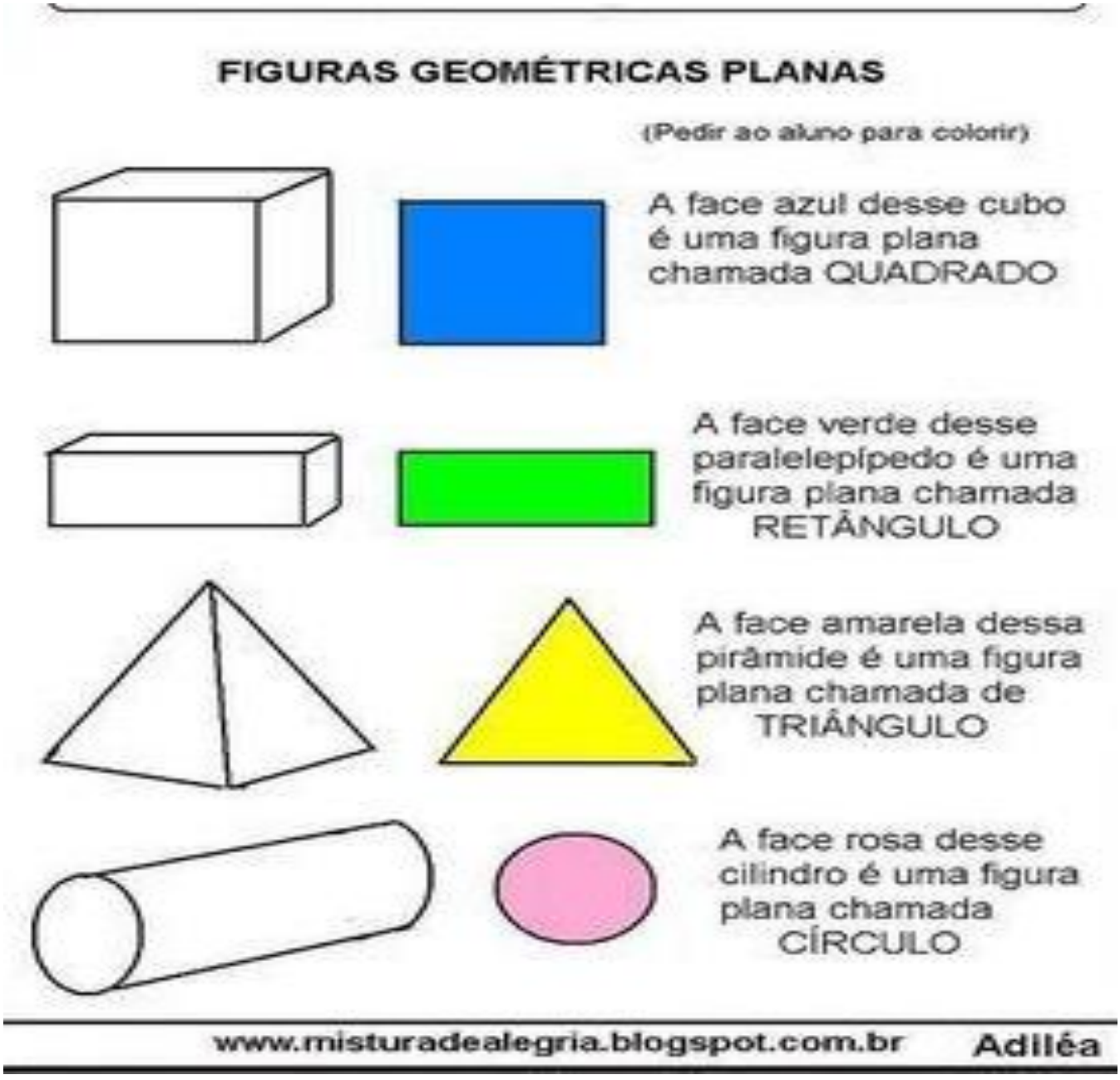

https://br.pinterest.com/pin/772226667326763238/

ESCOLA MUNICIPAL PROFESSOR JOÃO BAPTISTA
PROFESSORA: JUCENIR LOPES BRAGA.
TURMA: 3º ANO A
ENSINO: FUNDAMENTAL 1 TURNO: MATUTINO.
ALUNO:_____.
COMPONENTE CURRICULAR: MATEMÁTICA
PERÍODO: 31/09/2020 À 09/10/2020
QUANTIDADE DE AULA: 06

Objeto de conhecimento: Classificar e Comparar Figuras Geométricas Planas.
Habilidades: EF03MA015
AGORA VAMOS UTILIZAR O LÁPIS DE COR DO SEU KIT ESCOLAR

ATIVIDADE DE MATEMÁTICA

3) Pinte a paisagem assim: os triângulos de vermelho, os círculos de amarelo, os quadrados de azul e os retângulos de laranja. Complete a legenda e indique as quantidades das formas.



Legenda:

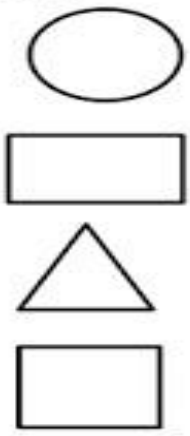

- Agora responda:

a) Quantos triângulos você pintou ?

_____

b) Quantos retângulos ? _____

c) Quantos círculos ? _____

d) Quantos quadrados? _____

e) Qual é o total de figuras que você pintou?

_____

http://roseartseducar.blogspot.com/2015/10/geometria-solidos-geometricos-e-figuras.html

ESCOLA MUNICIPAL PROFESSOR JOÃO BAPTISTA
PROFESSORA: JUCENIR LOPES BRAGA.
TURMA: 3º ANO A
ENSINO: FUNDAMENTAL 1 TURNO: MATUTINO.
ALUNO:_____.
COMPONENTE CURRICULAR: MATEMÁTICA
PERÍODO: 31/09/2020 À 09/10/2020
QUANTIDADE DE AULA: 06

Objeto de conhecimento: Classificar e Comparar Figuras Geométricas Planas.
Habilidades: EF03MA015
AGORA VAMOS UTILIZAR O LÁPIS DE COR DO SEU KIT ESCOLAR

ATIVIDADE DE MATEMÁTICA

1-) LIGUE AO DESENHOS ÀS FIGURAS CORRESPONDENTES:



2-) COMPLETE A CRUZADINHA SOBRE OS SÓLIDOS GEOMÉTRICOS:

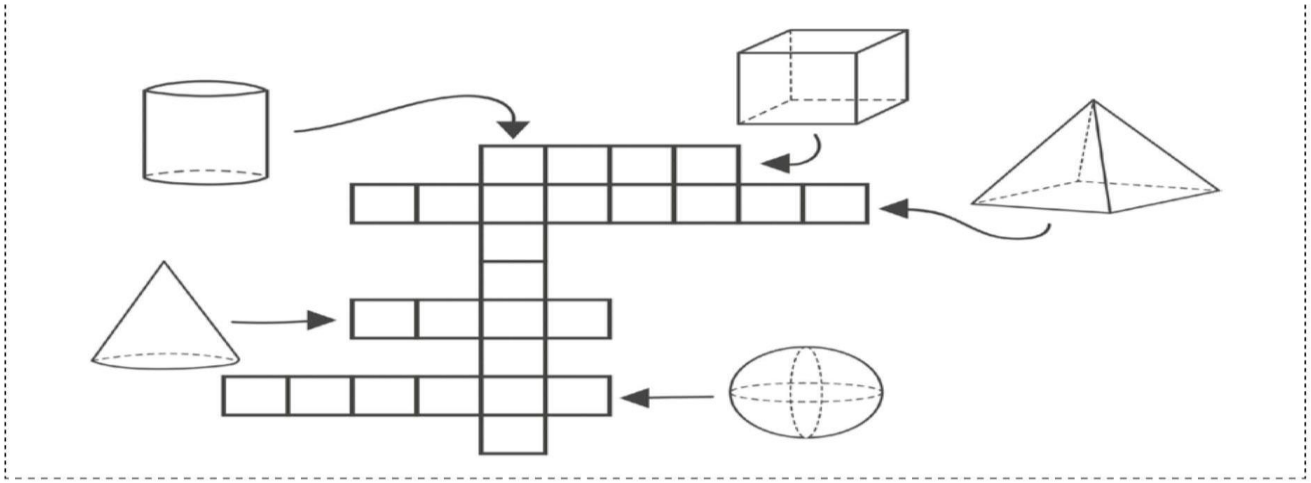

https://br.pinterest.com/pin/655484920745503162/