ESCOLA MUNICIPAL PROFESSOR JOÃO BAPTISTA
PROFESSORA: JUCENIR LOPES BRAGA.
TURMA: 3º ANO A
ENSINO: FUNDAMENTAL 1 TURNO:MATUTINO
ALUNO:_____.
COMPONENTE CURRICULAR: MATEMÁTICA
PERÍODO: 03/11/2020 À 13/11/2020
QUANTIDADE DE AULAS: 07

Objeto de conhecimento: Representar dados em gráficos e tabelas e interpreta-los
Habilidades: EF03MA26

ATIVIDADE DE MATEMÁTICA

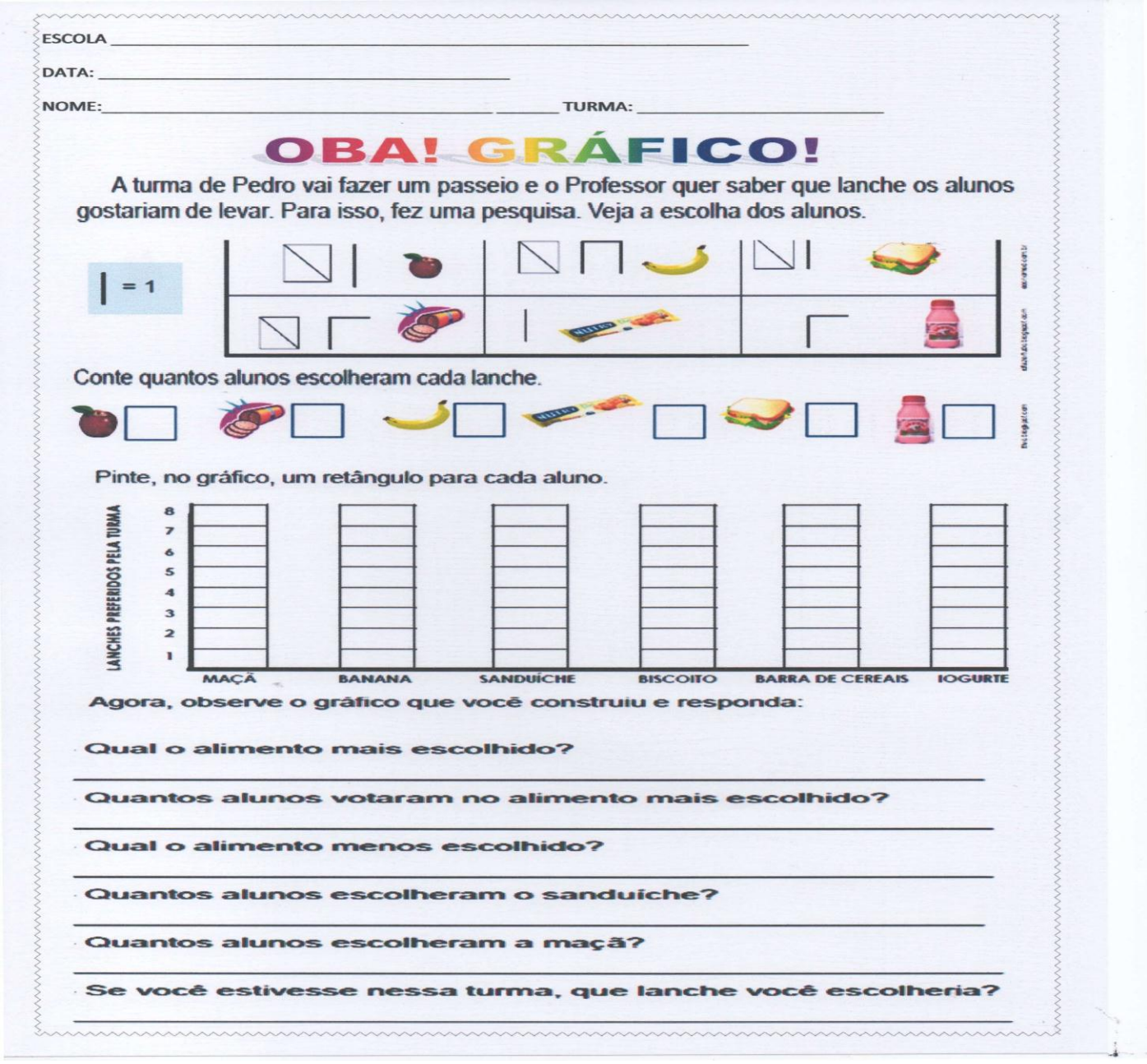

https://br.pinterest.com/pin/772226667326763238/

ESCOLA MUNICIPAL PROFESSOR JOÃO BAPTISTA
PROFESSORA: JUCENIR LOPES BRAGA.
TURMA: 3º ANO A
ENSINO: FUNDAMENTAL 1 TURNO: MATUTINO
ALUNO:_____.
COMPONENTE CURRICULAR: MATEMÁTICA
PERÍODO: 03/11/2020 À 13/11/2020
QUANTIDADE DE AULAS: 07

Objeto de conhecimento: Representar dados em gráficos e tabelas e interpreta-los
Habilidades: EF03MA26

A PARTIDA DE FUTEBOL

PAPAI CEBOLA, O CEBOLINHA E O VOVÔ JOGARAM UMA PARTIDA DE FUTEBOL.

VEJA A QUANTIDADE DE GOLS QUE CADA UM MARCOU:





1-QUEM MARCOU MAIS GOLS ?_____

2-QUEM MARCOU MENOS GOLS ?_____

3-QUAL FOI O TOTAL DE GOLS DESSA PARTIDA ?_____

4-REGISTRE NA TABELA A QUANTIDADE DE GOLS DE CADA UM, REPRESENTANDO COM NÚMEROS E DESENHOS:

PAPAI		
VOVÔ		
CEBOLINHA		

blogdaprofessoraedivania.blogspot.com.br

https://br.pinterest.com/pin/772226667326763238/

ESCOLA MUNICIPAL PROFESSOR JOÃO BAPTISTA
PROFESSORA: JUCENIR LOPES BRAGA.
TURMA: 3º ANO A
ENSINO: FUNDAMENTAL 1 TURNO: MATUTINO
ALUNO:_____.
COMPONENTE CURRICULAR: MATEMÁTICA
PERÍODO: 03/11/2020 À 13/11/2020
QUANTIDADE DE AULAS: 07

Objeto de conhecimento: Representar dados em gráficos e tabelas e interpreta-los
Habilidades: EF03MA26

ATIVIDADE DE MATEMÁTICA

GRÁFICO BRINCANDO COM DADOS

BÁRBARA E SEUS AMIGOS ESTAVAM BRINCANDO DE VER QUEM CONSEGUIA MAIS PONTOS AO LANÇAR UM DADO.

OBSERVE ABAIXO E DESCUBRA QUANTOS PONTOS CADA CRIANÇA CONSEGUIU:



- AGORA, COMPLETE O GRÁFICO ABAIXO DE ACORDO COM O NÚEMRO DE PONTOS, QUE CADA CRIANÇA TIROU, NESTA BRINCADEIRA:

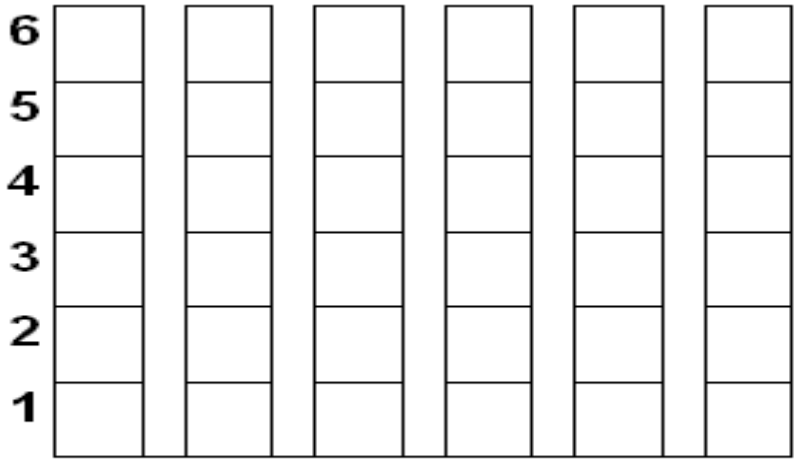

- NOME DA CRIANÇA QUE TIROU O MAIOR NÚMERO: _____

https://br.pinterest.com/pin/655484920745503162/