ESCOLA MUNICIPAL PROFESSOR JOÃO BAPTISTA
PROFESSORA: JUCENIR LOPES BRAGA.
TURMA: 3º ANO A
ENSINO: FUNDAMENTAL 1 TURNO: MATUTINO
ALUNO:_____.
COMPONENTE CURRICULAR: MATEMÁTICA
PERÍODO: 08/09/2020 a 15/09/2020
QUANTIDADE DE AULAS: 5 aulas

Objeto de conhecimento: Utilizar diferentes procedimentos de cálculo mental e escrito envolvendo Adição e Subtração.
Habilidades: MSEF03MA05

ATIVIDADE AVALIATIVA

1-) Arme e efetue as adições e depois coloque os resultados:

		RESULTADO
a) 197 + 458		
b) 156 + 293		
c) 208 + 739		
d) 164 + 278		
e) 135 + 361		
f) 496 + 208		
g) 729 + 185		
h) 258 + 406		
i) 171 + 537		
j) 460 + 294		

A-) 197
+458

https://www.soescola.com/2017/06/atividades-adicao-e-subtracao-2-e-3-ano.html

ESCOLA MUNICIPAL PROFESSOR JOÃO BAPTISTA
PROFESSORA: JUCENIR LOPES BRAGA.
TURMA: 3º ANO A
ENSINO: FUNDAMENTAL 1 TURNO:MATUTINO
ALUNO:_____.
COMPONENTE CURRICULAR: MATEMÁTICA
PERÍODO 08/09/2020 a 15/09/2020.
QUANTIDADE DE AULA: 05 aulas

Objeto de conhecimento: Utilizar diferentes procedimentos de cálculo mental e escrito envolvendo Adição e Subtração.
Habilidades: MSEF03MA05

ATIVIDADE AVALIATIVA

1-) Arme e efetue as subtrações e depois coloque os resultados:

		RESULTADOS
a) 385 - 187		
b) 463 - 225		
c) 728 - 357		
d) 503 - 276		
e) 456 - 391		
f) 389 - 145		
g) 608 - 594		
h) 276 - 137		
i) 354 - 286		
j) 960 -732		

a-) **3 8 5**
- 1 8 7

https://www.soescola.com/2017/06/atividades-adicao-e-subtracao-2-e-3-ano.html

ESCOLA MUNICIPAL PROFESSOR JOÃO BAPTISTA
PROFESSORA: JUCENIR LOPES BRAGA.
TURMA: 3º ANO A
ENSINO: FUNDAMENTAL 1 TURNO: MATUTINO
ALUNO:_____.
COMPONENTE CURRICULAR: MATEMÁTICA
PERÍODO: 16/09/2020 a 30/09/2020
QUANTIDADE DE AULAS:10 aulas

Objeto de conhecimento: Utilizar diferentes procedimentos de cálculo mental e escrito envolvendo Adição e Subtração.

Habilidades: MSEF03MA05

OBSERVAÇÃO: TODAS AS ATIVIDADES DEVERAO SEREM FEITAS COM LETRA CURSIVA
TODAS AS ATIVIDADES DEVERÃO TER O NOME COMPLETO DO ALUNO (A)

ATIVIDADE AVALIATIVA

NAS ÚLTIMAS SEMANAS REALIZAMOS VÁRIAS ATIVIDADES NAS AULAS DE MATEMÁTICA. AGORA VAMOS RELEMBRAR UM POUCO DO QUE PRATICAMOS EM SALA E VER O QUE VOCÊ APRENDEU.

1- EFETUE CORRETAMENTE AS OPERAÇÕES:

5 + 6 = ☐	15 + 3 = ☐	27 + 9 = ☐	59 - 6 = ☐	47 - 5 = ☐

2- AGORA COLOQUE CADA RESULTADO QUE VOCÊ ENCONTROU EM UM QUADRINHO E ESCREVA COMO SE LÊ .

☐ onze
☐ _____
☐ _____
☐ _____
☐ _____

https://www.atividadesmatematica.com/2016/05/avaliacao-de-matematica-adaptada-para-3ano.html

ESCOLA MUNICIPAL PROFESSOR JOÃO BAPTISTA
PROFESSORA: JUCENIR LOPES BRAGA.
TURMA: 3º ANO A
ENSINO: FUNDAMENTAL 1 TURNO: MATUTINO
ALUNO:_____.
COMPONENTE CURRICULAR: MATEMÁTICA
PERÍODO: 16/09/2020 a 30/09/2020.
QUANTIDADE DE AULAS :10 aulas

Objeto de conhecimento: Utilizar diferentes procedimentos de cálculo mental e escrito envolvendo Adição e Subtração
Habilidades: MSEF03MA05

TODAS AS ATIVIDADES DEVERÃO TER O NOME COMPLETO DO ALUNO (A).

ATIVIDADE AVALIATIVA

Verificação da Aprendizagem em Matemática

1. Continue a sequência dos números:

50 ____ 70 ____ 90 ____ 110 ____ 130 ____ 150 ____

200 ____ 220 ____ 240 ____ 260 ____ 280 ____ 300

____ 510 ____ 530 ____ ____ 560 ____ 580 ____ ____

700 ____ 720 ____ ____ 750 ____ 770 ____ 790 ____

2. Observe os números abaixo:

135 - 130 - 132 - 134 - 138

A ordem crescente destes números é:

☐ 138 - 132 - 130 - 134 - 135
☐ 135 - 130 - 132- 138 - 135
☐ 130 - 132 - 134 - 135 - 138
☐ 138 - 135 - 134 - 132 - 130

3. A escrita do número 529 por extenso é:

☐ duzentos e vinte novembro
☐ noventa e dois
☐ cinquenta e nove
☐ quinhentos e vinte e nove

4. Escreva os numerais:

duzentos e quarenta e sete ☐
seiscentos e trinta e seis ☐
trezentos e dois ☐
cento e trinta ☐

https://br.pinterest.com/pin/341710690476939409/

ESCOLA MUNICIPAL PROFESSOR JOÃO BAPTISTA
PROFESSORA: JUCENIR LOPES BRAGA.
TURMA: 3º ANO A
ENSINO: FUNDAMENTAL 1 TURNO: MATUTINO
ALUNO:_____.
COMPONENTE CURRICULAR: MATEMÁTICA
PERÍODO: 16/09/2020 a 30/09/2020
QUANTIDADE DE AULAS: 10 aulas

Objeto de conhecimento: Utilizar diferentes procedimentos de cálculo mental e escrito envolvendo Adição e Subtração
Habilidades: MSEF03MA05
OBSERVAÇÃO:TODAS AS ATIVIDADES DEVERÃO TER O NOME COMPLETO DO ALUNO (A).
RESPONDA NA FOLHA E COPIE COM LETRA CURSIVA NO CADERNO:

ATIVIDADE AVALIATIVA

Resolva os problemas.

	CÁLCULOS
O ônibus da escola de Mariana tem capacidade para 30 alunos. Hoje apenas 22 alunos foram. Quantos alunos faltaram? 	
Na casa de Mateus têm 10 laranjeiras, 1 mangueira, 2 limoeiros, 12 aceroleiras e 2 bananeiras. Quantas árvores tem na casa de Mateus, no total? 	
Junior tem uma coleção de carrinhos de brinquedos com 128 carrinhos. Ele quer dividi-los igualmente em quatro prateleiras. Quantos carrinhos cada prateleira terá? 	
Se a previsão é de que o dia amanheça em 20°C e passe para 33°C ao longo do dia. Quantos graus irá subir? 	

https://br.pinterest.com/pin/341710690476939409/