Escola Municipal Professor João Baptista.

Ladário, ----- de novembro de 2020.

Aluno(a): _____ 4ºA

Professora: LEIDE LAURA

ATIVIDADE DE GEOGRAFIA

COMPETÊNCIAS E HABILIDADES: EF02GE07

CONTEÚDOS: Indústria Extrativista

INDÚSTRIA EXTRATIVISTA



Leia as palavras do quadro e complete o que se pede.

minério de ferro • madeira • erva-mate • bauxita
caça • manganês • carvão • cobre • pesca
borracha • ouro • babaçu • carnaúba

1- Indústria extrativa vegetal: _____.

2- Indústria extrativa animal: _____.

3- Indústria extrativa mineral: _____

_____.

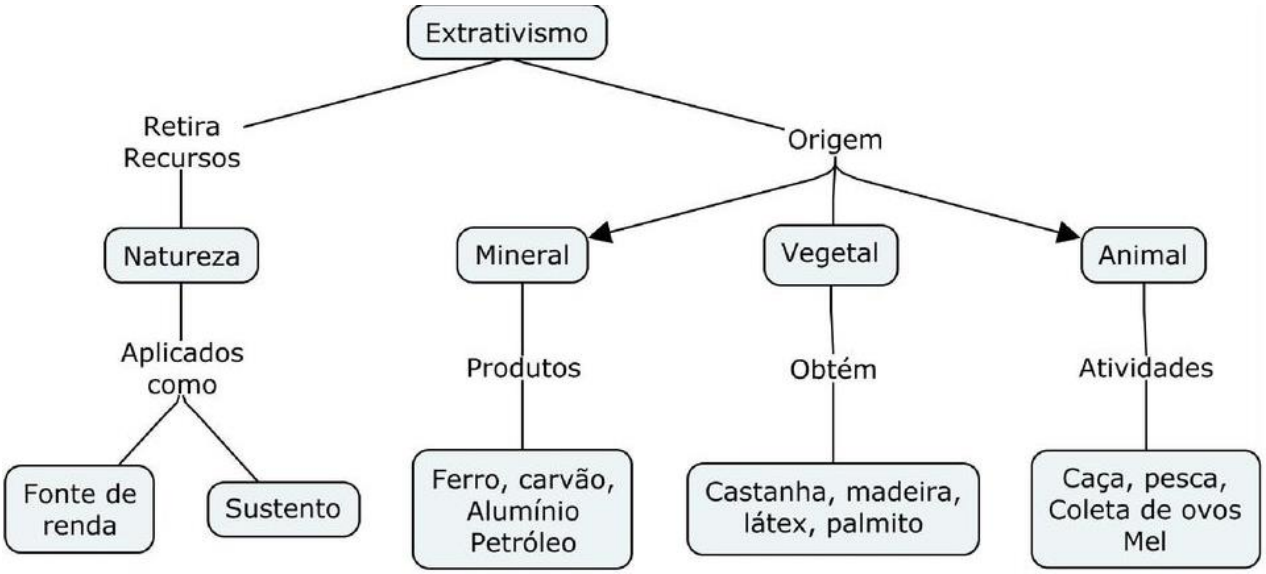

Complete as frases.

• O extrativismo _____ é a retirada de animais do ambiente.

• O extrativismo _____ é a retirada, da natureza, de produtos de origem mineral.

• O extrativismo _____ é retirada de produtos vegetais.

Identifique o tipo de extrativismo nas fotos abaixo





_____ _____

FONTE: www.docplayer.com.br

Escola Municipal Professor João Baptista.

Ladário, --- de novembro de 2020.

Aluno(a): _____ 4ºA

Professora: LEIDE LAURA

ATIVIDADE AVALIATIVA DE HISTÓRIA

COMPETÊNCIAS E HABILIDADES: EI03E06

CONTEÚDOS: Consciência Negra

O herói negro

O dia 20 de novembro é muito especial para população negra brasileira. É a data em que o Brasil reverencia o heroísmo de Zumbi de Palmares, símbolo maior da resistência e da luta dos negros contra a escravidão.

Zumbi nasceu livre em Palmares no ano de 1655, mas foi capturado ainda bebê e entregue a um padre jesuíta. Batizado com o nome de Francisco, ele teve educação cristã e estudou português e latim. Mas não abandonou as raízes.Com 15 anos, Zumbi voltou ao Quilombo dos Palmares, onde se tornou estrategista militar.

Em 20 de novembro de 1695, depois de ser traído por um companheiro, foi preso e morto pelas tropas portuguesas.

O Quilombo dos Palmares estava localizado na região da Serra da Barriga, que atualmente, faz parte do munícipio de UNIÃO DOS PALMARES no estado de ALAGOAS.

Era constituído por quilombolas (escravos fugitivos das fazendas que viviam nos quilombos) que tinham sido escravos em fazendas das capitanias da Bahia e Pernambuco. Tornou-se símbolo da resistência negra à escravidão.

1) Coloque (V) se for verdadeiro ou (F) se for falso:

( ) Zumbi não representa nada para os negros brasileiros.
( ) Com 19 anos, Zumbi voltou ao Quilombo dos Palmares.
( ) O quilombo era situado no interior da Bahia.
( ) Zumbi nasceu em 1655.

---

2) Zumbi dos Palmares é considerado como o:

( ) médico do futuro
( ) homem negro
( ) herói negro

---

4) No dia 20 de novembro é comemorado:

( ) O dia da Pátria
( ) O dia de Zumbi
( ) O dia da Consciência Negra



FONTE: www.pedagogasdapaz.blogspot.com

Escola Municipal Professor João Baptista.

Ladário, ---- de novembro de 2020.

Aluno(a): _____ 4º A

Professora: LEIDE LAURA

ATIVIDADE DE MATEMÁTICA

COMPETÊNCIAS E HABILIDADES: EF04MA27

CONTEÚDOS: Gráficos

Observe no gráfico de uma fábrica de doces a quantidade vendida em uma semana e responda.

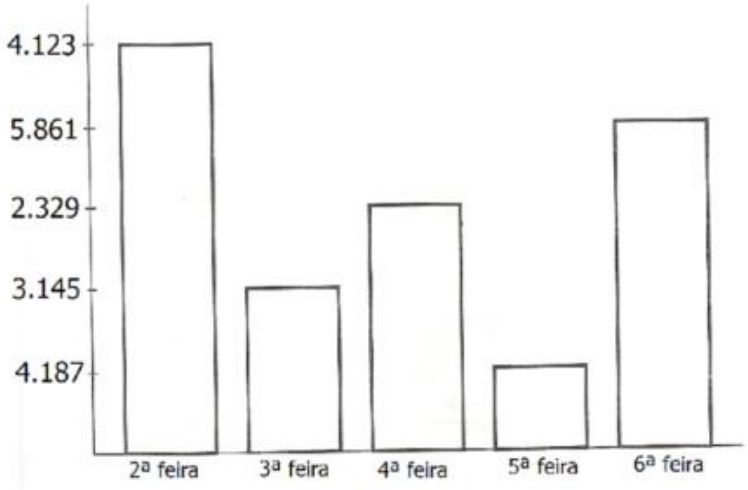



1 – Quantos doces foram vendidos nos três primeiros dias da semana? _____.

2 – Qual dia da semana foi vendido mais doces? _____ .

3 – E menos doces? _____.

4 – Quantos doces ao todo foram vendidos nesta semana? _____

5 – Na semana anterior foi vendido o dobro desta quantidade. Quantos doces foram vendidos? _____ .

6 – Qual a diferença de quantidade de doces entre segunda-feira e quarta-feira? _____ .

7 – Quais dias juntos, foram vendidos mais doces: segunda e terça ou quarta e sexta? _____ .

FONTE: www.ideiacriativa.com.br

ESCOLA MUNICIPAL PROFESSOR JOÃO BAPTISTA
DATA:_____/_____/_____
PROF:_____TURMA: 4º ANO A
NOME:_____

ESTATÍSTICA E MEDIDA DE CAPACIDADE

1)Gilberto trabalha em uma empresa de reciclagem. Ele registrou no gráfico abaixo a quantidade de material reciclável coletado durante um mês nessa empresa.

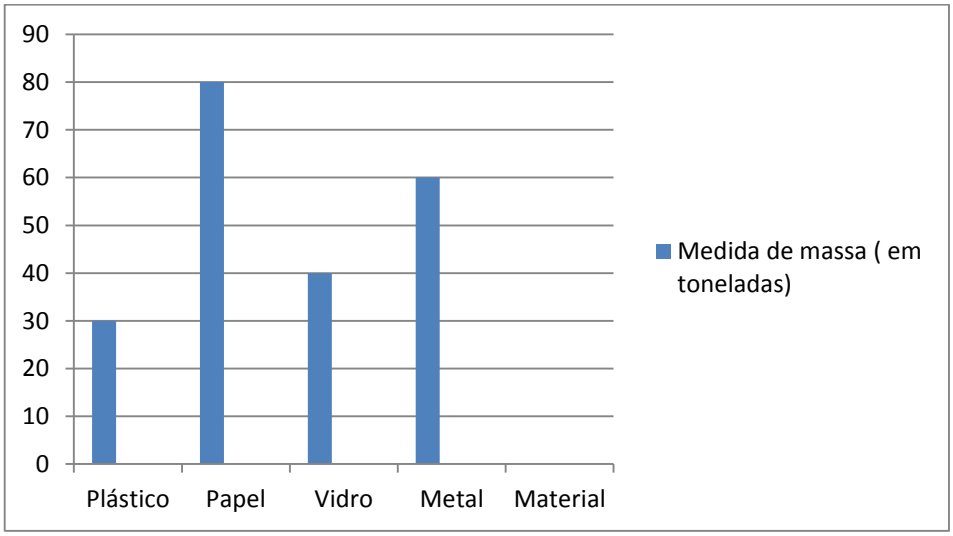

a)Qual foi o material mais coletado pela empresa nesse mês?
R:

b)Qual foi o material menos coletado?
R:

c)Quantas toneladas de vidro foram coletadas?
R:

d)Quantos quilogramas de plástico foram coletados?
R:

e) No total foram coletadas mais ou menos do que 200 toneladas de material reciclável?
R:

2)O mililitro(mL) e o litro(L) são unidades padronizadas de medida de capacidade. As caixas e as garrafas de leite que são vendidas em supermercados e padarias têm, geralmente, medida de capacidade de 1 litro (1 L). Observe os valores do litro(L) e do mililitro(mL).



1 L = 1000 mL

Responda:

a)6000 mL = _____ L

b)2L e 900mL = _____ Ml

3)Gustavo tem um vasilhame com medida de capacidade de 5 litros e outro com medida de capacidade de 3 litros. Como ele deve fazer para que um deles fique com 1 litro de água dentro, usando apenas esses vasilhames?

R:

4)Observe os objetos abaixo e assinale os quadrinhos dos que têm medida de capacidade menor que 1 litro.

☐ 

XÍCARA DE CAFÉ

☐ 

PIA

☐ 

CONCHA

Escola Municipal Professor João Baptista.
Ladário, ----- de novembro de 2020.
Aluno(a): _____ 4ºA
Professora: LEIDE LAURA

PRODUÇÃO DE TEXTO

COMPETÊNCIAS E HABILIDADES: EF04LP05
CONTEÚDOS: Produção de Texto

1. Observe os quadrinhos e faça a narrativa dos acontecimentos de forma coerente.







2. O que são tirinhas?

3. Que título interessante você daria á história?

4. Você conhece o personagem principal da história acima? Descreva-o?

FONTE: www.ideiacriativa.com.br

ESCOLA MUNICIPAL PROFESSOR JOÃO BAPTISTA.
DATA:_____/_____/_____
PROF:_____TURMA:_____
NOME:_____
HABILIDADE: EF05LP01

Emprego do **AM** e **ÃO**

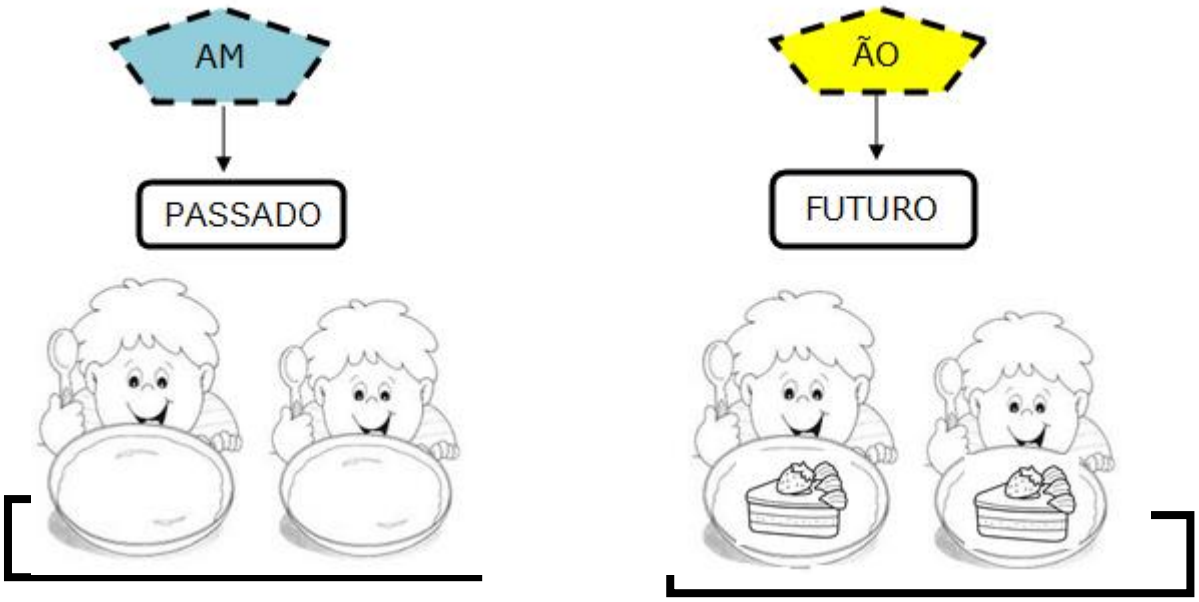

Note que quando a palavra indica passado termina com **AM**.

E quando ela indica futuro termina com **ÃO**.

Exemplos:

Elas for**am** passear no parque. (passado)

Elas ir**ão** passear no parque.(futuro)

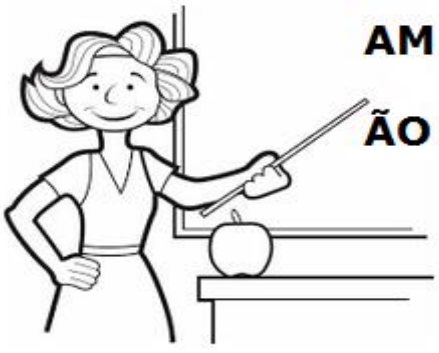

assado para o futuro.

o felizes.
o felizes.

ate.
kate.

d.Pedro e Marcos se reuniram ontem?
Pedro e Marcos se _____ amanhã?

e.Marla e Perla venceram o jogo ontem.
Marla e Perla _____ o jogo amanhã, com certeza.

f.Carlos e Cristiano bateram na porta.
Carlos e Cristiano _____ na porta amanhã.

2.Complete as frases abaixo com palavras que terminam em **AM** ou **ÃO**.

a.Matheus e Kauan _____ poucos peixes ontem. (pescar)

b.Os pássaros _____ todo dia na minha janela.(cantar)

c.Porque as crianças não _____ a panqueca?(comer)

d.Amanhã os monitores nos _____ na trilha. (acompanhar)

e.Amanhã vocês _____ o vestibular em Campinas? (fazer)

f.Os atletas _____ avaliados hoje pelos técnicos. (ser)

g.Aqueles que conseguirem concluir a atividade _____ ir ao pátio jogar bola.
(poder)

h.Onde vocês _____ com essas propostas? (chegar)

i.Os candidatos se _____ ao palco demonstrando muito nervosismo.
(apresentar)

j.Os meninos _____ atrasados amanhã.(chegar)

k.Catarina e Verusca _____ amanhã para o passeio na floresta.(sair)

3.Encontre no caça-palavras os seguintes verbos: dançarão, assistiram, andarão,escorregarão, ficaram, dormirão, pegarão, tomaram, comerão, dormirão, perderam, voarão, em seguida, classifique-os na tabela abaixo:

P	D	B	Z	A	D	U	L	L	E	Z	J	K	A	I	E	Q
T	E	O	U	R	D	U	H	T	O	U	F	W	T	R	I	O
A	E	R	R	G	P	K	D	O	A	I	O	D	G	X	A	A
B	S	Y	D	M	C	D	A	N	Ç	A	R	Ã	O	E	F	B
F	D	S	M	E	I	O	E	I	E	C	V	E	A	E	P	T
O	O	I	I	E	R	R	I	L	V	Z	L	S	N	U	E	O
Q	S	O	W	S	E	A	Ã	Y	H	O	W	C	D	P	G	M
E	I	O	P	D	T	R	M	O	Q	I	A	O	A	A	A	A
F	D	S	B	O	E	I	B	T	Y	E	E	R	R	X	R	R
E	I	R	E	R	U	Y	R	V	B	F	Y	R	Ã	V	Ã	A
W	I	C	C	M	I	U	A	A	I	W	H	E	O	O	O	M
V	W	Q	A	I	U	V	B	U	M	B	U	G	M	K	M	U
X	E	Q	Q	R	K	C	B	G	Y	T	O	A	M	H	D	U
D	R	U	U	Ã	A	C	O	J	U	E	O	R	K	K	X	M
D	U	S	R	O	W	M	M	Z	Y	A	W	Ã	K	W	G	J
D	C	O	M	E	R	Ã	O	P	M	E	B	O	Y	Q	J	C
S	W	Y	W	C	I	I	B	U	C	L	O	Q	K	T	W	J

PASSADO	FUTURO



4.Encontre 10 verbos terminados em **AM** e **ÃO** e cole no verso da folha. Em seguida, forme frases com eles. Bom trabalho!