Escola Municipal Professor João Baptista.

Ladário, --- de novembro de 2020.

Aluno(a): _____ 4ºA

Professora: LEIDE LAURA

ATIVIDADE AVALIATIVA DE GEOGRAFIA

COMPETÊNCIAS E HABILIDADES: EF03GE09

CONTEÚDOS: Recursos Naturais

1-) Leia a poesia abaixo e depois responda:



2. O HOMEM ESTÁ DESTRUINDO OS RECURSOS NATURAIS QUE GARANTEM A NOSSA EXISTÊNCIA. ESCREVA O QUE É POSSÍVEL FAZER PARA CONSERVAR ESTES RECURSOS:

AR:_____
_____
_____

SOLO:_____
_____
_____

3. CITE ALGUMAS ALGUMAS FORMAS DE POLUIÇÃO DO AR QUE DEVEM SER EVITADAS EM SUA CIDADE:

_____
_____
_____
_____

FONTE:www.slideshare.net

Escola Municipal Professor João Baptista.

Ladário, ____de novembro de 2020.

Aluno(a): _____ 4ºA

Professora: LEIDE LAURA

ATIVIDADE AVALIATIVA DE HISTÓRIA

COMPETÊNCIAS E HABILIDADES: EF04HI09

CONTEÚDO: Proclamação da República

A Proclamação da República

O Império não agradava a muitos brasileiros, que desejavam escolher seus próprios representantes para governar o país. Eles queriam a República. Isto é, um governo dirigido por um presidente.

Aconselhado pelos políticos do Partido Republicano, o Marechal Deodoro da Fonseca ocupou o Quartel General no Rio de Janeiro e proclamou a República no Brasil, no dia 15 de novembro de 1889. Terminava assim o Segundo Império.

No dia 16 de novembro foi formado o Governo Provisório, chefiado pelo Marechal Deodoro da Fonseca.

Dom Pedro II e a família real tiveram que deixar o Brasil.

Em 19 de novembro de 1889 foi criada a atual Bandeira Brasileira, símbolo de nossa Pátria.

Até hoje o Brasil adota a República como forma de governo, sendo dirigido por um presidente.

1- Responda:

a) O que é república?

_____

_____

b) Quem era o Imperador do Brasil?

_____

c) O que o Partido Republicano aconselho aconselhou Deodoro da Fonseca fazer?

_____

_____

_____

d) O que aconteceu com D. Pedro II e a família real?

_____

_____



FONTE: www.pinterest.com

Escola Municipal Professor João Baptista.
Ladário, ___de novembro de 2020.
Aluno(a): _____ 4ºA
Professora: LEIDE LAURA

ATIVIDADE AVALIATIVA DE MATEMÁTICA

COMPETÊNCIAS E HABILIDADES: EF04MA12

CONTEÚDOS: DIVISÃO

ARME E RESOLVA

32 | 5	85 | 6	91 | 7	24 | 5
39 | 8			88 | 3
63 | 3			14 | 5
24 | 3	21 | 8	22 | 5	41 | 8

FONTE: www.pedagogasdapaz.blogspot.com

Escola Municipal Professor João Baptista.
Ladário, de novembro de 2020.
Aluno(a): _____ 4ºA
Professora: LEIDE LAURA

ATIVIDADE AVALIATIVA DE MATEMÁTICA

COMPETÊNCIAS E HABILIDADES: EF04MA04

CONTEÚDOS: Multiplicação

Descobrindo Fatos

♦ Complete a tabela, escrevendo o fato de multiplicação correspondente ao seu produto:

⬡ x ⬡ = 6	⬠ x ⬠ = 18	⬭ x ⬭ = 36
⬡ x ⬡ = 10	⬠ x ⬠ = 24	⬭ x ⬭ = 32
⬡ x ⬡ = 15	⬠ x ⬠ = 9	⬭ x ⬭ = 12
⬡ x ⬡ = 24	⬠ x ⬠ = 12	⬭ x ⬭ = 21
⬡ x ⬡ = 8	⬠ x ⬠ = 40	⬭ x ⬭ = 5



- Resolva os fatos fundamentais abaixo:

28 x 6	26 x 5	32 x 3	134 x 4	16 x 8	19 x 9	14 x 2
32 x 7	46 x 8				53 x 5	58 x 5
96 x 6	48 x 5				46 x 10	59 x 10
29 x 7	32 x 8				31 x 10	37 x 5
36 x 7	45 x 5				36 x 9	51 x 7
46 x 3	36 x 5	49 x 6	36 x 7	42 x 8	56 x 7	35 x 8



FONTE: www.pinterest.com.br

Escola Municipal Professor João Baptista.

Ladário, ----- de novembro de 2020.

Aluno(a): _____ 4ºA

Professora: LEIDE LAURA

ATIVIDADE DE MATEMÁTICA

COMPETÊNCIAS E HABILIDADES: EF01MA19

CONTEÚDOS: Sistema Monetário Brasileiro

QUAL É O TROCO?

✎ Paulo comprou uma bola. Ele deu uma nota de R$ 10,00. Quanto ele recebeu de troco?



Resposta: Ele recebeu R$ 5,20 de troco.

✎ Agora faça o mesmo, completando o quadro abaixo:

Você comprou	Deu em dinheiro	Recebeu de troco
 R$ 9,50	R$ 20,00	
 R$ 33,80	R$ 50,00	
 R$ 159,00	R$ 200,00	
 R$ 52,90	R$ 100,00	
 R$ 41,70	R$ 50,00	

- Leia e responda as questões:

Tiago foi à loja de brinquedos, comprou um carrinho e pagou com uma nota de  **(*20 reais*).**

Observe os valores dos brinquedos e depois responda às questões abaixo:

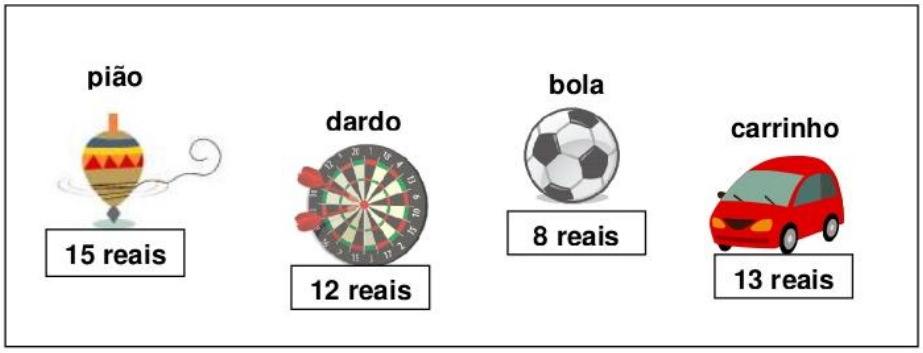

a) Tiago recebeu troco?

_____

b) De quanto foi o troco de Tiago?

_____

c) Se Tiago tivesse escolhido o dardo e a bola daria para ele pagar?

_____

d) Sobraria troco?

_____

e) Qual brinquedo Tiago poderia comprar para ter 5 reais de troco?

_____

FONTE: www.atividadesmatematica.com.br

Escola Municipal Professor João Baptista.

Ladário, ___ de novembro de 2020.

Aluno(a): _____ 4ºA

Professora: LEIDE LAURA

ATIVIDADE AVALIATIVA DE PORTUGUÊS

COMPETÊNCIAS E HABILIDADES: EF02LP11

CONTEÚDOS: Grau do Substantivo

❖ Forme o diminutivo das palavras usando zinho ou zinha :


pão .....


anel .....


pé .....


avião .....


mão .....


pastel .....


flor .....


balão .....

❖ Copie as frases, trocando os desenhos por palavras no diminutivo.

✸ Que  lindo eu ganhei da minha mãe!

.....

✸ Ana tem uma  muito útil.

• Veja as palavras abaixo e escreva-as nos quadros, classificando-as quanto *ao grau:*

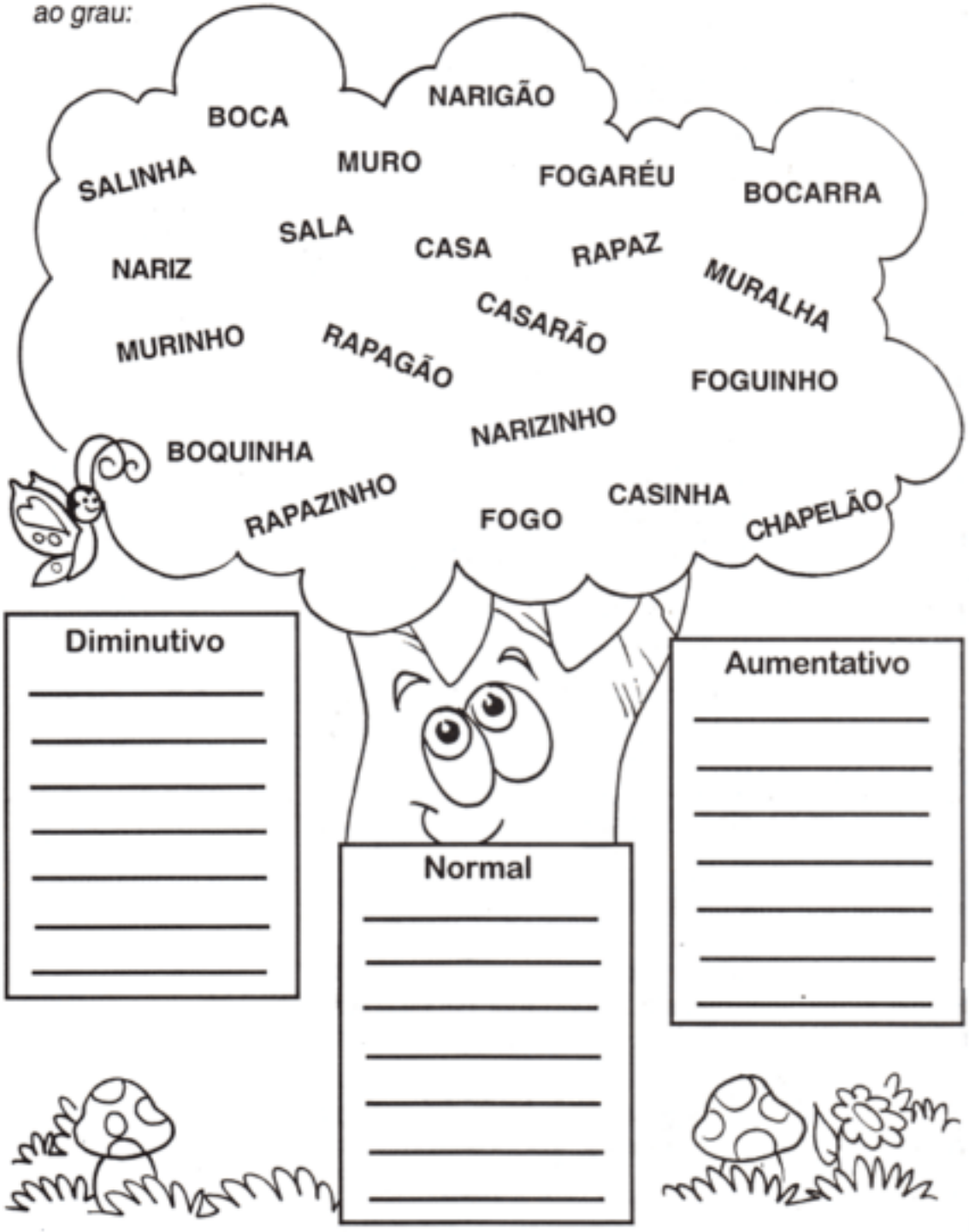

FONTE: www.pedagogasdapaz.blogspot.com

Escola Municipal Professor João Baptista.

Ladário, ---- de novembro de 2020.

Aluno(a): _____ 4ª A

Professora: LEIDE LAURA

LEITURA E INTERPRETAÇÃO DE TEXTO

COMPETÊNCIAS E HABILIDADES: EF04LP34

CONTEÚDOS: Leitura e Interpretação de Texto.

MARIANA...



O mundo de Mariana é mar, rio e ar...

Mariana é negra, alegre, sonhadora e gosta de sua cor.

Mariana carrega no nome o mar, o rio e ri o tempo todo.

Na escola, a professora conta que os negros vieram lá da África. Vieram como escravos.



A menina sonha com a liberdade. Seu sonho atravessa o Oceano Atlântico e encontra a Mãe – África linda e livre.

Mariana é mar, rio, ar e voa na imaginação.

Trecho extraído da obra Meninas Negras de Madu Costa
Editora Maza Ediçoes

---

1. A menina da história chama – se:

( ) Maria
( ) Marina
( ) Mariana
( ) Mari



---

2. O mundo de Mariana é:

( ) Marca, rio e mar
( ) Março, rindo e ar
( ) Mar, rio e ar

3. Mariana é uma menina:
( ) parda
( ) negra
( ) branca

4.Complete:
a)Mariana é _____ , _____ ,
e gosta de sua cor.

---

b) A menina sonha com a _____ .

---

c) Mariana é _____ , _____ , _____ e
voa na imaginação.

5.Mariana sonha:
( ) Com um mundo mais justo.
( ) Com a liberdade.
( ) Ter uma boneca.
( ) Ganhar uma bicicleta.

---

6. Na frase" **Na escola**, a professora conta que os negros vieram da África. A expressão grifada indica:
( ) Lugar
( ) Tempo
( ) Causa
( ) Modo

---

7. Mariana aprende que os negros vieram da:
( ) Europa ( ) África
( ) Ásia ( ) América

FONTE: www.pinterest.com