Escola Municipal Professor João Baptista.

Ladário, 16 de novembro de 2020.

Aluno(a): _____ 4ºB

Professora: Marislei V. Santos Cardoso.

ATIVIDADE AVALIATIVA DE MATEMÁTICA

COMPETÊNCIAS E HABILIDADES: EF04MA12

CONTEÚDOS: DIVISÃO

ARME E RESOLVA

32 | 5	85 | 6	91 | 7	24 | 5
39 | 8			88 | 3
63 | 3			14 | 5
24 | 3	21 | 8	22 | 5	41 | 8

FONTE: www.pedagogasdapaz.blogspot.com

Escola Municipal Professor João Baptista.

Ladário, 16 de novembro de 2020.

Aluno(a): _____ 4ºB

Professora: Marislei V. Santos Cardoso.

ATIVIDADE AVALIATIVA DE PORTUGUÊS

COMPETÊNCIAS E HABILIDADES: EF02LP11

CONTEÚDOS: Grau do Substantivo

❖ Forme o diminutivo das palavras usando zinho ou zinha :


pão .....


anel .....


pé .....


avião .....


mão .....


pastel .....


flor .....


balão .....

❖ Copie as frases, trocando os desenhos por palavras no diminutivo.

✸ Que  lindo eu ganhei da minha mãe!

✸ Ana tem uma  muito útil.

• Veja as palavras abaixo e escreva-as nos quadros, classificando-as quanto *ao grau:*

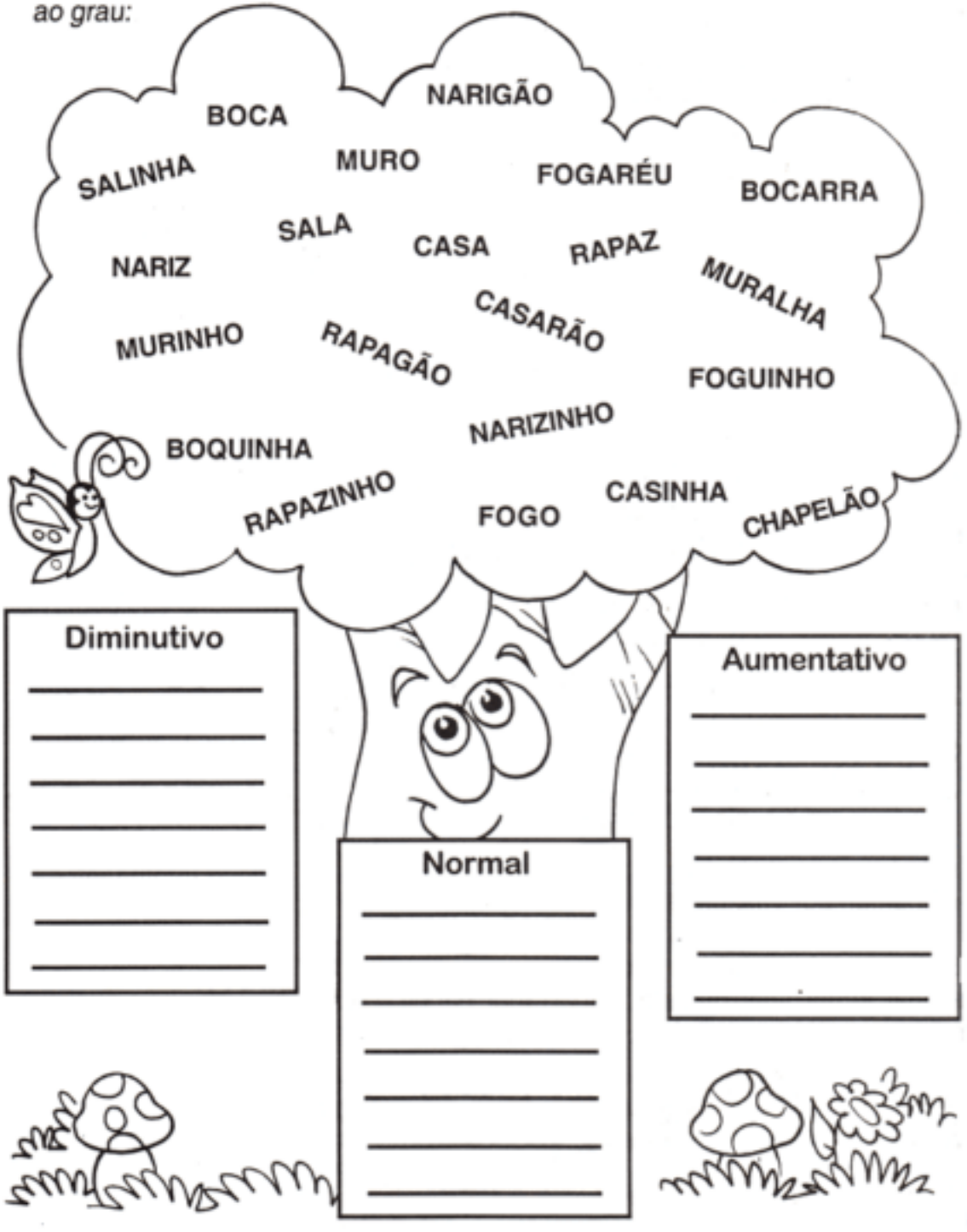

FONTE: www.pedagogasdapaz.blogspot.com

Escola Municipal Professor João Baptista.

Ladário, 17 de novembro de 2020.

Aluno(a): _____ 4ºB

Professora: Marislei V. Santos Cardoso.

ATIVIDADE AVALIATIVA DE MATEMÁTICA

COMPETÊNCIAS E HABILIDADES: EF04MA04

CONTEÚDOS: Multiplicação

Descobrindo Fatos

♦ Complete a tabela, escrevendo o fato de multiplicação correspondente ao seu produto:

⬡ x ⬡ = 6	⬠ x ⬠ = 18	⬭ x ⬭ = 36
⬡ x ⬡ = 10	⬠ x ⬠ = 24	⬭ x ⬭ = 32
⬡ x ⬡ = 15	⬠ x ⬠ = 9	⬭ x ⬭ = 12
⬡ x ⬡ = 24	⬠ x ⬠ = 12	⬭ x ⬭ = 21
⬡ x ⬡ = 8	⬠ x ⬠ = 40	⬭ x ⬭ = 5



- Resolva os fatos fundamentais abaixo:

28 x 6	26 x 5	32 x 3	134 x 4	16 x 8	19 x 9	14 x 2
32 x 7	46 x 8				53 x 5	58 x 5
96 x 6	48 x 5				46 x 10	59 x 10
29 x 7	32 x 8				31 x 10	37 x 5
36 x 7	45 x 5				36 x 9	51 x 7
46 x 3	36 x 5	49 x 6	36 x 7	42 x 8	56 x 7	35 x 8



FONTE: www.pinterest.com.br

Escola Municipal Professor João Baptista.

Ladário, 17 de novembro de 2020.

Aluno(a): _____ 4ºB

Professora: Marislei V. Santos Cardoso.

LEITURA E INTERPRETAÇÃO DE TEXTO

COMPETÊNCIAS E HABILIDADES: EF04LP34

CONTEÚDOS: Leitura e Interpretação de Texto.

MARIANA...



O mundo de Mariana é mar, rio e ar...

Mariana é negra, alegre, sonhadora e gosta de sua cor.

Mariana carrega no nome o mar, o rio e ri o tempo todo.

Na escola, a professora conta que os negros vieram lá da África. Vieram como escravos.



A menina sonha com a liberdade. Seu sonho atravessa o Oceano Atlântico e encontra a Mãe – África linda e livre.

Mariana é mar, rio, ar e voa na imaginação.

Trecho extraído da obra Meninas Negras de Madu Costa
Editora Maza Ediçoes

---

1. A menina da história chama – se:

( ) Maria
( ) Marina
( ) Mariana
( ) Mari



---

2. O mundo de Mariana é:

( ) Marca, rio e mar
( ) Março, rindo e ar
( ) Mar, rio e ar

3. Mariana é uma menina:
( ) parda
( ) negra
( ) branca

4.Complete:
a)Mariana é _____ , _____ ,
e gosta de sua cor.

---

b) A menina sonha com a _____ .

---

c) Mariana é _____ , _____ , _____ e
voa na imaginação.

5.Mariana sonha:
( ) Com um mundo mais justo.
( ) Com a liberdade.
( ) Ter uma boneca.
( ) Ganhar uma bicicleta.

---

6. Na frase" **Na escola**, a professora conta que os negros vieram da África. A expressão grifada indica:
( ) Lugar
( ) Tempo
( ) Causa
( ) Modo

---

7. Mariana aprende que os negros vieram da:
( ) Europa ( ) África
( ) Ásia ( ) América

FONTE: www.pinterest.com

Escola Municipal Professor João Baptista.

Ladário, 17 de novembro de 2020.

Aluno(a): _____ 4ºB

Professora: Marislei V. Santos Cardoso.

ATIVIDADE AVALIATIVA DE GEOGRAFIA

COMPETÊNCIAS E HABILIDADES: EF03GE09

CONTEÚDOS: Recursos Naturais

1-) Leia a poesia abaixo e depois responda:



2. O HOMEM ESTÁ DESTRUINDO OS RECURSOS NATURAIS QUE GARANTEM A NOSSA EXISTÊNCIA. ESCREVA O QUE É POSSÍVEL FAZER PARA CONSERVAR ESTES RECURSOS:

AR:_____
_____
_____

SOLO:_____
_____
_____

3. CITE ALGUMAS ALGUMAS FORMAS DE POLUIÇÃO DO AR QUE DEVEM SER EVITADAS EM SUA CIDADE:

_____
_____
_____
_____

FONTE:www.slideshare.net

Escola Municipal Professor João Baptista.

Ladário, 20 de novembro de 2020.

Aluno(a): _____ 4ºB

Professora: Marislei V. Santos Cardoso.

ATIVIDADE AVALIATIVA DE HISTÓRIA

COMPETÊNCIAS E HABILIDADES: EI03E06

CONTEÚDOS: Consciência Negra

O herói negro

O dia 20 de novembro é muito especial para população negra brasileira. É a data em que o Brasil reverencia o heroísmo de Zumbi de Palmares, símbolo maior da resistência e da luta dos negros contra a escravidão.

Zumbi nasceu livre em Palmares no ano de 1655, mas foi capturado ainda bebê e entregue a um padre jesuíta. Batizado com o nome de Francisco, ele teve educação cristã e estudou português e latim. Mas não abandonou as raízes.Com 15 anos, Zumbi voltou ao Quilombo dos Palmares, onde se tornou estrategista militar.

Em 20 de novembro de 1695, depois de ser traído por um companheiro, foi preso e morto pelas tropas portuguesas.

O Quilombo dos Palmares estava localizado na região da Serra da Barriga, que atualmente, faz parte do munícipio de UNIÃO DOS PALMARES no estado de ALAGOAS.

Era constituído por quilombolas (escravos fugitivos das fazendas que viviam nos quilombos) que tinham sido escravos em fazendas das capitanias da Bahia e Pernambuco. Tornou-se símbolo da resistência negra à escravidão.

1) Coloque (V) se for verdadeiro ou (F) se for falso:
( ) Zumbi não representa nada para os negros brasileiros.
( ) Com 19 anos, Zumbi voltou ao Quilombo dos Palmares.
( ) O quilombo era situado no interior da Bahia.
( ) Zumbi nasceu em 1655.

---

2) Zumbi dos Palmares é considerado como o:

( ) médico do futuro
( ) homem negro
( ) herói negro

---

4) No dia 20 de novembro é comemorado:
( ) O dia da Pátria
( ) O dia de Zumbi
( ) O dia da Consciência Negra



FONTE: www.pedagogasdapaz.blogspot.com

Escola Municipal Professor João Baptista.

Ladário, 23 de novembro de 2020.

Aluno(a): _____ 4ºB

Professora: Marislei V. Santos Cardoso

PRODUÇÃO DE TEXTO

COMPETÊNCIAS E HABILIDADES: EF04LP05

CONTEÚDOS: Produção de Texto

1. Observe os quadrinhos e faça a narrativa dos acontecimentos de forma coerente.







2. O que são tirinhas?

_____

_____

3. Que título interessante você daria á história?

_____

4. Você conhece o personagem principal da história acima? Descreva-o?

_____

_____

FONTE: www.ideiacriativa.com.br

Escola Municipal Professor João Baptista.

Ladário, 23 de novembro de 2020.

Aluno(a): _____ 4ºB

Professora: Marislei V. Santos Cardoso

ATIVIDADE DE MATEMÁTICA

COMPETÊNCIAS E HABILIDADES: EF03MA20

CONTEÚDOS: Estatística e Medidas de Capacidade

1)Gilberto trabalha em uma empresa de reciclagem. Ele registrou no gráfico abaixo a quantidade de material reciclável coletado durante um mês nessa empresa.

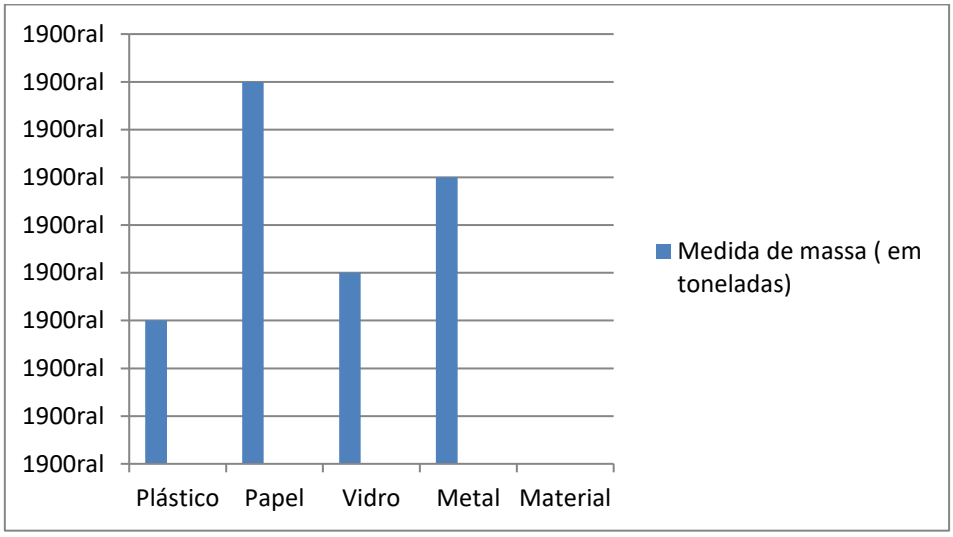

a)Qual foi o material mais coletado pela empresa nesse mês?

R:

b)Qual foi o material menos coletado?

R:

c)Quantas toneladas de vidro foram coletadas?

R:

d)Quantos quilogramas de plástico foram coletados?

R:

e) No total foram coletadas mais ou menos do que 200 toneladas de material reciclável?

R:

2)O mililitro(mL) e o litro(L) são unidades padronizadas de medida de capacidade. As caixas e as garrafas de leite que são vendidas em supermercados e padarias têm, geralmente, medida de capacidade de 1 litro (1 L). Observe os valores do litro(L) e do mililitro(mL).



1 L = 1000 mL

Responda:

a)6000 mL = _____ L

b)2L e 900mL = _____ Ml

3)Gustavo tem um vasilhame com medida de capacidade de 5 litros e outro com medida de capacidade de 3 litros. Como ele deve fazer para que um deles fique com 1 litro de água dentro, usando apenas esses vasilhames?

R:

4)Observe os objetos abaixo e assinale os quadrinhos dos que têm medida de capacidade menor que 1 litro.

☐ 

XÍCARA DE CAFÉ

☐ 

PIA

☐ 

CONCHA

FONTE: WWW.ACESSABER.COM.BR

Escola Municipal Professor João Baptista.

Ladário, 24 de novembro de 2020.

Aluno(a): _____ 4ºB

Professora: Marislei V. Santos Cardoso

ATIVIDADE DE PORTUGUÊS

COMPETÊNCIAS E HABILIDADES: EF35LP12

CONTEÚDOS: Ortografia

1) Responda se a afirmação abaixo é verdadeira ou falsa:

"Nenhuma palavra de língua portuguesa termina com a letra **n**"

R.: _____

2) Observe a escrita das palavras abaixo e marque as que estão escritas corretamente:

A) ( ) sessemta

B) ( ) noventa

C) ( ) cinquemta

D) ( ) setenta

3) Separe as palavras abaixo de acordo com a silaba correspondente:

Guiado gilete guerreiro gueto guizo ginásio geração geral

A) Ge: _____

B) Gi: _____

C) Gue: _____

D) Gui: _____

4) Complete com a palavra certa:

A) A___moço, á___dio (L ou U);

B) Ga___ antir, ca___ eta (R ou RR);

C) Se___ enta, sal___ a (S ou SS);

5) Marque um X nas palavras que estão escritas de maneira correta:

A) ( ) gaivota

B) ( ) grato

C) ( ) gerreiro

D) ( ) gerado

E) ( ) giado

F) ( ) guiz

G) ( ) guindaste

Escola Municipal Professor João Baptista.

Ladário, 24 de novembro de 2020.

Aluno(a): _____ 4ºB

Professora: Marislei V. Santos Cardoso

ATIVIDADE DE MATEMÁTICA

COMPETÊNCIAS E HABILIDADES: EF01MA19

CONTEÚDOS: Sistema Monetário Brasileiro

QUAL É O TROCO?

✎ Paulo comprou uma bola. Ele deu uma nota de R$ 10,00. Quanto ele recebeu de troco?

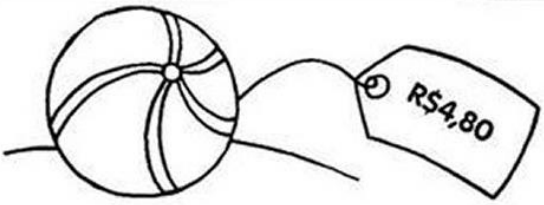

Resposta: Ele recebeu R$ 5,20 de troco.

✎ Agora faça o mesmo, completando o quadro abaixo:

Você comprou	Deu em dinheiro	Recebeu de troco
 R$ 9,50	R$ 20,00	
 R$ 33,80	R$ 50,00	
 R$ 159,00	R$ 200,00	
 R$ 52,90	R$ 100,00	
R$ 41,70 	R$ 50,00	

- Leia e responda as questões:

Tiago foi à loja de brinquedos, comprou um carrinho e pagou com uma nota de  **(*20 reais*).**

Observe os valores dos brinquedos e depois responda às questões abaixo:

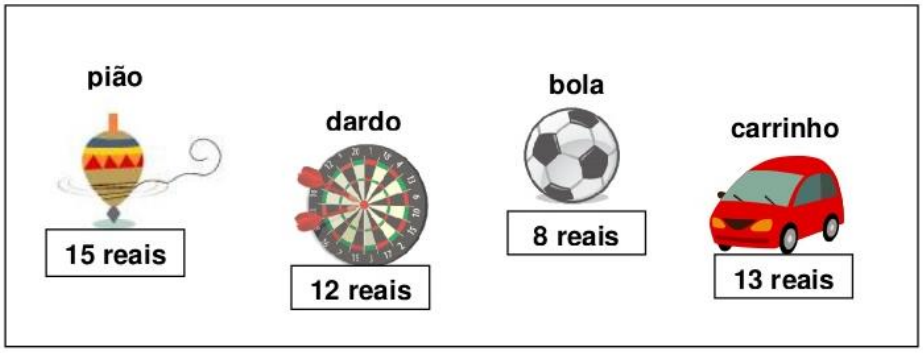

a) Tiago recebeu troco?

_____

b) De quanto foi o troco de Tiago?

_____

c) Se Tiago tivesse escolhido o dardo e a bola daria para ele pagar?

_____

d) Sobraria troco?

_____

e) Qual brinquedo Tiago poderia comprar para ter 5 reais de troco?

_____

FONTE: www.atividadesmatematica.com.br

Escola Municipal Professor João Baptista.

Ladário, 24 de novembro de 2020.

Aluno(a): _____ 4ºB

Professora: Marislei V. Santos Cardoso

ATIVIDADE DE GEOGRAFIA

COMPETÊNCIAS E HABILIDADES: EF02GE07

CONTEÚDOS: Indústria Extrativista

INDÚSTRIA EXTRATIVISTA



Leia as palavras do quadro e complete o que se pede.

minério de ferro • madeira • erva-mate • bauxita
caça • manganês • carvão • cobre • pesca
borracha • ouro • babaçu • carnaúba

1- Indústria extrativa vegetal: _____.

2- Indústria extrativa animal: _____.

3- Indústria extrativa mineral: _____

_____.

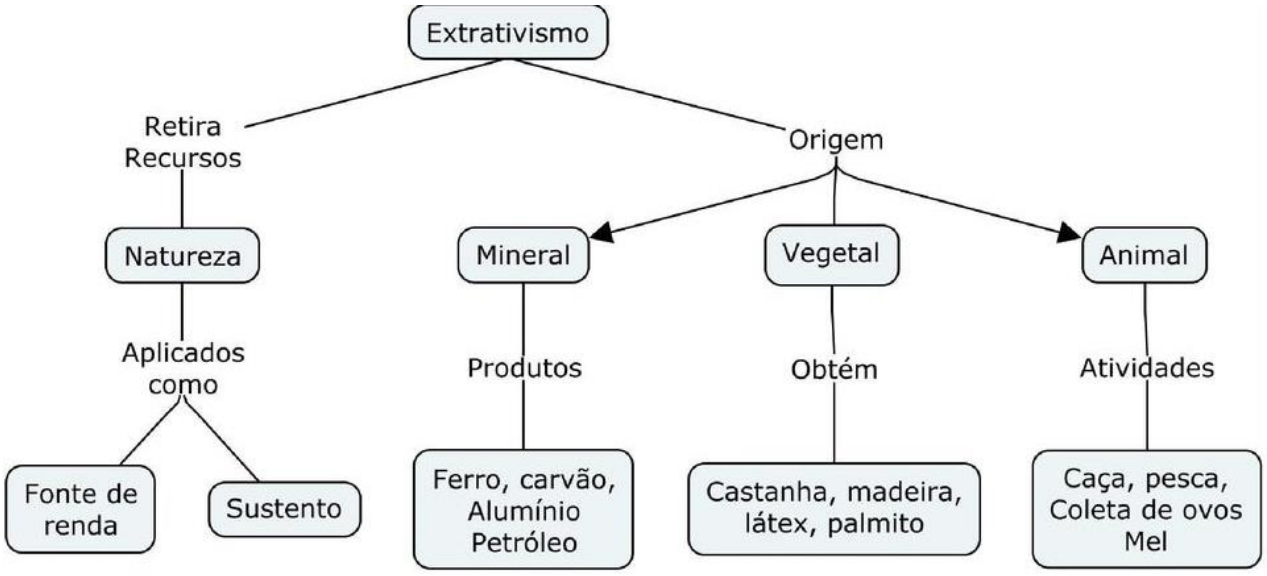

Complete as frases.

• O extrativismo _____ é a retirada de animais do ambiente.

• O extrativismo _____ é a retirada, da natureza, de produtos de origem mineral.

• O extrativismo _____ é retirada de produtos vegetais.

Identifique o tipo de extrativismo nas fotos abaixo





_____ _____

FONTE: www.docplayer.com.br

Escola Municipal Professor João Baptista.

Ladário, 30 de novembro de 2020.

Aluno(a): _____ 4ºB

Professora: Marislei V. Santos Cardoso

ATIVIDADE DE MATEMÁTICA

COMPETÊNCIAS E HABILIDADES: EF04MA27

CONTEÚDOS: Gráficos

Observe no gráfico de uma fábrica de doces a quantidade vendida em uma semana e responda.

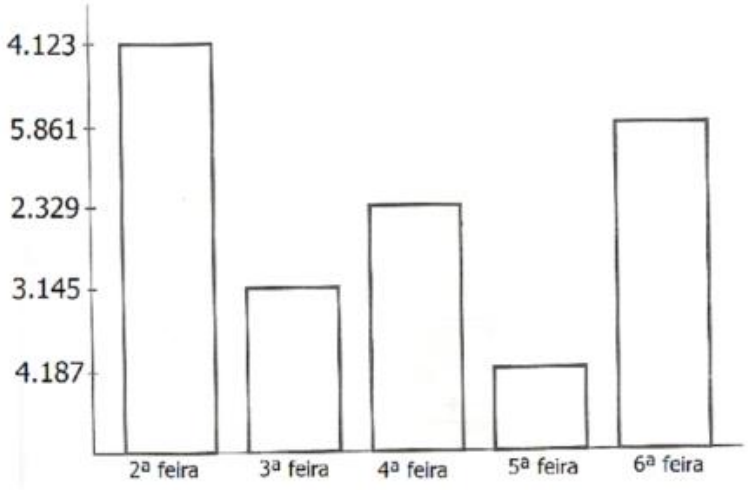



1 – Quantos doces foram vendidos nos três primeiros dias da semana? _____.

2 – Qual dia da semana foi vendido mais doces? _____ .

3 – E menos doces? _____.

4 – Quantos doces ao todo foram vendidos nesta semana? _____

5 – Na semana anterior foi vendido o dobro desta quantidade. Quantos doces foram vendidos? _____ .

6 – Qual a diferença de quantidade de doces entre segunda-feira e quarta-feira? _____ .

7 – Quais dias juntos, foram vendidos mais doces: segunda e terça ou quarta e sexta? _____ .

FONTE: www.ideiacriativa.com.br

Escola Municipal Professor João Baptista.

Ladário, 01 de DEZEMBRO de 2020.

Aluno(a): _____ 4ºB

Professora: Marislei V. Santos Cardoso

ATIVIDADE DE PORTUGUÊS

COMPETÊNCIAS E HABILIDADES: EF04LP06

PRONOMES PESSOAIS DE TRATAMENTO

- Uso cerimonioso ou oficial.

Pronomes	Abreviaturas	Autoridades
Vossa Excelência	V. Exª	Governamentais
Vossa Magnificência	V. Magª	Reitores
Vossa Alteza	V. A.	Príncipes e duques
Vossa Majestade	V. M.	Reis, imperadores
Vossa Reverendíssima	V. Revmª	Sacerdotes
Vossa Eminência	V. Emª	Cardeais
Vossa Santidade	V. S.	Papa
Vossa Senhoria	V. S.ª	As demais

1- Numere a segunda coluna conforme a primeira:

(A) Vossa Santidade	( ) Pessoas em situação cerimoniosa
(B) Vossa Majestade	( ) Reis, rainhas, imperadores
(C) Vossa Senhoria	( ) Príncipes, princesas
(D) Vossa Alteza	( ) Altas autoridades
(E) Vossa Excelência	( ) Papa
(F) Senhor, senhora, senhorita	( ) Pessoas com quem não se tem intimidade, pessoas mais velhas

2- Complete o diagrama com pronomes de tratamento:

A) Pronome de tratamento usado para príncipes e princesas.

B) Pronome de tratamento usado por reis e rainhas.

C) Pronome de tratamento usado para altas autoridades.

D) Pronome de tratamento usado para o papa.

E) Pronome de tratamento usado no trato familiar.

F) Plural do pronome de tratamento usado para príncipes e princesas.

G) Pronome usado no tratamento de respeito para mulheres.

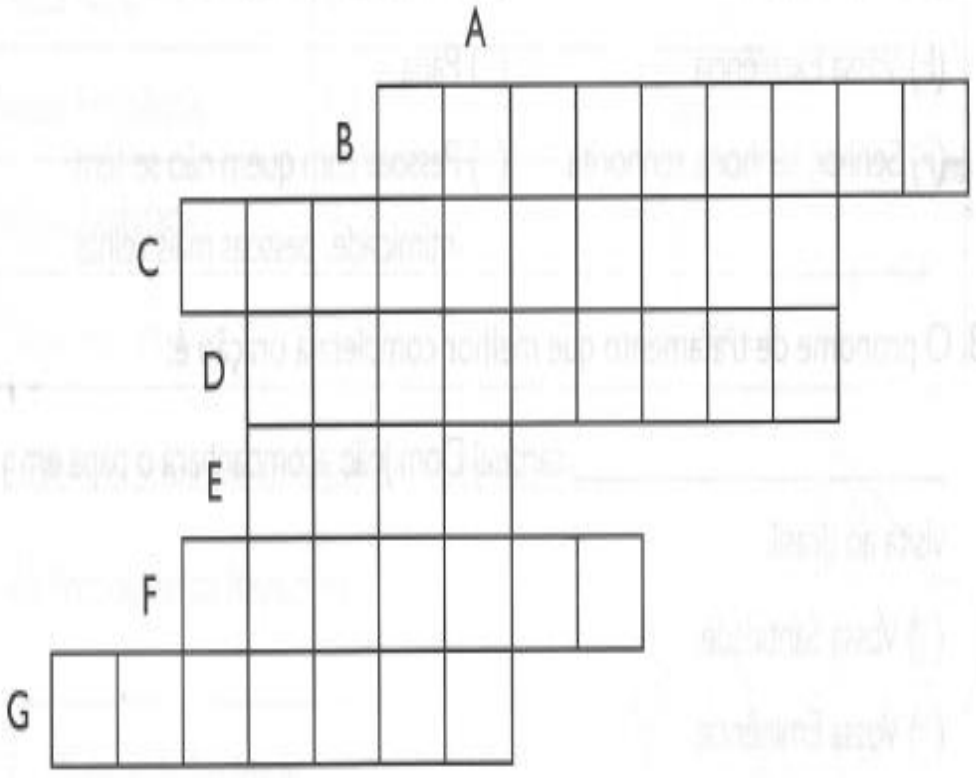

Escola Municipal Professor João Baptista.

Ladário, 02 de DEZEMBRO de 2020.

Aluno(a): _____ 4ºB

Professora: Marislei V. Santos Cardoso

ATIVIDADE DE MATEMÁTICA

HABILIDADE: EF04MA25

1. Observe os preços dos alimentos no mercadinho do Sr. Antônio e resolva as situações problema relacionadas:

MERCADINHO DO SR. ANTÔNIO

Tomate (Kg).....R$ 3,00

Cebola (Kg) .....R$ 3,00

Alface (unidade) .....R$ 1,00

Ovos (bandeja) .....R$ 2,00

Banana (Kg) .....R$ 4,00

Morango (bandeja) .....R$ 6,00

Maçã (Kg) .....R$ 4,00

a) Marcelo foi ao mercado e comprou: 1Kg de tomate, 1Kg de maçã e 1Kg de cebola. Quanto ele gastou?

R:

b) Se Marcelo levou R$ uma nota de 20,00 quanto ele recebeu de troco?

R:

c) Um cliente entrou no mercadinho e comprou todos os itens acima. Quanto dinheiro ele gastou?

R:

d) Vitória foi ao mercado gastou R$ 23,00 ao todo, ela não se lembra quanto comprou de tomate. Sabendo que ela comprou 2Kg de cebola, 1 bandeja de ovos, 1 bandeja de morangos. Quantos quilos de tomate ela comprou?

R:

e) Mês passado gastei R$ 7,00, para comprar 2Kg de bananas, 1Kg de cebola e 1Kg de tomate, depois do aumento paguei R$ 14,00. Qual foi o aumento de preço?

R:

f) O mercadinho vendeu R$ 150,00 na sexta, R$ 300,00 no sábado e R$ 360,00 no domingo. Quanto ele ganhou durante estes três dias?

R:

g) Sabendo seu faturamento durante estes três dias, qual foi a média diária de vendas?

R:

Escola Municipal Professor João Baptista.

Ladário, 02 de DEZEMBRO de 2020.

Aluno(a): _____ 4ºB

Professora: Marislei V. Santos Cardoso

ATIVIDADE DE HISTÓRIA

MEIOS DE COMUNICAÇÃO

HABILIDADE: EF04HI08

1) As pessoas que não falam, utilizam qual forma de comunicação?

a) Somente escrita
b) Conversa
c) Sinais

2) Como se comunicam os animais?

a) Comunicação oral
b) Comunicação escrita
c) Sons e gestos

3) Qual o idioma oficial do Brasil?

a) Brasileiro
b) Português
c) Brasil

4) Cada região tem uma forma de falar diferente, como isso se chama?

a) Regionalismo
b) Gíria
c) Local

5) Antigamente, qual era a principal forma de comunicação entre pessoas que moravam longe?

a) Carta
b) Fala
c) Internet

6) Como se chama a empresa que distribui as cartas no Brasil?

a) Correios
b) Internet
c) Empresa Brasileira de Correios e Telégrafos – E.C.T.

7) Quais são os principais meios de comunicação modernos?

a) Carta e mensagem
b) Internet e telefone
c) Escrita e fala

8) Quem criou o telefone?

a) Antonio Carlos
b) Alexander Graham Bell
c) José Roberto

9) Onde foi inventado o celular?

a) Estados Unidos
b) Brasil
c) Japão

10) Quais são os principais tipos de TV?

a) Aberta, fechada e comunitária
b) Globo, Bandeirantes e Record
c) Fox, HBO e TNT

Escreva o nome dos meios de comunicação abaixo e pinte aqueles que você mais gosta de utilizar.



Quais os meios de comunicação que você usa:

a. quando quer **falar** com um colega que mora longe?

_____

b. quando precisa **dar uma notícia muito urgente por escrito**?

_____

c. quando quer **escrever** para alguém de quem sente saudade?

_____

d. quando quer **ver e ouvir** um programa interessante?

_____

e. quando quer **ouvir** notícias e músicas?

_____