ESCOLA: Municipal Prof. João Baptista
PROFESSOR(A): SIMONE BRAGA **TURMA(S): 4º C**
TURNO: VESPERTINO **ALUNO (A):**_____
QUANTIDADE DE AULAS: 13 aulas
COMPONENTE CURRICULAR: LÍNGUA PORTUGUESA
PERIODO: 01/07/2020 à 15/07/2020
Objeto de conhecimento: Leitura e interpretação de texto, masculino e feminino
Habilidade: EF35LP21

Gênero do substantivo

Veja algumas palavras no **masculino** e no **feminino**:

Masculino	Feminino
papai	mamãe
aluno	aluna
boi	vaca
tio	tia
pato	pata
avô	avó
cavalo	égua
primo	prima
leão	leoa
amigo	amiga
moço	moça
neto	neta
menino	menina
padrinho	madrinha
autor	autora
ladrão	ladra
homem	mulher
cão	cadela
sogro	sogra
galo	galinha
ator	atriz
rei	rainha
alfaiate	costureira
bode	cabra
carneiro	ovelha
cavaleiro	amazona
cavalheiro	dama
compadre	comadre
frade	freira
genro	nora
padrasto	madrasta
príncipe	princesa
rei	rainha
réu	ré
zangão	abelha

Lembre que:
Antes dos nomes femininos usamos **a, as, uma, umas.**

1. Dê o feminino:

a) o homem

b) o galo

c) o rei

d) o autor

e) o sogro

f) o menino

g) o cavaleiro

h) o genro

i) o zangão

j) o frade

l) o padrasto

m) o príncipe

ESCOLA: Municipal Prof. João Baptista
PROFESSOR(A): SIMONE BRAGA **TURMA(S):** 4º C
TURNO: VESPERTINO ALUNO (A): _____-
QUANTIDADE DE AULAS: 13 aulas
COMPONENTE CURRICULAR: LÍNGUA PORTUGUESA
PERÍODO: 01/07/2020 à 15/07/2020

MASCULINO E FEMININO

1. FORME O FEMININO, TROCANDO A LETRA **O** FINAL PELA LETRA **A**.

A) MENINO _____
B) PORCO _____
C) ALUNO _____
D) PATO _____
E) GATO _____
F) VELHO _____
G) MOÇO _____
H) TITIO _____
I) BONECO _____
J) BRANCO _____

2. FORME O FEMININO, ACRESCENTANDO A LETRA **A** NO FINAL DAS PALAVRAS.

A) PROFESSOR _____
B) AUTOR _____
C) CANTOR _____
D) DOUTOR _____
E) ESCRITOR _____
F) FRANCÊS _____
G) JAPONÊS _____
H) PORTUGUÊS _____
I) CHINÊS _____
J) INGLÊS _____

3. FORME O FEMININO, CONFORME OS EXEMPLOS.

CAPITÃO – CAPITÃ LEÃO – LEOA

A) IRMÃO _____
B) LEITÃO _____
C) PAVÃO _____
D) ÓRFÃO _____
E) CAMPEÃO _____
F) PEÃO _____

ESCOLA: Municipal Prof. João Baptista
PROFESSOR(A): SIMONE BRAGA **TURMA(S):** 4º C
TURNO: VESPERTINO ALUNO (A): _____-
QUANTIDADE DE AULAS: 13 aulas
COMPONENTE CURRICULAR: LÍNGUA PORTUGUESA
PERÍODO : 01/07/2020 à 15/07/2020

Leitura, interpretação e ortografia. Conceito: _____

- Leia atentamente o texto a seguir:

FESTA JUNINA

A fogueira está queimando,
toda noite se ilumina.
Alegria, minha gente,
vamos à festa junina!

O Zeca e a Maricota
na quadrilha estão dançando,
enquanto o Manuel Banguela
a sanfona vai tocando...



1- Marque um X na opção que mostra sobre que festa a poesia trata:
( ) Carnaval ( ) Festa dos pais
( ) Dia das mães ( ) Festa junina

2- Faça um X na opção onde as palavras rimam com **BALÃO**:
( ) Roupa, festa e pipoca. ( ) Turma, fogueira e cocada.
( ) Pinhão, quentão e montão. ( ) Pipoca, amendoim e bandeirinha.

3- Marque com um X a opção onde está escrita a última sílaba do nome do desenho abaixo:
( ) NHA
( ) BAN
( ) RI
( ) DEI



4- Faça um X na opção que apresenta o número de sílabas da palavra **PIPOCA**:
( ) 6
( ) 3
( ) 5
( ) 4



5- Marque com um X a opção onde está escrita a mesma palavra quatro vezes:

A) ☐
Canela
CAMA
Cocada
Camila

B) ☐
PIPOCA
pipoca
Pipoca
pipoca

C) ☐
MILHO
Mesa
Mingau
milharal

D) ☐
peixe
Barraca
bandeirinha
BALÃO

ESCOLA: Municipal Professor João Batista
PROFESSOR(A): SIMONE BRAGA TURMA(S): 4º C
TURNO: Vespertino **ALUNO(A) : _____**
QUANTIDADE DE AULAS: 10 aulas
COMPONENTE CURRICULAR: MATEMÁTICA
PERÍODO: 01/07/2020 à 15/07/2020
Objeto de conhecimento : Sistema Monetário Brasileiro **Massa,capacidade,tempo e temperatura**
Habilidade: EF04MA25

O DINHEIRO QUE USAMOS

É preciso ter dinheiro para se comprar alguma coisa.
No Brasil, a moeda que usamos é o **real**.
O símbolo do real é o **R$**.

- Observe as moedas e seus valores:



- Agora, observe as cédulas:



um real



vinte reais



dois reais



cinqüenta reais



cinco reais



cem reais



ESCOLA: Municipal Professor João Batista
PROFESSOR(A): SIMONE BRAGA TURMA(S): 4º C
TURNO: Vespertino **ALUNO(A) : _____**
QUANTIDADE DE AULAS: 10 AULAS
COMPONENTE CURRICULAR: MATEMÁTICA
PERÍODO: 01/07/2020



ESCOLA: Municipal Professor João Batista
PROFESSOR(A): SIMONE BRAGA TURMA(S): 4º C
TURNO: Vespertino **ALUNO(A) : _____**
QUANTIDADE DE AULAS:
COMPONENTE CURRICULAR: MATEMÁTICA
PERÍODO:

Marque nos relógios as horas indicadas.


8h:45min


1h:50min


12h:15min


11h:10min


10h:5min


6h:00min


4h:30min


8h:40min

DESPESAS DA FAMÍLIA

• Observe:



Faça você

a) Qual a maior despesa dessa família?_____

b) Qual é a menor?_____

c) Qual é o gasto total em aluguel, condomínio, telefone e supermercado?

_____

d) Com R$ 800,00 por mês consegue-se pagar essa despesa?_____

Cálculos:

ESTADO DE MATO GROSSO DO SUL
MUNICÍPIO DE LADÁRIO

SECRETARIA MUNICIPAL DE EDUCAÇÃO

ESCOLA: Municipal Professor João Batista
PROFESSOR(A): SIMONE BRAGA TURMA(S): 4º C
TURNO: Vespertino **ALUNO(A) : _____**
QUANTIDADE DE AULAS: 05 aulas
COMPONENTE CURRICULAR: GEOGRAFIA
PERÍODO: 01/07/2020 à 15/07/2020
Objeto de conhecimento : Transformações na paisagem por ações antrópicas
Habilidade: EF04GE11

Diagrama do relevo

- Encaixe as palavras no diagrama conforme o número de letras:



Como é agradável vivermos unidos como irmãos. (Salmos 133:1)

ESTADO DE MATO GROSSO DO SUL
MUNICÍPIO DE LADÁRIO

SECRETARIA MUNICIPAL DE EDUCAÇÃO

ESCOLA: Municipal Professor João Batista
PROFESSOR(A): SIMONE BRAGA TURMA(S): 4º C
TURNO: Vespertino **ALUNO(A) : _____**
QUANTIDADE DE AULAS: 05 aulas
COMPONENTE CURRICULAR: GEOGRAFIA
PERÍODO: 01/07/2020 à 15/07/2020
Objeto de conhecimento : Transformações na paisagem por ações antrópicas

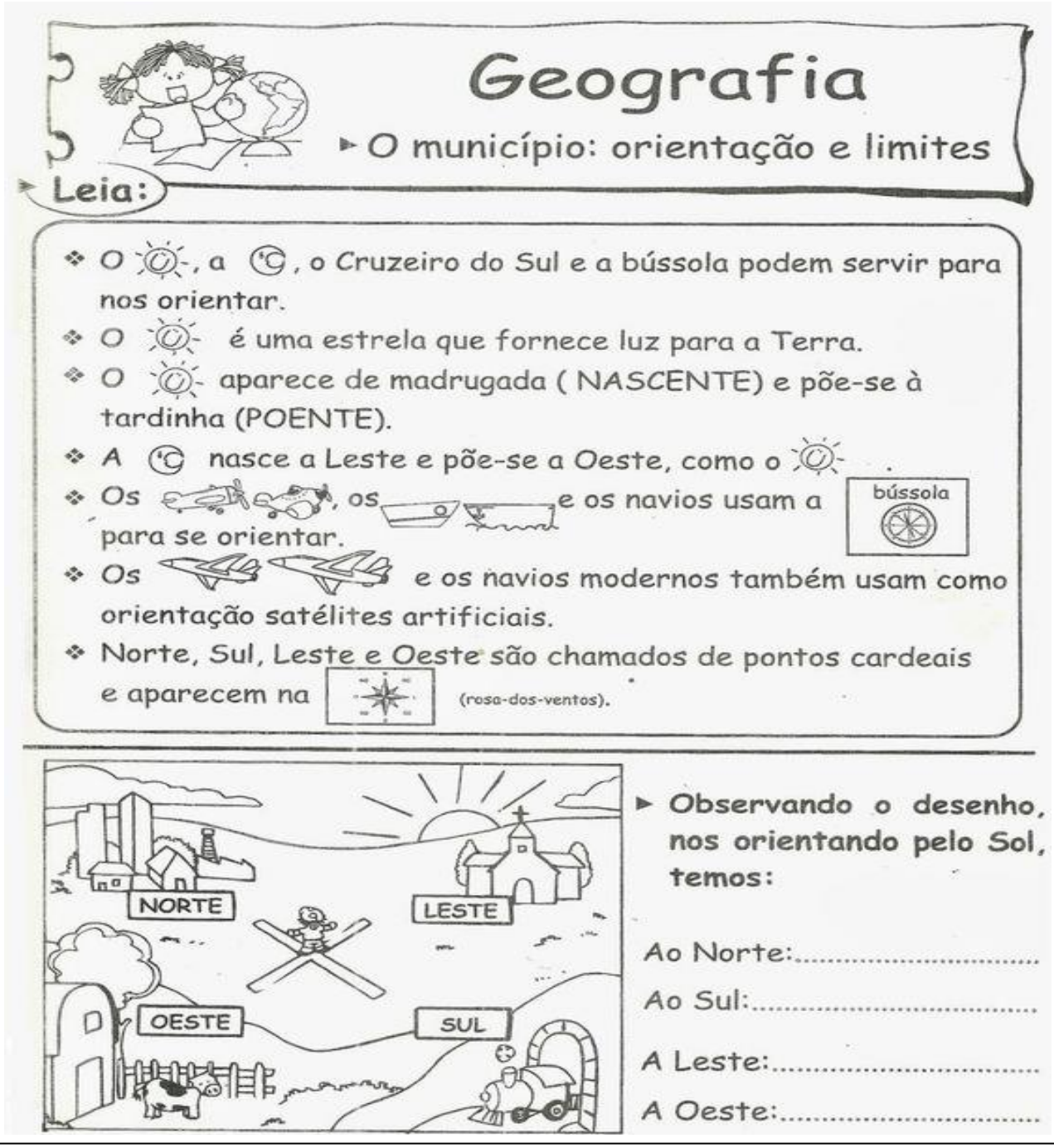

Geografia

▸ O município: orientação e limites

Leia:

- O ☉, a ☾, o Cruzeiro do Sul e a bússola podem servir para nos orientar.
- O ☉ é uma estrela que fornece luz para a Terra.
- O ☉ aparece de madrugada (NASCENTE) e põe-se à tardinha (POENTE).
- A ☾ nasce a Leste e põe-se a Oeste, como o ☉ .
- Os ✈, os ⛵ e os navios usam a bússola para se orientar.
- Os ✈ e os navios modernos também usam como orientação satélites artificiais.
- Norte, Sul, Leste e Oeste são chamados de pontos cardeais e aparecem na ✳ (rosa-dos-ventos).

▸ Observando o desenho, nos orientando pelo Sol, temos:

Ao Norte:.....

Ao Sul:.....

A Leste:.....

A Oeste:.....

ESTADO DE MATO GROSSO DO SUL
MUNICÍPIO DE LADÁRIO

SECRETARIA MUNICIPAL DE EDUCAÇÃO

ESCOLA: Municipal Professor João Batista
PROFESSOR(A): SIMONE BRAGA TURMA(S): 4º C
TURNO: Vespertino **ALUNO (A):**
QUANTIDADE DE AULAS: 03 aulas
COMPONENTE CURRICULAR: HISTÓRIA
PERÍODO: 01/07/2020 á 15/07/2020
Objeto de conhecimento : Transformações e permanências nas trajetórias dos grupos humanos
Habilidade: EF04HI01

Meios de comunicação

Descubra o meio de comunicação, observando as gravuras abaixo.



a) Circule o meio de comunicação que apresenta apenas som.

b) Pinte o meio de comunicação no qual se fala com as pessoas a distância.

c) Faça um X no meio de comunicação que apresenta som e imagem.

d) Faça um quadrado em torno do meio de comunicação no qual podemos acessar a internet.

ESTADO DE MATO GROSSO DO SUL
MUNICÍPIO DE LADÁRIO

SECRETARIA MUNICIPAL DE EDUCAÇÃO

ESCOLA: Municipal Professor João Batista
PROFESSOR(A): SIMONE BRAGA TURMA(S): 4º C
TURNO: Vespertino **ALUNO (A):**
QUANTIDADE DE AULAS: 03 aulas
COMPONENTE CURRICULAR: HISTÓRIA
PERÍODO: 01/07/2020 à 15/07/2020

.

O POVO BRASILEIRO

✎ Numere de acordo com a contribuição que cada raça deu para o enriquecimento da cultura brasileira.

1. Índios
2. Negros
3. Brancos



- ◯ Mandioca.
- ◯ Bacalhau.
- ◯ Feijoada.
- ◯ Chocalho.
- ◯ Turbantes.
- ◯ Vatapá.
- ◯ Uso de chapéus.
- ◯ Guaraná.
- ◯ Purê de batata.
- ◯ Capoeira.
- ◯ Rede.
- ◯ Goiabada.
- ◯ Peixe.
- ◯ Língua portuguesa.
- ◯ Chá de ervas.
- ◯ Frevo.
- ◯ Pé de moleque.
- ◯ Sopa.

Você sabia os primeiros escravos negros chegaram ao Brasil em meados de 1500, durante o tráfico negreiro, e que cerca de 4 milhões de negros foram trazidos da África para cá?

Assinatura do coordenador (a) pedagógico