ESCOLA: Municipal Prof. João Baptista
PROFESSOR(A): SIMONE BRAGA **TURMA(S): 4º C**
TURNO: VESPERTINO **ALUNO (A):**_____
QUANTIDADE DE AULAS: 10 aulas
COMPONENTE CURRICULAR: LÍNGUA PORTUGUESA
PERIODO: 17/08/2020 à 31/08/2020
Objeto de conhecimento: Leitura e interpretação de texto,adjetivos e artigos
Habilidade : (EF04LP10)

Espinafre

- Pinte o palhaço, usando cores alegres.
- Escreva como ele é, completando o texto com **adjetivos:**



• Espinafre é um palhaço _____
e bem _____ .

• Gosta de usar roupas _____
e tem um sorriso bem _____ .

• Com sua cabeleira _____
ele encanta a platéia, fazendo travessuras e
contando piadas _____ .

• Todos acham muita graça em Espinafre
porque ele usa calças _____ ,
sapatos _____ e _____ .

• Sua camisa é _____
e seu rosto é _____ .

• Espinafre é mesmo um palhaço _____ .

• As palavras que você completou no texto são chamadas
_____ porque dão qualidades ao nome.



ESCOLA: Municipal Prof. João Baptista
PROFESSOR(A): SIMONE BRAGA **TURMA(S):** 4º C
TURNO: VESPERTINO ALUNO (A): _____-
QUANTIDADE DE AULAS: 10 aulas
COMPONENTE CURRICULAR: LÍNGUA PORTUGUESA
PERÍODO: 17/08/2020 à 31/08/2020
HABILIDADE: (EF35LP05)

POEMA

Leia o poema abaixo, que também é uma cantiga de roda.

Ciranda cirandinha
Vamos todos cirandar
Vamos dar a meia volta
Volta e meia vamos dar

O anel que tu me destes
Era vidro e se quebrou
O amor que tu me tinhas
Era pouco e se acabou

(Cantiga popular)



As rimas do poema são:

a. ( ) cirandar e dar / quebrou e acabou.

b. ( ) cirandinha e volta / destes e tinha.

c. ( ) anel e amor / vidro e quebrou.

d. ( ) destes e tinha / volta e dar.

Quantos versos e quantas estrofes o poema do exercício anterior tem? Faça um X na alternativa correta.

a. ( ) 9 versos e 3 estrofes.

b. ( ) 6 versos e 3 estrofes.

C. ( ) 4 versos e 4 estrofes.

D. ( ) 8 versos e 2 estrofes.

Observe o banco de palavras e assinale a alternativa correta da questão.

laranja – maçã – banana – pera – abacate

A ordem alfabética dessas palavras é

a. ( ) pera – abacate – laranja – maçã – banana.
b. ( ) maçã – banana – laranja – pera – abacate.
c. ( ) maçã – abacate – laranja – banana – pera.
d. ( ) abacate – banana – laranja – maçã – pera.

ESCOLA: Municipal Prof. João Baptista
PROFESSOR(A): SIMONE BRAGA **TURMA(S):** 4º C
TURNO: VESPERTINO ALUNO (A): _____-
QUANTIDADE DE AULAS: 10 aulas
COMPONENTE CURRICULAR: LÍNGUA PORTUGUESA
PERÍODO : 17/08/2020 à 31/08/2020
HABILIDADE: EF03LP06

SÍLABA TÔNICA - EXERCÍCIOS

1. Faça um círculo ao redor da SÍLABA TÔNICA das palavras:

DURAÇÃO	RÉGUA	PAPAI
SAPATO	LÁPIS	GATO
PÁSSARO	CAJÁ	NARIZ
NOITE	CADEIRA	JARDIM
FÁCIL	CHÁCARA	GOSTAVA

2. Escreva nos parênteses, a **SÍLABA TÔNICA** de cada palavra:

sofá (____)	público (____)
triângulo (____)	boneca (____)
lençol (____)	fósforo (____)
funil (____)	animal (____)
fábula (____)	nariz (____)
árvore (____)	espetáculo (____)
jardim (____)	astro (____)

2. Classifique as palavras quanto à acentuação tônica: OXÍTONA, PAROXÍTONA OU PROPAROXÍTONA.

Fácil - _____
Fábula - _____
Boneca - _____
Café - _____
Paletó - _____
Médico - _____
Chaminé - _____
Sofá - _____
Lâmpada - _____
Pardal - _____
Bandeira - _____
Ângulo - _____
Lágrima - _____

ESCOLA: Municipal Professor João Batista
PROFESSOR(A): SIMONE BRAGA TURMA(S): 4º C
TURNO: Vespertino **ALUNO(A) : _____**
QUANTIDADE DE AULAS:08 aulas
COMPONENTE CURRICULAR: MATEMÁTICA
PERÍODO: 17/08/2020 à 31/08/2020
Objeto de conhecimento : Sistema Monetário Brasileiro ,Probleminhas Multiplicação
Habilidade: EF04MA25

❖Resolva os fatos fundamentais da multiplicação para efetuar as operações abaixo.



Multiplicação de numerais formados por dois algarismos ou mais (dezenas ou centenas exatas).

C	D	U
	5	0
X		1

C	D	U
1	0	0
X		2

C	D	U
2	0	0
X		2

C	D	U
4	0	0
X		2

C	D	U
	5	0
X		1

C	D	U
	4	0
X		3

C	D	U
	6	0
X		3

C	D	U
3	0	0
X		3

ESCOLA: Municipal Professor João Batista
PROFESSOR(A): SIMONE BRAGA TURMA(S): 4º C
TURNO: Vespertino **ALUNO(A) : _____**
QUANTIDADE DE AULAS: 08 AULAS
COMPONENTE CURRICULAR: MATEMÁTICA
PERÍODO: 17/08/2020 à 31/08/2020 **HABILIDADE:** EF04MA25

LEVE A TARTARUGA ATÉ SEU OVO PINTANDO APENAS OS RESULTADOS DA TABUADA DO 3:



PINTE APENAS OS RESULTADOS DA TABUADA DO 5:



5	36	50	53	13	25	77
12	42	97	15	39	44	62
57	10	31	89	28	62	30
88	37	28	4	20	29	36
0	45	54	40	37	35	26

ESCOLA: Municipal Professor João Batista
PROFESSOR(A): SIMONE BRAGA TURMA(S): 4º C
TURNO: Vespertino **ALUNO(A) : _____**
QUANTIDADE DE AULAS: 08 aulas
COMPONENTE CURRICULAR: MATEMÁTICA
PERÍODO: 17/08/2020 à 31/08/2020 **HABILIDADE:** EF04MA25

Situações problema com dinheiro

1– Quero comprar uma calça que custa R$ 60,00. Tenho R$15,00. Quanto ainda falta para juntar para comprar a calça?

a) R$ 30,00
b) R$ 15,00
c) R$ 45,00
d) R$ 50,00

2– Minha tia disse que tem as seguintes notas para gastar nas lojas da cidade:



Qual é a quantia que minha tia tem no total?
a) R$ 62,00
b) R$ 72,00
c) R$114,00
d) R$112,00

3– Conte as notas e descubra o total da quantia em dinheiro:



O total é _____

4– Comprei uma mochila por R$43,00. Paguei com uma nota de . Quanto recebi de troco?
a) R$ 10,00
b) R$ 9,00
C) R$ 7,00
d) R$ 6,00

Fé na Educação

ESCOLA: Municipal Professor João Batista
PROFESSOR(A): SIMONE BRAGA TURMA(S): 4º C
TURNO: Vespertino **ALUNO(A) : _____**
QUANTIDADE DE AULAS: 04 aulas
COMPONENTE CURRICULAR: GEOGRAFIA
PERÍODO: 17/08/2020 à 31/08/2020
Objeto de conhecimento : Da produção ao consumo
Habilidade: EF04GE08

Aspectos econômicos

Extrativismo vegetal: os principais produtos são: a erva-mate, as madeiras de lei, o látex, o babaçu, o quebracho, a castanha-do-pará e a poaia ou ipecacuanha.

Extrativismo animal: a caça e a pesca são praticadas sem controle e ameaçam toda a fauna do Pantanal Mato-Grossense. O tamanduá-bandeira, o cervo-do-pantanal e a onça pintada são espécies pantaneiras ameaçadas de extinção.



Extrativismo mineral: destaca-se a extração de ferro e manganês. No Mato Grosso explora-se diamante e ouro. Em Goiás produz amianto, cristais de rocha e níquel.

A soja é o principal produto agrícola da região e destina-se principalmente à exportação.

A pecuária é a principal atividade econômica no Pantanal. Possui o segundo rebanho de bovinos do Brasil.

❖ Forme palavras e descubra os principais produtos agrícolas da Região Centro-Oeste.

1 so	2 man	3 roz	4 mi	5 de
6 ja	7 lho	8 di	9 ca	10 fei
11 o	12 fé	13 jão	14 a	15 na
16 ar	17 ma	18 çú	19 ro	20 car

16 - 3 _____

1 - 6 _____

4 - 7 _____

9 - 12 _____

10 - 13 _____

2 - 8 - 11 - 9 _____

9 - 15 - 5 - 14 - 18 - 20 _____



ESCOLA: Municipal Professor João Batista
PROFESSOR(A): SIMONE BRAGA TURMA(S): 4º C
TURNO: Vespertino **ALUNO(A) : _____**
QUANTIDADE DE AULAS: 05 aulas
COMPONENTE CURRICULAR: GEOGRAFIA
PERÍODO: 17/08/2020 à 31/08/2020
Objeto de conhecimento : **HABILIDADE: EF04GE08**

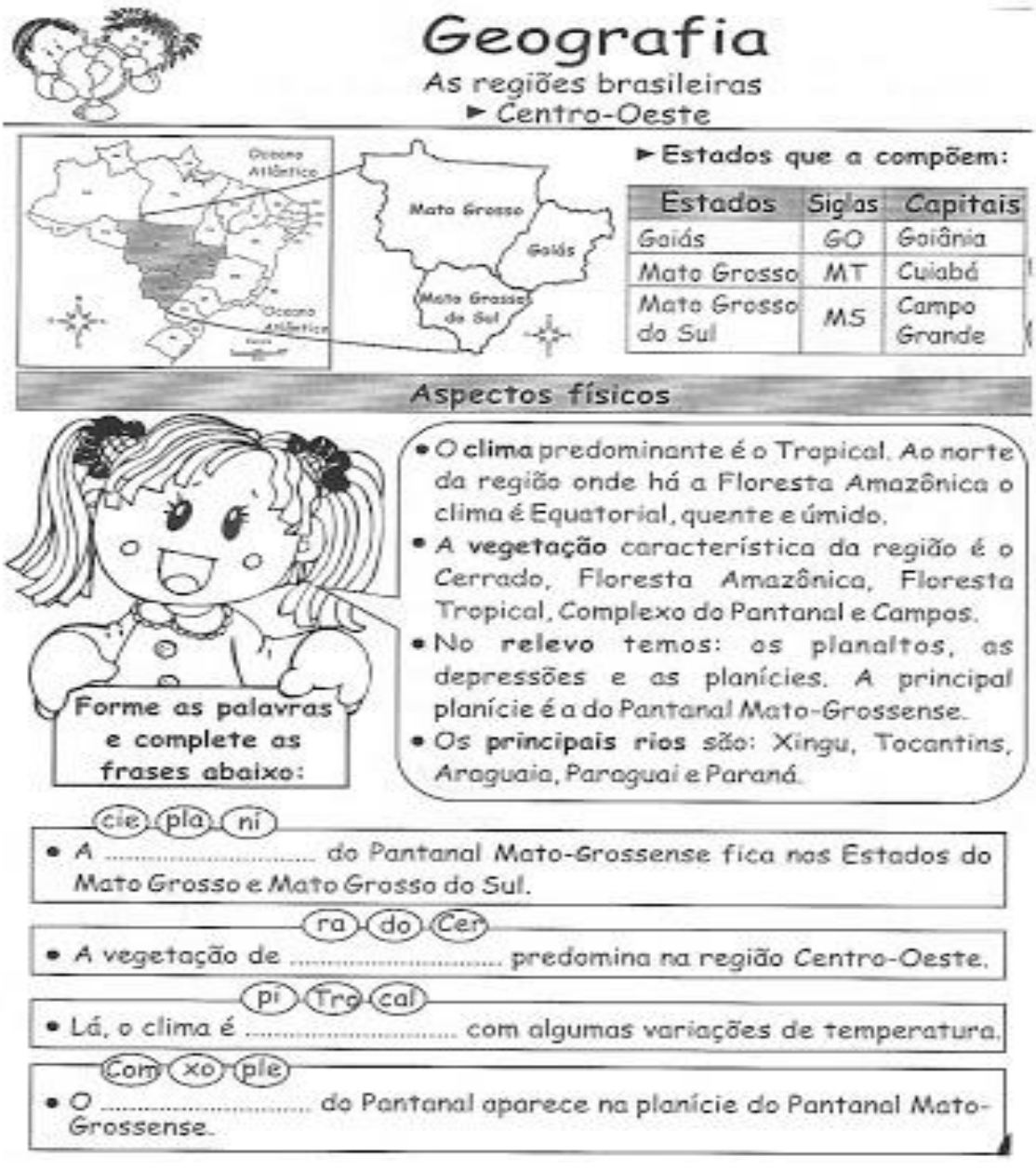

Geografia

As regiões brasileiras

► Centro-Oeste

► Estados que a compõem:

Estados	Siglas	Capitais
Goiás	GO	Goiânia
Mato Grosso	MT	Cuiabá
Mato Grosso do Sul	MS	Campo Grande

Aspectos físicos

- O **clima** predominante é o Tropical. Ao norte da região onde há a Floresta Amazônica o clima é Equatorial, quente e úmido.
- A **vegetação** característica da região é o Cerrado, Floresta Amazônica, Floresta Tropical, Complexo do Pantanal e Campos.
- No **relevo** temos: os planaltos, as depressões e as planícies. A principal planície é a do Pantanal Mato-Grossense.
- Os **principais rios** são: Xingu, Tocantins, Araguaia, Paraguai e Paraná.

Forme as palavras e complete as frases abaixo:

cie pla ni

- A ..... do Pantanal Mato-Grossense fica nas Estados do Mato Grosso e Mato Grosso do Sul.

ra do Cer

- A vegetação de ..... predomina na região Centro-Oeste.

pi Trq cal

- Lá, o clima é ..... com algumas variações de temperatura.

Com xo ple

- O ..... do Pantanal aparece na planície do Pantanal Mato-Grossense.

ESCOLA: Municipal Professor João Batista
PROFESSOR(A): SIMONE BRAGA TURMA(S): 4º C
TURNO: Vespertino **ALUNO (A):**
QUANTIDADE DE AULAS: 04 aulas
COMPONENTE CURRICULAR: HISTÓRIA
PERÍODO: 17/08/2020 á 31/08/2020
Objeto de conhecimento : O passado e o presente : a noção de permanência e as lentas transformações sociais e culturais
Habilidade: EF04HI01



História do Brasil

25 de Agosto - Dia do Soldado

Luíz Alves de Lima e Silva

Patrono do Exército Brasileiro.

► **Nome**: Luíz Alves de Lima e Silva, ... (1) ..... de Caxias.
► **Nasceu**: em Porto da ..... (2) ....., Rio de Janeiro, a 25 de agosto de 1803.
► **Feitos importantes**: Participou da ..... (3) .....Cisplatina e foi comandante do Corpo de ..... (4) ..... Permanentes da Corte. Participou também, da ..... (5) ..... Farroupilha do lado governista.
► **Faleceu**: na fazenda de Santa ..... (6) ....., Rio de Janeiro, a 7 de maio de 1880.

◎ **Transfira as palavras formadas para o texto acima.**

1. QUE DU — .....
2. LA TRE ES — .....
3. RA GUER — .....
4. DAS GUAR — .....
5. VO ÇÃO LU RE — .....
6. NI MÔ CA — .....

ESCOLA: Municipal Professor João Batista
PROFESSOR(A): SIMONE BRAGA TURMA(S): 4º C
TURNO: Vespertino **ALUNO (A):**
QUANTIDADE DE AULAS: 04 aulas
COMPONENTE CURRICULAR: HISTÓRIA
PERÍODO: 17/08/2020 à 31/08/2020 **HABILIDADE:EF04HI01**

.

COMPLETE OS TEXTOS COM APOIO DAS PALAVRAS.



ESTE É O _____.

ELE É UM NEGRINHO MUITO _____, QUE ADORA FAZER _____ COM AS PESSOAS.

SACI USA SEMPRE UM _____ VERMELHO NA CABEÇA E VIVE COM UM _____ NA BOCA.

ALÉM DISSO, ELE TEM UMA _____ SÓ.



O _____ É UM MENINO QUE VIVE NAS _____.

ELE É AMIGO DOS _____ E PROTEGE TODA A FLORESTA DE _____.

O CURUPIRA TEM CABELOS _____ E OS _____ VIRADOS PARA TRÁS.



O HOMEM VIRA _____ TODA VEZ QUE NASCE UM MENINO DEPOIS DE SETE FILHAS.

ELE APARECE EM SEXTA-FEIRA DE _____ CHEIA.

O LOBISOMEM É _____ E TEM _____ NO LUGAR DE UNHAS.

PÉS	PERNA	CURUPIRA	LUA	MATAS	TRAVESSURA
LOBISOMEM	CACHIMBO	ANIMAIS	GORRO	PELUDO	
CAÇADORES	SACI	LEVADO	GARRAS	VERMELHOS	