ESCOLA: Municipal Prof. João Baptista
PROFESSOR(A): SIMONE BRAGA DA SILVA **TURMA(S): 4º C**
TURNO: VESPERTINO **ALUNO (A):**_____
QUANTIDADE DE AULAS: 10 aulas
COMPONENTE CURRICULAR: LÍNGUA PORTUGUESA
PERIODO: 08/06/2020 à 30/06/2020
Objeto de conhecimento: Leitura e interpretação de texto, ortografia
Habilidade: MS.EF35LP07.s.07

CAÇA – PALAVRAS

ORTOGRAFIA RR - R

BARRO
SERROTE
TORRE
CORRIDA
CARROÇA
MORRO
BORRACHA
CACHORRO
ARROZ
MARRECO



REDONDA
RODA
RECEITA
RISADA
RANCHO
RIQUEZA
RATO
RONCO
RÁDIO
RIO

G	R	E	D	O	N	D	A	N	R	A	M	Í	N	D	I	O	P	B
M	I	J	O	M	C	G	C	V	O	P	A	N	S	I	N	O	A	O
V	Q	S	H	Y	X	B	O	N	N	E	R	A	N	C	H	O	P	R
N	U	E	C	Q	C	N	B	H	C	R	R	F	M	A	A	L	R	R
S	E	R	R	O	T	E	A	P	O	J	E	A	R	V	T	G	I	A
E	Z	E	A	A	M	B	R	L	Â	N	C	I	Á	N	O	D	S	C
C	A	R	R	O	Ç	A	R	B	N	A	O	W	D	R	R	G	A	H
L	D	B	O	P	U	M	O	M	L	R	B	D	I	E	R	R	D	A
P	A	R	R	O	Z	U	O	L	S	A	O	U	O	J	E	A	A	R
N	C	A	C	H	O	R	R	O	G	T	M	L	T	O	B	M	H	O
Ç	B	T	B	E	D	E	C	R	I	O	B	O	N	E	M	P	B	D
V	R	E	C	E	I	T	A	F	T	J	A	R	D	I	W	O	D	A
X	M	O	R	R	O	V	B	S	B	O	C	O	R	R	I	D	A	Y

CAÇA – PALAVRAS

ORTOGRAFIA CH - X

CHUVA
CHOCOLATE
CACHAÇA
CHUPETA
RIACHO
CHAVE
CHUVEIRO
CHAPÉU
CHIQUEIRO
CHAMINÉ



BRUXA
CAIXA
AMEIXA
XALE
XERIFE
ABACAXI
PEIXE
BEXIGA
XERETA
BAIXO

G	C	H	O	C	O	L	A	T	E	A	M	Í	C	D	I	O	P	C
M	H	J	O	M	C	G	C	V	O	P	A	N	A	I	N	O	A	H
V	I	S	H	Y	X	B	E	X	I	G	A	I	C	C	H	O	P	U
N	Q	X	E	R	E	T	A	H	C	R	X	C	H	A	P	É	U	P
S	U	R	C	H	A	M	I	N	É	J	E	A	A	V	T	G	C	E
E	E	E	A	A	M	B	R	L	Â	N	R	I	Ç	N	O	D	A	T
C	I	R	R	I	A	C	H	O	N	A	I	W	A	R	R	G	I	A
L	R	B	C	H	U	V	E	I	R	O	F	D	I	E	A	R	X	A
P	O	R	B	A	I	X	O	L	S	A	E	U	O	J	M	A	A	C
N	C	U	C	P	E	I	X	E	G	X	M	L	T	O	E	M	H	H
Ç	B	X	B	E	D	E	C	R	I	A	B	O	N	E	I	P	B	A
V	R	A	C	E	I	T	A	F	T	L	A	R	D	I	X	O	D	V
A	B	A	C	A	X	I	B	S	B	E	C	H	U	V	A	D	A	E

ESCOLA: Municipal Prof. João Baptista
PROFESSOR(A): SIMONE BRAGA DA SILVA **TURMA(S):** 4º C
TURNO: VESPERTINO ALUNO (A): _____-
QUANTIDADE DE AULAS: 10 aulas
COMPONENTE CURRICULAR: LÍNGUA PORTUGUESA
PERÍODO: 08/06/2020 À 20/06/2020





Complete as palavras corretamente marcando com um X nas letras.

PALAVRA	C	SC	ESCREVA A PALAVRA
pi.....ina			
.....inema			
cre.....er			
a.....ima			
na.....er			
te.....ido			
e.....ada			
.....imento			
e.....rever			
edifí.....io			
.....erto			
na.....ente			
e.....uro			
pe.....oço			
de....er			
....ebola			

ESCOLA: Municipal Prof. João Baptista
PROFESSOR(A): SIMONE BRAGA DA SILVA **TURMA(S):** 4º C
TURNO: VESPERTINO ALUNO (A): _____-
QUANTIDADE DE AULAS: 10 aulas
COMPONENTE CURRICULAR: LÍNGUA PORTUGUESA
PERÍODO : 08/06/2020 À 30/06/2020

Emília

(Baby Consuelo)

De uma caixa de costura
Pano, linha e agulha
Nasceu uma menina valente
Emília, a boneca gente
Nos primeiros momentos de vida
Era toda desengonçada,
Ficar em pé não podia
Caía, não conseguia nada.

Emília, Emília, Emília
Emília, Emília, Emília.



Mas a partir do momento
Que aprendeu a andar
Emília tomou uma pílula
E tagarelou, tagarelou a falar
Ela é feita de pano
Mas pensa como ser humano
Esperta e atrevida
É uma maravilha, Emília, Emília.

Emília, Emília, Emília
Emília, Emília, Emília.

De Olho na Canção!

1. A canção fala de:

( ) um soldadinho de chumbo ( ) um gato de botas ( ) uma boneca de pano

2. Pra fazer Emília o que foi utilizado?

_____

3. Na sua opinião o que significa tagarelar?

_____

4. O texto diz que Emília é ...

( ) esperta e atrevida ( ) alegre e extovertida ( ) não sabe nada da vida

5. Retire do texto 4 palavras com a mesma classificação silábica da palavra Emília.

_____

_____

ESCOLA: Municipal Professor João Batista
PROFESSOR(A): SIMONE BRAGA DA SILVA TURMA(S): 4º C
TURNO: Vespertino **ALUNO(A) : _____**
QUANTIDADE DE AULAS:08 aulas
COMPONENTE CURRICULAR: MATEMÁTICA
PERÍODO: 08/06/2020 À 30/06/2020
Objeto de conhecimento : Gráfico **Massa,capacidade,tempo e temperatura**
Habilidade: (MS.EF04MA17.s.17)

ESTUDANDO GRÁFICO

1 – DE ACORDO COM O GRÁFICO, RESPONDA:



A) QUANTOS ANOS TEM RUTE?

_____

B) E MARIA?

_____

C) QUEM É A MAIS NOVA?

_____

D) QUEM TEM MAIS ANOS DE VIDA, RUTE OU MARIA?

_____

E) QUANTOS ANOS RUTE TÊM A MAIS QUE MARIA?

_____

F) QUANTOS ANOS RUTE TÊM A MAIS QUE ANA?

_____

G) QUANTOS ANOS ANA TEM A MAIS QUE MARIA?

_____

SE NECESSÁRIO, UTILIZE ESTE ESPAÇO PARA CALCULAR.

ESCOLA: Municipal Professor João Batista
PROFESSOR(A): SIMONE BRAGA DA SILVA TURMA(S): 4º C
TURNO: Vespertino **ALUNO(A) : _____**
QUANTIDADE DE AULAS:08 aulas
COMPONENTE CURRICULAR: MATEMÁTICA
PERÍODO: 08/06/2020 À 30/06/2020

MATEMÁTICA

(Se precisar fazer operações deixe ao lado da questão).

Questão 01 – (D1)

Observe o tabuleiro de animais que Rodrigo desenhou:



O cavalo está localizado no seguinte ponto:

a) ( ) 6C. b) ( ) 4D. c) ( ) 2D. d) ( ) 4E.

Questão 02 – (D10)

A professora do 3º ano da EE Alegria de Saber foi à feira comprar frutas para fazer uma deliciosa salada.

Ela comprou 3 quilos de laranja, 4 quilos de banana, 2 quilos de maça e 2 quilos de mamão. A professora comprou:

a) ( ) 9 quilos de fruta.
b) ( ) 10 quilos de fruta.
c) ( ) 11 quilos de fruta.
d) ( ) 12 quilos de fruta.

Questão 03 – (D11)

O período em que o mico-leão pode ter seus filhotes, ou seja, reproduzir -se, é de setembro a dezembro e, normalmente, tem dois filhotes gêmeos. Este período corresponde a:



a) ( ) 4 meses. b) ( ) 5 meses. c) ( ) 7 meses. d) ( ) 9 meses.

Questão 04 – (D14)

A família de Ricardo foi ao cinema. O relógio está marcando a hora em que esta família saiu de casa. O relógio está marcando:



a) ( ) 13 horas. b) ( ) 15 horas.
c) ( ) 18 horas. d) ( ) 20 horas.

ESCOLA: Municipal Professor João Batista
PROFESSOR(A): SIMONE BRAGA DA SILVA TURMA(S): 4º C
TURNO: Vespertino **ALUNO(A) : _____**
QUANTIDADE DE AULAS:08 aulas
COMPONENTE CURRICULAR: MATEMÁTICA
PERÍODO: 08/06/2020 À 20/06/2020

COMPLETE A CENA DE ACORDO COM AS PISTAS:

- DESENHE UM **SOL** DO **LADO DIREITO**.
- DESENHE UMA **ÁRVORE** DO **LADO ESQUERDO** DA CASA.
- DESENHE **MONTANHAS ATRÁS** DA CASA.
- DESENHE UMA **CRIANÇA EM FRENTE** A CASA.
- DESENHE UM **JARDIM** AO **LADO DIREITO** DA CASA.



QUAL É O PESO?

Observa e responde:



a) Quem pesa mais?

b) Quem é mais leve?

c) Quantos quilos Paulo tem a mais que Luísa?

d) Quanto pesam Marco e José juntos?

e) Quantos quilos Luísa tem a menos que Ciro?



ESTADO DE MATO GROSSO DO SUL
MUNICÍPIO DE LADÁRIO

SECRETARIA MUNICIPAL DE EDUCAÇÃO

ESCOLA: Municipal Professor João Batista
PROFESSOR(A): SIMONE BRAGA DA SILVA TURMA(S): 4º C
TURNO: Vespertino **ALUNO(A) : _____**
QUANTIDADE DE AULAS:05 aulas
COMPONENTE CURRICULAR: GEOGRAFIA
PERÍODO: 08/06/2020 À 30/06/2020
Objeto de conhecimento : Território e diversidade cultural
Habilidade: (MS.EF04GE01.s.01)

A MINHA CIDADE

1º TEXTO

A cidade onde moro é bem pequena, por isso todo mundo se conhece.

Em noites de calor, é bom trazer a cadeira para fora, sentar se com os amigos e jogar conversa fora até a fresca da noite chegar.

Aqui as crianças brincam na rua, e o nosso maior divertimento depois da novela é prosear com os amigos.



2º TEXTO

A cidade onde moro é muito grande. Eu mal conheço o meu vizinho.

Quando abro a janela do meu apartamento, o que vejo são prédios e um barulho de trânsito que chega a ensurdecer.



LIGUE-SE NESTA!

1. Com qual dos textos a sua cidade se identifica?

☐ Primeiro texto ☐ Segundo texto

2. Em qual das duas cidades retratadas no texto você gostaria de morar? Por quê?

_____

_____

ESTADO DE MATO GROSSO DO SUL
MUNICÍPIO DE LADÁRIO

SECRETARIA MUNICIPAL DE EDUCAÇÃO

ESCOLA: Municipal Professor João Batista
PROFESSOR(A): SIMONE BRAGA DA SILVA TURMA(S): 4º C
TURNO: Vespertino **ALUNO(A) : _____**
QUANTIDADE DE AULAS:05 aulas
COMPONENTE CURRICULAR: GEOGRAFIA
PERÍODO: 08/06/2020 À 30/06/2020
Objeto de conhecimento : Território e diversidade cultural



ESTADO DE MATO GROSSO DO SUL
MUNICÍPIO DE LADÁRIO

SECRETARIA MUNICIPAL DE EDUCAÇÃO

ESCOLA: Municipal Professor João Batista
PROFESSOR(A): SIMONE BRAGA DA SILVA TURMA(S): 4º C
TURNO: Vespertino **ALUNO(A) : _____**
QUANTIDADE DE AULAS:05 aulas
COMPONENTE CURRICULAR: GEOGRAFIA
PERÍODO: 08/06/2020 À 30/06/2020

Veja quais são as principais formas de relevo:

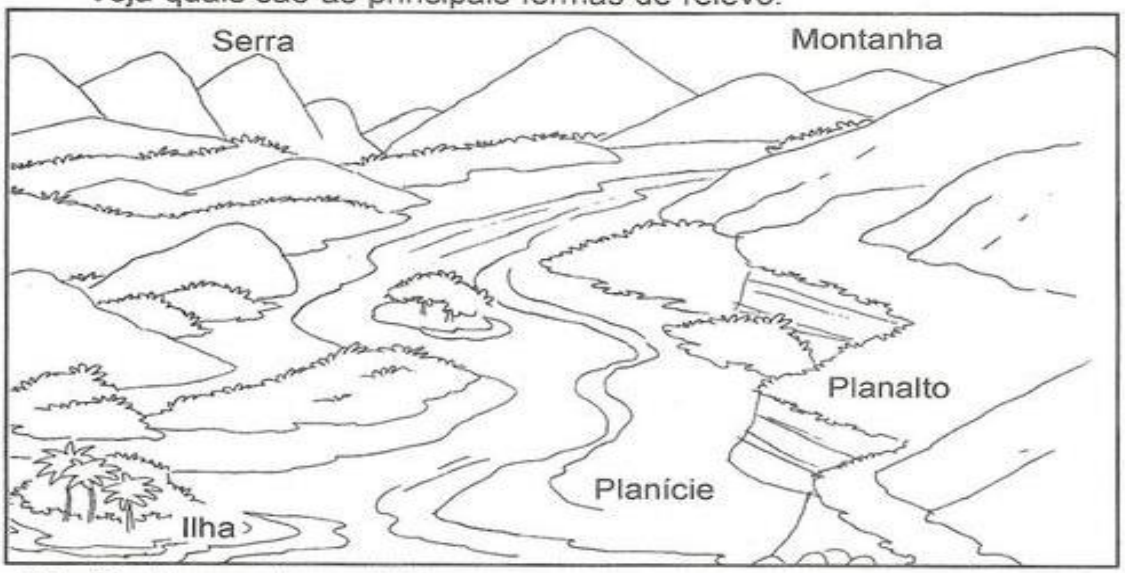

- Planície: terreno plano e baixo.
- Planalto: terreno plano situado em lugar alto.
- Montanha: grande elevação de terra.
- Morro ou monte: pequena elevação de terra.
- Serra: conjunto de montanhas.
- Vale: espaço entre duas montanhas ou montes.
- Ilha: porção de terra cercada de água.

Atividades

1 - Complete a cruzadinha, identificando as formas de relevo:



1 - Pequena elevação de terra.
2 - Terreno baixo e plano.
3 - Espaço mais baixo entre duas montanhas.
4 - Grande elevação de terra.

1			R						
			E						
2		L							
3				E					
				V					
4		O							



ESTADO DE MATO GROSSO DO SUL
MUNICÍPIO DE LADÁRIO

SECRETARIA MUNICIPAL DE EDUCAÇÃO

ESCOLA: Municipal Professor João Batista
PROFESSOR(A): SIMONE BRAGA DA SILVA **TURMA(S): 4º C**
TURNO: Vespertino **ALUNO (A):**
QUANTIDADE DE AULAS: 02 AULAS
COMPONENTE CURRICULAR: HISTÓRIA
PERÍODO: 08/06/2020 À 30/06/2020
Objeto de conhecimento : Transformações e permanências nas trajetórias dos grupos humanos
Habilidade: MS.EF04HI01.S.01



História

► O Segundo Reinado (1840-1889)

- Em junho de 1840, D. Pedro foi coroado **Imperador do Brasil**, com o título de **D. Pedro II**.
- D. Pedro II governou o Brasil por quase cinqüenta anos.
- Luís Alves de Lima e Silva, o futuro Duque de Caxias ajudou na pacificação.
- O governo imperial sufocou a Revolução Praieira, em Pernambuco, de 1848 a 1850. Os revoltosos queriam o controle do comércio pelos brasileiros, o fim da escravidão e a proclamação da República.
- O conflito mais longo foi a Guerra do Paraguai, que durou de 1865 até 1870. Envolveu, de um lado, o Brasil, a Argentina e o Uruguai, e, de outro lado, o Paraguai. O Paraguai, além de derrotado, foi arrasado.



Numere os acontecimentos de acordo com as datas.

(1) 1840 (2) 1848 a 1850 (3) 1865 a 1870

( ) O governo imperial sufocou a Revolução Praieira, em Pernambuco.

( ) D. Pedro II enfrentou conflitos com alguns países vizinhos. O conflito mais longo foi a Guerra do Paraguai.

( ) D. Pedro foi coroado **Imperador do Brasil.**

- **Qual a ordem numérica que você encontrou?**

a) (3, 2, 1) **b)** (1, 3, 2) **c)** (2, 3, 1)

ESTADO DE MATO GROSSO DO SUL
MUNICÍPIO DE LADÁRIO

SECRETARIA MUNICIPAL DE EDUCAÇÃO

ESCOLA: Municipal Professor João Batista
PROFESSOR(A): SIMONE BRAGA DA SILVA TURMA(S): 4º C
TURNO: Vespertino **ALUNO (A):**
QUANTIDADE DE AULAS: 02 AULAS
COMPONENTE CURRICULAR: HISTÓRIA
PERÍODO: 08/06/2020 À 30/06/2020

- PESQUISE E COLE ABAIXO ALGUNS MEIOS DE COMUNICAÇÃO DO PASSADO E PRESENTE.

Assinatura do coordenador (a) pedagógico