ESCOLA: Municipal Prof. João Baptista
PROFESSOR(A): SIMONE BRAGA **TURMA(S): 4º C**
TURNO: VESPERTINO **ALUNO (A):**_____
QUANTIDADE DE AULAS: 06 aulas
COMPONENTE CURRICULAR: LÍNGUA PORTUGUESA
PERIODO: 08/09/2020 à 15/09/2020
Objeto de conhecimento: Leitura e interpretação de texto, Gênero e Número
Habilidade : MS.EF04LP07.s.07



ESCOLA: Municipal Prof. João Baptista
PROFESSOR(A): SIMONE BRAGA **TURMA(S):** 4º C
TURNO: VESPERTINO
ALUNO (A): _____-
QUANTIDADE DE AULAS: 06 aulas
COMPONENTE CURRICULAR: LÍNGUA PORTUGUESA
PERÍODO: 08/09/2020 à 15/09/2020
HABILIDADE: MS.EF04LP07.s.07

Gramática: Aumentativo e Diminutivo

ATIVIDADES

1 – Leia as palavras do quadro e complete as palavras abaixo com o seu diminutivo:

foquinha	amiguinho	porquinho
tartaruguinha	coquinho	empreguinho
saquinho	foguetinho	queijinho
reguinha	bonequinha	pulguinha
jaquetinha	formiguinha	pipoquinha

a) porco - _____
b) boneca - _____
c) saco - _____
d) jaqueta – _____
e) foca - _____
f) queijo - _____
g) coco - _____
h) pipoca - _____
i) amigo - _____
j) pulga - _____
k) foguete - _____
l) tartaruga - _____
m) emprego - _____
n) régua - _____
o) formiga - _____

2 – Escreva as frases e substitua as palavras destacadas pelo aumentativo.

a) Ganhei um **trem** e um **avião** de presente de aniversário.
R - _____

3 – Meu **carro** quebrou.
R - _____

4 – Renato é meu **amigo**.
R - _____

5 – O **cachorro** do **Paulo** é feroz.
R - _____

3 – Escreva o aumentativo de:

a) boneca - _____
b) caneta – _____
c) casaco – _____
d) cabelo – _____
e) orelha – _____
f) caderno – _____

http://varaldeatividades.blogspot.com/

ESTADO DE MATO GROSSO DO SUL
MUNICÍPIO DE LADÁRIO
SECRETARIA MUNICIPAL DE EDUCAÇÃO

ESCOLA: Municipal Prof. João Baptista

PROFESSOR(A): SIMONE BRAGA **TURMA(S):** 4º C

TURNO: VESPERTINO

ALUNO (A): _____-

QUANTIDADE DE AULAS: 06 aulas

COMPONENTE CURRICULAR: LÍNGUA PORTUGUESA

PERÍODO : 17/08/2020 à 31/08/2020

HABILIDADE:

MS.EF04LP06.s.06

Continuando a história

Complete a história abaixo da maneira que quiser. Seja criativo e abuse da sua imaginação.



Era uma vez _____

_____

que vivia _____

_____

Todos achavam _____

_____

_____

_____

Até que um dia _____

_____

_____

_____

Então _____

_____

_____

_____

_____

_____

E assim todos _____

_____

_____

_____

_____

ESCOLA: Municipal Professor João Batista
PROFESSOR(A): SIMONE BRAGA TURMA(S): 4º C
TURNO: Vespertino **ALUNO(A) : _____**
QUANTIDADE DE AULAS:05 aulas
COMPONENTE CURRICULAR: MATEMÁTICA
PERÍODO: 08/09/2020 à 15/09/2020
Objeto de conhecimento : POLÍGONOS
Habilidade: EF04MA16

Nome dos polígonos

É dado em função do número de lados.

Triângulo ou Trilátero = 3 lados
Quadrângulo ou Quadrilátero = 4 lados
Pentágono = 5
Hexágono = 6
Heptágono = 7
Octógono = 8
Eneágono = 0
Decágono = 10
Undecágono = 11
Dodecágono = 12
Tridecágono = 13
Tetradecágono = 14
Pentadecágono = 15
Hexadecágono = 16
Heptadecágono = 17
Octadecágono = 18
Eneadecágono = 19
Icoságono = 20

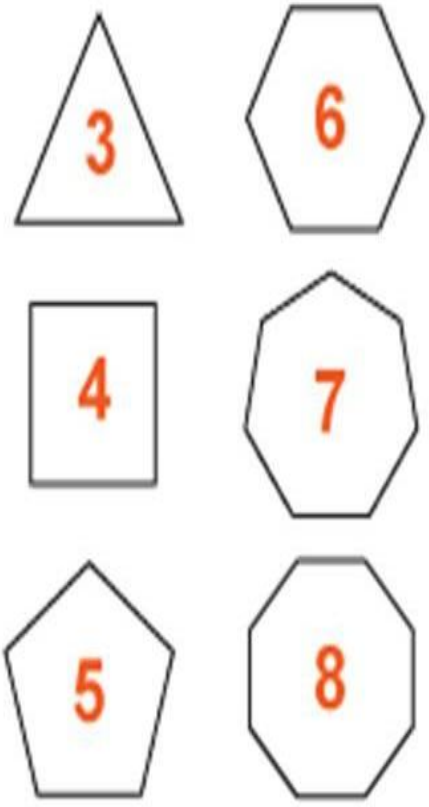

4

ESCOLA: Municipal Professor João Batista
PROFESSOR(A): SIMONE BRAGA TURMA(S): 4º C
TURNO: Vespertino **ALUNO(A) : _____**
QUANTIDADE DE AULAS: 05 AULAS
COMPONENTE CURRICULAR: MATEMÁTICA
PERÍODO: 08/09/2020 à 15/09/2020 **HABILIDADE:** EF04MA16

POLÍGONOS

Polígono é uma figura geométrica cuja palavra vem do grego e quer dizer: poli (muitos) + gono (ângulo).

Polígonos são figuras fechadas formadas por segmentos de reta, apresentando os seguintes elementos: lados (AB, BC, CD...), vértices (A, B, C...) e ângulos (a, b, c...).

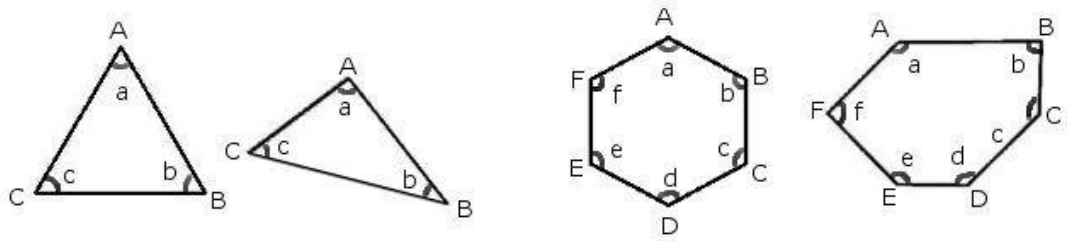

Utilizando os pontos abaixo, trace polígonos de 3, 4, 5 e 6 lados. Em seguida, pinte a região interna de cada um deles, utilizando cores diferentes.

ESCOLA: Municipal Professor João Batista
PROFESSOR(A): SIMONE BRAGA TURMA(S): 4º C
TURNO: Vespertino **ALUNO(A) : _____**
QUANTIDADE DE AULAS: 05 aulas
COMPONENTE CURRICULAR: MATEMÁTICA
PERÍODO: 08/09/2020 à 15/09/2020 **HABILIDADE:** EF04MA16

POLÍGONOS



Poli significa muitos e **gonos** significa ângulos.

✎ Observe a tabela e escreva os nomes dos polígonos de acordo com o número de lados.

penta	hexa	hepta	octo	enea	deca
5 lados	6 lados	7 lados	8 lados	9 lados	10 lados

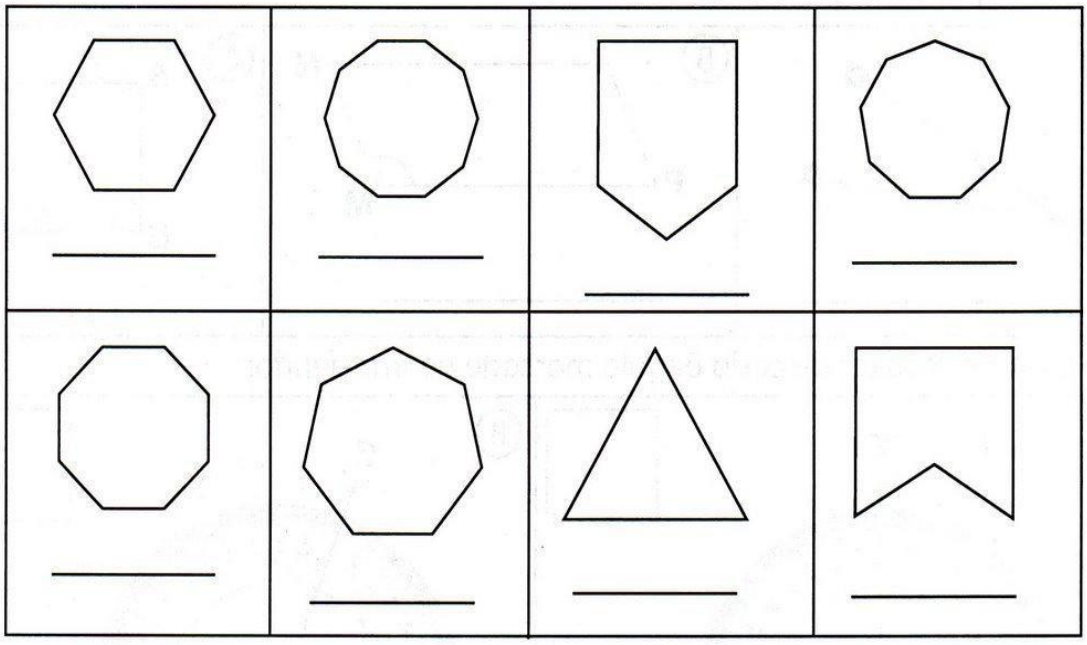

ESCOLA: Municipal Professor João Batista
PROFESSOR(A): SIMONE BRAGA TURMA(S): 4º C
TURNO: Vespertino **ALUNO(A) : _____**
QUANTIDADE DE AULAS: 02 aulas
COMPONENTE CURRICULAR: GEOGRAFIA
PERÍODO: 08/09/2020 à 15/09/2020
Objeto de conhecimento A ATIVIDADE INDUSTRIAL
Habilidade: EF04GE08



ESCOLA: Municipal Professor João Batista
PROFESSOR(A): SIMONE BRAGA TURMA(S): 4º C
TURNO: Vespertino **ALUNO(A) : _____**
QUANTIDADE DE AULAS: 02 aulas
COMPONENTE CURRICULAR: HISTÓRIA
PERÍODO: 08/09/2020 à 15/09/2020
Objeto de conhecimento : A cidade presente e passado **HABILIDADE: EF04HI01**

Trabalho Infantil

Observe as imagens:





1. Qual delas nos mostra um ambiente rural?

_____

2. O que há de comum entre elas?

_____

_____

3. Como você entende essa situação?

_____

_____

4. Você acredita que essas crianças frequentam a escola?

_____

5. Em sua opinião qual das crianças está em situação maior de perigo? Por quê?

_____

_____

6. Nesse caso, podemos dizer que na roça é diferente?

_____