ESCOLA: PROF. JOÃO BAPTISTA

PROFESSOR (A): ROSEMEIRE DO CARMO
TURMA (S): 6º A
ENSINO FUNDAMENTAL TURNO: MATUT.
ALUNO (A):

COMPONENTE CURRICULAR: MATEMÁTICA
PERÍODO: 08 a 15.09
QUANTIDADE DE AULAS: 05

Objeto de conhecimento: Ãngulos
Habilidade:

- (EF06MA15)

AULA – 08.09 A 11.09- Leitura e explanação sobre Ângulos

ANGULOS

Ângulos são duas semirretas que têm a mesma origem, no vértice, e são medidos em grau (º) ou em radiano (rad), de acordo com o Sistema Internacional.

Tipos de Ângulos

Conforme as suas medidas, os ângulos são classificados em agudo, reto, obtuso e raso.

Agudo - O ângulo agudo mede menos do que 90º

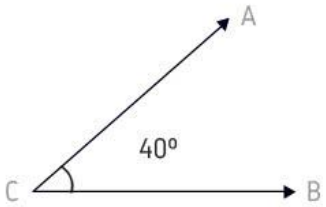

Reto -O ângulo reto mede o mesmo que 90º (= 90º).

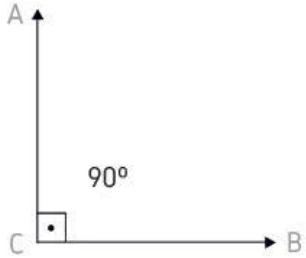

Obtuso -O ângulo obtuso mede mais do que 90º e menos do que 180º (90º >

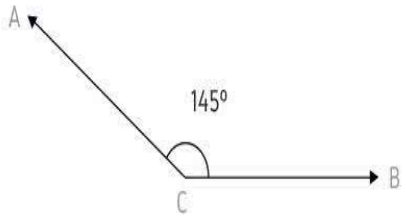

Raso - O ângulo raso, também conhecido como meia volta, mede o mesmo que 180º (= 180º).

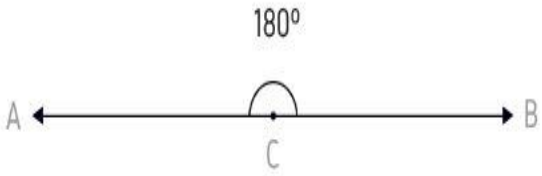

O instrumento utilizado para medir um ângulo é chamado de **TRANSFERIDOR.**

EXERCÍCIOS:

1. Defina o que é Ângulo;

2. Quais são os tipos de ângulos;

3. Qual é o nome do instrumento utilizado para medir um ângulo?

4. Classifique os ângulos abaixo em agudo, reto , obtuso e raso;

