ESCOLA MUNICIPAL PROFESSOR JOÃO BAPTISTA
DISCIPLINA: MATEMÁTICA SÉRIE 6º A E B
PROFESSORA: ROSEMEIRE CARMO
ALUNO(A)_____

ATIVIDADE PEDAGÓGICA COMPLEMENTAR

- PRIMEIRA ATIVIDADE (referente ao dia 24/04)- realizar Pesquisa em livros ou sites, sobre RETAS, PLANOS E PONTO (apresentar a pesquisa na caderno)
- SEGUNDA ATIVIDADE – (referente ao dia (24/04) realizar Pesquisa em livros ou site, sobre SEMIRRETA E SEGMENTO DE RETA (apresentar a pesquisa no caderno)
- TERCEIRA ATIVIDADE (referente 25/04) – desenvolver a ATIVIDADE fotocopiadas com o conteúdo abordado sobre RETAS, PLANOS, PONTOS, SEMIRRETAS E SEGMENTOS DE RETAS
- QUARTA ATIVIDADE (referente 27/04) – realizar Pesquisa sobre POLIGONOS E TRIANGULOS (apresentar a pesquisa no caderno)
- QUINTA ATIVIDADE(referente 28/04) - realizar a ATIVIDADE fotocopiadas com o conteúdo abordado POLIGONOS E TRIANGULOS

ESCOLA MUNICIPAL PROFESSOR JOÃO BAPTISTA
DISCIPLINA: MATEMÁTICA SÉRIE 6º A E B
PROFESSORA: ROSEMEIRE CARMO
ALUNO(A)_____

ATIVIDADE PEDAGÓGICA COMPLEMENTAR (24/04)

1) Quais são os tipos de retas?

2) O que são retas paralelas?

3) O que são retas perpendiculares?

4) O que são retas reversas?

5) O que são retas concorrentes?

6) O que são retas coincidentes?

7) O que são retas coplanares?

8) Meça os seguintes segmentos de reta, em centímetros e em milímetros.

a) A ——— B

b) A ——— B

c) A ——————— B

d) A ——————— B

9) Quantas retas podemos traçar por dois pontos, simultaneamente? E quantas linhas podemos traçar pelos mesmos dois pontos?

ESCOLA MUNICIPAL PROFESSOR JOÃO BAPTISTA
DISCIPLINA: MATEMÁTICA SÉRIE 6º A E B
PROFESSORA: ROSEMEIRE CARMO
ALUNO(A)_____

ATIVIDADE PEDAGÓGICA COMPLEMENTAR – 28/04

1- Polígonos são:

A- Figuras que possuem linhas curvas e retas.

B- Figuras que possuem várias faces.

C- Figuras geométricas que possuem vários ângulos.

D- Figuras que representam sólidos geométricos.

2- Quais formas geométricas são quadriláteros?



I II III IV V

A- As Figuras II e III

B- As figuras III e V

C- As figuras I e II

D- As figuras III, IV e V

3- Observe as figuras e marque um X onde todas são triângulos:

A- 

B- 

C- 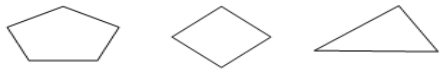

D- 

ESCOLA MUNICIPAL PROFESSOR JOÃO BAPTISTA
DISCIPLINA: MATEMÁTICA SÉRIE 6º A E B
PROFESSORA: ROSEMEIRE CARMO
ALUNO(A)_____

ATIVIDADE PEDAGÓGICA COMPLEMENTAR – 28/04

1- Polígonos são:

A- Figuras que possuem linhas curvas e retas.

B- Figuras que possuem várias faces.

C- Figuras geométricas que possuem vários ângulos.

D- Figuras que representam sólidos geométricos.

2- Quais formas geométricas são quadriláteros?



I II III IV V

A- As Figuras II e III

B- As figuras III e V

C- As figuras I e II

D- As figuras III, IV e V

3- Observe as figuras e marque um X onde todas são triângulos:

A- 

B- 

C- 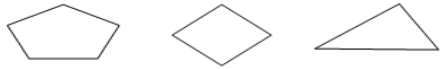

D- 