ESCOLA MUNICIPAL PROFESSOR JOÃO BAPTISTA.
Ladário – MS, ___ / ____ / 2020
Aluno (a): _____7º ANO – Turma A
Professor: Oswaldo Adorno Monteiro

ATIVIDADE AVALIATIVA DE MATEMÁTICA

1) As estradas 1 e 2 ligam as cidades de Miramar e Mirante. A estrada 3 corta as outras duas. No mapa abaixo, estão representadas essas estradas.
Quais delas são paralelas?
A) Estrada 1 e estrada 3.
B) Estrada 1 e estrada 2.
C) Estrada 2 e estrada 3.
D) Estrada 1, estrada 2 e estrada 3.

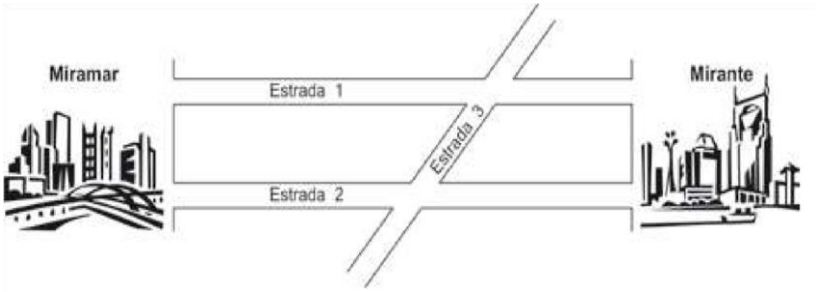

2) O número 9 806 pode ser escrito da seguinte forma:
A) nove mil e oitenta e seis
B) nove mil oitocentos e sessenta
C) nove mil oitocentos e seis
D) nove mil oitenta sessenta

3) O carro de João consome 1 litro de gasolina a cada 10 quilômetros percorridos. Para ir da sua casa ao sítio, que fica distante 63 quilômetros, o carro consome:
A) 5,3 L B) 6 L C) 6,3 L D) 7 L

4) Fernando tem, no seu cofrinho, cinco moedas de R$ 0,05, oito moedas de R$ 0,10 e três moedas de R$ 0,25. Que quantia Fernando tem no cofrinho?
A) R$ 1,55 B) R$ 1,80 C) R$ 2,05 D) R$ 4,05

5) Dois amigos colecionam bolas de gude. João tem 17 bolinhas, e Paulo tem 25. Quantas bolas de gude os dois têm juntos?
A) 17 B) 25 C) 32 D) 42

6) O gráfico, a seguir, mostra a quantidade de carros vendidos em uma loja nos meses de maio, junho, julho e agosto.

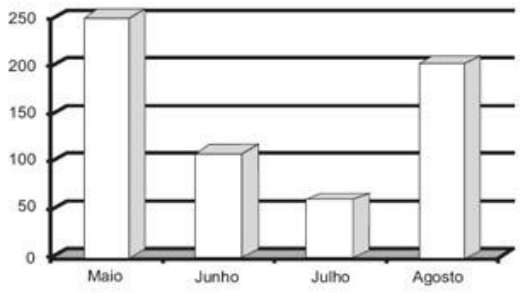

De acordo com o gráfico, observa-se que:
A) agosto foi o mês no qual se venderam mais carros.
B) em maio venderam-se menos carros do que em agosto.
C) em junho vendeu-se a mesma quantidade de carros que em agosto.
D) julho foi o mês no qual se venderam menos carros

7) Qual a diferença entre a quantidade de carros vendidos em agosto e a quantidade de carros vendidos em junho?
A) 150 B) 200 C) 100 D) 50

8) Observe, abaixo, as figuras geométricas que uma professora desenhou no quadro. Aquela que representa um losango é a de número:
A) 1
B) 2
C) 3
D) 4



ESCOLA MUNICIPAL PROFESSOR JOÃO BAPTISTA.
Ladário – MS, ___ / ____ / 2020
Aluno (a): _____7º ANO – Turma A
Professor: Oswaldo Adorno Monteiro

2ª ATIVIDADE AVALIATIVA DE MATEMÁTICA

1) Caio quer dividir uma garrafa de 2 litros de refrigerante com seus amigos. Sabendo que um copo contém 200 ml de refrigerante. Caio conseguirá encher:
A) 1 copo B) 10 copos C) 20 copos D) 30 copos

2) As escolas "Morada da Luz" e "Saber Mais" têm, juntas, 4 982 alunos. As duas escolas têm o mesmo número de alunos. A quantidade de alunos na escola Morada da Luz é:
A) 2 441 alunos
B) 2 491 alunos
C) 2 490 alunos
D) 9 964 alunos

3) Há três meses, Lúcia pesava 31,3 kg. Hoje ela pesa 29,7 kg. Pode-se afirmar que Lúcia emagreceu:
A) 1,8 kg B) 1,7 kg C) 1,6 kg D) 1,5 kg

4) Rafael dividiu uma pizza em oito pedaços iguais e comeu dois (figura ao lado). Qual a fração que representa o pedaço que Rafael comeu?

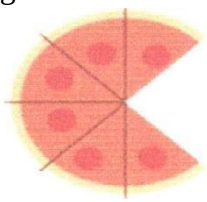

A) $\frac{8}{2}$ B) $\frac{8}{6}$ C) $\frac{6}{8}$ D) $\frac{2}{8}$

5) Qual o valor do algarismo 5 no número 2 579?

A) 5 000 B) 500 C) 50 D) 5

6) Isabela faz parte de um coral e vai fazer uma apresentação na igreja de seu bairro. Veja, no mapa abaixo, onde ela está.

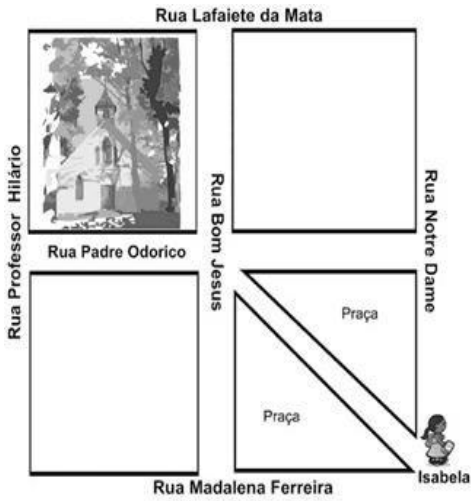

O caminho mais curto para Isabela chegar à igreja é:

A) Indo pela Rua Madalena Ferreira, subindo a Rua Bom Jesus e entrando na Rua Lafaiete da Mata.

B) Indo pela Rua Notre Dame, seguindo pela Rua Lafaiete da Mata e descendo a Rua Bom Jesus.

C) Pegando o caminho entre as praças e seguindo pela Rua Padre Odorico.

D) passando pela Rua Madalena Ferreira e subindo a Rua Professor Hilário.

7) Acordei às 7 h da manhã. Qual dos relógios abaixo mostra a hora em que eu acordei?

A)  B)  C)  D) 

ESCOLA MUNICIPAL PROFESSOR JOÃO BAPTISTA
Ladário – MS, ___ / ____ / 2020
Aluno (a): _____7º ANO – Turma A
Professor: Oswaldo Adorno Monteiro

TRABALHO DE MATEMÁTICA

1) O quadro abaixo mostra a relação das compras que Aline fez na padaria:

Antes de passar pelo caixa da padaria, ela fez o cálculo de quanto gastará. Quanto Aline deverá pagar?
A) R$ 10,20
B) R$ 9,00
C) R$ 6,10
D) R$ 7,90

Padaria Três Rios
1 Leite ..... R$ 2,30
1 Rosca ..... R$ 3,80
1 Manteiga ..... R$ 4,10

2) Ana é secretária de um médico. Ela registrou na agenda dele alguns atendimentos do dia, na parte da manhã. Veja o que ela fez.

HORÁRIO	PACIENTE
7:00	Rogério Moreira
7:45	Cibele Resende
8:30	José Aguiar
9:15	Geraldo Veloso
10:00	Rosana Mendonça

Quanto tempo dura uma consulta desse médico?
A) 45 minutos
B) 30 minutos
C) 60 minutos
D) 15 minutos

3) Juliana gosta de ler e todos os meses ela compra um livro. No mês de maio, ela foi à livraria e viu a seguinte promoção:

2 LIVROS POR APENAS R$14,90!!

Ela aproveitou a promoção e comprou os dois livros. Quanto Juliana pagou por cada um deles?

A) R$ 7, 00 B) R$ 7, 31 C) R$ 7, 40 D) R$ 7, 45

4) Marina usou um elástico para representar uma figura no quadro de preguinhos que a professora levou para a sala de aula. Veja o que ela fez. Observando que a medida entre dois preguinhos é de 1cm, qual é o perímetro da figura que Marina representou?

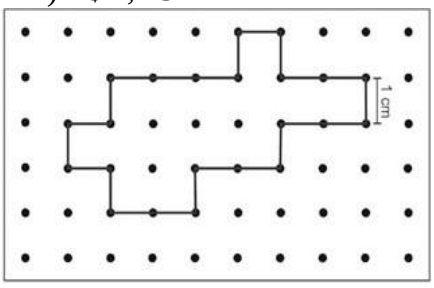

A) 20 cm
B) 22 cm
C) 18 cm
D) 16 cm

5) Roberto correu a Maratona da Pampulha em 2008. Ele fez o percurso em 1 hora e 47 minutos. Qual foi o tempo em minutos gasto por Roberto para completar essa maratona?
A) 100 minutos. B) 107 minutos. C) 117 minutos. D) 147 minutos.

6) Para participar de um jogo, Leandro vai fazer um dado de papel igual a este.



Para isso precisa escolher o molde de número:

A) 1
B) 2
C) 3
D) 4

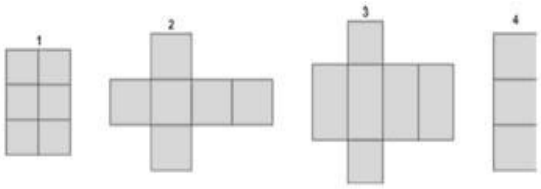

7) Utilizando, como unidade de medida, o quadradinho do papel quadriculado, a área da palavra "PAZ" representada abaixo é igual a:

A) 18 quadradinhos
B) 31 quadradinhos
C) 45 quadradinhos
D) 50 quadradinhos

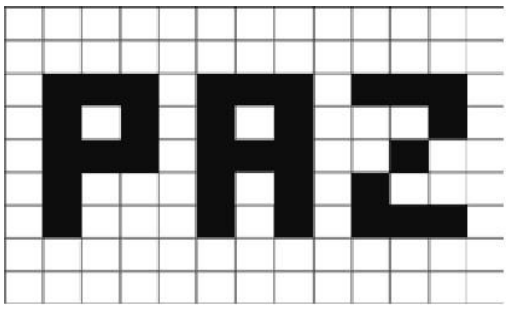

8) Um estudante pretende se inscrever para participar de um campeonato. O valor das inscrições está apresentado na tabela abaixo:

Categoria	Inscrições até 31/10	Na abertura do campeonato
Profissional	R$ 60,00	R$ 70,00
Estudante	R$ 30,00	R$ 35,00

Sabendo que o estudante vai se inscrever na abertura do campeonato, qual o valor que ele vai pagar?

A) R$ 30,00 B) R$ 35,00 C) R$ 60,00 D) R$ 70,00

9) Veja abaixo a operação que Valéria fez:

$$4{,}3 + 2{,}8$$

O resultado que Valéria obteve foi:

A) 6,1 B) 6,8 C) 7,1 D) 7,3

10) Ontem, o termômetro marcou 32,4 graus centígrados. Hoje, a temperatura diminuiu 2,8 graus centígrados. Quantos graus centígrados o termômetro está marcando hoje?

A) 30,4 B) 29,6 C) 16,4 D)30,6

Bom trabalho!