

ALUNO(A): _____

Série: _____ Turma: _____

Turno: _____

ESTADO DE MATO GROSSO DO SUL
MUNICIPIO DE LADÁRIO
SECRETARIA MUNICIPAL DE EDUCAÇÃO
ESCOLA MUNICIPAL FAROL DO NORTE
DELIBERAÇÃO CME/LADÁRIO Nº38/2017 DE 13/11/2017
e-mail: emfaroldonorte@hotmail.com

NOME:_____ **Turma: A Turno: Matutino**

Professor(a): ZENINA Ensino Fundamental 1

Atividade referente :Dia 01 /06 ao dia 06 /06 de 20202 - Quantidade de aulas: 05 Aulas.

Componente curricular: Português

***Atividades para serem realizadas durante o isolamento social, no combate ao novo Corona Virus (COVID-19)**

OBSERVE O DESENHO E MARQUE A PALAVRA CERTA.

Marcel Borges 

CADEIRA | CADERNO | CARTEIRA

Marcel Borges 

PASTA | PISTA | POSTE

Marcel Borges 

CORNETA | GAVETA | CANETA

Marcel Borges 

BOLACHA | BORRACHA | BOLADA

Fonte: Letramento e Alfabetização, 1º Ano – Editora: IBEP – Acosta Maria Helena ,Mara Motta Ana Paula Dias torres / Ciranda das Letras – Língua Portuguesa 02 – Caputo Ruth Rozendo – Alfabetização / Samba Lelê – Língua Port. – 1º Ano- Machado Rose E. Sgroglia.

ESTADO DE MATO GROSSO DO SUL
MUNICIPIO DE LADÁRIO
SECRETARIA MUNICIPAL DE EDUCAÇÃO
ESCOLA MUNICIPAL FAROL DO NORTE
DELIBERAÇÃO CME/LADÁRIO Nº38/2017 DE 13/11/2017
e-mail: emfaroldonorte@hotmail.com

NOME:_____ **Turma: A Turno: Matutino**

Professor(a): ZENINA Ensino Fundamental 1

Atividade referente :Dia 01 /06 ao dia 06 /06 de 20202 - Quantidade de aulas: 05 Aulas.

Componente curricular: Português

***Atividades para serem realizadas durante o isolamento social, no combate ao novo Corona Virus (COVID-19)**

OBSERVE O DESENHO E MARQUE A PALAVRA CERTA.

Marcel Borges 

CADEIRA | CADERNO | CARTEIRA

Marcel Borges 

PASTA | PISTA | POSTE

Marcel Borges 

CORNETA | GAVETA | CANETA

Marcel Borges 

BOLACHA | BORRACHA | BOLADA

Fonte: Letramento e Alfabetização, 1º Ano – Editora: IBEP – Acosta Maria Helena ,Mara Motta Ana Paula Dias torres / Ciranda das Letras – Língua Portuguesa 02 – Caputo Ruth Rozendo – Alfabetização / Samba Lelê – Língua Port. – 1º Ano- Machado Rose E. Sgroglia.

Agora, vamos colocar cada pedacinho da palavra (**sílaba**) nas figuras:

Igor 

Tom 

Daniela 

Luciana 

Marcelo 

Paula 

Ariana 

Francine 

Observe que combinando **sílabas** de duas palavras você escreve outras. Escreva as sílabas de acordo com a cor dos quadrinhos:

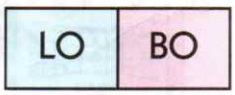





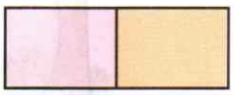







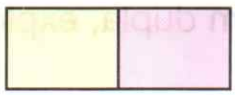

Agora, escreva três palavras iniciadas com a **sílaba** que foi mais repetida:



Agora, vamos colocar cada pedacinho da palavra (**sílaba**) nas figuras:

Igor 

Tom 

Daniela 

Luciana 

Marcelo 

Paula 

Ariana 

Francine 

Observe que combinando **sílabas** de duas palavras você escreve outras. Escreva as sílabas de acordo com a cor dos quadrinhos:

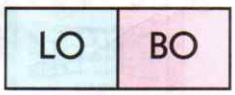





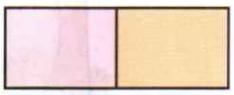







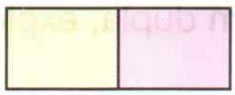

Agora, escreva três palavras iniciadas com a **sílaba** que foi mais repetida:



ESTADO DE MATO GROSSO DO SUL
MUNICIPIO DE LADÁRIO
SECRETARIA MUNICIPAL DE EDUCAÇÃO
ESCOLA MUNICIPAL FAROL DO NORTE
DELIBERAÇÃO CME/LADÁRIO Nº38/2017 DE 13/11/2017
e-mail: emfaroldonorte@hotmail.com

NOME:_____ **Turma: A Turno: Matutino**

Professor(a): ZENINA Ensino Fundamental 1

Atividade referente :Dia 01 /06 ao dia 06 /06 de 20202 - Quantidade de aulas: 05 Aulas.

Componente curricular: Português

***Atividades para serem realizadas durante o isolamento social, no combate ao novo Corona Virus (COVID-19)**

COMPLETE COM VOGAIS AS PALAVRAS ABAIXO.



C N T

M C H L





L V R

B R R C H





S T J

C L



Fonte: Letramento e Alfabetização, 1º Ano – Editora: IBEP – Acosta Maria Helena ,Mara Motta Ana Paula Dias torres / Ciranda das Letras – Língua Portuguesa 02 – Caputo Ruth Rozendo – Alfabetização / Samba Lelê – Língua Port. – 1º Ano- Machado Rose E. Sgroglia.

DITADO RECORTADO

RECORTE AS PALAVRAS E COLE-AS DE ACORDO COM OS DESENHOS:

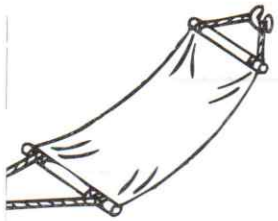		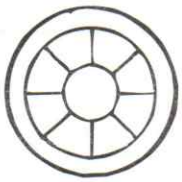	
	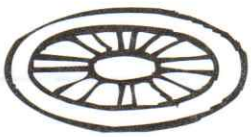		
			

RIO	RAQUETE	ROUPA	RALO
REDE	RAMO	RODA	REI
RÁDIO	RATO	RODO	RABO

Escreva o numeral correspondente a cada conjunto:







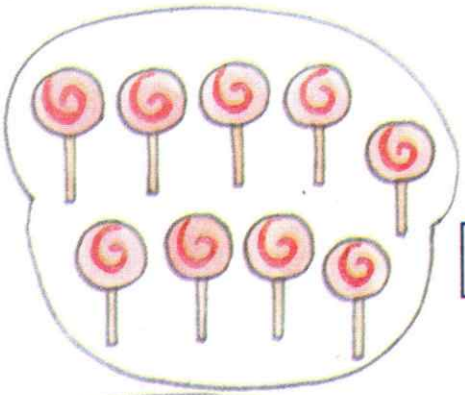













ESTADO DE MATO GROSSO DO SUL
MUNICIPIO DE LADÁRIO
SECRETARIA MUNICIPAL DE EDUCAÇÃO
ESCOLA MUNICIPAL FAROL DO NORTE
DELIBERAÇÃO CME/LADÁRIO Nº38/2017 DE 13/11/2017
e-mail: emfaroldonorte@hotmail.com

NOME:_____ **Turma: A Turno: Matutino**

Professor(a): ZENINA Ensino Fundamental 1

Atividade referente ao dia 25 /05 ao dia 30 /05 de 20202 Quantidade de aulas: 04 Aulas.

Componente curricular: Matemática

***Atividades para serem realizadas durante o isolamento social, no combate ao novo Corona Vírus (COVID-19)**

As horas



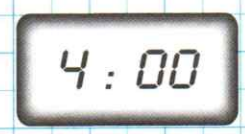

O relógio é o instrumento que usamos para medir o tempo.

4 horas

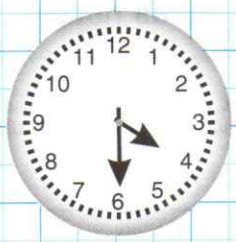

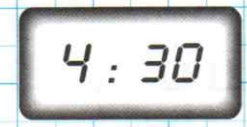

4 horas e meia

ou

4 horas e 30 minutos

1. Que horas indicam os relógios desenhados abaixo?

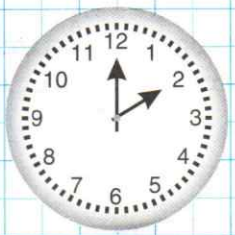

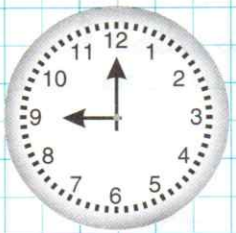

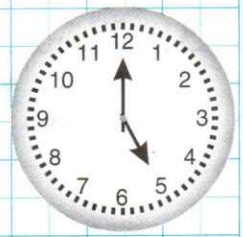

Fonte: Caderno do Futuro, !º Ano – Editora: @ ibep-nacional.com.br – Passos Celia E Zenaide Silva.

. Que hora marcaria um relógio digital? Complete:



:

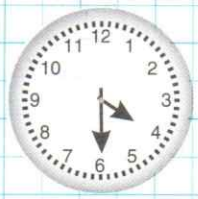

:



:



:



:



:



:



:

ESTADO DE MATO GROSSO DO SUL
MUNICIPIO DE LADÁRIO
SECRETARIA MUNICIPAL DE EDUCAÇÃO
ESCOLA MUNICIPAL FAROL DO NORTE
DELIBERAÇÃO CME/LADÁRIO Nº38/2017 DE 13/11/2017
e-mail: emfaroldonorte@hotmail.com

NOME:_____ Turma: A Turno: Matutino

Professor(a): ZENINA Ensino Fundamental 1

Atividade referente ao dia 25 /05 ao dia 30 /05 de 20202 Quantidade de aulas: 04 Aulas.

Componente curricular: Matemática

*Atividades para serem realizadas durante o isolamento social, no combate ao novo Corona Virus (COVID-19)

O litro



O litro é a unidade utilizada para medir líquidos.

1. Contorne os desenhos que indicam o que podemos comprar aos litros:



Fonte: Caderno do Futuro, !º Ano – Editora: @ ibep-nacional.com.br – Passos Celia E Zenaide Silva.

ESTADO DE MATO GROSSO DO SUL
MUNICIPIO DE LADÁRIO
SECRETARIA MUNICIPAL DE EDUCAÇÃO
ESCOLA MUNICIPAL FAROL DO NORTE
DELIBERAÇÃO CME/LADÁRIO Nº38/2017 DE 13/11/2017
e-mail: emfaroldonorte@hotmail.com

NOME:_____ Turma: A Turno: Matutino

Professor(a): ZENINA Ensino Fundamental 1

Atividade referente :Dia 01 /06 ao dia 06 /06 de 20202 - Quantidade de aulas: 04 Aulas.

Componente curricular: Matemática

*Atividades para serem realizadas durante o isolamento social, no combate ao novo Corona Virus (COVID-19)

Complete as sentenças. Olhe o modelo:

6 – 2 = 4

5 – ☐ = 2

4 – ☐ = 3

2 – ☐ = 1

6 – ☐ = 3

6 – ☐ = 4

3 – ☐ = 2

4 – ☐ = 2

5 – ☐ = 4

7 – ☐ = 3

7 – ☐ = 2

8 – ☐ = 4

Fonte: As letrinhas fazem a festa, Matemática II – Editora do Brasil – Medeiros Celme Farias. / Ciranda das Letra , Matemática Editora – Ciranda Cultural – Caputo Ruth Rozendo.

4. Desenhe o ponteiro pequeno, para marcar as horas indicadas nos retângulos abaixo:






3 horas	11 horas	1 hora	7 horas

5. Escreva as horas que os relógios digitais estão registrando:



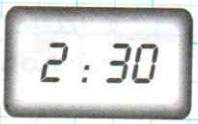

horas e minutos | horas e minutos | horas e minutos


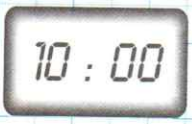
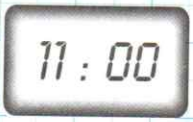

horas | horas | horas

Uma hora tem 60 minutos.

Meia hora tem 30 minutos.

3. Assinale a resposta certa:

Um saco de leite contém 1 litro.



Quantos sacos de leite vou precisar para formar 6 litros?

( ) 4 sacos ( ) 6 sacos ( ) 7 sacos

4. Complete a frase:

O litro é a unidade utilizada para medir a quantidade de leite, água, e outros líquidos.

5. Escreva o nome de 10 produtos que compramos aos litros.

ESTADO DE MATO GROSSO DO SUL
MUNICIPIO DE LADÁRIO
SECRETARIA MUNICIPAL DE EDUCAÇÃO
ESCOLA MUNICIPAL FAROL DO NORTE
DELIBERAÇÃO CME/LADÁRIO Nº38/2017 DE 13/11/2017
e-mail: emfaroldonorte@hotmail.com

NOME:_____ Turma: A Turno: Matutino

Professor(a): ZENINA Ensino Fundamental 1

Atividade referente :Dia 01 /06 ao dia 06 /06 de 20202 - Quantidade de aulas: 02 Aulas.

Componente curricular: Geografia

*Atividades para serem realizadas durante o isolamento social, no combate ao novo Corona Virus (COVID-19)

A paisagem

Lembre que:

- Tudo o que existe num lugar faz parte da **paisagem**: casas, ruas, rios, montanhas, árvores, praças, pontes, etc.
- **Paisagem natural** é aquela ainda não modificada pelo homem.
- **Paisagem modificada** é a paisagem natural transformada pelo homem. As casas, ruas, viadutos, túneis, estradas, pontes, etc. fazem parte da paisagem modificada.
- Muitas das modificações feitas pelo homem provocam desastres ambientais, pois elas interferem muito na natureza.
- Todos os seres vivos dependem da natureza. Tudo o que consumimos vem dela. Por isso, não podemos poluir o ar ou os rios, destruir as matas, exterminar os animais.

Fonte: Dente de Leita, 1º Ano – Editora : Claranto – Vaz Carmem Lúcia F. , Mendonça Waldirene Dias / Caderno do Futuro. 1º ano – Geografia - Editora: @Ibep-nacional.com.br – Passos Célia e Zenaide silva.

ESTADO DE MATO GROSSO DO SUL
MUNICIPIO DE LADÁRIO
SECRETARIA MUNICIPAL DE EDUCAÇÃO
ESCOLA MUNICIPAL FAROL DO NORTE
DELIBERAÇÃO CME/LADÁRIO Nº38/2017 DE 13/11/2017
e-mail: emfaroldonorte@hotmail.com

NOME:_____ Turma: A Turno: Matutino

Professor(a): ZENINA Ensino Fundamental 1

Atividade referente ao dia 25 /05 ao dia 30 /05 de 20202 Quantidade de aulas: 02 Aulas.

Componente curricular: Geografia

*Atividades para serem realizadas durante o isolamento social, no combate ao novo Corona Virus (COVID-19)

O tempo

Lembre que:

- Para medir o tempo, usamos uma unidade de medida chamada hora.
- As horas são indicadas pelo **relógio**.
- Uma hora tem 60 minutos.
- No **calendário**, usamos o dia, a semana, o mês e o ano para marcar o tempo.

- Veja o quadro abaixo:

24 horas	formam	um dia
7 dias	formam	uma semana
4 semanas	formam	um mês
12 meses	formam	um ano

- Pode-se observar o tempo de outra maneira.
- O tempo varia de acordo com as estações do ano.
- As estações do ano são: verão, outono, inverno e primavera.

Fonte: Caderno do Futuro, 1º Ano – Editora: @ ibep-nacional.com.br – Passos Celia E Zenaide Silva.

1. Classifique as figuras abaixo como paisagem natural ou paisagem modificada:













Você sabe o que é trânsito?

É a ação de pessoas, veículos e animais de circulação pelas vias, seja para fazer paradas, estacionar ou realizar operações de cargas e descargas.



CIRCULE NA ILUSTRAÇÃO PESSOAS, VEÍCULOS E ANIMAIS QUE COMPÕEM O NOSSO TRÂNSITO

ESTADO DE MATO GROSSO DO SUL
MUNICIPIO DE LADÁRIO
SECRETARIA MUNICIPAL DE EDUCAÇÃO
ESCOLA MUNICIPAL FAROL DO NORTE
DELIBERAÇÃO CME/LADÁRIO Nº38/2017 DE 13/11/2017
e-mail: emfaroldonorte@hotmail.com

NOME:_____ **Turma: A Turno: Matutino**

Professor(a): ZENINA Ensino Fundamental 1

Atividade referente :Dia 01 /06 ao dia 06 /06 de 20202 - Quantidade de aulas: 02 Aulas.

Componente curricular: Geografia

***Atividades para serem realizadas durante o isolamento social, no combate ao novo Corona Virus (COVID-19)**

Lembre que:

- **Trânsito** é o movimento de pessoas e veículos nas ruas, avenidas e estradas.
- Os **sinais de trânsito** são colocados nas ruas para orientar os motoristas e os pedestres.
- As placas, os semáforos e as faixas são sinais de trânsito.
- Os **guardas de trânsito** também orientam o movimento de veículos e pessoas nas ruas.

. Pinte os semáforos de acordo com as indicações:

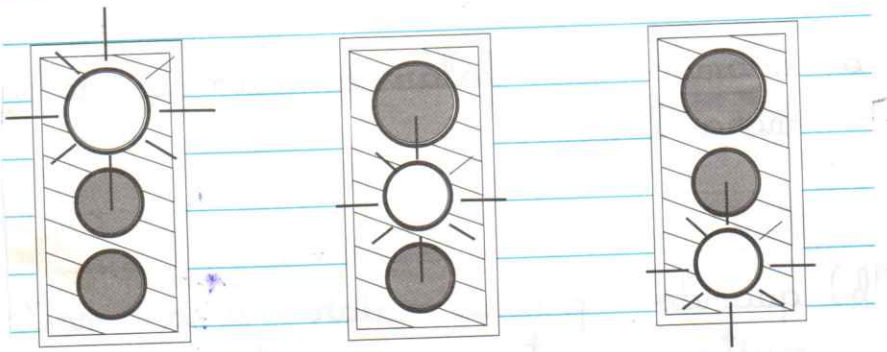

PARE! ATENÇÃO! SIGA!

Fonte: Dente de Leita, 1º Ano – Editora : Claranto – Vaz Carmem Lúcia F. , Mendonça Waldirene Dias / Caderno do Futuro. 1º ano – Geografia - Editora: @Ibep-nacional.com.br – Passos Célia e Zenaide silva.

ESTADO DE MATO GROSSO DO SUL
MUNICIPIO DE LADÁRIO
SECRETARIA MUNICIPAL DE EDUCAÇÃO
ESCOLA MUNICIPAL FAROL DO NORTE
DELIBERAÇÃO CME/LADÁRIO Nº38/2017 DE 13/11/2017
e-mail: emfaroldonorte@hotmail.com

NOME:_____ Turma: A Turno: Matutino

Professor(a): ZENINA Ensino Fundamental 1

Atividade referente :Dia 01 /06 ao dia 06 /06 de 20202 - Quantidade de aulas: 02 Aulas.

Componente curricular: História

*Atividades para serem realizadas durante o isolamento social, no combate ao novo Corona Virus (COVID-19)

Festas juninas

Como já diz o nome, essas festas são realizadas no mês de junho para homenagear:

- Santo Antônio, no dia 13 de junho;
- São João, no dia 24 de junho;
- São Pedro, no dia 29 de junho.

Essas festas fazem parte do folclore brasileiro. São realizadas em diferentes lugares do Brasil.

Nas festas juninas, é costume dançar quadrilha, comer pipoca, milho verde assado ou cozido, pé-de-moleque, pamonha, bolo de fubá, etc.

1. Complete:

No mês de _____ são realizadas as festas _____.

No dia 13 comemora-se o dia de _____.

Fonte: Dente de Leita, 1º Ano – Editor : Claranto – Vaz Carmem Lúcia F. , Mendonça Waldirene Dias / Caderno do Futuro. 1º ano – História- Editora: @Ibep-nacional.com.br – Passos Célia e Zenaide silva.