

ALUNO(A): _____

Série: _____ Turma: _____

Turno: _____

Escola Municipal Farol do Norte.

Nome: _____

Professora Diana Santa - História 2° Ano A

DESCOBRIMENTO DO BRASIL
22 DE ABRIL



Disponível em: http://www.professorzezinhoramos.com/2013/04/descobrimento-do-brasil-atividades-e_22.html. Acesso em 17/04/2020.

Escola:_____

Nome:_____

21 DE ABRIL - DIA DE TIRADENTES



Um grito de liberdade!

Em 21 de abril comemoramos o dia do primeiro sonho de um Brasil livre da colonização portuguesa, exato dia esse em que Tiradentes, Joaquim José da Silva Xavier, no ano de 1792, morreu enforcado.
A Inconfidência foi o início da mudança que pretendia a liberdade do Brasil do domínio colonial português.
Muitos anos após a morte de Tiradentes, ele foi reconhecido como um grande herói do início da história da Independência do Brasil, e mais de 150 anos depois foi decretado como feriado nacional o dia 21 de abril como o dia de Tiradentes.

Armário do Professor

Disponível em: https://www.facebook.com/educaretransformar/posts/atividades-para-o-dia-de-tiradentesfonte-wwwarmariodoprofessorblogspotcomvisite-/1611804532193101/. Acesso em 17/04/2020.

PREFEITURA MUNICIPAL DE LADÁRIO
SECRETARIA DE EDUCAÇÃO
ESCOLA MUNICIPAL FAROL DO NORTE

NOME: _____TURMA: 2° Ano A
PROFESSORA: KATIA REGINA

ATIVIDADE AVALIATIVA DE EDUCAÇÃO FÍSICA

1. OBSERVE O CORPO DO MENINO E DEPOIS FAÇA O QUE SE PEDE:

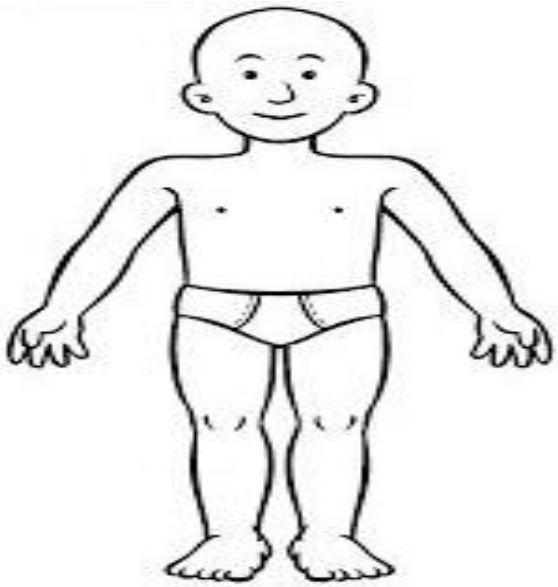

A. PINTE OS MEMBROS SUPERIORES DE VERMELHO
B. PINTE OS MEMBROS INFERIORES DE AZUL;
C. PINTE A CABEÇA DE AMARELO
D. PINTE O TRONCO DE MARRON

Disponível em: http://jardimcoloridodatiasuh.blogspot.com/2013/08/diversas-atividades-para-do-corpo-humano.html. Acesso em 20/04/2020.

2. LIGUE OS A PRIMEIRA COLUNA COM A SEGUNDA INDICANDO UMA PARTE DO CORPO PARA UMA VESTIMENTA.



Disponível em: https://www.soescola.com/2016/11/atividades-de-ciencias-1-ano-corpo.html. Acesso em 20/04/2020.

3. OBSERVE A CENA E FAÇA O QUE SE PEDE:

A. PINTE A CRIANÇA QUE ESTÁ ALEGRE.
B. CIRCULE A CRIANÇA QUE ESTÁ COM RAIVA.
C. FAÇA UM X NA CRIANÇA QUE ESTÁ TRISTE.



Disponível em: https://www.soescola.com/2017/10/atividades-de-ciencias-1-ano-2.html/atividades-de ciencias-1-ano-de-olho-na-cena. Acesso em 20/04/2020.

Entregar dia 30/04 – quinta-feira.

ESCOLA MUNICIPAL FAROL DO NORTE.
LADÁRIO, _____ DE _____ DE 2020.
NOME:_____ 2º ANO A.
PROFESSORA: NIELLY IBRAHIM.

ATIVIDADE PEDAGÓGICA COMPLEMENTAR DE ARTE

"A ARTE COM CERÂMICA, OS ENFEITES PARA O CORPO E O TRANÇADO SÃO ALGUNS DOS ARTESANATOS QUE MAIS SE DESTACAM NA CULTURA INDÍGENA, SENDO QUE, NA MAIORIA DAS VEZES, OS ÍNDIOS TRANSFORMAVAM O MATERIAL QUE VINHA DA TERRA, COMO SEMENTES, BARRO, FOLHAS, CIPÓS, PENAS, PLUMAS, COURO, ETC".
TEXTO RETIRADO DO SITE:
http://artesanatoindigena.com/artesanato-indigena-brasileiro/

- LEIA O TEXTO COM A AJUDA DO RESPONSÁVEL. EM SEU CADERNO DE DESENHO COLE O BILHETE DA ATIVIDADE, FAÇA O CABEÇALHO E A MARGEM, DESENHE UM ENFEITE INDÍGENA (COLAR, COCAR, ETC) DE TAMANHO GRANDE, PINTE E DEPOIS FAÇA COLAGENS COM SEMENTES, FOLHAS, PENAS OU OUTRO MATERIAL DISPONÍVEL EM SUA CASA.

ATIVIDADE DE ELABORAÇÃO PRÓPRIA DA PROFª NIELLY IBRAHIM.

ESCOLA MUNICIPAL FAROL DO NORTE.

LADÁRIO, _____ DE _____ DE 2020.

NOME: _____ 2º ANO A

PROFESSORA: NIELLY IBRAHIM DISCIPLINA: ARTE

ATIVIDADE PEDAGÓGICA COMPLEMENTAR AVALIATIVA

- NO ESPAÇO ABAIXO, FAÇA UM DESENHO DE TAMANHO GRANDE DE UM ENFEITE INDÍGENA (CONFORME AS ORIENTAÇÕES QUE SE ENCONTRAM NO BILHETE):

ESTADO DE MATO GROSSO DO SUL
MUNICIPIO DE LADÁRIO
SECRETARIA MUNICIPAL DE EDUCAÇÃO
ESCOLA MUNICIPAL FAROL DO NORTE
DELIBERAÇÃO CME/LADÁRIO Nº38/2017 DE 13/11/2017

Nome: _____

Professora Diana Santa - 2º Ano "A" – Matutino

Escola: _____

Data: _____ Turma: _____ ESCOLAEDUCACAO.COM.BR

Aluno: _____

NÚMEROS VIZINHOS

✎ Complete com os números vizinhos.

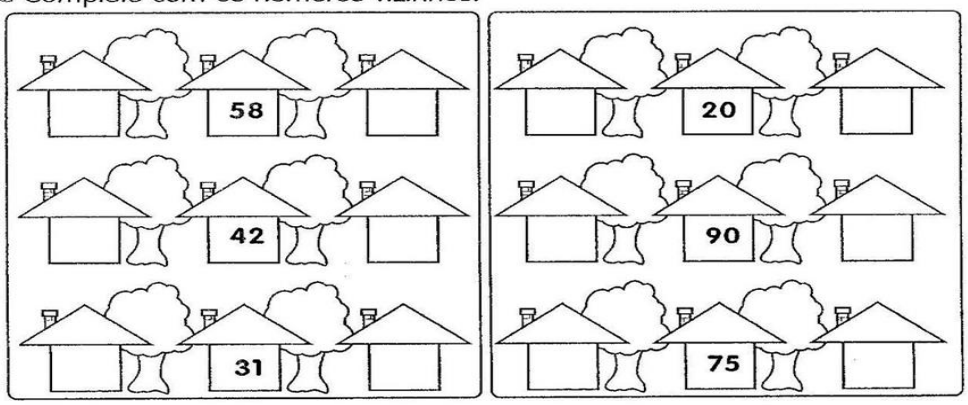

✎ Adivinhe que número sou eu?

Fico entre 13 e 15 _____

Fico entre 35 e 37 _____

Fico atrás de 52 _____

Fico à frente de 67 _____



✎ Responda:

Que número está entre 20 e 22? _____

Que número vem antes de 60? _____

Que número vem após 79? _____

- Referência

Disponível em: https://escolaeducacao.com.br/atividades-de-matematica-2-ano/atividades-de-matematica-2-ano-numeros-vizinhos/ . Acesso em 04/04/2020.

ESTADO DE MATO GROSSO DO SUL
MUNICIPIO DE LADÁRIO
SECRETARIA MUNICIPAL DE EDUCAÇÃO
ESCOLA MUNICIPAL FAROL DO NORTE
DELIBERAÇÃO CME/LADÁRIO Nº38/2017 DE 13/11/2017

Escola: ----------

Data: ---------- Turma:----------

Aluno: ----------

1	2	3	4	5	6		8	9	10
	12	13		15		17	18		20
21		23	24		26		28	29	

Agora, substitua os símbolos pelos numerais correspondentes:

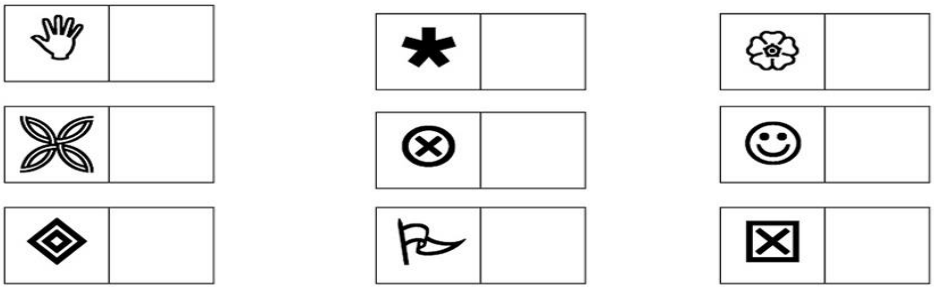

2) Ligue os numerais aos nomes.

15	VINTE E NOVE
21	QUINZE
18	VINTE E TRÊS
29	DOZE
12	VINTE E UM
23	DEZOITO

Ler e Aprender - lereaprender.com.br

- Referência:

  Disponível em: https://lereaprender.com.br/atividades-de-matematica-para-imprimir/. Acesso em 04/04/2020.

Seqüência numérica

1	2	3	4		6	7	8	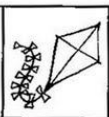	10
11	12		14	15	16	17	18	19	
20	21	22		24	25		27	28	29
30		32	33	34		36	37	38	
	41	42		44	45	46	47	48	49
	51	52	53	54		56	57		59
60									

Observe os números que faltam no quadro e escreva-os abaixo, observando os símbolos.



- Referência:

Disponível em: https://conectmar.blogspot.com/2013/04/atividades-de-matematica-para-2-ano.html. Acesso em 04/04/2020.

Escola: _____

Data: _____ Turma: _____ ESCOLAEDUCACAO.COM.BR

Aluno: _____



$$3 + 2$$

$63 + 24$	$42 + 50$	$15 + 63$	$71 + 6$	$45 + 32$
$86 + 12$	$16 + 52$	$45 + 34$	$50 + 19$	$61 + 17$
$42 + 36$	$54 + 22$	$35 + 41$	$27 + 31$	$30 + 49$
$15 + 72$	$23 + 54$	$41 + 18$	$20 + 59$	$62 + 16$
$44 + 33$	$51 + 26$	$36 + 61$	$25 + 42$	$72 + 12$

- Referência:

Disponível em: https://escolaeducacao.com.br/atividades-de-matematica-2-ano-adicao-e-subtracao/. Acesso em 04/04/2020.



Disponível em: https://www.passeidireto.com/arquivo/70614554/espaco-pedagogico-atividades-com-figuras-ou-formas-geometricas-para-educacao-inf. Acesso em 04/04/2020.

Nome: _____

Professora Diana Santa - 2º Ano "A" – Matutino

Atividades de Língua Portuguesa



- Referência:

Disponível em: https://www.educacaoetransformacao.com.br/atividades-de-caligrafia-para-imprimir/. Acesso em 04/04/2020.

Escola: _____

Data: _____ Turma: _____

Aluno: _____

1. Complete as palavras abaixo com letras maiúsculas, na ordem alfabética:

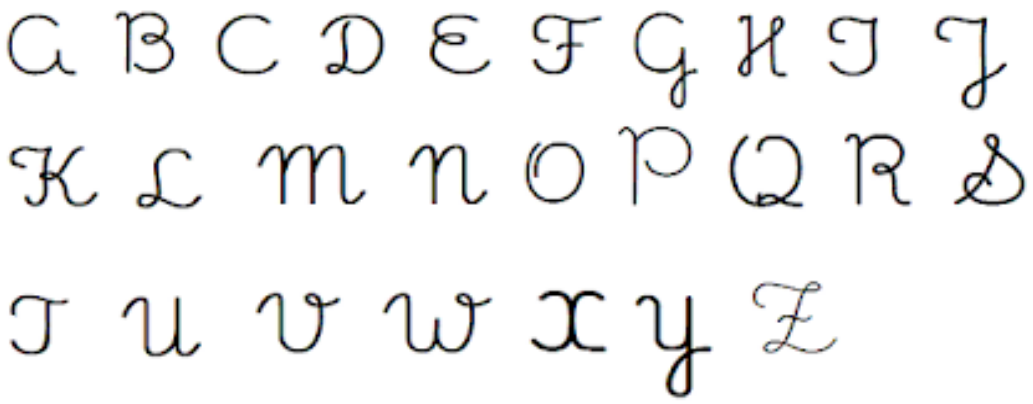

_____na	_____uliana	____ílvia
_____eatriz	_____ely	_____eresa
_____amila	_____úcia	_____birajara
_____iana	_____aria	_____ânia
_____liane	_____eusa	_____alter
_____abiana	_____távio	_____uxa
_____eorge	_____edro	_____uri
_____élio	_____uitéria	_____élia
_____rene	_____icardo	

- Referência:

Disponível em http://www.educarx.com/2016/05/atividades-portugues-1-ano-alfabetizacao.html. Acesso em 04/04/2020.

SILABÁRIO SIMPLES

	A	E	I	O	U	ÃO
B	BA	BE	BI	BO	BU	BÃO
C	CA	CE	CI	CO	CU	CÃO
D	DA	DE	DI	DO	DU	DÃO
F	FA	FE	FI	FO	FU	FÃO
G	GA	GE	GI	GO	GU	GÃO
H	HA	HE	HI	HO	HU	HÃO
J	JA	JE	JI	JO	JU	JÃO
K	KA	KE	KI	KO	KU	
L	LA	LE	LI	LO	LU	LÃO
M	MA	ME	MI	MO	MU	MÃO
N	NA	NE	NI	NO	NU	NÃO
P	PA	PE	PI	PO	PU	PÃO
Q	QUA	QUE	QUI	QUO		QUÃO
R	RA	RE	RI	RO	RU	RÃO
S	SA	SE	SI	SO	SU	SÃO
T	TA	TE	TI	TO	TU	TÃO
V	VA	VE	VI	VO	VU	VÃO
W	WA	WE	WI	WO	WU	
X	XA	XE	XI	XO	XU	XÃO
Y	YA	YE		YO	YU	
Z	ZA	ZE	ZI	ZO	ZU	ZÃO

- Referência:

Disponível em https://www.lojaapoio.com.br/mapas/banners/banner-silabario-simples. Acesso em 04/04/2020.



- Referência:

  Disponível em http://www.aartedeensinareaprender.com/2016/06/atividade-pronta-familia-silabica-do-b.html?m=1. Acesso em 04/04/2020.

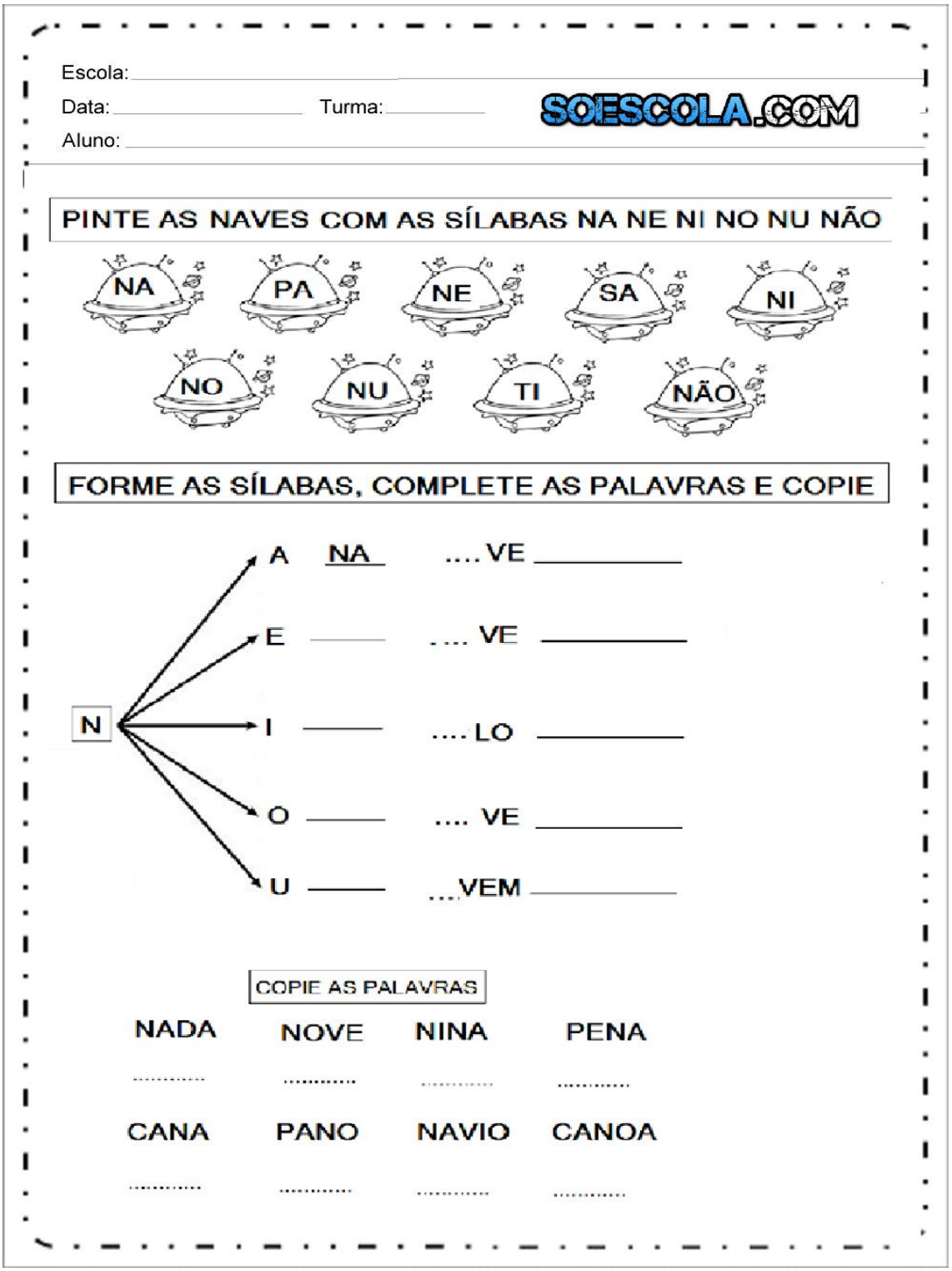

- Referência:

Disponível em https://www.soescola.com/2017/11/atividades-com-as-familias-silabicas.html/atividades-com-as-familias-silabicas-2. Acesso em 04/04/2020.

ESCOLA:_____

TURMA:_____ DATA:____ /____ /____

ALUNO:_____

FAMÍLIA SILÁBICA

XA XE XI XO XU

1- COMPLETE AS PALAVRAS COM O SOM INICIAL:



□LE



□XÉU



□CARA



□DÓ



□XINHA

www.aartedeensinareaprender.com

- Referência:

Disponível em http://www.aartedeensinareaprender.com/2018/12/atividade-pronta-familia-silabica-x.html. Acesso em 04/04/2020.

Escola _____

Nome: _____

Data: _____/____/_____

Alfabetizar com AMOR
www.amorensina.com.br

A leoa

Estes são Lica e Leôncio.

Lica é uma linda leoa.

Lica está triste por que não tem juba como seu amigo Leôncio.

Leôncio é um valente leão.

Lica e Leôncio vivem juntos na selva.



Isabel Cristina S. Soares

- A leoa se chama: _____

- O leão se chama: _____

- Lica está triste por que não tem: _____

- Os leões vivem na: _____

- O que Leôncio é de Lica? _____

- Referência:
  Disponível em https://amorensina.com.br/?m=1. Acesso em 04/04/2020.

Nome: _____

Professora Diana Santa - 2º Ano "A" – Matutino

Atividades de História

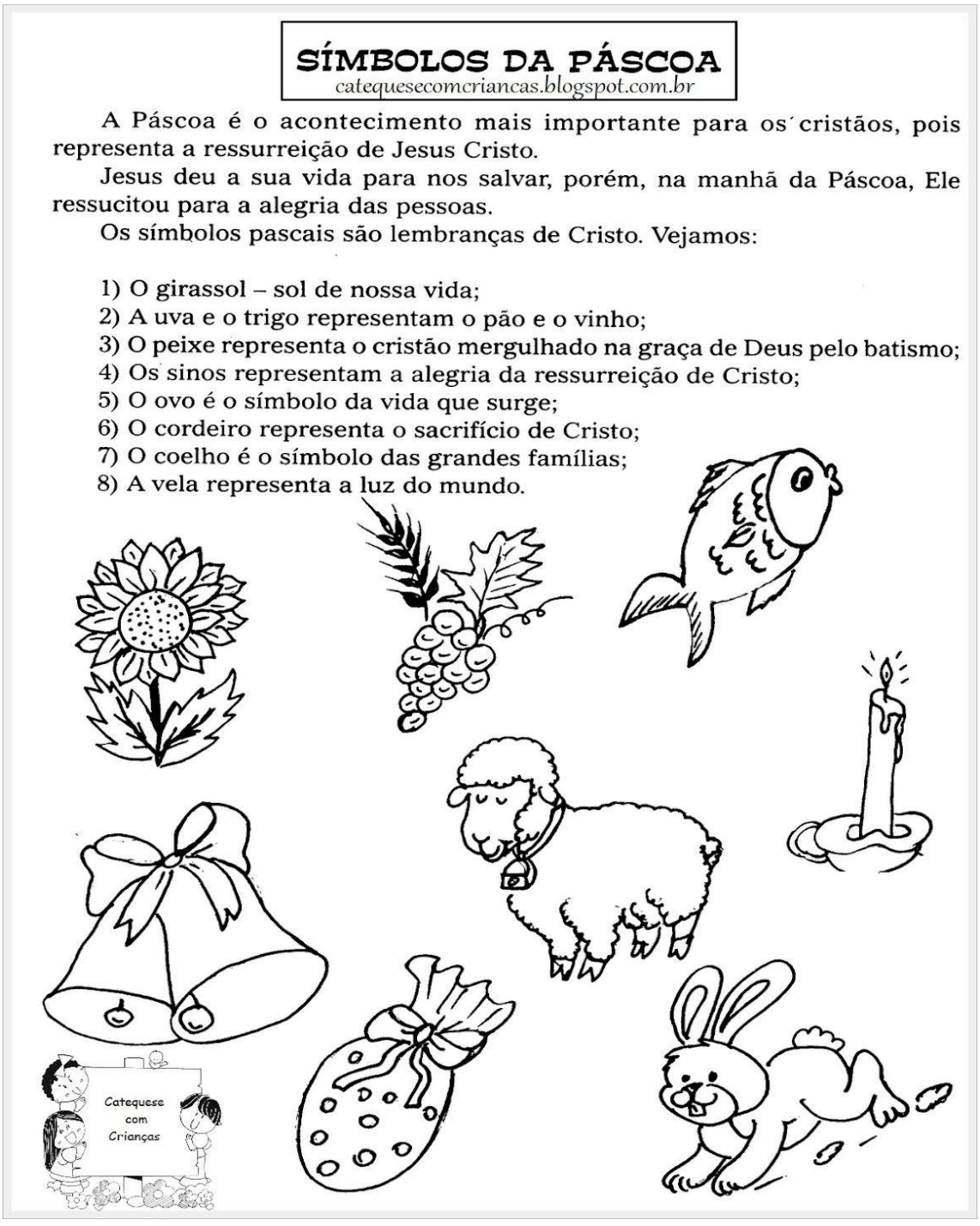

SÍMBOLOS DA PÁSCOA

catequesecomcriancas.blogspot.com.br

A Páscoa é o acontecimento mais importante para os cristãos, pois representa a ressurreição de Jesus Cristo.

Jesus deu a sua vida para nos salvar, porém, na manhã da Páscoa, Ele ressucitou para a alegria das pessoas.

Os símbolos pascais são lembranças de Cristo. Vejamos:

1) O girassol – sol de nossa vida;
2) A uva e o trigo representam o pão e o vinho;
3) O peixe representa o cristão mergulhado na graça de Deus pelo batismo;
4) Os sinos representam a alegria da ressurreição de Cristo;
5) O ovo é o símbolo da vida que surge;
6) O cordeiro representa o sacrifício de Cristo;
7) O coelho é o símbolo das grandes famílias;
8) A vela representa a luz do mundo.

- Referência:

Disponível em http://ww1.descomplicando.com/. Acesso em 05/04/2020.

Escola: ----------

Data: ---------- Turma: ---------- EDUCALUNOS.COM

Aluno: ----------



- Referência:

Disponível em https://atividadespedagogicas.net/2015/03/atividades-de-colorir-pascoa-coelho-e-ovo-da-pascoa.html. Acesso em 05/04/2020.

Pinte o que você consegue fazer sozinho.



- Referência:
  Disponível em https://israelakotona.blogspot.com/2015/12/blog-post.html. Acesso em 05/04/2020

Escola: _____

Data: _____ Turma: _____ EducacaoeTransformacao.com.br

Aluno: _____

ESTA É A FAMÍLIA DE ZEZINHO E ANINHA. ELES TÊM MAIS UM IRMÃOZINHO, O PAULINHO. SEUS PAIS CHAMAM-SE ANTÔNIO E MARIA.



E SUA FAMÍLIA, COMO É? VAMOS DESENHÁ-LA?

Educação e Transformação

- Referência:

Disponível em https://www.educacaoetransformacao.com.br/atividades-sobre-familia-para-educacao-infantil/atividades-sobre-familia-para-educacao-infantil-desenhar/. Acesso em 05/04/2020



- Referência:
  Disponível em https://www.educacaoetransformacao.com.br/plano-de-aula-diferencas/. Acesso em 05/04/2020

Nome: _____

Professora Diana Santa - 2º Ano "A" – Matutino

Atividades de Geografia

A PAISAGEM

1. CIRCULE O QUE NÃO É NATURAL NESTA PAISAGEM, OU SEJA, FOI CONSTRUÍDO PELAS PESSOAS.



2. PINTE APENAS OS ELEMENTOS NATURAIS.



- Referência:
  Disponível em https://bau-de-atividades.com/atividades-sobre-paisagem-em-sala-de-aula/. Acesso em 05/04/2020

O BAIRRO



O BAIRRO É UMA PARTE DA CIDADE.
NOS BAIRROS HÁ CASAS, RUAS, PRAÇAS, PADARIAS, ESCOLAS, FARMÁCIAS, E MUITAS OUTRAS COISAS.

E O SEU BAIRRO COMO É? REÚNA EM GRUPOS E CADA UM IRÁ DESENHAR O LUGAR DO BAIRRO DE QUE MAIS GOSTA.



- Referência:
  Disponível em https://atividadespedagogicas.net/2017/04/atividades-sobre-bairro.html. Acesso em 05/04/2020

ESCOLA MUNICIPAL FAROL DO NORTE.
LADÁRIO, _____ DE _____ DE 2020.
NOME:_____ 2º ANO A.
PROFESSORA: NIELLY IBRAHIM.

ATIVIDADE COMPLEMENTAR PEDAGÓGICA DE ARTE
COELHINHO DA PÁSCOA

COELHINHO DA PÁSCOA
QUE TRAZES PRA MIM?
UM OVO, DOIS OVOS,TRÊS OVOS ASSIM!
COELHINHO DA PÁSCOA
QUE COR ELE TEM?
AZUL, AMARELO E VERMELHO TAMBÉM.

> LEIA A POESIA, COLE EM SEU CADERNO DE DESENHO E DEPOIS, USANDO A SUA CRIATIVIDADE DESENHE, PINTE E FAÇA UMA COLAGEM.

- Elaboração própria: Nielly Rodrigues Ibrahim da Silva

ESCOLA MUNICIPAL FAROL DO NORTE.
LADÁRIO, _____ DE _____ DE 2020.
NOME:_____ 2º ANO A.
PROFESSORA: NIELLY IBRAHIM.

ATIVIDADE PEDAGÓGICA COMPLEMENTAR DE ARTE
2º ANO A

- **FAÇA UMA PEQUENA PESQUISA SOBRE A PINTURA INDÍGENA, COPIE EM SEU CADERNO DE DESENHO E DEPOIS REPRODUZA A PINTURA QUE MAIS GOSTOU.**

- Elaboração própria: Nielly Rodrigues Ibrahim da Silva

ESCOLA MUNICIPAL FAROL DO NORTE

Ladário, _____ de abril de 2020.

Nome: _____ 2° Ano A

ATIVIDADES DE EDUCAÇÃO FÍSICA – PROFESSORA KÁTIA REGINA

Nosso corpo

- Complete o texto escrevendo as palavras que estão abaixo:







Nosso corpo é formado de _____ ,



_____ e _____ .

A cabeça é formada pelo _____



e pela _____ .

Dentro do crânio está o _____ .



Na face estão localizados o _____ ,

os _____ e a _____



boca	crânio	nariz	tronco	face
olhos	cabeça		membros	cérebro

Disponível em: https://www.educacaoetransformacao.com.br/atividades-corpo-humano/. Acesso em: 12/04/2020.

VAMOS SOMAR

www.smartkids.com.br

-Instruções:

Descubra o número dos jogadores que estão com a bola! Boa diversão!

a) 

b) 

c) 

d) 

Disponível em: https://www.smartkids.com.br/atividade/esportes-adicao. Acesso em: 12/04/2020.

Eu Sou Assim

♦ Recorte e cole as partes do corpo no lugar correto.



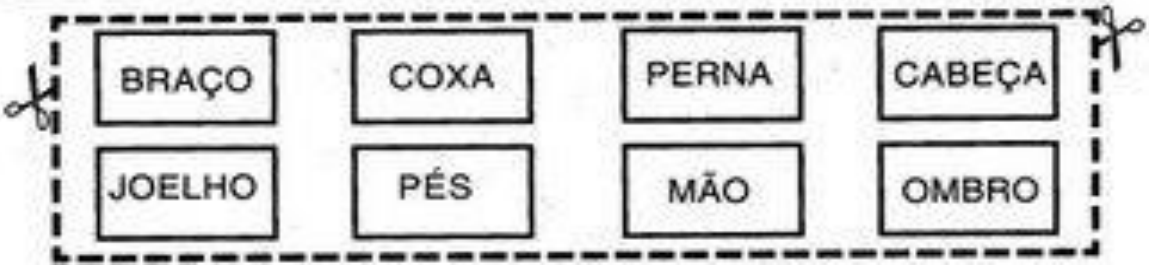

Disponível em: http://atividades-infantis-10.blogspot.com/2013/06/atividade-sobre-as-partes-do-corpo.html. Acesso em: 12/04/2020.

PARTES DO CORPO

VAMOS CANTAR?



NOSSO CORPO } *BIS*
SE DIVIDE } *BIS*
CABEÇA, TRONCO E MEMBROS } *BIS*
EU JÁ SEI } *BIS*

(Música: *Meus dedinhos* – Faixa 54 do CD)
Gerusa Rodrigues Pinto

VEJA: O CORPO DE GABRIEL ESTÁ DIVIDIDO EM TRÊS PARTES! PINTE-O COM CORES BEM BONITAS. DEPOIS, RECORTE AS PARTES E MONTE O CORPO DE GABRIEL EM UMA FOLHA DE PAPEL.



Disponível em: https://www.educacaoetransformacao.com.br/atividades-corpo-humano/. Acesso em: 12/04/2020.

QUEBRA-CABEÇA

amos montar o quebra-cabeça do corpo humano?
oa diversão!

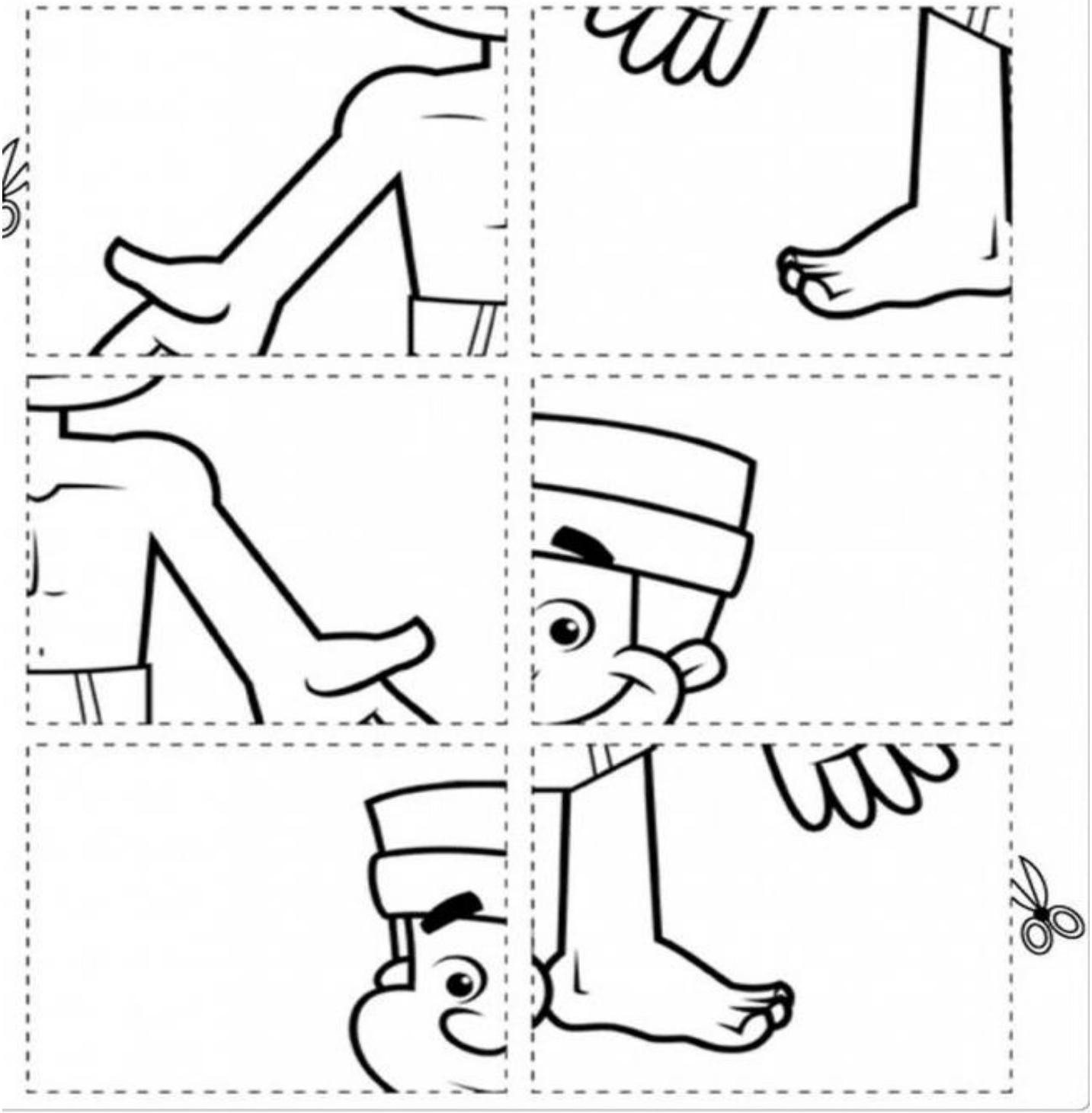

Disponível em: https://carlagv.wordpress.com/2011/03/13/sugestes-de-atividades-sobre-corpo-humano/. Acesso em: 12/04/2020.

PINTE OS ALIMENTOS

Veja o quadro abaixo e pinte os alimentos com as cores correspondentes.

Cores	Alimento
Amarela	milho, laranja
Roxa	uva, berinjela
Verde	alface, brócolis
Vermelho	tomate, melancia



Disponível em: https://br.pinterest.com/pin/22447698130166756/. Acesso em: 12/04/2020.

NOME_____ DATA:_____

USE O BANCO DE PALAVRAS E ESCREVA OS NOMES DOS ALIMENTOS




















BATATA IOGURTE CARNE QUEIJO

CENOURA TOMATE FRANGO OVO

LEITE PÃO MORANGO PEIXE

MACARRÃO MAÇÃ PERA GELATINA

Disponível em: https://www.pinterest.nz/carlam4283/atividades-sobre-alimenta%C3%A7%C3%A3o-saudavel/. Acesso em: 12/04/2020.

ESCOLA MUNICIPAL FAROL DO NORTE

Ladário, _____ de abril de 2020.

Nome: _____ 2° Ano A

ATIVIDADES DE EDUCAÇÃO FÍSICA – PROFESSORA KÁTIA REGINA

PRIMEIRA SEMANA – DE 02 Á 09 DE ABRIL

1) RECORTE E COLE AS PARTES DO CORPO.



MÃO	PÉ	OMBRO	PERNAS	COXA
BRAÇO	ORELHA	OLHOS	PESCOÇO	CABEÇA

Disponível em: https://atividadespedagogicas.net/2014/03/atividades-corpo-humano.html. Acesso em: 09/04/2020.

Escola: _____

Data: _____ Turma: _____ ENSINOJA.COM

Aluno: _____

Copie os nomes das partes do corpo e deixe tudo muito colorido e lindo:

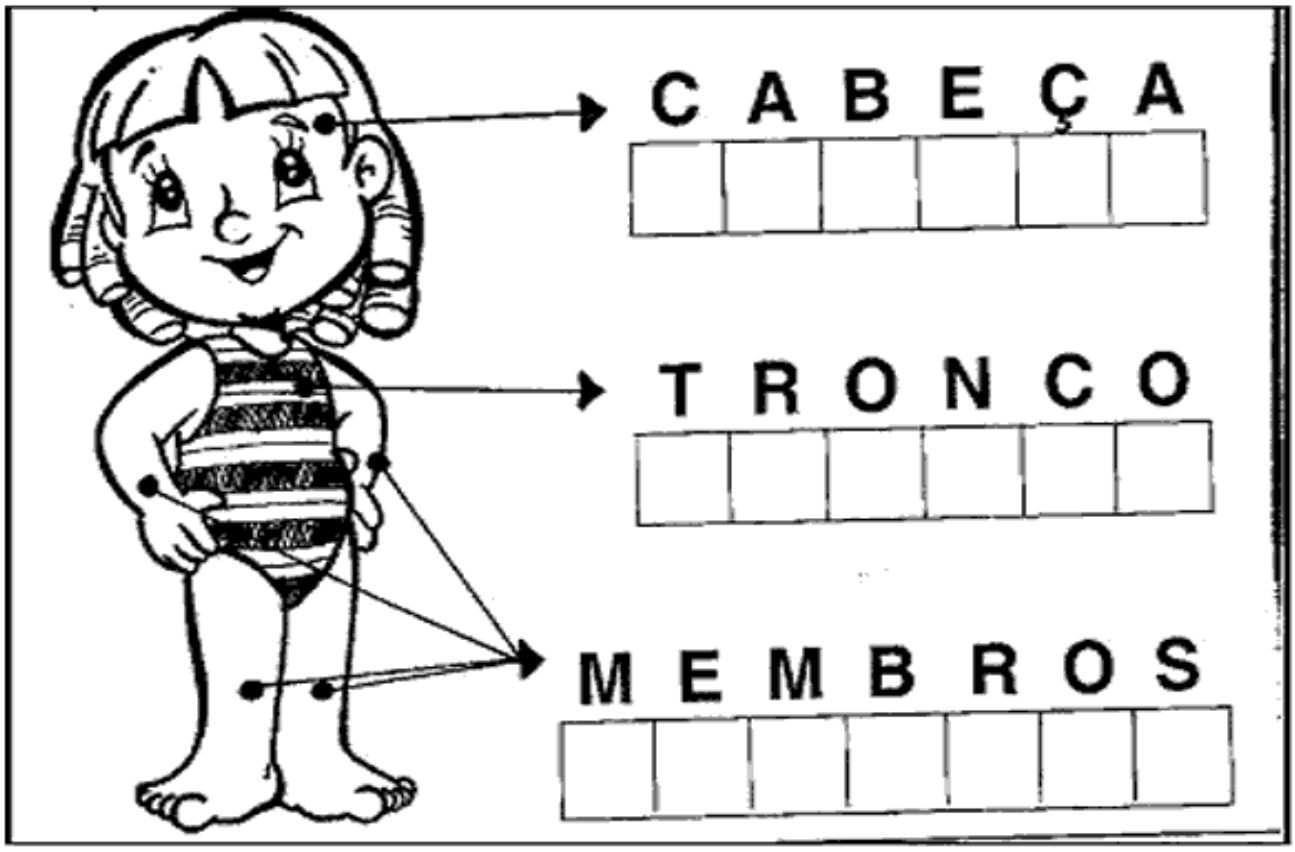

Escreva uma frase bem bonita falando sobre a parte do corpo abaixo:



BOCA

.....

.....

.....

Disponível em: https://ensinoja.com.br/. Acesso em: 09/04/2020.

Aluno(a):

PINTE OS OBJETOS DE HIGIENE CORPORAL:



Disponível em: http://libraseducandosurdos.blogspot.com/2011/02/atividades-higiene-corporal.html. Acesso em: 09/04/2020.

VAMOS LIGAR OS OBJETOS DE DEFESA AO PIOLHO FAZENDO A CORRESPONDÊNCIA?



Disponível em: http://libraseducandosurdos.blogspot.com/2011/02/atividades-higiene-corporal.html. Acesso em: 09/04/2020.

Escola: _____

Data: _____ Turma: _____ EducacaoeTransformacao.com.br

Aluno: _____

Escreva a parte do corpo indicada pelo numeral:



1 - _____

2 - _____

3 - _____

4 - _____

5 - _____

6 - _____



7 - _____

8 - _____

9 - _____

10 - _____

Educação e Transformação

Disponível em: https://educacaoetransformacaooficial.blogspot.com/. Acesso em: 09/04/2020.

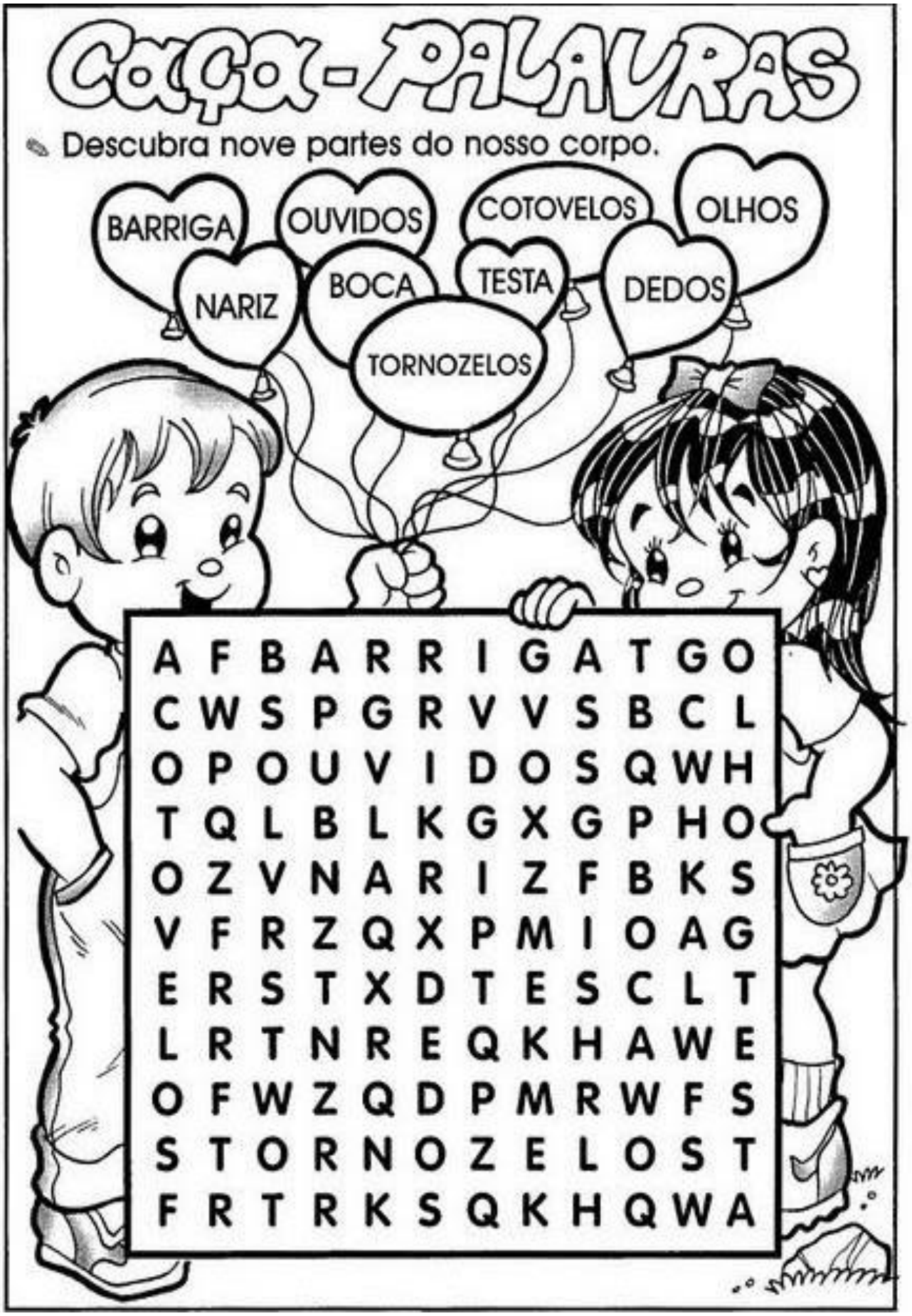

Disponível em: http://silviarpc.blogspot.com/2011/03/caca-palavras.html. Acesso em: 09/04/2020.

ESTADO DE MATO GROSSO DO SUL
MUNICIPIO DE LADÁRIO
SECRETARIA MUNICIPAL DE EDUCAÇÃO
ESCOLA MUNICIPAL FAROL DO NORTE
DELIBERAÇÃO CME/LADÁRIO Nº38/2017 DE 13/11/2017

ATIVIDADES DE CIÊNCIAS - 2° ANO A – Professora ***Laura Helena***

1. A criança fará a **Leitura** com auxílio do responsável da página 24 e em seguida copiará o assunto da página lida (página 24) no caderno de Ciências.

2. Atividade sobre planta fazer e colar no caderno:

NOME:_____DATA:___/___/___

OBSERVE A ÁRVORE ABAIXO E NUMERE SUAS PARTES.



1- Raiz
2- Caule
3 Folha
4-Flor
5- Fruto

Disponível em:http://portaldoprofessor.mec.gov.br/fichaTecnicaAula.html?aula=57121. Acesso em 27/03/2020.

3. Primeiramente a criança fará a **Leitura** com auxílio do responsável da página 28 e em seguida CÓPIA do assunto da mesma página (página 28) no caderno de Ciências.

4. ***Copiar e responder*** a questão número 1 da página 28 e a questão número 3 da página 29 no caderno, tendo como base o assunto lido anteriormente.

5. Fazer A EXPERIÊNCIA da página 23 e registrar no caderno cada detalhe ao desenvolver a experiência solicitada;

PARA NÃO ESQUECER!



6. Resolver as atividades da folha sulfite (proposta): sobre Plantas (Atividade Avaliativa). Entregar na **escola** dia 06 de Abril.

7. Primeiramente a criança fará a **Leitura** com auxílio do responsável da página 32 e em seguida CÓPIA do assunto da mesma página (página 32) no caderno de Ciências.

8. Responder à questão número 1 página 33 no caderno através do assunto lido anteriormente.

9. Trabalho (folha sulfite- atividade elaborada pela professora) para ser entregue como forma de avaliação.



OS AMBIENTES DAS PLANTAS

As plantas vivem em diferentes ambientes.

Terrestre	Aquático	Aéreo
Árvore	Vitória-régia	Orquídea

As plantas que vivem na terra são chamadas de **terrestres**.
As plantas que vivem na água são chamadas de **aquáticas**.
As plantas terrestres, que se desenvolvem acima do solo e cujas raízes se prendem no caule de outras plantas, são chamadas de **aéreas**.

1 Faça o desenho de uma planta e escreva o nome do ambiente em que ela vive.

Disponível em: https://br.pinterest.com/pin/734649757936433489/. Acesso em 27/03/2020.

OBSERVE A ÁRVORE ABAIXO E NUMERE SUAS PARTES:

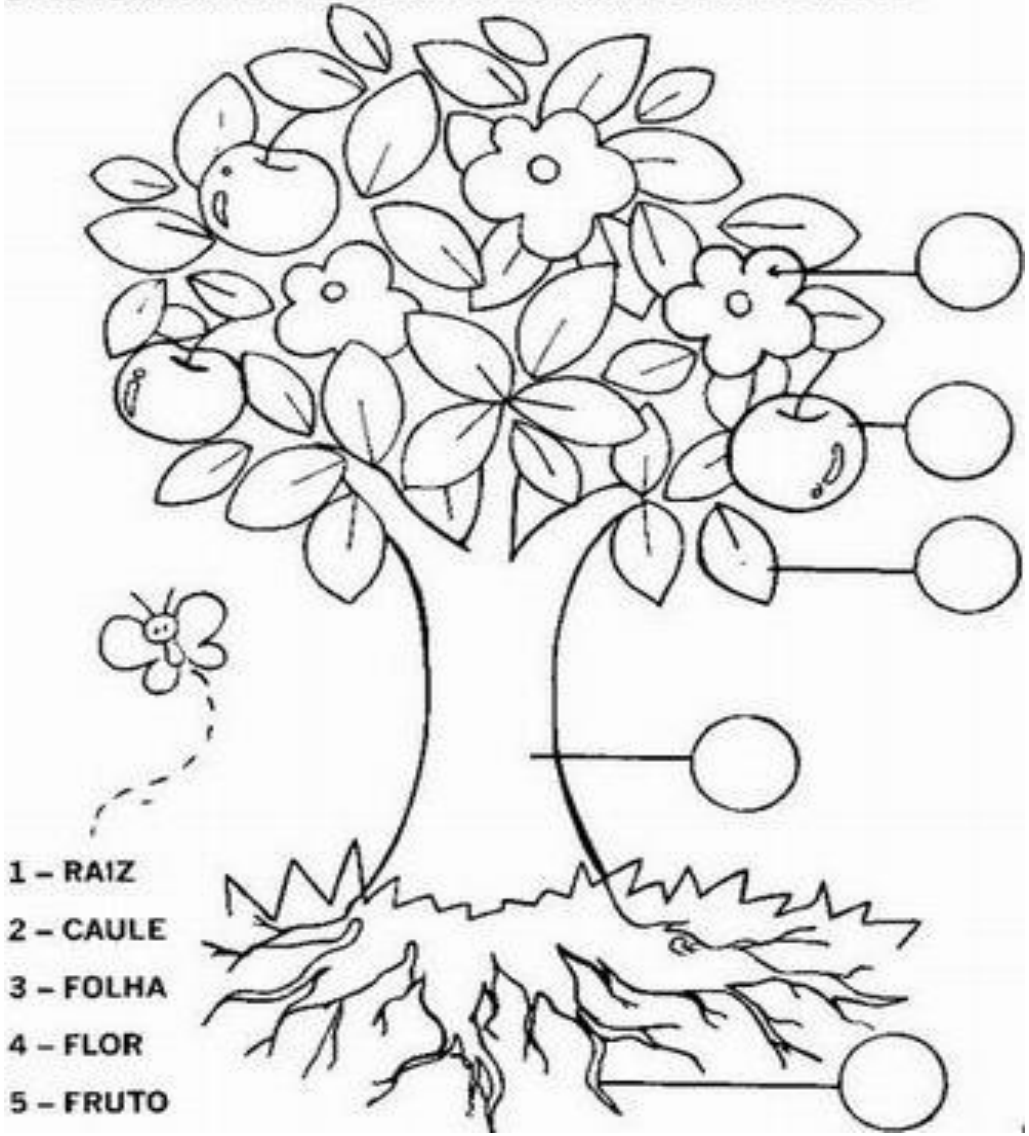

1 – RAIZ
2 – CAULE
3 – FOLHA
4 – FLOR
5 – FRUTO

OS AMBIENTES DAS PLANTAS

As plantas vivem em diferentes ambientes.

Terrestre	Aquático	Aéreo
		
Árvore	Vitória-régia	Orquídea

As plantas que vivem na terra são chamadas de **terrestres**.

As plantas que vivem na água são chamadas de **aquáticas**.

As plantas terrestres, que se desenvolvem acima do solo e cujas raízes se prendem no caule de outras plantas, são chamadas de **aéreas**.

1 Faça o desenho de uma planta e escreva o nome do ambiente em que ela vive.



Nome: _____ 2° Ano A

Professora Diana Santa – Língua Portuguesa

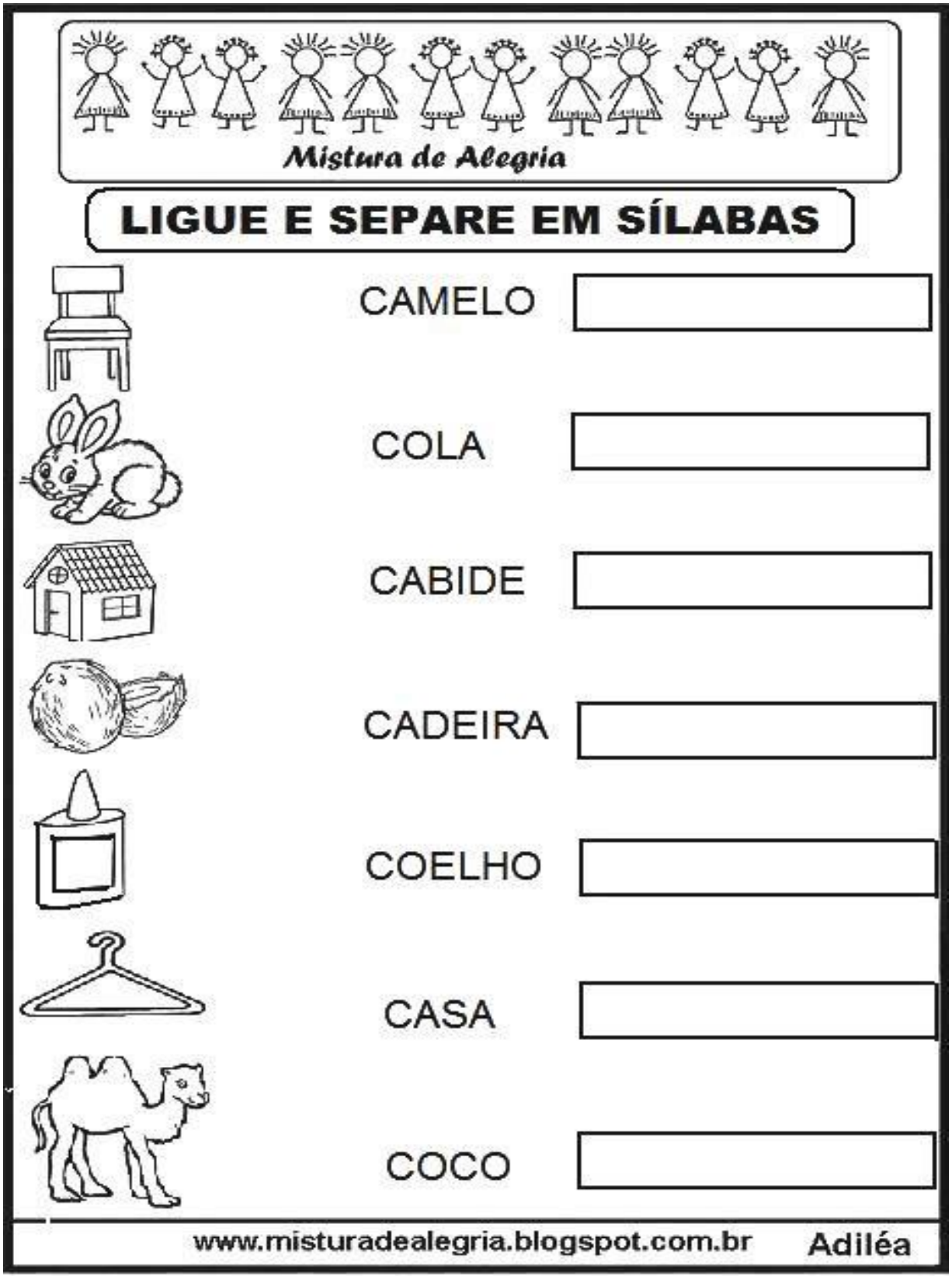

Disponível em: https://misturadealegria.blogspot.com/2016/10/separacao-silabica-atividades-de.html. Acesso em 20/04/2020.