ESTADO DE MATO GROSSO DO SUL
MUNICIPIO DE LADÁRIO
SECRETARIA MUNICIPAL DE EDUCAÇÃO
ESCOLA MUNICIPAL FAROL DO NORTE
DELIBERAÇÃO CME/LADÁRIO Nº38/2017 DE 13/11/2017
e-mail: emfaroldonorte@hotmail.com

ATIVIDADES PEDAGÓGICAS COMPLEMENTARES

2° Ano B

Ensino Fundamental I

Querido(a) aluno(a) estas são as atividades referente ao período de 01/07/2020 a 15/07/2020. **LÍNGUA PORTUGUESA, MATEMÁTICA, HISTÓRIA, GEOGRAFIA, EDUCAÇÃO FÍSICA, CIÊNCIA DA NATUREZA E ARTE.**

Estabeleça uma rotina diária de estudos; Seja cuidadoso com seus materiais; Capriche na letra e realização das atividades; Acompanhe a explicações na plataforma http://ead.tisocial.com.br/ladario

Se cuide! Use máscara! Evite aglomerações.

Com carinho, Prof. Zenina de Fátima, Lucélia Verônica, Gregório e Elizandra Oliveira

ESTADO DE MATO GROSSO DO SUL
MUNICIPIO DE LADÁRIO
SECRETARIA MUNICIPAL DE EDUCAÇÃO
ESCOLA MUNICIPAL FAROL DO NORTE
DELIBERAÇÃO CME/LADÁRIO Nº38/2017 DE 13/11/2017
e-mail: emfaroldonorte@hotmail.com

Nome: _____ Turma: 2° Ano B Turno:

( ) Mat. (**X**) Vesp.

Professor (a): **Zenina de Fátima** Ensino Fundamental I

Atividade referente ao período de 01/07 a 15/07/2020. Quantidade de aulas: 17

Componente Curricular: **Língua Portuguesa**

***Atividades para serem realizadas durante o isolamento social, no combate ao Novo Coronavírus (COVID-19)**

TESTE AVALIATIVO

NOMES PRÓPRIOS E COMUNS

1. Complete com os substantivos solicitados, iniciados com as letras indicadas.

Letra	Nome de gente	Nome de fruta	Nome de animal
A			
B			
C			
M			
P			
R			
S			

2. Pinte a coluna do quadro acima em que a letra inicial dos nomes foi escrita com maiúscula, pois são nomes próprios.

Fonte: Atividade na sala de aula, 2º Ano – Ensino Fundamental – Língua Portuguesa – Editora: RIDDEL – Vasconcelos Adson.

ESTADO DE MATO GROSSO DO SUL
MUNICIPIO DE LADÁRIO
SECRETARIA MUNICIPAL DE EDUCAÇÃO
ESCOLA MUNICIPAL FAROL DO NORTE
DELIBERAÇÃO CME/LADÁRIO Nº38/2017 DE 13/11/2017
e-mail: emfaroldonorte@hotmail.com

Professor (a): **Zenina de Fátima** Ensino Fundamental I

Atividade referente ao período de 01/07 a 15/07/2020. Quantidade de aulas: 17

Componente Curricular: **Língua Portuguesa**

3. Copie apenas as palavras que devem ser escritas com letra inicial maiúscula.

caju	carlos	planta	brasil	revista	luciana
teresa	livro	davi	bombom	catarina	couve

_____ _____ _____

_____ _____ _____

4. Circule os nomes comuns e sublinhe o nome próprio.

O galo e a galinha
foram à festa em Portugal.
O galo foi de saia
e a galinha de avental.

5. Leia este bilhete.

Mamãe,
Fui brincar um pouco na casa da Raquel. Quando eu voltar, passo na padaria e compro uma torta para comermos depois do almoço.
Volto logo,
Daniele

a) Copie do bilhete um nome comum que indica o local de moradia.

_____

b) Grife os nomes próprios escritos no bilhete.

c) Copie do bilhete o nome do local onde se vende pão.

_____

d) A palavra **mamãe** é um nome comum ou próprio? _____

e) Que palavra do bilhete é o nome de um alimento? _____

f) Circule no bilhete um nome que representa uma das refeições que fazemos ao longo do dia.

ESTADO DE MATO GROSSO DO SUL
MUNICIPIO DE LADÁRIO
SECRETARIA MUNICIPAL DE EDUCAÇÃO
ESCOLA MUNICIPAL FAROL DO NORTE
DELIBERAÇÃO CME/LADÁRIO Nº38/2017 DE 13/11/2017
e-mail: emfaroldonorte@hotmail.com

Professor (a): **Zenina de Fátima** Ensino Fundamental I

Atividade referente ao período de 01/07 a 15/07/2020. Quantidade de aulas: 17

Componente Curricular: **Língua Portuguesa**

1. Circule a palavra que não faz parte do grupo.

A		B	
violão	bateria	caneta	borracha
piano	pneu	lápis	caderno
flauta	violino	apontador	celular



C		D	
salada	arroz	margarida	mangueira
feijão	farofa	rosa	gardênia
carne	ralador	petúnia	gerânio



2. Continue as listas, escrevendo com letra cursiva nomes de:

FRUTAS	ANIMAIS
amora	arara





Fonte: Atividade na sala de aula, 2º Ano – Ensino Fundamental – Língua Portuguesa – Editora: RIDDEL – Vasconcelos Adson.

ESTADO DE MATO GROSSO DO SUL
MUNICIPIO DE LADÁRIO
SECRETARIA MUNICIPAL DE EDUCAÇÃO
ESCOLA MUNICIPAL FAROL DO NORTE
DELIBERAÇÃO CME/LADÁRIO Nº38/2017 DE 13/11/2017
e-mail: emfaroldonorte@hotmail.com

Professor (a): **Zenina de Fátima** Ensino Fundamental I

Atividade referente ao período de 01/07 a 15/07/2020. Quantidade de aulas: 17

Componente Curricular: **Língua Portuguesa**

DIVERTINDO-SE COM SUBSTANTIVOS

1. Complete a cruzadinha com o nome destes animais.

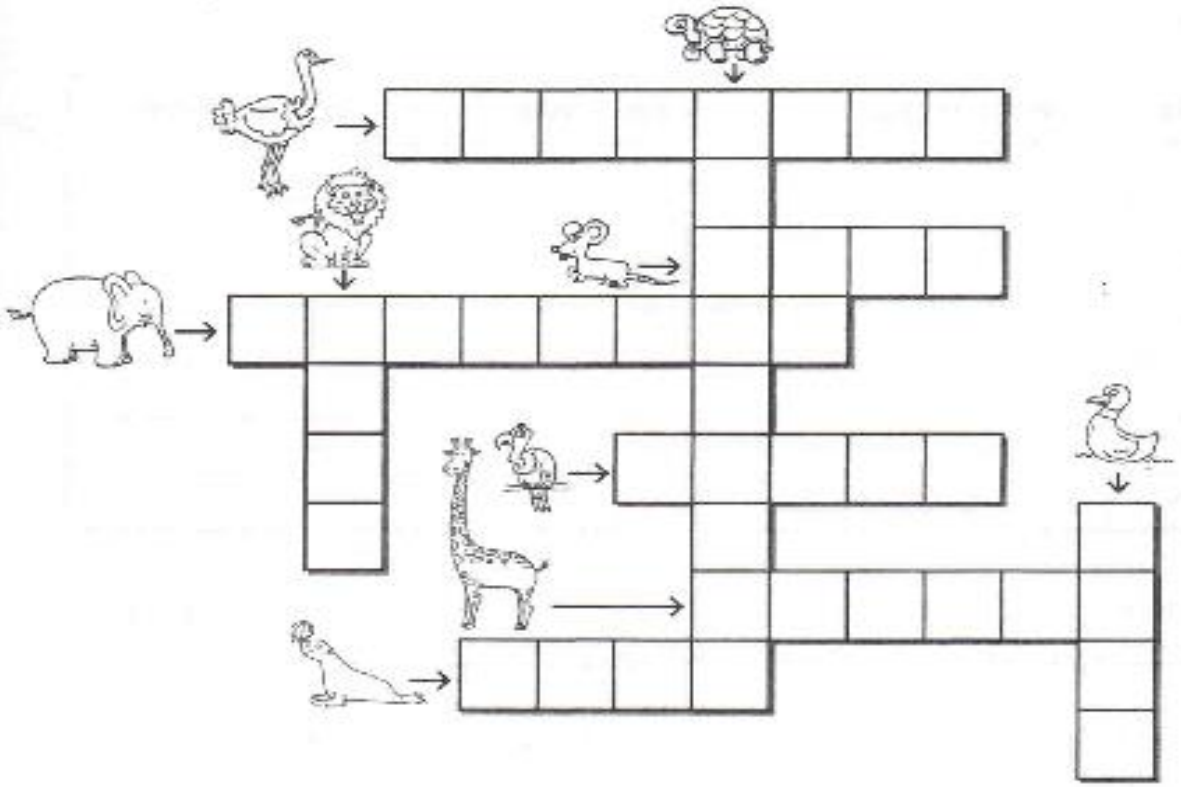

2. Localize no diagrama o nome dos objetos.

COPO
COLHER
PRATO
TIGELA
FORMA
TESOURA
FACA
FERRO
PANELA
JARRA

P	G	P	D	S	C	O	L	H	E	R	L
A	P	G	F	E	R	R	O	U	I	O	H
N	T	G	X	S	A	A	J	X	M	B	T
E	C	O	P	O	I	J	L	R	I	J	I
L	R	I	K	T	W	F	O	R	M	A	G
A	X	P	N	L	E	P	H	N	J	R	E
F	A	C	A	R	P	R	A	T	O	R	L
O	B	T	E	S	O	U	R	A	B	A	A
M	V	D	L	P	T	V	X	S	A	K	P

ESTADO DE MATO GROSSO DO SUL
MUNICIPIO DE LADÁRIO
SECRETARIA MUNICIPAL DE EDUCAÇÃO
ESCOLA MUNICIPAL FAROL DO NORTE
DELIBERAÇÃO CME/LADÁRIO Nº38/2017 DE 13/11/2017
e-mail: emfaroldonorte@hotmail.com

Professor (a): **Zenina de Fátima** Ensino Fundamental I

Atividade referente ao período de 01/07 a 15/07/2020. Quantidade de aulas: 17

Componente Curricular: **Língua Portuguesa**

PRODUÇÃO DE TEXTO

CONTINUANDO UMA HISTÓRIA

Leia o início da história de um caracol que gostaria de ser veloz como alguns outros animais. O que poderia acontecer para que o caracol se contentasse em ser do jeito que é? Continue o texto e ajude o caracol a mudar de opinião.

O caracol invejoso

Era uma vez um caracol que observava os outros animais diariamente e sentia-se infeliz porque todos eram mais rápidos que ele.

Uns brincavam, outros saltavam, outros ainda subiam no alto das árvores, e ele, aborrecido embaixo de sua carapaça, punha-se a resmungar:

— Oh! Que sina carregar esta carapaça e ter passos lentos...



Adson Vasconcelos. *A magia das virtudes*. São Paulo: Rideel, 2008. p. 43. (adaptado)

Fonte: Atividade na sala de aula, 2º Ano – Ensino Fundamental – Língua Portuguesa – Editora: RIDDEL – Vasconcelos Adson.

ESTADO DE MATO GROSSO DO SUL
MUNICIPIO DE LADÁRIO
SECRETARIA MUNICIPAL DE EDUCAÇÃO
ESCOLA MUNICIPAL FAROL DO NORTE
DELIBERAÇÃO CME/LADÁRIO Nº38/2017 DE 13/11/2017
e-mail: emfaroldonorte@hotmail.com

Nome: _____ Turma: 2° Ano B Turno:

( ) Mat. (**X**) Vesp.

Professor (a): **Zenina de Fátima** Ensino Fundamental I

Atividade referente ao período de 01/07 a 15/07/2020. Quantidade de aulas: 10

Componente Curricular: **Matemática**

***Atividades para serem realizadas durante o isolamento social, no combate ao Novo Coronavírus (COVID-19)**

TESTE AVALIATIVO

1. Anote **par** ou **ímpar**:

a) 4 _____ f) 38 _____

b) 8 _____ g) 44 _____

c) 13 _____ h) 53 _____

d) 17 _____ i) 67 _____

e) 20 _____ j) 79 _____

2. Separe as cartolas em dois conjuntos iguais com número **ímpar** de elementos, circulando cada grupo.

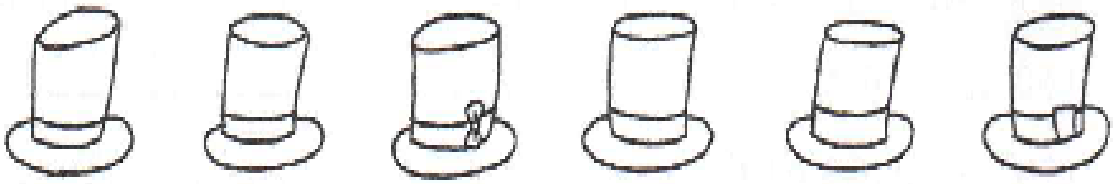

3. Separe os patinhos em dois conjuntos iguais com número **par** de elementos.



Fonte: Atividade na sala de aula, 2º Ano – Ensino Fundamental – Matemática – Editora: RIDDEL – Vasconcelos Adson. / Caderno do Futuro – Matemática / Passos Célia e Silva Zenelde /Editora: @ ibep-nacional.com.br

ESTADO DE MATO GROSSO DO SUL
MUNICIPIO DE LADÁRIO
SECRETARIA MUNICIPAL DE EDUCAÇÃO
ESCOLA MUNICIPAL FAROL DO NORTE
DELIBERAÇÃO CME/LADÁRIO Nº38/2017 DE 13/11/2017
e-mail: emfaroldonorte@hotmail.com

Professor (a): **Zenina de Fátima** Ensino Fundamental I

Atividade referente ao período de 01/07 a 15/07/2020. Quantidade de aulas: 10

Componente Curricular: **Matemática**

3. Preencha o calendário com os dias do mês em que estamos.

MÊS _____ ANO _____

DOMINGO	SEGUNDA	TERÇA	QUARTA	QUINTA	SEXTA	SÁBADO

a) Quantos dias têm esse mês? _____

b) Em que dia estamos? _____

c) Quantos sábados há nesse mês? _____

4. Preencha a tabela com os números que faltam.

1	2	3	4	5	6	7	8	9	10
11			14						
21				25					
		33			36		38		
			44			47			50

ESTADO DE MATO GROSSO DO SUL
MUNICIPIO DE LADÁRIO
SECRETARIA MUNICIPAL DE EDUCAÇÃO
ESCOLA MUNICIPAL FAROL DO NORTE
DELIBERAÇÃO CME/LADÁRIO Nº38/2017 DE 13/11/2017
e-mail: emfaroldonorte@hotmail.com

Professor (a): **Zenina de Fátima** Ensino Fundamental I

Atividade referente ao período de 01/07 a 15/07/2020. Quantidade de aulas: 10

Componente Curricular: **Matemática**

Adição com reagrupamento

1. Observe o exemplo e efetue as adições abaixo:

D	U
①2	5
+ 1	9
4	4

Adição
Símbolo: +
Lê-se: mais
36 → parcela
+ 24 → parcela
60 → soma ou total

Lembrete: Vai 1 dezena para a ordem das dezenas.

a)

D	U
○5	6
+ 2	7

c)

D	U
○4	8
+ 2	6

e)

D	U
○6	4
+ 1	9

Fonte: Atividade na sala de aula, 2º Ano – Ensino Fundamental – Matemática – Editora: RIDDEL – Vasconcelos Adson. / Caderno do Futuro – Matemática / Passos Célia e Silva Zeneide /Editora: @ ibep-nacional.com.br

ESTADO DE MATO GROSSO DO SUL
MUNICIPIO DE LADÁRIO
SECRETARIA MUNICIPAL DE EDUCAÇÃO
ESCOLA MUNICIPAL FAROL DO NORTE
DELIBERAÇÃO CME/LADÁRIO Nº38/2017 DE 13/11/2017
e-mail: emfaroldonorte@hotmail.com

Professor (a): **Zenina de Fátima** Ensino Fundamental I

Atividade referente ao período de 01/07 a 15/07/2020. Quantidade de aulas: 10

Componente Curricular: **Matemática**



ESTADO DE MATO GROSSO DO SUL
MUNICIPIO DE LADÁRIO
SECRETARIA MUNICIPAL DE EDUCAÇÃO
ESCOLA MUNICIPAL FAROL DO NORTE
DELIBERAÇÃO CME/LADÁRIO Nº38/2017 DE 13/11/2017
e-mail: emfaroldonorte@hotmail.com

Professor (a): **Zenina de Fátima** Ensino Fundamental I

Atividade referente ao período de 01/07 a 15/07/2020. Quantidade de aulas: 10

Componente Curricular: **Matemática**

Problemas

1. Para o aniversário de Luizinho, mamãe fez 25 empadinhas e 18 coxinhas. Quantos salgadinhos mamãe fez?

Cálculo | Resposta

2. Num lago há 36 patinhos amarelos e 28 patinhos brancos. Quantos patinhos há no lago, ao todo?

Cálculo | Resposta

3. Papai comprou 45 bolas de gude para Roberto e 27 bolas de gude para Gustavo. Quantas bolas de gude papai comprou?

Cálculo | Resposta

4. Na estante há 2 dezenas e 6 unidades de livros de Português e 2 dezenas e 8 unidades de livros de Matemática. Ao todo, quantos livros há na estante?

Cálculo | Resposta

5. Na fruteira há ainda 26 frutas. Mamãe já retirou 16 frutas. Ao todo, quantas frutas havia na fruteira?

Cálculo | Resposta

6. Para o aniversário de Helena, mamãe comprou 24 garrafas de soda limonada e 36 garrafas de guaraná. Quantas garrafas de refrigerante mamãe comprou ao todo?

Cálculo | Resposta

7. Sandro tem 17 brinquedos. Carlinhos tem 15 brinquedos a mais que Sandro. Quantos brinquedos tem Carlinhos?

Cálculo | Resposta

Fonte: Atividade na sala de aula, 2º Ano – Ensino Fundamental – Matemática – Editora: RIDDEL – Vasco

Caderno do Futuro – Matemática / Passos Célia e Silva Zeneide /Editora: @ ibep-nacional.c

ESTADO DE MATO GROSSO DO SUL
MUNICIPIO DE LADÁRIO
SECRETARIA MUNICIPAL DE EDUCAÇÃO
ESCOLA MUNICIPAL FAROL DO NORTE
DELIBERAÇÃO CME/LADÁRIO Nº38/2017 DE 13/11/2017
e-mail: emfaroldonorte@hotmail.com

Nome: _____ Turma: 2° Ano B Turno:

( ) Mat. (**X**) Vesp.

Professor (a): **Zenina de Fátima** Ensino Fundamental I

Atividade referente ao período de 01/07 a 15/07/2020. Quantidade de aulas: 06

Componente Curricular: **História**

***Atividades para serem realizadas durante o isolamento social, no combate ao Novo Coronavírus (COVID-19)**

DOCUMENTOS E REGISTROS

Existem vários modos de registrar a história de vida de uma pessoa.

1. Ligue as imagens dos documentos às legendas.



Identifica uma pessoa como aluno de uma escola.

Registra com imagens momentos da vida de uma pessoa.



Registra as vacinas que uma pessoa já tomou ao longo da vida.





Registros pessoais feitos para preservar os fatos.

Fonte: Atividade na sala de aula, 2º Ano – Ensino Fundamental – História – Editora: RIDDEL – Vasconcelos Adson.

ESTADO DE MATO GROSSO DO SUL
MUNICIPIO DE LADÁRIO
SECRETARIA MUNICIPAL DE EDUCAÇÃO
ESCOLA MUNICIPAL FAROL DO NORTE
DELIBERAÇÃO CME/LADÁRIO Nº38/2017 DE 13/11/2017
e-mail: emfaroldonorte@hotmail.com

Professor (a): **Zenina de Fátima** Ensino Fundamental I

Atividade referente ao período de 01/07 a 15/07/2020. Quantidade de aulas: 06

Componente Curricular: **História**

2. Qual é o documento que o cidadão brasileiro com 16 anos ou mais usa para votar e escolher seus candidatos, como: presidente, governador, senador, deputado, prefeito e vereador?

- ☐ certidão de nascimento
- ☐ carteira de estudante
- ☐ carteira profissional
- ☐ título de eleitor
- ☐ passaporte



3. Associe os documentos às legendas.

A



B



C



CARTEIRA PROFISSIONAL CARTEIRA DE HABILITAÇÃO CERTIDÃO DE NASCIMENTO

- ☐ Registra a filiação, a data e o local de nascimento de uma pessoa.
- ☐ Documento no qual se registra a prestação de serviços do trabalhador.
- ☐ Documento que atesta a habilidade de conduzir veículos.

4. Troque cada letra pela anterior no alfabeto e forme nomes populares da carteira de habilitação.

CARTA DE →	N	P	U	P	S	J	T	U	B
CARTEIRA DE →									

ESTADO DE MATO GROSSO DO SUL
MUNICIPIO DE LADÁRIO
SECRETARIA MUNICIPAL DE EDUCAÇÃO
ESCOLA MUNICIPAL FAROL DO NORTE
DELIBERAÇÃO CME/LADÁRIO Nº38/2017 DE 13/11/2017
e-mail: emfaroldonorte@hotmail.com

Professor (a): **Zenina de Fátima** Ensino Fundamental I

Atividade referente ao período de 01/07 a 15/07/2020. Quantidade de aulas: 06

Componente Curricular: **História**

AS ESTAÇÕES DO ANO

1. Escreva o nome da estação do ano mostrada em cada quadrinho.



Fonte: Atividade na sala de aula, 2º Ano – Ensino Fundamental – História – Editora: RIDDEL – Vasconcelos Adson.

ESTADO DE MATO GROSSO DO SUL
MUNICIPIO DE LADÁRIO
SECRETARIA MUNICIPAL DE EDUCAÇÃO
ESCOLA MUNICIPAL FAROL DO NORTE
DELIBERAÇÃO CME/LADÁRIO Nº38/2017 DE 13/11/2017
e-mail: emfaroldonorte@hotmail.com

Professor (a): **Zenina de Fátima** Ensino Fundamental I

Atividade referente ao período de 01/07 a 15/07/2020. Quantidade de aulas: 06

Componente Curricular: **História**

2. Em qual estação do ano estas cenas são mais comuns?

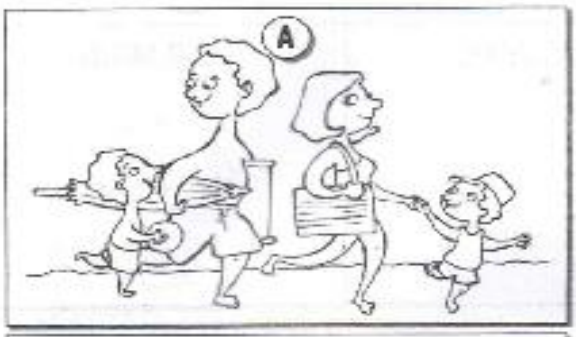



1. Indique se o tempo está nublado, ventoso, chuvoso ou ensolarado.









ESTADO DE MATO GROSSO DO SUL
MUNICIPIO DE LADÁRIO
SECRETARIA MUNICIPAL DE EDUCAÇÃO
ESCOLA MUNICIPAL FAROL DO NORTE
DELIBERAÇÃO CME/LADÁRIO Nº38/2017 DE 13/11/2017
e-mail: emfaroldonorte@hotmail.com

Nome: _____ Turma: 2° Ano B Turno:

( ) Mat. (**X**) Vesp.

Professor (a): **Zenina de Fátima** Ensino Fundamental I

Atividade referente ao período de 01/07 a 15/07/2020. Quantidade de aulas: 04

Componente Curricular: **Geografia**

***Atividades para serem realizadas durante o isolamento social, no combate ao Novo Coronavírus (COVID-19)**

MUDANÇAS NA PAISAGEM

Observe as alterações sofridas nesta paisagem e responda.

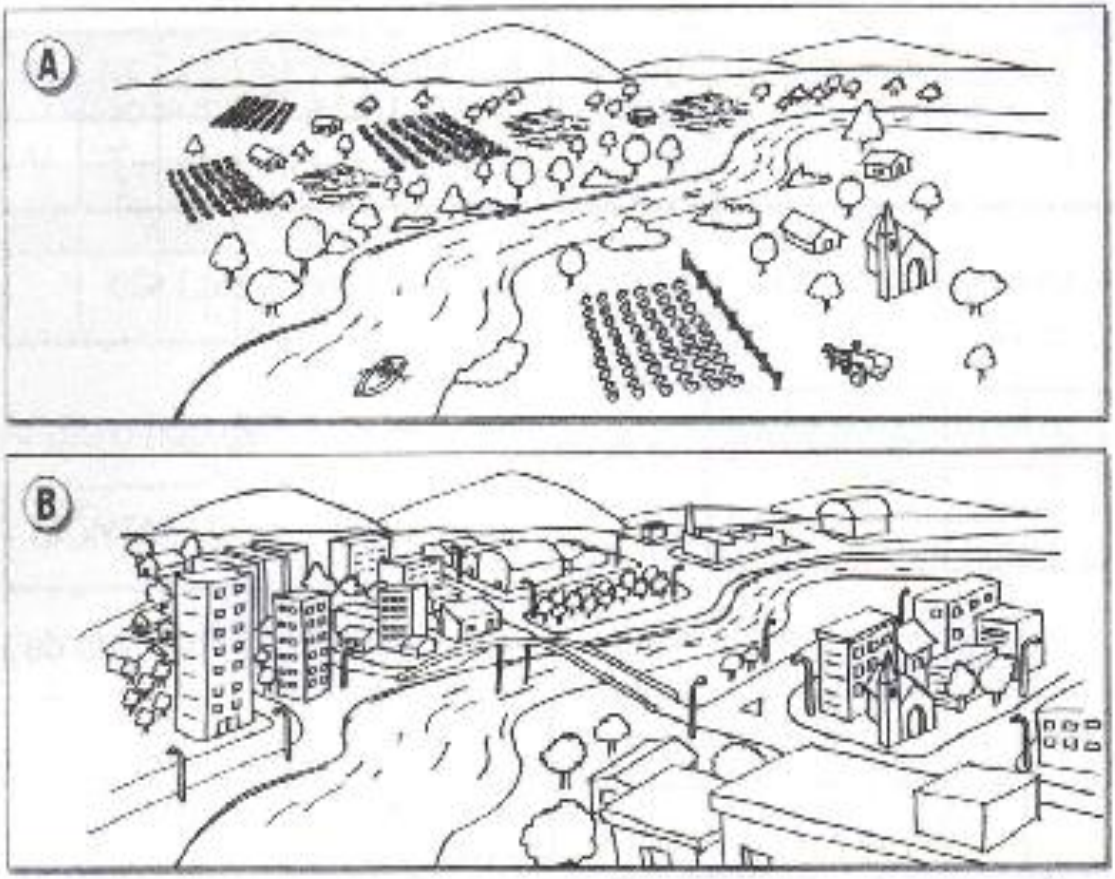

1. Ao longo do tempo, a paisagem acima mudou de:

☐ urbana para rural ☐ rural para urbana

Fonte: Atividade na sala de aula, 2º Ano – Ensino Fundamental – Geografia – Editora: RIDDEL – Vasconcelos Adson.

ESTADO DE MATO GROSSO DO SUL
MUNICIPIO DE LADÁRIO
SECRETARIA MUNICIPAL DE EDUCAÇÃO
ESCOLA MUNICIPAL FAROL DO NORTE
DELIBERAÇÃO CME/LADÁRIO Nº38/2017 DE 13/11/2017
e-mail: emfaroldonorte@hotmail.com

Professor (a): **Zenina de Fátima** Ensino Fundamental I

Atividade referente ao período de 01/07 a 15/07/2020. Quantidade de aulas: 04

Componente Curricular: **Geografia**

2. Que construção foi feita para ligar os dois lados do rio?

_____

3. Qual das cenas é a mais antiga? ☐ cena A ☐ cena B

4. Quais as atividades econômicas mais observadas na cena A?

☐ atividade industrial ☐ agricultura

☐ pecuária ☐ prestação de serviços

5. Para que servem os postes instalados na cena B?

1. Pinte apenas a paisagem natural.



2. Desenhe a paisagem que você vê de uma janela de sua casa ou da escola.



ESTADO DE MATO GROSSO DO SUL
MUNICIPIO DE LADÁRIO
SECRETARIA MUNICIPAL DE EDUCAÇÃO
ESCOLA MUNICIPAL FAROL DO NORTE
DELIBERAÇÃO CME/LADÁRIO Nº38/2017 DE 13/11/2017
e-mail: emfaroldonorte@hotmail.com

Professor (a): **Zenina de Fátima** Ensino Fundamental I

Atividade referente ao período de 01/07 a 15/07/2020. Quantidade de aulas: 04

Componente Curricular: **Geografia**

2. Observe estas fotografias de um mesmo local e compare-as.



Elevador Lacerda, Salvador, Província da Bahia, 1875.



Elevador Lacerda, Salvador, Bahia, 2010.

a) O que permaneceu e o que mudou nessa paisagem ao longo do tempo?

Mudanças	Permanências

Fonte: Atividade na sala de aula, 2º Ano – Ensino Fundamental – Geografia – Editora: RIDDEL – Vasconcelos Adson.

ESTADO DE MATO GROSSO DO SUL
MUNICIPIO DE LADÁRIO
SECRETARIA MUNICIPAL DE EDUCAÇÃO
ESCOLA MUNICIPAL FAROL DO NORTE
DELIBERAÇÃO CME/LADÁRIO Nº38/2017 DE 13/11/2017
e-mail: emfaroldonorte@hotmail.com

Professor (a): **Zenina de Fátima** Ensino Fundamental I

Atividade referente ao período de 01/07 a 15/07/2020. Quantidade de aulas: 04

Componente Curricular: **Geografia**

TIPOS DE RELEVO

1. Decifre o código e dê os nomes solicitados.

1	2	3	4	5	6	7	8	9	10	11	12	13	14	15
A	C	E	H	I	Í	L	M	N	O	P	R	S	T	V

a) As diferenças entre terrenos (ondulados, baixos, altos etc.) são chamadas de:

12	3	7	3	15	10

b) O terreno plano, que não apresenta trechos elevados é chamado de:

11	7	1	9	6	2	5	3

c) O terreno que apresenta trechos elevados é chamado de:

11	7	1	9	1	7	14	10

d) Uma grande elevação é chamada de:

8	10	9	14	1	9	4	1

e) Uma pequena elevação é chamada de:

8	10	12	12	10

ESTADO DE MATO GROSSO DO SUL
MUNICIPIO DE LADÁRIO
SECRETARIA MUNICIPAL DE EDUCAÇÃO
ESCOLA MUNICIPAL FAROL DO NORTE
DELIBERAÇÃO CME/LADÁRIO Nº38/2017 DE 13/11/2017
e-mail: emfaroldonorte@hotmail.com

Nome: _____ Turma: 2º B Turno: ( ) Mat. (**X**) Vesp.

Professor (a): **Lucélia Verônica** Ensino Fundamental I

Atividade referente ao dia 03/07/2020 Quantidade de aulas: 01

Componente Curricular: **EDUCAÇÃO FÍSICA**

***Atividades para serem realizadas durante o isolamento social, no combate ao Novo Coronavírus (COVID-1)**

Atividade

Esporte

1) Pulando pelo caminho.O aluno vai ter que desenhar no chão com giz ou outro material disponível em casa. Tem que percorrer pelo caminho conforme mostra nas imagens. **Enviar fotos ou vídeo para o nosso grupo.**

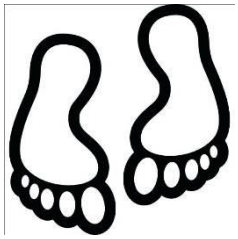

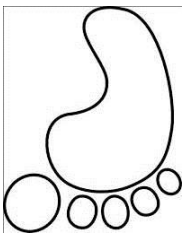

Distância de 40cm de um desenho para o outro.

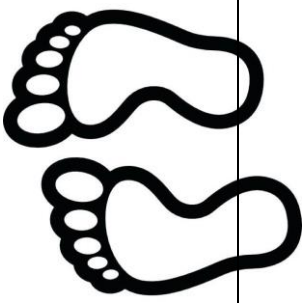







Ande na linha um pé na frente do outro.

Pule
Por cima

Pule
Por cima

Elaboração própria: Prof. Lucélia Verônica.

ESTADO DE MATO GROSSO DO SUL
MUNICIPIO DE LADÁRIO
SECRETARIA MUNICIPAL DE EDUCAÇÃO
ESCOLA MUNICIPAL FAROL DO NORTE
DELIBERAÇÃO CME/LADÁRIO Nº38/2017 DE 13/11/2017
e-mail: emfaroldonorte@hotmail.com

Nome: _____ Turma: 2º B Turno: ( ) Mat. (**X**) Vesp.

Professor (a): **Lucélia Verônica** Ensino Fundamental I

Atividade referente ao dia 04/07/2020 e 07/07/2020 Quantidade de aulas: 02

Componente Curricular: **EDUCAÇÃO FÍSICA**

***Escreva o nome na atividade.**

O esporte em si é a atividade física exercida dentro de um jogo ou um campeonato de qualquer tipo, cuja a pratica está sujeita a regras especificas.

1) Você gosta de esporte? Faça um desenho do qual você mais gosta.

2). Ligue cada bola de acordo com a sua modalidade.













ESTADO DE MATO GROSSO DO SUL
MUNICIPIO DE LADÁRIO
SECRETARIA MUNICIPAL DE EDUCAÇÃO
ESCOLA MUNICIPAL FAROL DO NORTE
DELIBERAÇÃO CME/LADÁRIO Nº38/2017 DE 13/11/2017
e-mail: emfaroldonorte@hotmail.com

Nome: _____ Turma: 2º B Turno: ( ) Mat. (**X**) Vesp.

Professor (a): **Lucélia Verônica** Ensino Fundamental I Atividade referente ao dia 10/07/2020 e 14/07/2020 Quantidade de aulas: 02

Componente Curricular: **EDUCAÇÃO FÍSICA**

***Escreva o nome na atividade/ Enviar fotos ou vídeos para o nosso grupo.**

1) Completar o nome de cada modalidade do esporte.






N__T___Ç__ __.

C__RR__D__ C__M __BST___C__L__S.

C__CL__SM___.

J__D__.

2) Bola na parede. Você pode utilizar a bola disponível em casa grande ou pequena. **Regras: 1-** Sentado no chão ou em pé de frente para parede, você irá jogar a bola que ela quique no chão e bata na parede e volte em suas mãos.**2-** Em seguida realizar o mesmo procedimento, jogando com a mão direita e pegando com a esquerda. **3-** Jogando com a mão esquerda e pegando com a direita.



,

Elaboração própria: Prof. Lucélia Verônica
Fonte: https://www.tempojunto.com/2017/10/09/como-brincar-de-paredao/ Acesso em 03/07/202