ESTADO DE MATO GROSSO DO SUL
MUNICIPIO DE LADÁRIO
SECRETARIA MUNICIPAL DE EDUCAÇÃO
ESCOLA MUNICIPAL FAROL DO NORTE
DELIBERAÇÃO CME/LADÁRIO Nº38/2017 DE 13/11/2017
e-mail: emfaroldonorte@hotmail.com

NOME:_____ **Turma: B Turno: Vespertino – 2º Ano**

Professor(a): ZENINA Ensino Fundamental 1

Atividade referente: Dia 08/06 ao dia 13/06 de 2020 - Quantidade de aulas: 04 Aulas.

Componente curricular: Língua Portuguesa

***Atividades para serem realizadas durante o isolamento social, no combate ao novo Corona Virus (COVID-19)**

SUBSTANTIVOS NO TEXTO

Leia esta fábula.

O cão e sua sombra



Um cachorro carregava um pedaço de carne na boca e procurava um lugar tranquilo para comê-lo sozinho, quando, ao passar por uma ponte, viu o reflexo de sua sombra refletida na água.

Imaginando que se tratava de outro cão disposto a tomar-lhe o pedaço de carne, atirou-se sobre a imagem na água.

Porém, ao morder o reflexo, deixou o seu pedaço de carne cair, e a correnteza o levou.

Assim, o cachorro ficou sem carne alguma.

(Esopo. Em: Adson Vasconcelos. *A magia das virtudes*. São Paulo: Rideel, 2008. p. 85.)

1. O que você achou da atitude da personagem do texto? Comente.

_____

_____

Fonte: Atividade em sala de Aula, 2º Ano – Ensino Fundamental – Língua Portuguesa – Editora: RIDEEL – Vasconcelos Adson.

2. Qual destes ensinamentos há nessa fábula?

- ☐ Deus ajuda quem cedo madruga.
- ☐ A pressa é inimiga da perfeição.
- ☐ Quem tudo quer nada tem.
- ☐ Quem tem boca vai a Roma.

3. Que palavra da fábula nomeia uma parte do corpo do cachorro?

_____

ESTADO DE MATO GROSSO DO SUL
MUNICIPIO DE LADÁRIO
SECRETARIA MUNICIPAL DE EDUCAÇÃO
ESCOLA MUNICIPAL FAROL DO NORTE
DELIBERAÇÃO CME/LADÁRIO Nº38/2017 DE 13/11/2017
e-mail: emfaroldonorte@hotmail.com

NOME:_____ Turma: B Turno: Vespertino – 2º Ano

Professor(a): ZENINA Ensino Fundamental 1

Atividade referente: Dia 08/06 ao dia 13/06 de 2020 - Quantidade de aulas: 04 Aulas.

Componente curricular: Língua Portuguesa

*Atividades para serem realizadas durante o isolamento social, no combate ao novo Corona Virus (COVID-19)

HÁ NOME PARA TUDO

Todas as coisas têm um nome. As palavras que nomeiam seres, objetos, sentimentos e todas as coisas são chamadas de **substantivos**.

1. Escreva o nome de tudo o que você vê nesta cena.



_____

_____

_____

_____

_____

2. Desembaralhe as letras e forme palavras. Depois, separe as sílabas.

Nome de flor
A R
S O

Nome de animal
O A V
L A C

Nome de fruta
X A B
A I A C

_____ _____ _____

☐☐ ☐☐☐ ☐☐☐☐

LETRA, SÍLABA, PALAVRA

1. Separe as palavras em letras e sílabas.



a) CAJU

b) CAMISA

c) ELEFANTE

d) BANANADA

2. Encontre neste diagrama o nome destes brinquedos e anote-os.









B	O	L	A	D	E	G	U	D	E
U	I	D	I	P	C	J	A	L	V
B	T	A	M	B	O	R	G	P	O
O	L	D	G	A	I	C	L	A	L
N	U	O	V	Q	I	F	T	T	C
E	I	T	L	V	O	O	K	I	E
C	R	S	O	G	I	P	X	N	A
A	N	R	O	B	Ô	L	J	S	B
Q	I	T	V	X	A	H	O	X	L
I	B	F	T	P	E	T	E	C	A









2. Escreva o período em que você faz estas atividades. Dia ou noite?



BRINCAR



ESTUDAR



ACORDAR



ALMOÇAR



JANTAR



DORMIR

1. Veja as atividades realizadas por Mariana no período de um dia e anote nos quadrinhos a hora em que cada atividade foi realizada.

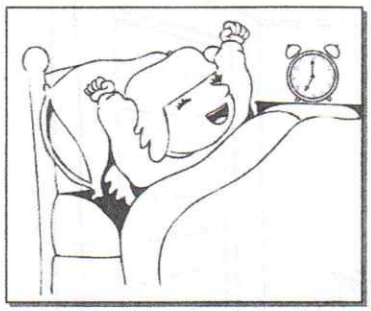









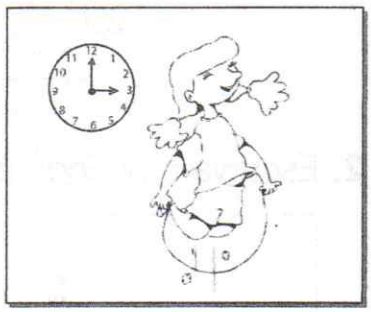

ESTADO DE MATO GROSSO DO SUL
MUNICIPIO DE LADÁRIO
SECRETARIA MUNICIPAL DE EDUCAÇÃO
ESCOLA MUNICIPAL FAROL DO NORTE
DELIBERAÇÃO CME/LADÁRIO Nº38/2017 DE 13/11/2017
e-mail: emfaroldonorte@hotmail.com

NOME:_____ **Turma: B Turno: Vespertino – 2º Ano**

Professor(a): ZENINA Ensino Fundamental 1

Atividade referente: Dia 08/06 ao dia 13/06 de 2020 - Quantidade de aulas: 02 Aulas.

Componente curricular: História

***Atividades para serem realizadas durante o isolamento social, no combate ao novo Corona Virus (COVID-19)**

DIA E NOITE

1. Desenhe no céu o elemento que falta para caracterizar o dia.



Fonte: Atividade em sala de Aula, 2º Ano – Ensino Fundamental – Geografia – Editora: RIDEEL – Vasconcelos Adson.

5. Pinte apenas o que está relacionado à pecuária.



1. Na cidade, normalmente, predominam mais as atividades ligadas à:

- ☐ agricultura, pecuária e pesca.
- ☐ comércio, prestação de serviços e indústrias.

2. Como é chamado quem compra mercadorias para uso próprio:

☐ vendedor ☐ comerciante ☐ consumidor

3. Marque os prestadores de serviço mais relacionados às cidades:

☐ agricultor	☐ eletricista	☐ médico
☐ taxista	☐ pecuarista	☐ advogado
☐ pescador	☐ professor	☐ porteiro

4. Marque **P** para prestação de serviço e **C** para comércio.



ESTADO DE MATO GROSSO DO SUL
MUNICIPIO DE LADÁRIO
SECRETARIA MUNICIPAL DE EDUCAÇÃO
ESCOLA MUNICIPAL FAROL DO NORTE
DELIBERAÇÃO CME/LADÁRIO Nº38/2017 DE 13/11/2017
e-mail: emfaroldonorte@hotmail.com

NOME:_____ Turma: B Turno: Vespertino – 2º Ano

Professor(a): ZENINA Ensino Fundamental 1

Atividade referente: Dia 08/06 ao dia 13/06 de 2020 - Quantidade de aulas: 03 Aulas.

Componente curricular: Matemática

*Atividades para serem realizadas durante o isolamento social, no combate ao novo Corona Virus (COVID-19)

RESOLVENDO PROBLEMAS (adição)

1. João tem duas vacas na fazenda. Uma vaca dá 8 litros de leite por dia e a outra 11. Quantos litros de leite as duas produzem juntas?



2. Um ciclista percorreu 21 quilômetros pela manhã e 16 à tarde. Quantos quilômetros ele percorreu no total?



Fonte: Atividade em sala de Aula, 2º Ano – Ensino Fundamental –Matemática Editora: RIDEEL – Vasconcelos Adson.

ESTADO DE MATO GROSSO DO SUL
MUNICIPIO DE LADÁRIO
SECRETARIA MUNICIPAL DE EDUCAÇÃO
ESCOLA MUNICIPAL FAROL DO NORTE
DELIBERAÇÃO CME/LADÁRIO Nº38/2017 DE 13/11/2017
e-mail: emfaroldonorte@hotmail.com

Nome: _____ Turma: 2º B Turno: ( ) Mat. ( ) Vesp.

Professor (a): Lucélia Verônica Ensino Fundamental I

Atividade referente ao dia 09/06/2020 Quantidade de aulas: 01

Componente Curricular: **EDUCAÇÃO FÍSICA**

***Atividades para serem realizadas durante o isolamento social, no combate ao Novo Coronavírus (COVID-1**

(Por favor registrar com fotos ou vídeo e coloque o nome na atividade).

Atividade

1) O aluno tem que escolher seis figuras, desenhar em uma folha de sulfite, dobre a folha em várias partes e desenhe as figuras escolhidas. O aluno vai desenvolver o alongamento e mostrar a figura que está imitando.

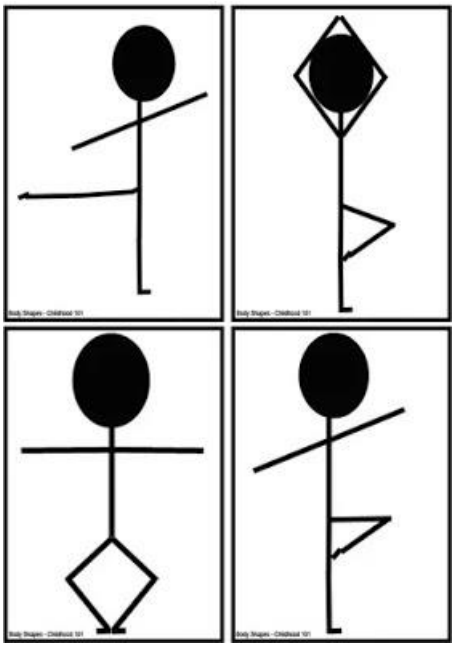

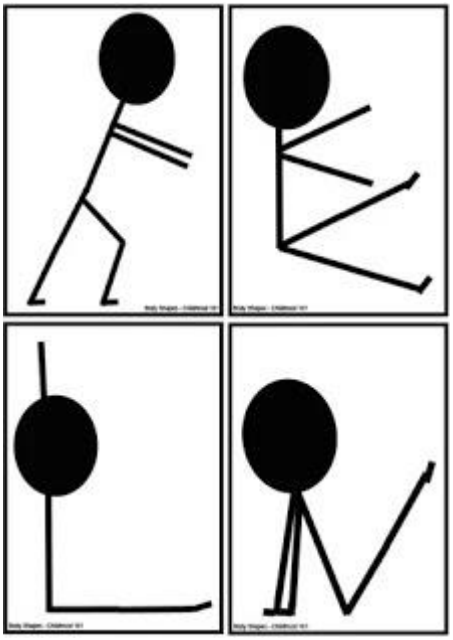



Fonte:http://psicopedagogiasalvador.blogspot.com/2016/09/baixe-gratuitamente-cartoes-de.html Acesso em 20/05/2020.

Nome: _____ Turma: 2° Ano B Turno: ( ) Mat. (**X**) Vesp.

Professor (a): **Elizandra Oliveira De Arruda** Ensino Fundamental I

Atividades referente ao dia 18/06/2020 Quantidade de aulas: 02

Componente Curricular: **ARTE**

Objeto do conhecimento: Processo de Criação.
Habilidade: **AF69AR05**
https://www.pinterest.co.uk/pin/289215607316379700/

1. Observe as letras que estão dentro da figura e faça o colorido de acordo com o que se pede.



ESTADO DE MATO GROSSO DO SUL
MUNICIPIO DE LADÁRIO
SECRETARIA MUNICIPAL DE EDUCAÇÃO
ESCOLA MUNICIPAL FAROL DO NORTE
DELIBERAÇÃO CME/LADÁRIO Nº38/2017 DE 13/11/2017
e-mail: emfaroldonorte@hotmail.com

Nome: _____ Turma: 2º B Turno: ( ) Mat. (x) Vesp.

Professor (a): Gregório Cosme de Arruda Gomes Ensino Fundamental I

Atividade referente ao dia: **08/06 e 13 /06 2020.** Quantidade de aulas: 02

Componente Curricular: **Ciências**

- **Pinte as cenas que demonstram cuidado com o meio ambiente.**



5 de Junho – dia mundial do meio ambiente

Blog conhecimentos e transformação.

ESTADO DE MATO GROSSO DO SUL
MUNICIPIO DE LADÁRIO
SECRETARIA MUNICIPAL DE EDUCAÇÃO
ESCOLA MUNICIPAL FAROL DO NORTE
DELIBERAÇÃO CME/LADÁRIO Nº38/2017 DE 13/11/2017
e-mail: emfaroldonorte@hotmail.com

Nome: _____ Turma: 2º B Turno: ( ) Mat. (x) Vesp.

Professor (a): Gregório Cosme de Arruda Gomes Ensino Fundamental I

Atividade referente ao dia : **08/06 e 13 /06 2020.** Quantidade de aula: 02

Componente Curricular: **Educação, Cidadania e Direitos Humanos.**

***Atividades para serem realizadas durante o isolamento social, no combate ao Novo Coronavírus (COVID-19)**

- **PINTE AS CRIANÇAS QUE DEMONSTRAM RESPEITO PELA NATUREZA.**



5 de Junho – dia mundial do meio ambiente

Blog conhecimentos e transformação.